محتويات الكتاب

الوحدة 1

التفاعلات الكيميائية

درس تمهيدى: نقاط هامة سبق دراستها فى الأعوام الماضية.

الدرس الأول: التفاعلات الكيميائية.

الدرس الثانى: سرعة التفاعلات الكيميائية.

الوحدة 2

الطاقة الكهربية و النشاط الإشعاعى.

الدرس الأول: الخصائص الفيزيائية للتيار الكهربى.

الدرس الثانى: التيار الكهربى و الأعمدة الكهربية.

الدرس الثالث: النشاط الإشعاعى و الطاقة النووية.

الوحدة 3

الجينات و الوراثة

الدرس: المبادئ الأساسية للوراثة.

الوحدة 4

الهرمونـــــات.

الدرس: التنظيم الهرمونى فى الإنسان.

احتياطات الأمان و السلامة عند إجراء الأنشطة فى المعمل

قبل البدء فى النشاط يلزم قراءة النشاط بدقة عدة مرات.

سلامة العين	يجب ارتداء نظارة الأمان عند الحاجة إليها
المواد الكيميائية	استخدم المواد الكيميائية بكميات محدودة وبعناية. وخاصةً عند التعامل مع الأحماض والقلويات
المواد القابلة للاشتعال	تجنب استخدام المواد القابلة للاشتعال كالكحول أو الكيروسين أو برمنجنات البوتاسيوم بالقرب من اللهب المشتعل
المواد السامة	لا تتذوق المواد الكيميائية إلا تحت إشراف معلمك وبشكل عام تجنب وضع اليد على العين أو الفم أو الأنف
الأبخرة	لا تشم الأبخرة إلا تحت إشراف معلمك
المواد المشعة	لا تعبث بحاويات المواد المشعة ولا تحاول فتحها
اللهب المشتعل	لا تترك اللهب مشتعلاً بعد انتهاء النشاط
الأجسام الحادة	استخدم الأدوات الحادة بحرص وتعامل بحرص مع الزجاج المكسور
الترمومترات	استخدم الترمومترات بعناية
النفايات	نظف المكان من أى مواد منسكبة عليه فوراً وتخلص من النفايات بطريقة آمنة تبعاً لتعليمات المعلم
الكهرباء	تأكد من صحة توصيل الدوائر الكهربية تحت إشراف معلمك ولا تحاول إصلاح الأعطال الكهربية بنفسك
غسل اليدين	اغسل يديك جيداً بالماء والصابون بعد أى نشاط تقوم به

بعد الانتهاء من النشاط تخزن المواد و الأدوات المستخدمة فى أماكنها المناسبة.

الوحدة 1

التفاعلات الكيميائية

درس تمهيدي: نقاط هامة سبق دراستها فى الأعوام الماضية

الدرس الأول: التفاعلات الكيميائية

الدرس الثانى: سرعة التفاعلات الكيميائية

أهداف الوحدة: بعد دراسة هذه الوحدة المتوقع من الطالب أن يكون قادراً على أن:

- يذكر أنواع التفاعلات الكيميائية.
- يميز بين تفاعلات الاتحاد الحرارى و الإتحاد الجيبوا و الإتحاد الزئبق.
- يذكر معادلة الأكسدة و اختزال و العامل المؤكسد و العامل المختزل.
- يذكر مفهوم سرعة التفاعل الكيميائى.
- يحدد العوامل التى تؤثر على سرعة التفاعل الكيميائى.
- يستنتج تأثير كل من إضافة المتفاعلات ، تركيز المتفاعلات ، درجة حرارة التفاعل.
- أهم من استخدام و أثرها على سرعة التفاعل الكيميائى.
- يفسر تحدث التفاعلات الكيميائية فى حياتنا.

مقدمة الوحدة:

- تتعدد صور التفاعلات الكيميائية فى حياتنا فمنها:
- العمليات الحيوية التى تتم داخل جسم الكائن الحى وتهدف إلى استمرار حياته وطول بقاء الأنواع.
- العمليات الصناعية التى تتم داخل المصانع وتهدف إلى إنتاج العديد من المواد التى نحتاجها فى حياتنا.
- عمليات تكوين الوقود المعدنى التى تتم فى باطن الأرض.
- وهى تتم على استمرار حياة الكائنات الحية و إنتاج الزراعى والصناعى وتكوين الوقود المعدنى فى باطن الأرض ما هى إلا تفاعلات كيميائية.

درس تمهيدي: نقاط هامة سبق دراستها فى الأعوام الماضية

الذرات و الأيونات

الذرات	الأيونات
تتميز بأنها: مستوى الطاقة الخارجى لذراتها - عادياً - على أكثر من ٤ إلكترونات	تتميز بأنها: مستوى الطاقة الخارجى لذراتها - عادياً - على أكثر من ٤ إلكترونات

سلوك ذراتها أثناء التفاعل الكيميائى

تميل ذرات الفلزات إلى فقد إلكترونات مستوى الطاقة الخارجى لها فتتحول إلى أيونات موجبة	تميل ذرات اللافلزات إلى اكتساب إلكترونات من ذرات عناصر أخرى (أو المشاركة بها) فتتحول إلى أيونات سالبة
الأيون الموجب: ذرة عنصر فلزى فقدت إلكترونات أو أكثر أثناء التفاعل الكيميائى.	الأيون السالب: ذرة عنصر لافلزى اكتسبت إلكترونات أو أكثر أثناء التفاعل الكيميائى.

تكافؤ عناصرها

يساوى عدد الإلكترونات التى فقدتها الذرة أثناء التفاعل الكيميائى	يساوى عدد الإلكترونات التى اكتسبتها أو شاركت بها الذرة أثناء التفاعل الكيميائى

أمثلة

الرموز الكيميائية لبعض العناصر وتكافؤاتها

العنصر	الرمز	التكافؤ	العنصر	الرمز	التكافؤ
الهيدروجين	H	أحادى	الأكسجين	O	ثنائى
الصوديوم	Na		الماغنسيوم	Mg	
الكلور	Cl		الكالسيوم	Ca	
البوتاسيوم	K		الخارصين (الزنك)	Zn	
الفضة	Ag		النحاس	Cu	
			الزئبق	Hg	
الألومنيوم	Al	ثلاثى	الحديد	Fe	ثنائى أحادى ثلاثى أحادى

الصيغ الكيميائية لبعض المجموعات الذرية وتكافؤاتها

• تكافؤ المجموعة الذرية يساوى عدد الشحنات التى تحملها، كما يتضح من الجدول التالى :

المجموعة الذرية	الهيدروكسيد	النترات	الميثرت	الكبريتات	الكربونات
الصيغة الكيميائية	$(OH)^-$	$(NO_3)^-$	$(NO_2)^-$	$(SO_4)^{-2}$	$(CO_3)^{-2}$
التكافؤ	أحادى			ثنائى	

خطوات كتابة الصيغ الكيميائية للمركبات

1. يكتب اسم المركب باللغة العربية.
2. يكتب أسفل كل عنصر (أو مجموعة ذرية) رمزه الكيميائى (أو صيغتها الكيميائية).
3. يكتب التكافؤ أسفل الرمز (أو الصيغة الكيميائية).
4. يتم تبديل التكافؤات مع مراعاة :

عدم كتابة الرقم الدال على التكافؤ الأحادى	وضع المجموعة الذرية داخل قوسين عند كتابة رقم التكافؤ أسفلها	اختصار الأرقام الدالة على التكافؤات إلى أبسط صورة كلما أمكن ذلك

تطبيقات

كلوريد الفضة
Ag Cl
① ①
AgCl

هيدروكسيد النحاس
Cu (OH)
② ①
$Cu(OH)_2$

أكسيد الزئبق
Hg O
② ②
HgO

أداء ذاتى

اكتب الصيغة الكيميائية لكل من المركبات الآتية :

المركب الكيميائى	الصيغة الكيميائية	المركب الكيميائى	الصيغة الكيميائية
أكسيد النحاس	.....	نترات الفضة	.....
كبريتات النحاس	.....	كلوريد الألومنيوم	.....
هيدروكسيد الصوديوم	.....	كربونات الصوديوم	.....

أنواع المركبات الكيميائية وأمثلة عليها

نوع المركب الكيميائى	طريقة كتابة صيغته الكيميائية	أمثلة	
حمض	تبدأ بالهيدروجين H وتنتهى بعنصر لافلزى ماعدا الأكسجين أو بمجموعة ذرية سالبة الشحنة ماعدا مجموعة الهيدروكسيد $(OH)^-$	حمض الهيدروكلوريك حمض الكبريتيك	HCl H_2SO_4
قاعدة	تبدأ بعنصر فلزى أو مجموعة ذرية موجبة $(NH_4)^+$ وتنتهى بمجموعة الهيدروكسيد $(OH)^-$	هيدروكسيد الصوديوم هيدروكسيد النحاس	$NaOH$ $Cu(OH)_2$
أكسيد	تبدأ بعنصر فلزى أو لافلزى وتنتهى بالأكسجين O	أكسيد الزئبق أكسيد النحاس ثانى أكسيد الكربون ثالث أكسيد الكبريت	HgO CuO CO_2 SO_3
ملح	تبدأ بعنصر فلزى أو مجموعة ذرية موجبة $(NH_4)^+$ وتنتهى بعنصر لافلزى ماعدا الأكسجين أو بمجموعة ذرية سالبة الشحنة ماعدا مجموعة الهيدروكسيد $(OH)^-$	كلوريد الصوديوم نترات الصوديوم كبريتات الماغنسيوم	$NaCl$ $NaNO_3$ $MgSO_4$

الدرس الأول

التفاعلات الكيميائية

عناصر الدرس :

- أنواع التفاعلات الكيميائية
- تفاعلات الإحلال الحرارى
- تفاعلات الإحلال
- تفاعلات الأكسدة و الاختزال

أهداف الدرس

من نهاية الدرس يجب أن يكون التلميذ قادرا على أن :

١ يعدد أنواع التفاعلات الكيميائية
٢ يقارن بين تفاعلات الإحلال الحرارى و الإحلال البسيط و الإحلال المزدوج
٣ يذكر أمثلة على كل نوع من أنواع التفاعلات الكيميائية
٤ يذكر بعض أمواد التى تحلل جزيئاتها بالحرارة
٥ يرتب العناصر الفلزية تنازليا حسب درجة نشاطها الكيميائى
٦ يدرج بعض تفاعلات الإحلال المزدوج بين محاليل الأملاح
٧ يعبر عن التفاعلات الكيميائية بمعادلات رمزية موزونة
٨ يكتشف من بعض التجارب العامة عن التفاعلات الكيميائية
٩ يقارن بين عمليتى الأكسدة و الاختزال
١٠ يحدد العامل المؤكسد و العامل المختزل فى بعض التفاعلات الكيميائية
١١ يكتسب مهارة إجراء بعض التفاعلات الكيميائية فى المعمل
١٢ يراعى احتياطات الأمان والسلامة عند إجراء الأنشطة فى المعمل
١٣ يقدر أهمية التفاعلات الكيميائية فى حياتنا

أهم المفاهيم

التفاعل الكيميائى
تفاعلات الإحلال الحرارى
الوسادة الهوائية
متسلسلة النشاط الكيميائى
تفاعلات الإحلال البسيط
تفاعلات الإحلال المزدوج
تفاعل التعادل
العامل المختزل
عملية الأكسدة
العامل المؤكسد
عملية الاختزال

القيمة الحياتية
الصحية
أهمية الدخان الناتج
فى تفاعل الصوديوم

التفاعلات الكيميائية

★ التفاعلات الكيميائية لها أهمية كبرى فى حياتنا. كما يتضح من الأمثلة التالية :

١

احتراق البنزين
فى محرك السيارة
لتوليد الطاقة اللازمة لحركتها

٢

تفاعل الماء مع
غاز ثانى أكسيد الكربون
فى عملية البناء الضوئى
ليقوم النبات بإنتاج غذائه

٣

الألياف الصناعية
و الأدوية و الأصبغة
و غيرها من المواد التى
نحتاجها فى حياتنا
ما هى إلا نواتج لبعض
التفاعلات الكيميائية

التفاعل الكيميائى

كسر الروابط الموجودة فى جزيئات المواد المتفاعلة وتكوين روابط جديدة فى جزيئات المواد الناتجة من التفاعل.

أنواع التفاعلات الكيميائية

• تختلف التفاعلات الكيميائية تبعًا للعمليات التى تتضمنها :

- **أولًا** تفاعلات الانحلال الحرارى
  - تفاعلات الانحلال البسيط
  - تفاعلات الانحلال المزدوج
- **ثانيًا** تفاعلات الإحلال
  - حسب المفهوم التقليدى
  - حسب المفهوم الإلكترونى (الحديث)
- **ثالثًا** تفاعلات الأكسدة والاختزال

أولًا تفاعلات الانحلال الحرارى

تفاعلات الانحلال الحرارى

تفاعلات كيميائية يتم فيها تفكك جزيئات بعض المركبات الكيميائية بالحرارة إلى عناصرها الأولية أو إلى مركبات أبسط منها.

تمثيل تفاعلات الانحلال الحرارى

أنواع تفاعلات الانحلال الحرارى

- ١ انحلال بعض أكاسيد الفلزات
- ٢ انحلال بعض هيدروكسيدات الفلزات
- ٣ انحلال معظم كربونات الفلزات
- ٤ انحلال معظم كبريتات الفلزات
- ٥ انحلال بعض نترات الفلزات

• تختلف نواتج تفاعلات الانحلال الحرارى تبعًا لنوع المركب المستخدم فى التفاعل، **كما يلى :**

١ الانحلال الحرارى لبعض أكاسيد الفلزات

• تنحل بعض أكاسيد الفلزات بالحرارة إلى الفلز و يتصاعد غاز الأكسجين.

أكسيد الفلز $\xrightarrow{\Delta}$ الفلز + غاز الأكسجين

نشاط 1 الانحلال الحرارى لأكسيد الزئبق

الخطوات

(١) سخن باستخدام لهب بنزن قليلًا من أكسيد الزئبق الأحمر فى أنبوبة اختبار.

(٢) قرب عود ثقاب مشتعل من فوهة الأنبوبة.

الملاحظة

• تكوُّن مادة فضية اللون.

• يزداد توهج عود الثقاب المشتعل.



انحلال أكسيد الزئبق

الاستنتاج

ينحل أكسيد الزئبق الأحمر بالحرارة إلى زئبق (مادة فضية اللون) ويتصاعد غاز الأكسجين الذى يُزيد توهج عود ثقاب مشتعل.

معادلة التفاعل

$$\underset{\text{أكسيد الزئبق (أحمر اللون)}}{2HgO} \xrightarrow{\Delta} \underset{\text{زئبق (فضى اللون)}}{2Hg} + \underset{\text{أكسجين}}{O_2\uparrow}$$

؟ ما النتائج المترتبة على تسخين أكسيد الزئبق الأحمر ؟ **مع كتابة** المعادلة الرمزية الموزونة.

٢ الانحلال الحرارى لبعض هيدروكسيدات الفلزات

• تنحل بعض هيدروكسيدات الفلزات بالحرارة إلى أكسيد الفلز ويتصاعد بخار الماء.

هيدروكسيد الفلز $\xrightarrow{\Delta}$ أكسيد الفلز + بخار الماء

نشاط 2 الانحلال الحرارى لهيدروكسيد النحاس

الخطوات

سخن باستخدام لهب بنزن قليلًا من هيدروكسيد النحاس الأزرق فى أنبوبة اختبار.

الملاحظة

تكوّن مادة سوداء اللون.

الاستنتاج

ينحل هيدروكسيد النحاس الأزرق بالحرارة إلى أكسيد النحاس الأسود ويتصاعد بخار ماء.

معادلة التفاعل

$$\underset{\text{هيدروكسيد النحاس (أزرق اللون)}}{Cu(OH)_2} \xrightarrow{\Delta} \underset{\text{أكسيد النحاس (أسود اللون)}}{CuO} + \underset{\text{بخار الماء}}{H_2O\uparrow}$$

؟ وضح بالمعادلة الرمزية الموزونة أثر الحرارة على هيدروكسيد النحاس الأزرق.

٣ الانحلال الحرارى لمعظم كربونات الفلزات

• تنحل معظم كربونات الفلزات بالحرارة إلى أكسيد الفلز ويتصاعد غاز ثانى أكسيد الكربون.

كربونات الفلز $\xrightarrow{\Delta}$ أكسيد الفلز + غاز ثانى أكسيد الكربون

نشاط 3 الانحلال الحرارى لكربونات النحاس

الخطوات

(١) سخن باستخدام لهب بنزن قليلًا من كربونات النحاس الخضراء فى أنبوبة اختبار.

(٢) مرر الغاز الناتج فى محلول ماء الجير الرائق لمدة قصيرة.

الملاحظة

• تكوّن مادة سوداء اللون.

• تعكر محلول ماء الجير الرائق.

انحلال كربونات النحاس

الاستنتاج

تنحل كربونات النحاس الخضراء بالحرارة إلى أكسيد النحاس الأسود ويتصاعد غاز ثانى أكسيد الكربون الذى يعكر ماء الجير الرائق.

معادلة التفاعل

$$\underset{\text{كربونات النحاس (خضراء اللون)}}{CuCO_3} \xrightarrow{\Delta} \underset{\text{أكسيد النحاس (أسود اللون)}}{CuO} + \underset{\text{ثانى أكسيد الكربون}}{CO_2\uparrow}$$

؟ **كيف يمكنك** الكشف عن غاز ثانى أكسيد الكربون ؟

٤ الانحلال الحرارى لمعظم كبريتات الفلزات

* تنحل معظم كبريتات الفلزات بالحرارة إلى أكسيد الفلز ويتصاعد غاز ثالث أكسيد الكبريت.

كبريتات الفلز $\xrightarrow{\Delta}$ أكسيد الفلز + غاز ثالث أكسيد الكبريت

نشاط 4 الانحلال الحرارى لكبريتات النحاس

الخطوات

سخن باستخدام لهب بنزن قليلًا من كبريتات النحاس الزرقاء فى أنبوبة اختبار.

ملح كبريتات النحاس الزرقاء

الملاحظة

تكوُّن مادة سوداء اللون.

الاستنتاج

تنحل كبريتات النحاس الزرقاء بالحرارة إلى أكسيد النحاس الأسود ويتصاعد غاز ثالث أكسيد الكبريت.

علل : ظهور لون أسود عند تسخين كبريتات النحاس الزرقاء.

معادلة التفاعل

$$\underset{\text{كبريتات النحاس (زرقاء اللون)}}{CuSO_4} \xrightarrow{\Delta} \underset{\text{أكسيد النحاس (أسود اللون)}}{CuO} + \underset{\text{ثالث أكسيد الكبريت}}{SO_3\uparrow}$$

٥ الانحلال الحرارى لبعض نترات الفلزات

* تنحل بعض نترات الفلزات بالحرارة إلى نيتريت الفلز ويتصاعد غاز الأكسجين.

نترات الفلز $\xrightarrow{\Delta}$ نيتريت الفلز + غاز الأكسجين

نشاط 5 الانحلال الحرارى لنترات الصوديوم

الخطوات

(١) سخن باستخدام لهب بنزن قليلًا من نترات الصوديوم البيضاء فى أنبوبة اختبار.

(٢) قرب عود ثقاب مشتعل من فوهة الأنبوبة.

الملاحظة

* تكوُّن مادة لونها أبيض مصفر.
* يزداد توهج عود الثقاب المشتعل.

الاستنتاج

تنحل نترات الصوديوم البيضاء بالحرارة إلى نيتريت الصوديوم الأبيض المصفر ويتصاعد غاز الأكسجين الذى يزيد توهج عود ثقاب مشتعل.

معادلة التفاعل

$$\underset{\text{نترات الصوديوم (بيضاء اللون)}}{2NaNO_3} \xrightarrow{\Delta} \underset{\text{نيتريت الصوديوم (أبيض مصفر)}}{2NaNO_2} + \underset{\text{أكسجين}}{O_2\uparrow}$$

ما اسم الغاز المتصاعد عند انحلال نترات الصوديوم ؟
وكيف يمكنك الكشف عنه ؟

أداء ذاتى أكمل الجدول التالى بما يناسبه :

المادة المتفاعلة		المواد الناتجة	مثـــال
أكسيد الفلز	حرارة	الفلز + غاز الأكسجين	..... $\xrightarrow{\Delta}$ ..... + $O_2\uparrow$ (أكسيد الزنبق (..... اللون) ، زئبق (فضى اللون) ، .....)
هيدروكسيد الفلز	حرارة	أكسيد الفلز + ...	$Cu(OH)_2 \xrightarrow{\Delta}$ ..... + $H_2O\uparrow$ (..... (أزرق اللون) ، أكسيد النحاس (..... اللون) ، .....)
..... الفلز	حرارة	أكسيد الفلز + غاز ثانى أكسيد الكربون	..... $\xrightarrow{\Delta}$ ..... + ... $\uparrow$ (كربونات النحاس (..... اللون) ، ..... (أسود اللون) ، .....)
كبريتات الفلز	حرارة	أكسيد الفلز + ...	..... $\xrightarrow{\Delta}$ CuO + $SO_3\uparrow$ (..... (..... اللون) ، أكسيد النحاس (أسود اللون) ، .....)
نترات الفلز	حرارة	..... + غاز الأكسجين	..... $\xrightarrow{\Delta}$ $2NaNO_2$ + ... $\uparrow$ (..... (..... اللون) ، (.....) ، .....)

العلم و التكنولوجيا و المجتمع الوسادة الهوائية (Air bag)


الوسادة الهوائية

الوسادة الهوائية

كيس قابل للانتفاخ مطوى داخل عجلة القيادة فى السيارات الحديثة.

الأهمية

تعتبر من أهم وسائل الأمان فى السيارات فى المواقف الطارئة ... **علل؟** لأنها تعمل على حماية السائق عند حدوث اصطدام أو انخفاض سريع ومفاجئ فى سرعة السيارة.

فكرة العمل

- عند حدوث اصطدام أو انخفاض سريع ومفاجئ فى سرعة السيارة ... **ما النتائج المترتبة على ذلك؟**
- يتولد شرر كهربى يعمل على انحلال مادة **أزيد الصوديوم** NaN_3 – الموجودة بالوسادة – إلى صوديوم ويتصاعد غاز النيتروجين، **تبعًا للمعادلة التالية :**

$$\underset{\text{أزيد الصوديوم}}{2NaN_3} \xrightarrow{\text{شرر كهربى}} \underset{\text{صوديوم}}{2Na} + \underset{\text{غاز النيتروجين}}{3N_2\uparrow}$$

- فتمتلئ الوسادة **بغاز النيتروجين** الناتج بسرعة فائقة (خلال ٤٠ مللى ثانية)، وتفرغ مباشرةً بعد تصادمها مع السائق لتؤمن الرؤية الواضحة والحركة الصحيحة له.

ثانيًا تفاعلات الإحلال

★ فى تفاعلات الإحلال يتم إحلال عنصر نشط «أكثر فاعلية» محل آخر أقل منه نشاطًا «أقل فاعلية» فى مركب آخر.

★ وترتب الفلزات حسب درجة نشاطها الكيميائى فيما يعرف **بمتسلسلة النشاط الكيميائى** (السلسلة الكهروكيميائية).

متسلسلة النشاط الكيميائى

ترتيب العناصر الفلزية ترتيبًا تنازليًا حسب درجة نشاطها الكيميائى.

★ **و تقسم تفاعلات الإحلال إلى نوعين،**

هما :
1. تفاعلات **الإحلال البسيط**
2. تفاعلات **الإحلال المزدوج**

متسلسلة النشاط الكيميائى (تقل درجة النشاط الكيميائى ↓)

فلزات تحل محل هيدروجين أى من الماء أو الحمض المخفف	البوتاسيوم	K
	الصوديوم	Na
	الباريوم	Ba
	الكالسيوم	Ca
	الماغنسيوم	Mg
	الألومنيوم	Al
	الخارصين	Zn
	الحديد	Fe
	القصدير	Sn
	الرصاص	Pb
	الهيدروجين	H
فلزات لا تحل محل هيدروجين الماء أو الحمض المخفف	النحاس	Cu
	الزئبق	Hg
	الفضة	Ag
	البلاتين	Pt
	الذهب	Au

١ تفاعلات الإحلال البسيط

تفاعلات الإحلال البسيط

تفاعلات كيميائية يتم فيها إحلال عنصر نشط محل آخر أقل منه نشاطًا فى محلول أحد مركباته.

تمثيل تفاعلات الإحلال البسيط

أنواع تفاعلات الإحلال البسيط

- أ إحلال فلز محل هيدروجين الماء
- ب إحلال فلز محل هيدروجين الحمض المخفف
- ج إحلال فلز محل فلز آخر فى محلول أحد أملاحه

1 إحلال فلز محل هيدروجين الماء

• تحل الفلزات التى تسبق الهيدروجين فى متسلسلة النشاط الكيميائى محل هيدروجين الماء مكونة هيدروكسيد الفلز ويتصاعد غاز الهيدروجين.

فلز نشط + ماء ⟵ هيدروكسيد الفلز + غاز الهيدروجين

نشاط 6 إحلال فلز الصوديوم محل هيدروجين الماء

الخطوات

(١) ضع قطعة صغيرة جدًا من الصوديوم بحرص – باستخدام ماسك – فى حوض به ماء.

(٢) المس الحوض بحرص بعد انتهاء التفاعل.

الملاحظة

• حدوث اشتعال مصحوب بفرقعة.

• الشعور بسخونة الحوض.

الاستنتاج

يحل الصوديوم محل هيدروجين الماء ويتكون هيدروكسيد الصوديوم ويتصاعد غاز الهيدروجين الذى يشتعل بفرقعة ويكون التفاعل مصحوب بانطلاق حرارة.

تفاعل الصوديوم مع الماء

معادلة التفاعل

$$2Na + 2H_2O \longrightarrow 2NaOH + H_2\uparrow + Heat$$

صوديوم، ماء، هيدروكسيد الصوديوم، هيدروجين، حرارة

للإتقان فقط

$$2Na + 2HOH \longrightarrow 2NaOH + H_2\uparrow + Heat$$

احتياط أمان

يراعى استخدام قطعة صغيرة جدًا من الصوديوم (المحفوظ تحت سطح الكيروسين) عند إجراء تفاعله مع الماء فى المعمل ... علل؟

لأن التفاعل يكون مصحوبًا باشتعال مع حدوث فرقعة شديدة.

2 إحلال فلز محل هيدروجين الحمض المخفف

• تحل الفلزات التى تسبق الهيدروجين فى متسلسلة النشاط الكيميائى محله فى الأحماض المخففة مكونة ملح الحمض ويتصاعد غاز الهيدروجين.

فلز نشط + حمض مخفف ⟵ ملح الحمض + غاز الهيدروجين

• الفلزات التى تلى الهيدروجين فى متسلسلة النشاط الكيميائى، لا تتفاعل مع الأحماض المخففة

نشاط 7 إحلال بعض الفلزات محل هيدروجين الحمض المخفف

الخطوات

(١) ضع كميات متساوية من حمض الهيدروكلوريك المخفف فى ثلاث أنابيب اختبار.

(٢) أضف إلى :

• الأنبوبة (١) شريط من الخارصين.

• الأنبوبة (٢) شريط من الألومنيوم.

• الأنبوبة (٣) شريط من النحاس.

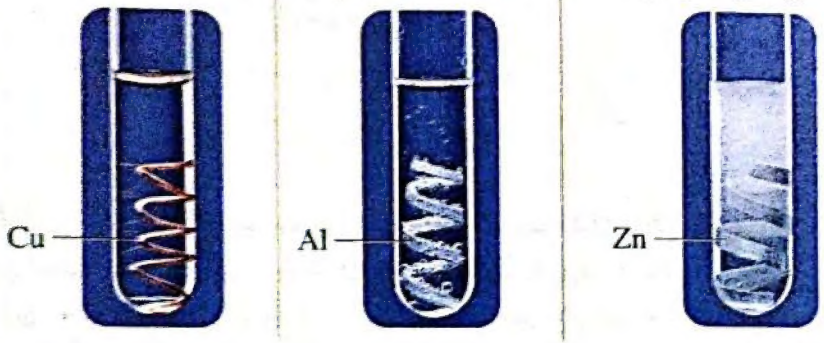

تفاعل بعض الفلزات مع حمض الهيدروكلوريك

الملاحظة

• تصاعد فقاعات غازية : – فى الحال عند إضافة شريط الخارصين.	– بعد فترة عند إضافة شريط الألومنيوم.	• عدم تصاعد فقاعات غازية عند إضافة شريط النحاس.

الاستنتاج

- يحل كل من الخارصين والألومنيوم محل هيدروجين الحمض المخفف ويتكون ملح الحمض ويتصاعد غاز الهيدروجين ... **علل؟**

لأن كل من الخارصين والألومنيوم يسبقا الهيدروجين فى متسلسلة النشاط الكيميائى، حيث إن كل منهما أكثر منه نشاطًا، فيحلا محله.

- لا يحل النحاس محل هيدروجين الحمض المخفف ... **علل؟**

لأن النحاس يلى الهيدروجين فى متسلسلة النشاط الكيميائى، حيث إنه أقل منه نشاطًا، فلا يحل محله.

معادلات التفاعلات

$$Zn + 2HCl \xrightarrow{\text{مخفف}} ZnCl_2 + H_2\uparrow$$

خارصين — حمض الهيدروكلوريك — كلوريد الخارصين — هيدروجين

$$2Al + 6HCl \xrightarrow{\text{مخفف}} 2AlCl_3 + 3H_2\uparrow$$

الألومنيوم — حمض الهيدروكلوريك — كلوريد الألومنيوم — هيدروجين

$$Cu + HCl \xrightarrow{\text{مخفف}} \text{لا يحدث تفاعل}$$

نحاس — حمض الهيدروكلوريك

علل؟ رغم أن الألومنيوم يسبق الخارصين فى متسلسلة النشاط الكيميائى، إلا أنه يتأخر عنه عمليًا فى التفاعل مع حمض الهيدروكلوريك المخفف.

لوجود طبقة من أكسيد الألومنيوم (Al_2O_3) على سطح فلز الألومنيوم تعزله عن الحمض، وتأخذ هذه الطبقة فترة حتى تتآكل (تنفصل) مما يؤخر بدء حدوث التفاعل.

كيف يمكن الكشف عن؟

غاز الهيدروجين المتصاعد نتيجة إحلال أحد الفلزات محل هيدروجين الحمض المخفف.

بتقريب عود ثقاب مشتعل إليه، يشتعل بفرقعة.

٥ إحلال فلز محل فلز آخر فى محلول أحد أملاحه

تحل بعض الفلزات محل الفلزات التى تليها - فى متسلسلة النشاط الكيميائى - فى محاليل أحد أملاحها

فلز A + محلول ملح الفلز B ⟵ محلول ملح الفلز A + الفلز B

نشاط 8 إحلال الماغنسيوم محل النحاس فى محلول كبريتات النحاس

الخطوات

ضع شريط ماغنسيوم فى أنبوبة اختبار بها محلول كبريتات النحاس الأزرق.

الملاحظة

زوال لون محلول كبريتات النحاس الأزرق وتكوُّن راسب أحمر.

الاستنتاج

يحل الماغنسيوم محل النحاس - فى محلول كبريتات النحاس الأزرق - مكونًا محلول كبريتات الماغنسيوم عديم اللون ويترسب النحاس الأحمر.

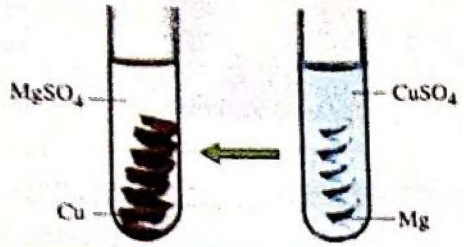

تفاعل الماغنسيوم مع محلول كبريتات النحاس

معادلة التفاعل

$$Mg + CuSO_4 \longrightarrow MgSO_4 + Cu\downarrow$$

ماغنسيوم — كبريتات النحاس (زرقاء اللون) — كبريتات الماغنسيوم (عديم اللون) — نحاس (أحمر اللون)

علل؟

(١) يمكن للماغنسيوم أن يحل محل النحاس فى محاليل أملاحه، بينما لا يحدث العكس.

لأن الماغنسيوم يسبق النحاس فى متسلسلة النشاط الكيميائى حيث إنه أكثر منه نشاطًا فيحل محله فى محاليل أملاحه.

$$Mg + CuSO_4 \longrightarrow MgSO_4 + Cu\downarrow$$

(٢) عدم حفظ محلول نترات الفضة فى أوانى من الألومنيوم.

لأن الألومنيوم يسبق الفضة فى متسلسلة النشاط الكيميائى حيث إنه أكثر منها نشاطًا فيحل محلها فى محلول نترات الفضة مما يؤدى إلى تآكل أوانى الحفظ.

ملحوظة

كلما ازداد التباعد بين الفلزات فى متسلسلة النشاط الكيميائى كلما كان الإحلال أسرع

تطبيق

يتفاعل البوتاسيوم K مع الماء لحظيًا، بينما يتفاعل الماغنسيوم Mg ببطء شديد مع الماء البارد ... علل ؟

لأن التباعد بين البوتاسيوم K و الهيدروجين H أكبر من التباعد بين الماغنسيوم Mg و الهيدروجين H فى متسلسلة النشاط الكيميائى

تفاعل البوتاسيوم مع الماء

تفاعل الماغنسيوم مع الماء

أداء ذاتى

فى ضوء فهمك لتفاعلات الإحلال البسيط :

(١) اكتب رموز العناصر الآتية حسب ترتيبها فى متسلسلة النشاط الكيميائى المقابلة :

K	H	Zn	Mg	Al	Fe
Ba	Pb	Ca	Au	Cu	Na

.....
.....
.....
.....
.....
.....
.....
.....
.....
H
.....
.....

(٢) ضع علامة (✓) أو (✗) أمام كل من العبارات الآتية :

١- يحل الخارصين محل النحاس فى محاليل أملاحه. ( )

٢- يحل الذهب محل الرصاص فى محاليل أملاحه. ( )

٣- يحل الألومنيوم محل هيدروجين حمض الهيدروكلوريك المخفف. ( )

٤- يحل الماغنسيوم محل هيدروجين الماء. ( )

تدريب 1

انظر كراسة الواجب

التفاعلات الكيميائية إلى تفاعلات الإحلال البسيط

اختبر فهمك

١ اكتب المصطلح العلمى الدال على كل عبارة من العبارات الآتية :

(١) كسر الروابط الموجودة فى جزيئات المواد المتفاعلة وتكوين روابط جديدة فى جزيئات المواد الناتجة من التفاعل. (أسوان ٢٢) (.....)

(٢) ترتيب العناصر الفلزية ترتيبًا تنازليًا حسب درجة نشاطها الكيميائى. (الإسكندرية ٢١) (.....)

٢ أكمل ما يأتى :

(١) عند تسخين أكسيد الزئبق الأحمر يتكون ..... فى أنبوبة الاختبار ولونه ..... (السويس ١٧)

(٢) ينحل ملح نترات الصوديوم بالحرارة إلى ..... و ..... (أسوان ١٥)

٣ اختر الإجابة الصحيحة مما بين الإجابات المعطاة :

(١) عند حدوث انخفاض سريع ومفاجئ فى سرعة السيارة تنحل مادة أزيد الصوديوم ويتصاعد غاز ..... (الإسماعيلية ٢١)

(أ) N_2 (ب) H_2 (جـ) O_2 (د) CO_2

(٢) عند إحلال الماغنسيوم محل النحاس فى محاليل أحد أملاحه يتكون راسب ..... (الغربية ٢١)

(أ) أسود. (ب) أخضر. (جـ) أحمر. (د) أزرق.

٤ صوب ما تحته خط :

(١) عند تسخين هيدروكسيد النحاس، فإنه ينحل إلى نحاس و هيدروجين. (شمال سيناء ١٩) (.....)

(٢) تحل الفلزات محل أكسجين الماء وينتج هيدروكسيد الفلز. (الفيوم ١٩) (.....)

(٣) عند إضافة حمض الهيدروكلوريك المخفف إلى الخارصين يتكون ملح و ماء. (الجيزة ١٥) (.....)

٥ ما النتائج المترتبة على كل مما يأتى :

(١) تسخين كمية من كبريتات النحاس الزرقاء، مع كتابة المعادلة الرمزية الموزونة. (السويس ٢١)

.....

.....

(٢) إضافة حمض الهيدروكلوريك إلى خراطة النحاس، مع ذكر السبب. (الإسكندرية ١٦)

.....

٦ من الشكل المقابل :

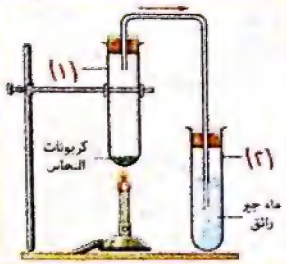

(١) ما نوع التفاعل الحادث فى الأنبوبة (١) ؟

.....

(٢) ما اسم الغاز المتصاعد من الأنبوبة (١) ؟ وماذا يحدث عند إمراره فى الأنبوبة (٢) ؟

..... / .....

٢ تفاعلات الإحلال المزدوج

تفاعلات الإحلال المزدوج

تفاعلات كيميائية يتم فيها عملية تبادل مزدوج بين شقى (أيونى) مركبين مختلفين، لتكوين مركبين جديدين.

$$AB + CD \Longrightarrow AD + CB$$

تمثيل تفاعلات الإحلال المزدوج

أنواع تفاعلات الإحلال المزدوج

1. حمض مع قلوى
2. حمض مع ملح
3. محلول ملح مع محلول ملح آخر

1 تفاعل حمض مع قلوى

- يعرف تفاعل الأحماض مع القلويات باسم **تفاعل التعادل**.

تفاعل التعادل

تفاعل حمض مع قلوى لتكوين ملح وماء.

- **ويتم تبعًا للمعادلة التالية :**

حمض + قلوى ⟵ ملح + ماء

تطبيق تفاعل حمض الهيدروكلوريك مع هيدروكسيد الصوديوم.

يتفاعل حمض الهيدروكلوريك مع هيدروكسيد الصوديوم مكونًا ملح كلوريد الصوديوم وماء.

$$\underset{\text{هيدروكسيد الصوديوم}}{NaOH} + \underset{\text{حمض الهيدروكلوريك}}{HCl} \longrightarrow \underset{\text{كلوريد الصوديوم}}{NaCl} + \underset{\text{ماء}}{H_2O}$$

ما أثر؟ تسخين المحلول الناتج من تفاعل هيدروكسيد الصوديوم مع حمض الهيدروكلوريك.

يتبخر الماء ويتبقى ملح كلوريد الصوديوم (ملح الطعام).

ب تفاعل حمض مع ملح

- بتوقف ناتج تفاعل حمض مع ملح على نوع كل من الحمض والملح المتفاعلين.

نشاط 9 تفاعل حمض الهيدروكلوريك المخفف مع كربونات الصوديوم

الخطوات

(١) ضع كمية من حمض الهيدروكلوريك المخفف فى دورق زجاجى.
(٢) ضع كمية من ملح كربونات الصوديوم فى بالون.
(٣) ادخِل فوهة الدورق فى فوهة البالون.
(٤) اقلب البالون ليسقط الملح فى الحمض ... **ماذا نلاحظ؟**
(٥) أغلق بحرص فوهة البالون، ثم ارفعه عن الدورق.
(٦) مرر الغاز المتجمع فى البالون فى محلول ماء الجير الرائق لفترة قصيرة ... **ماذا نلاحظ؟**

الملاحظة

- حدوث فوران وتصاعد فقاعات غازية، تعمل على انتفاخ البالون.
- تعكر محلول ماء الجير الرائق.

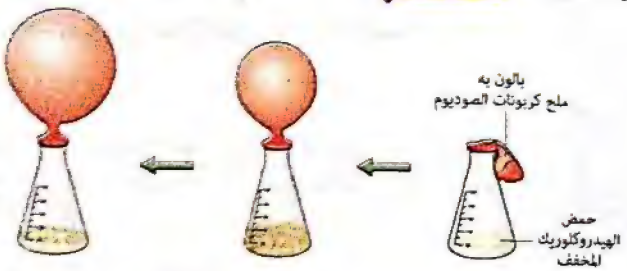

الاستنتاج

- يتفاعل حمض الهيدروكلوريك المخفف مع ملح كربونات الصوديوم مكونًا كلوريد الصوديوم وماء وغاز ثانى أكسيد الكربون الذى يعكر ماء الجير الرائق.



يتعكر ماء الجير الرائق عند إمرار غاز CO_2 فيه

معادلة التفاعل

$$\underset{\text{كربونات الصوديوم}}{Na_2CO_3} + \underset{\text{حمض الهيدروكلوريك}}{2HCl} \xrightarrow{\text{مخفف}} \underset{\text{كلوريد الصوديوم}}{2NaCl} + \underset{\text{ماء}}{H_2O} + \underset{\text{ثانى أكسيد الكربون}}{CO_2\uparrow}$$

للإيضاح فقط

- عند تفاعل حمض الهيدروكلوريك المخفف مع ملح كربونات الصوديوم يتكون كلوريد الصوديوم وحمض الكربونيك وهو حمض ضعيف ينحل إلى ماء وغاز ثانى أكسيد الكربون.

$$① \; Na_2CO_3 + 2HCl \xrightarrow{\text{مخفف}} 2NaCl + H_2CO_3$$

$$② \; H_2CO_3 \longrightarrow H_2O + CO_2$$

- بجمع المعادلتين ① ، ②

$$Na_2CO_3 + 2HCl \xrightarrow{\text{مخفف}} 2NaCl + H_2O + CO_2$$

ج تفاعل محلول ملح مع محلول ملح آخر

- تفاعل محاليل الأملاح مع بعضها يكون مصحوبًا بتكوين راسب (ملح لا يذوب فى الماء).

تطبيق تفاعل محلول كلوريد الصوديوم مع محلول نترات الفضة.

- يتفاعل محلول كلوريد الصوديوم مع محلول نترات الفضة مكونًا محلول نترات الصوديوم وراسب أبيض من كلوريد الفضة.

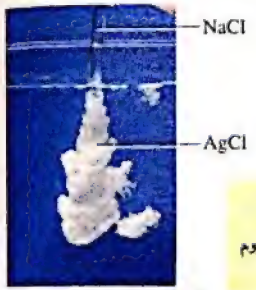

تكون راسب أبيض من AgCl

- معادلة التفاعل :

$$\underset{\text{كلوريد الصوديوم}}{NaCl} + \underset{\text{نترات الفضة}}{AgNO_3} \longrightarrow \underset{\text{نترات الصوديوم}}{NaNO_3} + \underset{\text{كلوريد الفضة (راسب أبيض)}}{AgCl\downarrow}$$

علل؟ تكوُّن راسب أبيض عند إضافة محلول نترات الفضة إلى محلول كلوريد الصوديوم.

لتكون ملح كلوريد الفضة الذى لا يذوب فى الماء.

$$NaCl + AgNO_3 \longrightarrow NaNO_3 + AgCl\downarrow$$

ثالثًا تفاعلات الأكسدة و الاختزال

الأكسدة و الاختزال حسب :

① المفهوم التقليدى ② المفهوم الإلكترونى

١ الأكسدة و الاختزال حسب المفهوم التقليدى

* يمكن فهم عمليتى الأكسدة والاختزال حسب المفهوم التقليدى بدراسة التفاعل الكيميائى التالى :

تفاعل أكسيد النحاس الساخن مع غاز الهيدروجين الجاف

اختزال أكسيد النحاس بواسطة غاز الهيدروجين

عند إمرار غاز الهيدروجين على أكسيد النحاس الأسود الساخن فإن الهيدروجين ينتزع الأكسجين من أكسيد النحاس مكونًا بخار ماء ويتحول أكسيد النحاس الأسود إلى عنصر النحاس الأحمر.

ويعبر عن هذا التفاعل بالمعادلة الآتية:

عملية أكسدة

عامل مؤكسد

$$\underset{\text{عامل مختزل}}{H_2} + CuO \xrightarrow{\Delta} H_2O + Cu$$

عملية اختزال

ويتضح من المعادلة أن :

الهيدروجين حدثت له عملية **أكسدة**... علل؟
- لاتحاده بالأكسجين متحولًا إلى بخار ماء

أكسيد النحاس حدثت له عملية **اختزال** ... علل؟
- لانتزاع الأكسجين منه متحولًا إلى نحاس أحمر

وبذلك

- يعتبر الهيدروجين **عامل مختزل**... علل؟
- لأنه اختزل أكسيد النحاس إلى النحاس (انتزع الأكسجين من أكسيد النحاس)

- يعتبر أكسيد النحاس **عامل مؤكسد**... علل؟
- لأنه أكسد الهيدروجين (منح الأكسجين للهيدروجين)

ما النتائج المترتبة على ؟

إمرار غاز الهيدروجين على أكسيد النحاس الأسود الساخن.

يتأكسد الهيدروجين إلى بخار ماء ويُختزل أكسيد النحاس الأسود إلى النحاس الأحمر.

$$H_2 + CuO \xrightarrow{\Delta} H_2O + Cu$$

* **مما سبق يمكن استنتاج المصطلحات الآتية حسب المفهوم التقليدى :**

العامل المختزل
المادة التى تنتزع الأكسجين أو تمنح الهيدروجين أثناء التفاعل الكيميائى.

العامل المؤكسد
المادة التى تمنح الأكسجين أو تنتزع الهيدروجين أثناء التفاعل الكيميائى.

تحدث له

تحدث له

عملية الأكسدة
عملية كيميائية تؤدى إلى زيادة نسبة الأكسجين فى المادة أو نقص نسبة الهيدروجين فيها.

عملية الاختزال
عملية كيميائية تؤدى إلى نقص نسبة الأكسجين فى المادة أو زيادة نسبة الهيدروجين فيها.

أداء ذاتى فى ضوء فهمك لتفاعلات الأكسدة والاختزال، أكمل الجدول التالى :

التفاعل	تفاعل الكربون مع أكسيد النحاس لتكوين نحاس وثانى أكسيد الكربون
المعادلة المعبرة عنه	عملية ..... $2CuO + C \longrightarrow 2Cu + CO_2$ عملية .....
العامل المؤكسد	.....
العامل المختزل	.....

٢ الأكسدة و الاختزال حسب المفهوم الإلكترونى (الحديث)

* قدمت النظرية الإلكترونية الحديثة مفهومًا أدق للأكسدة والاختزال، حيث أن هناك تفاعلات أكسدة واختزال لا تتضمن أكسجين أو هيدروجين، **كالمثال التالى :**

تفاعل اتحاد ذرة الصوديوم مع ذرة الكلور
لتكوين جزىء كلوريد الصوديوم (ملح الطعام) NaCl

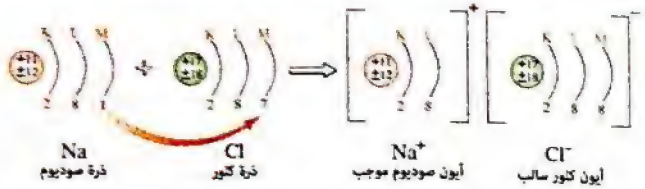

ويعبر عن هذا التفاعل بالمعادلة الآتية:

عملية أكسدة

عامل مؤكسد

$$2Na + Cl_2 \longrightarrow 2Na^+Cl^-$$

عامل مختزل

عملية اختزال

ويتضح من المعادلة أن :

الصوديوم حدثت له عملية **أكسدة**... **علل ؟**

* **لأن** كل ذرة صوديوم تفقد إلكترون متحولة إلى أيون صوديوم موجب

$$2Na \longrightarrow 2Na^+ + 2e^-$$

الكلور حدثت له عملية **اختزال** ... **علل ؟**

* **لأن** كل ذرة كلور تكتسب الإلكترون الذى فقدته ذرة الصوديوم متحولة إلى أيون كلور سالب (أيون كلوريد)

$$Cl_2 + 2e^- \longrightarrow 2Cl^-$$

وبذلك

* يعتبر الصوديوم **عامل مختزل** ... **علل ؟**
* **لأنه** اختزل الكلور إلى أيون كلور سالب (كل ذرة صوديوم تفقد إلكترون أثناء التفاعل الكيميائى لتكتسبه ذرة الكلور فتتحول ذرة الصوديوم لأيون صوديوم موجب).

* يعتبر الكلور **عامل مؤكسد** ... **علل ؟**
* **لأنه** أكسد الصوديوم إلى أيون صوديوم موجب (كل ذرة كلور تكتسب إلكترون أثناء التفاعل الكيميائى من ذرة الصوديوم وتتحول ذرة الكلور لأيون كلور سالب).

• مما سبق يمكن استنتاج المصطلحات الآتية حسب المفهوم الإلكتروني :

العامل المختزل
المادة التي تفقد إلكترونًا أو أكثر أثناء التفاعل الكيميائي.

العامل المؤكسد
المادة التي تكتسب إلكترونًا أو أكثر أثناء التفاعل الكيميائي.

تحدث له

تحدث له

عملية الأكسدة
عملية كيميائية تفقد فيها ذرة العنصر إلكترونًا أو أكثر.

عملية الاختزال
عملية كيميائية تكتسب فيها ذرة العنصر إلكترونًا أو أكثر.

علل ؟

(١) **الأكسدة والاختزال عمليتان متلازمتان تحدثان في نفس الوقت.**
لأن عدد الإلكترونات المكتسبة في عملية الاختزال يساوي عدد الإلكترونات المفقودة في عملية الأكسدة.

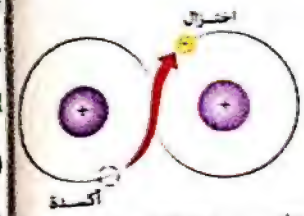

الأكسدة والاختزال عمليتان متلازمتان

(٢) **معظم الفلزات عوامل مختزلة، بينما معظم اللافلزات عوامل مؤكسدة.**
لأن الفلزات تميل إلى فقد إلكترونات أثناء التفاعل الكيميائي، بينما اللافلزات تميل إلى اكتساب الإلكترونات أثناء التفاعل الكيميائي.

ملحوظة

أي عملية كيميائية تتضمن

فقد إلكترونات يقال إنها عملية أكسدة	اكتساب إلكترونات يقال إنها عملية اختزال

أمثلة

- $Cu \xrightarrow{\text{أكسدة}} Cu^{+2} + 2e^-$
- $F^- \xrightarrow{\text{أكسدة}} F + e^-$
- $O^{-2} \xrightarrow{\text{أكسدة}} O^- + e^-$
- $Ag^+ + e^- \xrightarrow{\text{اختزال}} Ag$
- $Br + e^- \xrightarrow{\text{اختزال}} Br^-$
- $Cu^{+2} + e^- \xrightarrow{\text{اختزال}} Cu^+$

أداء ذاتي

وضح أي التفاعلات الآتية يمثل عملية أكسدة وأيها يمثل عملية اختزال :

(1) $Mg \longrightarrow Mg^{+2} + 2e^-$ ( )
(2) $Cl_2 + 2e^- \longrightarrow 2Cl^-$ ( )
(3) $Fe^{+2} \longrightarrow Fe^{+3} + e^-$ ( )
(4) $N^{-2} + e^- \longrightarrow N^{-3}$ ( )

مثال ١

مستعينًا بالجدول المقابل، أجب عما يأتي :

العنصر	العدد الذري	التوزيع الإلكتروني K	L	M
Al	١٣	٢	٨	٣
Cl	١٧	٢	٨	٧

(١) اكتب معادلة تفاعل الألومنيوم مع الكلور.
(٢) حدد العامل المؤكسد والعامل المختزل.

◀ **الحل :**

(١)
$$2Al + 3Cl_2 \longrightarrow 2Al^{+3}Cl_3^{-1}$$
$$3Cl_2 + 6e^- \xrightarrow{\text{اختزال}} 6Cl^-$$
$$2Al \xrightarrow{\text{أكسدة}} 2Al^{+3} + 6e^-$$

(٢) العامل المؤكسد : الكلور Cl_2
العامل المختزل : الألومنيوم Al

مثال ٢

في التفاعل الآتي حدث فقد واكتساب للإلكترونات : $Ca + 2HCl \xrightarrow{\text{مسخن}} CaCl_2 + H_2$

(١) ما نوع هذا التفاعل ؟
(٢) وضح عمليتي الأكسدة والاختزال على معادلة التفاعل.
(٣) حدد العامل المؤكسد والعامل المختزل، مع ذكر السبب.

[Ca = 20 , H = 1]

◀ **الحل :**

(١) تفاعل إحلال بسيط (أكسدة واختزال).

(٢)
$$Ca + 2H^+ Cl^- \longrightarrow Ca^{+2} Cl_2^{-2} + H_2$$
عملية أكسدة
عملية اختزال

(٢) • العامل المختزل : ذرة الكالسيوم Ca • العامل المؤكسد : أيون الهيدروجين H^+

السبب

لأن ذرة الكالسيوم فقدت إلكترونين أثناء التفاعل الكيميائى متحولة إلى أيون الكالسيوم Ca^{+2}

لأن كل أيون هيدروجين اكتسب إلكترون أثناء التفاعل الكيميائى فتكون جزىء الهيدروجين H_2

$$Ca \xrightarrow{\text{أكسدة}} Ca^{+2} + 2e^-$$

$$2H^+ + 2e^- \xrightarrow{\text{اختزال}} H_2$$

ملخص لعمليتى الأكسدة و الاختزال

العامل المختزل تحدث له **عملية أكسدة**: اتحاد بالأكسجين، منح هيدروجين، فقد إلكترونات

العامل المؤكسد تحدث له **عملية اختزال**: منح أكسجين، اتحاد بالهيدروجين، اكتساب إلكترونات

O ، H ، e^-

تدريب 2

انظر كراسة الواجب

تفاعلات الإحلال المزدوج وتفاعلات الأكسدة و الاختزال

مراجعة شاملة على الدرس — انظر — مفكرة الامتحان

ويمكن إجمال ما سبق فى المعادلات التالية :

أنواع التفاعلات الكيميائية

تفاعلات الانحلال الحرارى

بعض أكاسيد الفلزات	$2HgO \xrightarrow{\Delta} 2Hg + O_2\uparrow$ (أكسيد الزئبق (أحمر اللون) → زئبق (فضى اللون) ؛ غاز الأكسجين)	
بعض نترات الفلزات	$2NaNO_3 \xrightarrow{\Delta} 2NaNO_2 + O_2\uparrow$ (نترات الصوديوم (بيضاء اللون) → نيتريت الصوديوم (أبيض مصفر) ؛ غاز الأكسجين)	
بعض هيدروكسيدات الفلزات	$Cu(OH)_2 \xrightarrow{\Delta} CuO + H_2O\uparrow$ (هيدروكسيد النحاس (أزرق اللون) → أكسيد النحاس (أسود اللون) ؛ بخار الماء)	
معظم كربونات الفلزات	$CuCO_3 \xrightarrow{\Delta} CuO + CO_2\uparrow$ (كربونات النحاس (خضراء اللون) → أكسيد النحاس (أسود اللون) ؛ ثانى أكسيد الكربون (يعكر ماء الجير الرائق))	
معظم كبريتات الفلزات	$CuSO_4 \xrightarrow{\Delta} CuO + SO_3\uparrow$ (كبريتات النحاس (زرقاء اللون) → أكسيد النحاس ؛ ثالث أكسيد الكبريت)	

تفاعلات الإحلال

تفاعلات الإحلال البسيط

إحلال فلز محل فلز آخر فى محلول أحد أملاحه	$Mg + CuSO_4 \longrightarrow MgSO_4 + Cu\downarrow$ (ماغنسيوم ؛ كبريتات النحاس (زرقاء اللون) → كبريتات الماغنسيوم (عديم اللون) ؛ نحاس (أحمر اللون))
إحلال فلز محل هيدروجين الماء	$2Na + 2H_2O \longrightarrow 2NaOH + H_2\uparrow$ (صوديوم ؛ ماء → هيدروكسيد الصوديوم ؛ غاز الهيدروجين)
إحلال فلز محل هيدروجين الحمض المخفف	$Zn + HCl \xrightarrow{\text{مخفف}} ZnCl_2 + H_2\uparrow$ (خارصين ؛ حمض الهيدروكلوريك → كلوريد الخارصين ؛ غاز الهيدروجين) $2Al + 6HCl \xrightarrow{\text{مخفف}} 2AlCl_3 + 3H_2\uparrow$ (ألومنيوم ؛ حمض الهيدروكلوريك → كلوريد الألومنيوم ؛ غاز الهيدروجين)

تفاعلات الإحلال المزدوج

تفاعل حمض مع قلوى (تفاعل تعادل)	$NaOH + 2HCl \longrightarrow NaCl + H_2O$ (هيدروكسيد الصوديوم ؛ حمض الهيدروكلوريك → كلوريد الصوديوم ؛ ماء)
تفاعل حمض مع ملح	$Na_2CO_3 + 2HCl \xrightarrow{\text{مخفف}} 2NaCl + H_2O + CO_2\uparrow$ (كربونات الصوديوم ؛ حمض الهيدروكلوريك → كلوريد الصوديوم ؛ ماء ؛ ثانى أكسيد الكربون)
تفاعل محلول ملح مع محلول ملح آخر	$NaCl + AgNO_3 \longrightarrow NaNO_3 + AgCl\downarrow$ (كلوريد الصوديوم ؛ نترات الفضة → نترات الصوديوم ؛ كلوريد الفضة (راسب أبيض))

تفاعلات الأكسدة و الاختزال

حسب المفهوم التقليدى	$H_2 + CuO \xrightarrow{\Delta} H_2O + Cu$
حسب المفهوم الإلكترونى (الحديث)	$2Na + Cl_2 \longrightarrow 2Na^+Cl^-$

مجاب عنها بكراسة الواجب

أولًا أسئلة الكتاب المدرسى مجاب عنها

١ ضع الكلمات الآتية فى أماكنها المناسبة :

(الانحلال الحرارى / الأكسدة / العامل المختزل / التعادل / العامل المؤكسد)

(١) العملية التى تفقد فيها ذرة العنصر إلكترونًا أو أكثر تعرف بعملية ..... (محافظة أسيوط ٢٠١٧)

(٢) المادة التى تفقد إلكترونًا أو أكثر أثناء التفاعل الكيميائى تعرف بـ ..... (المنيا ٢٠١٧)

(٣) تفاعلات ..... يتفكك فيها المركب بالحرارة إلى مكوناته البسيطة. (سوهاج ٢٠١٥)

(٤) تفاعل حمض مع قلوى لتكوين ملح وماء يعرف بتفاعل ..... (أسيوط ٢٠١٨)

(٥) المادة التى تعطى الأكسجين أو تنتزع الهيدروجين تسمى بـ ..... (شمال سيناء ٢٠١٩)

٢ اكتب المصطلح العلمى الذى تدل عليه كل من العبارات التالية :

(١) كسر الروابط الموجودة فى جزيئات المواد المتفاعلة وتكوين روابط جديدة فى جزيئات المواد الناتجة من التفاعل. (قنا ٢٠١٦)

(٢) عملية كيميائية تكتسب فيها ذرة العنصر إلكترونًا أو أكثر. (السويس ٢٠١٦)

(٣) المادة التى تفقد إلكترونًا أو أكثر أثناء التفاعل الكيميائى. (الفيوم ٢٠١٦)

(٤) عملية كيميائية ينتج عنها زيادة نسبة الأكسجين فى المادة أو نقص نسبة الهيدروجين فيها. (البحر الأحمر ٢٠١٦)

(٥) تفاعلات كيميائية يتم فيها إحلال عنصر محل عنصر آخر. (قنا ٢٠١٩)

٣ وضح بالمعادلات الرمزية الموزونة كل من التفاعلات التالية :

(١) تفاعل حمض الهيدروكلوريك مع هيدروكسيد الصوديوم. (كفر الشيخ ٢٠١٦)

(٢) إضافة محلول نترات الفضة إلى محلول كلوريد الصوديوم. (بنى سويف ٢٠١٦)

(٣) أثر الحرارة على أكسيد الزئبق الأحمر. (أسيوط ٢٠١٦)

(٤) تفاعل الخارصين مع حمض الهيدروكلوريك المخفف. (الدقهلية ٢٠١٩)

(٥) أثر الحرارة على نترات الصوديوم. (جنوب سيناء ٢٠١٦)

٤ حدد عمليتى الأكسدة والاختزال والعامل المؤكسد والعامل المختزل فى تفاعل الصوديوم مع الكلور لتكوين كلوريد الصوديوم NaCl، مستعينًا بالجدول التالى : (أسوان ١٤)

العنصر	العدد الذرى	التوزيع الإلكترونى		
		K	L	M
الصوديوم Na	١١	٢	٨	١
الكلور Cl	١٧	٢	٨	٧

٥ أكمل المعادلات الآتية :

(1) $NaCl + AgNO_3 \longrightarrow$ ..... + ... (البحر الأحمر ٢٠١٩)

(2) $Cu(OH)_2 \xrightarrow{\Delta}$ ..... + ... (الإسماعيلية ٢٠١٨)

(3) $2NaNO_3 \xrightarrow{\Delta}$ ..... + ... (البحيرة ٢٠١٦)

(4) $2HgO \xrightarrow{\Delta}$ ..... + ... (البحر الأحمر ٢٠١٦)

ثانيًا أسئلة كتاب الامتحان مجاب عنها

تم الإشارة إلى أسئلة دليل تقويم الطالب بالعلامة

١ اختر الإجابة الصحيحة مما بين الإجابات المعطاة :

من التفاعلات الكيميائية إلى تفاعلات الإحلال البسيط

(١) من أمثلة المركبات التى تنحل بالحرارة إلى فلز وأكسجين ..... (الجيزة ١٦)

(أ) HgO (ب) $CuCO_3$ (جـ) $CaSO_4$ (د) $Cu(OH)_2$

(٢) عند تسخين كربونات الكالسيوم نحصل على ..... (أسيوط ١٥)

(أ) بيكربونات الكالسيوم وثانى أكسيد الكربون.

(ب) هيدروكسيد الكالسيوم وثانى أكسيد الكربون.

(جـ) أكسيد الكالسيوم وأول أكسيد الكربون.

(د) أكسيد الكالسيوم وثانى أكسيد الكربون.

(٣) تنحل كبريتات النحاس بالحرارة إلى أكسيد نحاس و ..... (مطروح ٢١)

(أ) غاز ثانى أكسيد الكبريت. (ب) غاز الأكسجين.

(جـ) غاز ثالث أكسيد الكبريت. (د) كبريت.

(٤) عند تسخين كبريتات النحاس يتكون راسب ..... (الدقهلية ١٩)

(أ) أسود. (ب) أخضر.

(جـ) أزرق. (د) بنى محمر.

(٥) عند الانحلال الحرارى لنترات الصوديوم يتصاعد غاز ..... (أسيوط ١٩)

(أ) CO_2 (ب) O_2

(جـ) H_2 (د) NO

(٦) أيًا من المواد التالية لا تعطى ناتج أسود عند تسخينها ؟ ..... (البحيرة ١٩)

(أ) HgO (ب) $Cu(OH)_2$

(جـ) $CuSO_4$ (د) $CuCO_3$

(٧) تحتوى الوسادة الهوائية على مادة ..... الصوديوم.

(أ) أكسيد (ب) نيتريد

(جـ) أزيد (د) كبريتات

(٨) تحدث تفاعلات الإحلال عندما يحل ..... فى محلول أحد مركباته. (بورسعيد ١٩)

(أ) عنصر أقل فاعلية محل آخر أكثر منه فاعلية.

(ب) عنصر أكثر فاعلية محل آخر أقل منه فاعلية.

(جـ) مركب أقل فاعلية محل عنصر آخر أكثر منه فاعلية.

(د) عنصر أكثر فاعلية محل مركب آخر أقل منه فاعلية.

(٩) يحل فلز الصوديوم محل الفلزات الآتية فى محاليل أملاحها، ماعدا ..... (الفيوم ١٩)

(أ) النحاس. (ب) البوتاسيوم.

(جـ) الماغنسيوم. (د) الخارصين.

(١٠) أيًا من العناصر الآتية هو الأكثر نشاطًا ؟ ..... (الغربية ١٩)

(أ) النحاس. (ب) الهيدروجين.

(جـ) الصوديوم. (د) الألومنيوم.

(١١) تبعًا لمتسلسلة النشاط الكيميائى، يعتبر الزنك أنشط كيميائيًا من ..... (كفر الشيخ ١٩)

(أ) الصوديوم. (ب) الهيدروجين.

(جـ) البوتاسيوم. (د) الماغنسيوم.

(١٢) جميع العناصر التالية تحل محل هيدروجين الحمض المخفف، عدا ..... (البحيرة ١٩)

(أ) Sn (ب) Au

(جـ) Zn (د) Al

(١٣) فى التفاعل : $2Na + 2H_2O \longrightarrow 2NaOH + X$

يكون (X) .....

(أ) غاز يشتعل بفرقعة. (ب) راسب أزرق.

(جـ) راسب بنى محمر. (د) غاز بنى محمر.

(١٤) الشكل المقابل : يوضح تفاعل مادة صلبة (Y) مع حمض لتكوين الغاز (X).

أيًا مما يأتى يعبر عن المادة (Y) والغاز (X) ؟ .....

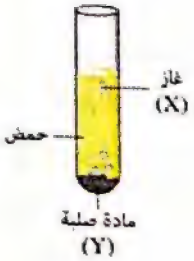

الاختيارات	المادة (Y)	الغاز (X)
(أ)	فلز نشط	الهيدروجين
(ب)	فلز نشط	ثانى أكسيد الكربون
(جـ)	لافلز	الهيدروجين
(د)	لافلز	ثانى أكسيد الكربون

(١٥) عند إضافة خراطة نحاس إلى حمض الهيدروكلوريك المخفف ..... (البحر الأحمر ١٩)

(أ) يتصاعد غاز الهيدروجين. (ب) يتكون كلوريد النحاس.

(جـ) يتكون أكسيد النحاس. (د) لا يحدث تفاعل.

(١٦) فى الشكل المقابل : إذا احتوت الأنابيب الثلاثة على كميات متساوية من حمض الهيدروكلوريك المخفف يتصاعد غاز الهيدروجين فى الأنابيب .....

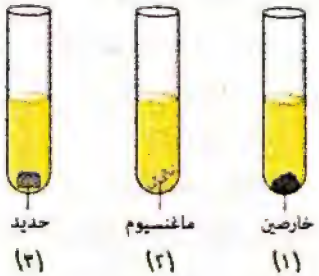

(أ) (١)، (٢) فقط.

(ب) (١)، (٣) فقط.

(جـ) (٢)، (٣) فقط.

(د) (١)، (٢)، (٣).

تفاعلات الإحلال المزدوج وتفاعلات الأكسدة والاختزال

(١٧) عند تفاعل حمض الهيدروكلوريك مع كربونات الصوديوم، يتصاعد غاز .....

(أ) يعكر ماء الجير الرائق. (ب) يشتعل بفرقعة.

(جـ) يساعد على الاشتعال. (د) لونه بنى محمر. (الغربية ١٩)

(١٨) عند تفاعل محلول كلوريد الصوديوم مع محلول نترات الفضة، يتكون راسب .....

(أ) أبيض من نترات الصوديوم. (ب) أبيض من كلوريد الفضة.

(جـ) أزرق من كلوريد الفضة. (د) لا توجد إجابة صحيحة. (الإسكندرية ١٩)

(١٩) يُعد تفاعل غاز الهيدروجين مع أكسيد النحاس الساخن تفاعل ..... (أسيوط ١٩)

(أ) تعادل. (ب) إحلال مزدوج.

(جـ) إحلال بسيط. (د) أكسدة واختزال.

(٢٠) كل مما يأتى يُعد عملية اختزال، عدا ..... (الإسماعيلية ١٩)

(أ) الاتحاد بالهيدروجين. (ب) فقد الأكسجين.

(جـ) اكتساب الإلكترونات. (د) فقد الإلكترونات.

(٢١) العامل المؤكسد هو المادة التى ..... أثناء التفاعل الكيميائى. (الشرقية ١٩)

(أ) تمنح الأكسجين (ب) تنتزع الهيدروجين

(جـ) تكتسب إلكترونًا أو أكثر (د) جميع ما سبق

(٢٢) عندما تفقد ذرة الصوديوم إلكترون مستوى طاقتها الخارجى أثناء التفاعل الكيميائى فإنها ..... (القاهرة ١٩)

(أ) تتأكسد فقط. (ب) تختزل فقط.

(جـ) تعتبر عامل مختزل فقط. (د) تتأكسد وتعتبر عامل مختزل.

(٢٣) فى التفاعل الآتى : $2Br^- \longrightarrow Br_2 + 2e^-$

ماذا حدث لأيون البروميد ؟ ..... (البحيرة ١٩)

(أ) أكسدة. (ب) اختزال.

(جـ) أكسدة واختزال. (د) لا توجد إجابة صحيحة.

(٢٤) فى تفاعل الأكسدة والاختزال المقابل : $2Fe^{+3} + Zn \longrightarrow 2Fe^{+2} + Zn^{+2}$

أيًا من العبارات التالية صحيحة ؟ .....

(١): Fe^{+3} يُختزل إلى Fe^{+2} (٢): Zn يُؤكسد Fe^{+3}

(٣): Fe^{+3} يقوم بدور العامل المؤكسد.

(أ) (١) ، (٢) فقط. (ب) (١) ، (٣) فقط.

(جـ) (٢) ، (٣) فقط. (د) (١) ، (٢) ، (٣).

٢ اكتب المصطلح العلمى الدال على كل عبارة من العبارات الآتية :

من التفاعلات الكيميائية إلى تفاعلات الإحلال البسيط

(١) تفاعلات كيميائية يتم فيها تفكك جزيئات بعض المركبات الكيميائية بالحرارة إلى عناصرها الأولية أو إلى مركبات أبسط منها. (القليوبية ١٧)

(٢) تفاعلات كيميائية يتم فيها إحلال عنصر محل آخر أقل منه نشاطًا فى محلول أحد مركباته. (بورسعيد ٢١)

تفاعلات الإحلال المزدوج وتفاعلات الأكسدة والاختزال

(٣) تفاعلات كيميائية يتم فيها عملية تبادل مزدوج بين شقى (أيونى) مركبين مختلفين، لتكوين مركبين جديدين. (الفيوم ١٩)

(٤) تفاعل حمض مع قلوى لتكوين ملح وماء. (السويس ٢١)

(٥) عملية كيميائية تؤدى إلى نقص نسبة الأكسجين فى المادة، أو زيادة نسبة الهيدروجين فيها. (الجيزة ٢١)

(٦) * عملية كيميائية تفقد فيها ذرة العنصر إلكترونًا أو أكثر. (القاهرة ١٩)

* عملية تحول Fe^{+2} إلى Fe^{+3} تبعًا للمعادلة : $Fe^{+2} \longrightarrow Fe^{+3} + e^-$ (القاهرة ١٥)

(٧) * المادة التى تمنح الأكسجين أو تنتزع الهيدروجين أثناء التفاعل الكيميائى. (الجيزة ١٩)

* المادة التى تكتسب إلكترونًا أو أكثر أثناء التفاعل الكيميائى. (القاهرة ١٨)

٣ اختر من العمود (B) ما يناسب العمود (A) :

(A)	(B)
المادة	**لونها**
(١) نترات الصوديوم	(١) بنى محمر.
(٢) أكسيد النحاس	(٢) أحمر.
(٣) كربونات النحاس	(٣) أخضر.
(٤) نيتريت الصوديوم	(٤) أبيض.
(٥) كبريتات النحاس	(٥) أزرق.
(٦) أكسيد الزئبق	(٦) أبيض مصفر.
(٧) الزئبق	(٧) فضى.
	(٨) أسود.

٤ قدم من العمودين (B) ، (C) ما يناسب العمود (A)، وأعد كتابة العبارات كاملة :

(A)	(B)	(C) (الإسماعيلية ٢١)
التفاعل الحادث	الغاز الناتج	الكشف عن الغاز الناتج
(١) كربونات الصوديوم مع حمض الهيدروكلوريك المخفف	(١) H_2	(١) يزيد من اشتعال الشظية المشتعلة.
(٢) الصوديوم مع الماء	(٢) O_2	(٢) يعكر ماء الجير الرائق.
(٣) تسخين نترات الصوديوم	(٣) SO_3	(٣) يشتعل بفرقعة.
	(٤) CO_2	(٤) يكون سحب بيضاء مع غاز النشادر.

٥ أكمل العبارات الآتية بما يناسبها :

من التفاعلات الكيميائية إلى تفاعلات الإحلال البسيط

(١) التفاعل الكيميائي هو ..... في جزيئات المواد المتفاعلة و ..... في جزيئات المواد الناتجة من التفاعل. (مطروح ١٩)

(٢) غاز ..... يعكر ماء الجير الرائق، بينما غاز ..... يزيد توهج عود ثقاب مشتعل. (الغربية ١٩)

(٣) تتحلل معظم ..... الفلزات عند تسخينها إلى ..... ويتصاعد غاز ثالث أكسيد الكبريت. (مطروح ١٩)

(٤) يتصاعد غاز ..... عند تفاعل الصوديوم مع الماء، بينما يتصاعد غاز ..... عند تسخين كبريتات النحاس الزرقاء. (الأقصر ١٩)

(٥) يتفاعل البوتاسيوم مع حمض الهيدروكلوريك المخفف ويتكون ملح ..... ويتصاعد غاز ..... (بني سويف ٢٠)

تفاعلات الإحلال المزدوج وتفاعلات الأكسدة والاختزال

(٦) تفاعل الحمض مع القلوي ينتج عنه ..... ، ..... (الفيوم ١٩)

(٧) تفاعلات الإحلال المزدوج بين محاليل الأملاح تكون مصحوبة بتكوين ..... (بورسعيد ١٩)

(٨) عند إمرار غاز الهيدروجين على أكسيد النحاس الساخن يتحول أكسيد النحاس إلى ..... ويتكون ..... (كفر الشيخ ١٦)

(٩) في التفاعل الآتي حدثت عمليتان متلازمتان : (المنيا ١٨)

$$2CuO + C \xrightarrow{\Delta} 2Cu + CO_2$$

١- حدث لأكسيد النحاس عملية ..... ويعتبر عامل .....

٢- حدث للكربون عملية ..... ويعتبر عامل .....

(١٠) تتم عملية الأكسدة عن طريق ..... الإلكترونات، بينما تتم عملية الاختزال عن طريق ..... الإلكترونات. (البحر الأحمر ١٩)

(١١) العامل المؤكسد تحدث له عملية ..... ، بينما العامل المختزل تحدث له عملية .....

(١٢) في التفاعل المقابل : $Cl_2 + 2e^- \longrightarrow 2Cl^-$ (الوادي الجديد ٢٠)

يعتبر الكلور عامل .....

(١٣) في تفاعل الصوديوم مع الكلور لتكوين كلوريد الصوديوم، يعتبر ..... عامل مؤكسد، بينما يعتبر ..... عامل مختزل. (سوهاج ١٩)

(١٤) في تفاعلات الأكسدة والاختزال تعمل الفلزات كعوامل ..... ، بينما تعمل اللافلزات كعوامل ..... (البحر الأحمر ٢١)

(١٥) في التفاعل الآتي : $2Mg + O_2 \xrightarrow{\Delta} 2MgO$

يعتبر تحول الماغنسيوم إلى أيون ماغنسيوم موجب عملية ..... ، بينما تحول الأكسجين إلى أيون أكسجين سالب يعتبر عملية .....

٦ أكمل المعادلات الرمزية الآتية، مع ذكر نوع التفاعل :

من التفاعلات الكيميائية إلى تفاعلات الإحلال البسيط

(1) ..... $\xrightarrow{\Delta}$ $2Hg + O_2\uparrow$ (تفاعل .....) (الوادي الجديد ١٤)

(2) $Cu(OH)_2 \xrightarrow{\Delta}$ ..... + ... (تفاعل .....) (الفيوم ١٨)

(3) $CuCO_3 \xrightarrow{\Delta}$ ..... + ... (تفاعل .....) (مطروح ١٩)

(4) $CuSO_4 \xrightarrow{\Delta}$ ..... + ... (تفاعل .....) (السويس ١٦)

(5) $2NaNO_3 \xrightarrow{\Delta}$ ..... + $O_2\uparrow$ (تفاعل .....) (الوادي الجديد ٢١)

(6) ..... $\xrightarrow{\text{شرر كهربي}}$ $2Na + 3N_2\uparrow$ (تفاعل .....) (المنيا ١٦)

(7) $2Na + 2H_2O \longrightarrow$ ..... + ... + Heat (تفاعل .....) (الفيوم ١٨)

(8) $Zn + 2HCl \xrightarrow{\text{مخفف}}$ ..... + ... (تفاعل .....) (القاهرة ١٩)

(9) $2Al + 6HCl \xrightarrow{\text{مخفف}}$ ..... + ... (تفاعل .....) (الشرقية ١٩)

(10) $Mg + CuSO_4 \longrightarrow$ ..... + ... (تفاعل .....) (البحيرة ٢١)

تفاعلات الإحلال المزدوج وتفاعلات الأكسدة والاختزال

(11) $NaOH + HCl \longrightarrow$ ..... + ... (تفاعل .....) (المنوفية ١٧)

(12) $Na_2CO_3 + 2HCl \xrightarrow{\text{مخفف}}$ ..... + H_2O + ... (تفاعل .....) (السويس ٢١)

(13) $NaCl + AgNO_3 \longrightarrow NaNO_3$ + ... ↓ (تفاعل .....) (الجيزة ٢١)

(14) $H_2 + CuO \xrightarrow{\Delta}$ ..... + ... (تفاعل .....) (السويس ٢١)

(15) $_{11}Na \xrightarrow{.....}$ ..... + e^- (تفاعل .....) (المنيا ١٢)

٧ ضع علامة (✓) أمام العبارة الصحيحة، وأعد تصويب العبارة الخطأ :

من التفاعلات الكيميائية إلى تفاعلات الإحلال البسيط

(١) تنحل بعض نترات الفلزات بالحرارة إلى نيتريت الفلز ويتصاعد غاز الهيدروجين. (القليوبية ١٩) ( )

(٢) في متسلسلة النشاط الكيميائي ترتب العناصر الفلزية ترتيبًا تنازليًا حسب أوزانها الذرية. (أسيوط ٢١) ( )

(٣) يحل النحاس محل الذهب في محاليل أملاحه ولا يحدث العكس. ( )

(٤) يسبب الزنبق تآكل الذهب عند تلامسهما معًا، لأنه أنشط منه كيميائيًا. (المنوفية ٢١) ( )

تفاعلات الإحلال المزدوج وتفاعلات الأكسدة والاختزال

(٥) يعرف تفاعل حمض الهيدروكلوريك مع كربونات الصوديوم بتفاعل التعادل. (المنوفية ٢١) ( )

(٦) الأكسدة والاختزال عمليتان منفصلتان. (قنا ٢١) ( )

(٧) العامل المؤكسد هو المادة التي تنتزع الأكسجين أو تمنح الهيدروجين أثناء التفاعل الكيميائي. (الأقصر ١٨) ( )

(٨) الأكسدة عملية كيميائية تفقد فيها ذرة العنصر بروتونًا أو أكثر. (قنا ١٩) ( )

(٩) في تفاعلات الأكسدة والاختزال يكون عدد الإلكترونات المفقودة أقل من عدد الإلكترونات المكتسبة. ( )

(١٠) تتحول ذرة الكلور إلى أيون الكلوريد عندما تفقد إلكترون. (الإسكندرية ١٢) ( )

(١١) في التفاعل : $2H^+ + 2e^- \longrightarrow H_2$ يحدث أكسدة للهيدروجين. ( )

٨ وضح بالمعادلات الرمزية الموزونة :

من التفاعلات الكيميائية إلى تفاعلات الإحلال البسيط

(١) أثر الحرارة على كربونات النحاس الخضراء. (القليوبية ١٥)

(٢) انحلال نترات الصوديوم بالحرارة. (دمياط ١٩)

(٣) تفاعل الصوديوم مع الماء. (القاهرة ٢١)

ثم اذكر احتياط الأمان الواجب اتخاذه عند إجراء هذا التفاعل. (الإسكندرية ١٧)

(٤) * إحلال فلز محل هيدروجين الحمض «مستخدمًا الخارصين». (سوهاج ١٨)

* أثر إضافة حمض الهيدروكلوريك المخفف إلى الخارصين. *(أسيوط ١٧)

(٥) أثر وضع خراطة ألومنيوم في حمض هيدروكلوريك مخفف. (بورسعيد ١٩)

(٦) إحلال فلز محل آخر في محلول أحد أملاحه «مستخدمًا الماغنسيوم». (سوهاج ١٨)

(٧) كيف تحصل على كل من : (البحيرة ١٩)

(أ) الزنبق من أكسيد الزنبق الأحمر. (ب) النحاس من محلول كبريتات النحاس.

تفاعلات الإحلال المزدوج وتفاعلات الأكسدة والاختزال

(٨) أثر إضافة حمض الهيدروكلوريك إلى هيدروكسيد الصوديوم. (سوهاج ٢١)

ومن نواتج هذا التفاعل، كيف تحصل على راسب أبيض من كلوريد الفضة. (القليوبية ١٦)

(٩) تفاعل تعادل. (كفر الشيخ ١٣)

(١٠) أثر إضافة حمض الهيدروكلوريك المخفف إلى محلول كربونات الصوديوم. (الدقهلية ٢١)

(١١) تفاعل محلول ملح مع محلول ملح آخر «مع ذكر نوع التفاعل». (الإسكندرية ١٦)

(١٢) تفاعل أكسدة واختزال تبعًا للمفهوم الإلكتروني.

(١٣) أثر الحرارة على كبريتات النحاس، ثم إمرار غاز الهيدروجين على الناتج مع التسخين. (بورسعيد ٢١)

٩ علل لما يأتي (موضحًا بالمعادلات الرمزية الموزونة كلما أمكن) :

من التفاعلات الكيميائية إلى تفاعلات الإحلال البسيط

(١) ظهور لون فضي عند تسخين أكسيد الزنبق الأحمر. (الجيزة ٢١)

.....

(٢) تتكون مادة سوداء عند تسخين كربونات النحاس الخضراء بشدة. (الوادي الجديد ٢١)

.....

(٣) تغير لون أسود عند تسخين كربونات النحاس الزرقاء.

(٤) ترتيب العناصر الفلزية في متسلسلة النشاط الكيميائي.

(٥) يحل الماغنسيوم محل هيدروجين الحمض المخفف.

(٦) يتفاعل الخارصين مع حمض الهيدروكلوريك المخفف، بينما لا يتفاعل النحاس مع نفس الحمض.

(٧) تصاعد فقاعات غازية عند وضع شريط ألومنيوم في حمض الهيدروكلوريك المخفف.

(٨) رغم أن الألومنيوم يسبق الخارصين في متسلسلة النشاط الكيميائي إلا أنه يتأخر عنه في التفاعل مع حمض الهيدروكلوريك المخفف.

(٩) لا يتفاعل الذهب مع الأحماض.

(١٠) يمكن للماغنسيوم أن يحل محل النحاس في محاليل أملاحه، بينما لا يحدث العكس.

(١١) اختفاء لون محلول كبريتات النحاس الأزرق عند إضافة شريط من الماغنسيوم إليه.

(١٢) غمر قطعة محلول نترات الفضة في أواني من الألومنيوم.

(١٣) تفاعل البوتاسيوم مع الماء أكثر شدة من تفاعل الصوديوم مع الماء.

تفاعلات الإحلال المزدوج وتفاعلات الأكسدة والاختزال

(١٤) تكون راسب أبيض عند إضافة محلول نترات الفضة إلى محلول كلوريد الصوديوم.

(١٥) تفاعل أكسيد النحاس بدور العامل المؤكسد في التفاعل:

$$H_2 + CuO \xrightarrow{\Delta} H_2O + Cu$$

(١٦) تحول ذرة الكلور إلى أيون كلوريد يمثل عملية اختزال.

(١٧) الصوديوم من العوامل المختزلة، بينما الكلور من العوامل المؤكسدة.

(١٨) معظم الفلزات عوامل مختزلة، بينما معظم اللافلزات عوامل مؤكسدة.

(١٩) عند تفاعل الصوديوم مع الكلور لتكوين كلوريد الصوديوم تحدث عمليتي أكسدة واختزال بالرغم من غياب الأكسجين.

١٠ ما المقصود بكل من:

من التفاعلات الكيميائية إلى تفاعلات الإحلال البسيط

(١) التفاعل الكيميائي.
(٢) تفاعلات الاتحاد الحراري.
(٣) متسلسلة النشاط الكيميائي.
(٤) تفاعلات الإحلال البسيط.

تفاعلات الإحلال المزدوج وتفاعلات الأكسدة والاختزال

(٥) تفاعلات الإحلال المزدوج.
(٦) تفاعل التعادل.
(٧) الأكسدة.
(٨) الاختزال.
(٩) العامل المؤكسد.
(١٠) العامل المختزل.

١١ ماذا يحدث عند (مع كتابة المعادلات الرمزية الموزونة كلما أمكن):

من التفاعلات الكيميائية إلى تفاعلات الإحلال البسيط

(١) تقريب عود ثقاب مشتعل من فوهة أنبوبة بها أكسيد الزئبق الأحمر أثناء التسخين.

(٢) تسخين هيدروكسيد النحاس الأزرق.

(٣) تسخين نترات الصوديوم. (القاهرة ...)

(٤) وضع قطعة صغيرة من الصوديوم في كأس بها ماء. (الجيزة ...)

(٥) إضافة شريط من الماغنسيوم إلى محلول كبريتات النحاس الأزرق. (القليوبية ...)

تفاعلات الإحلال المزدوج وتفاعلات الأكسدة والاختزال

(٦) تسخين المحلول الناتج من تفاعل هيدروكسيد الصوديوم مع حمض الهيدروكلوريك. (الأقصر ...)

(٧) إضافة ملح كربونات الصوديوم إلى حمض الهيدروكلوريك المخفف. (الجيزة ...)

(٨) إضافة محلول نترات الفضة إلى محلول كلوريد الصوديوم. (القاهرة ...)

(٩) إمرار غاز الهيدروجين على أكسيد النحاس الأسود الساخن. (الغربية ...)

(١٠) فقد ذرة صوديوم Na إلكترون واحد أثناء التفاعل الكيميائي
«من حيث عمليتي الأكسدة والاختزال». (الوادي الجديد ...)

(١١) اكتساب ذرة عنصر إلكترون أو أكثر أثناء التفاعل الكيميائي
«من حيث عمليتي الأكسدة والاختزال». (القليوبية ...)

١٢ قارن بين كل من :

(١) الانحلال الحراري لكل من أكسيد الفلز و هيدروكسيد الفلز. (الجيزة ...)

(٢) تفاعل الإحلال البسيط و تفاعل الإحلال المزدوج.

(٣) الأكسدة و الاختزال. (مطروح ...)

(٤) العامل المؤكسد و العامل المختزل. (الغربية ...)

١٣ ادرس الأشكال التالية، ثم أجب :

من التفاعلات الكيميائية إلى تفاعلات الإحلال البسيط

[١] من الشكلين المقابلين :

(أ) ما لون المادة في كل من الأنبوبتين (١)، (٢) قبل وبعد التسخين ؟

(ب) ما اسم الغاز المتصاعد في كل من الأنبوبتين ؟ وكيف يمكنك الكشف عنه ؟



[٢] من الشكل المقابل :

(أ) ما نوع التفاعل الحادث ؟

(ب) ما اسم المادة التي كانت في أنبوبة الاختبار قبل التسخين ؟ وفي حدود ما درست.

(ج) اكتب المعادلة الكيميائية المعبرة عن التفاعل.

(د) كيف يمكنك الكشف عن الغاز المتصاعد ؟ (الإسماعيلية ...)

[٣] أمامك مخطط لجزء من متسلسلة النشاط الكيميائي :

(١) حدد أي العبارات التالية صحيح وأيها غير صحيح :

١- العنصر A أنشط من العنصر B (دمياط ...)

٢- العنصر C يحل محل هيدروجين الماء.

٣- العنصر A يحل محل العنصر C في محلول أحد أملاحه.

٤- العنصر B يحل محل هيدروجين الأحماض المخففة.

(ب) ما أثر الحرارة على كل من :

١- أكسيد العنصر D ٢- هيدروكسيد العنصر C

A
B
H (هيدروجين)
C
D

[٤] الشكل المقابل يوضح تفاعل الصوديوم مع الماء :

(١) ما اسم الغاز المتصاعد ؟ (الإسماعيلية ...)

(ب) اكتب المعادلة الرمزية الموزونة المعبرة عن التفاعل.

(ج) ما نوع هذا التفاعل ؟



٥ في الشكل المقابل، أُضيف قليل من حمض الهيدروكلوريك المخفف إلى قطعة من الخارصين التجاري فتصاعد غاز : (دمياط ١٧)

(أ) ما اسم الغاز المتصاعد ؟ وكيف تكتشف عنه ؟ (أسوان ٢١)

(ب) اكتب معادلة التفاعل، (القليوبية ٢١)

مع ذكر نوع التفاعل. (أسوان ٢١)

(جـ) ماذا يحدث إذا استبدلت قطعة الخارصين بخراطة نحاس ؟ ولماذا ؟ (السويس ١٨)

٦ في الشكل المقابل، قام أحمد بوضع قطع صغيرة متساوية الكتلة من ثلاثة عناصر مختلفة في ثلاث أنابيب بها كميات متساوية من حمض الهيدروكلوريك المخفف فلاحظ تصاعد فقاعات في أنبوبتين فقط،

فماذا تتوقع أن يكون تفسير أحمد للمشاهدات التالية :

(أ) عدم تصاعد فقاعات في الأنبوبة (٣).

(ب) اختلاف عدد الفقاعات المتصاعدة في الأنبوبتين (١) ، (٢).

تفاعلات الإحلال المزدوج وتفاعلات الأكسدة والاختزال

٧ من الشكل المقابل : (البحر الأحمر ١٨)

(أ) ما اسم الغاز المتصاعد من التفاعل ؟ وكيف يمكن الكشف عنه ؟

(ب) اكتب معادلة التفاعل الحادث في الأنبوبة، مع ذكر نوع التفاعل.

٨ من الأشكال المقابلة : (الإسماعيلية ٢١)

(أ) ما رقم الأنبوبة التي تتكون فيها فقاعات غازية عند إضافة المسحوق إلى حمض الهيدروكلوريك ؟

(ب) ما نوع التفاعل الحادث في الأنبوبة (٢) ؟

٩ من الشكل المقابل : (القليوبية ١٧)

(أ) وضح بالمعادلات الرمزية الموزونة ماذا يحدث عند :

١- إضافة محلول نترات الفضة إلى الأنبوبة (١).

(القليوبية ١٧)

٢- وضع شريط ماغنسيوم في الأنبوبة (٢).

(ب) ما لون الراسب المتكون في كل من الأنبوبتين ؟

١٠ أمامك أربع زجاجات موجودة بمعمل المدرسة :

(١) اكتب اسم (أسماء) المادة (المواد) التي يمكن استخدامها في إجراء :

١- تفاعل انحلال حراري.

٢- تعادل.

(ب) كيف يمكن استخدام الملح الموجود بالزجاجة (٢) في إجراء تفاعل «بدون كتابة معادلات» :

١- إحلال بسيط.

٢- إحلال مزدوج.

١١ في الشكل المقابل، يتم إمرار غاز الهيدروجين على أكسيد النحاس الساخن :

(أ) ما التغير الذي يطرأ على لون أكسيد النحاس ؟ مع التفسير.

(ب) اكتب معادلة التفاعل، موضحًا عليها العامل المؤكسد والعامل المختزل وعمليتي الأكسدة والاختزال.

١٢ ادرس التفاعلات فى المخطط التالى، ثم أجب : (دمياط ١٩)

$$CuSO_4 \xrightarrow[(X)]{\Delta} SO_3 + (١)$$

$$+ \xrightarrow[(Z)]{\Delta} (٢) + H_2O$$

راسب أحمر

$$2Na + 2H_2O \xrightarrow[(Y)]{} 2NaOH + (٢)$$

(أ) اكتب الصيغة الكيميائية للمواد المشار إليها بالأرقام من (١) : (٣). (الإسماعيلية ١٩)

(ب) اذكر أنواع التفاعلات (X) ، (Y) ، (Z).

١٤ أسئلة متنوعة :

من التفاعلات الكيميائية إلى تفاعلات الإحلال البسيط

١ اذكر : (الأقصر ٢١)

(أ) أهمية واحدة للتفاعلات الكيميائية.

(ب) أنواع التفاعلات الكيميائية «فى حدود ما درست».

(ج) أهمية عود الثقاب المشتعل عند انحلال أكاسيد الفلزات بالحرارة. (الدقهلية ١٩)

٢ لديك ثلاث عينات لمواد مختلفة تنحل جميعها بالحرارة، فإذا علمت أن المادة (١) بيضاء اللون والمادة (٢) زرقاء اللون، والمادة (٣) خضراء اللون، أجب عما يلى :

(أ) أى هذه المواد ينتج عن انحلاله :

١- أكسيد الفلز. ٢- غاز يزيد توهج عود ثقاب مشتعل.

٣- غاز يعكر ماء الجير الرائق. ٤- بخار ماء.

(ب) ما أسماء المواد من (١) : (٣) ؟ «فى حدود ما درست».

(ج) اذكر لون المادة الناتجة عن الانحلال الحرارى لكل منهم.

(د) اكتب المعادلة الرمزية الموزونة الدالة على الانحلال الحرارى للمادة (١).

٣ يوجد فى السيارات الحديثة كيس قابل للانتفاخ مطوى داخل عجلة القيادة يعرف بالوسادة الهوائية :

(أ) اذكر أهمية الوسادة الهوائية. (كفر الشيخ ٢١)

(ب) اشرح فكرة عمل الوسادة الهوائية، مع كتابة المعادلة الرمزية الموزونة المعبرة عن التفاعل الحادث بداخلها.

٤ رتب العناصر التالية تنازليًا تبعًا لدرجة نشاطها الكيميائى : (الفيوم ١٥)

(Fe / Ca / Na / Pb / Sn / Al)

٥ قام ماجد بوضع مسمار من الحديد فى كأس بها حمض الهيدروكلوريك المخفف فلاحظ تصاعد فقاعات غازية حول المسمار :

(أ) ما اسم الغاز المتصاعد ؟ وما نوع التفاعل الحادث ؟

(ب) بم تفسر تصاعد الفقاعات الغازية ؟

٦ اشرح نشاطًا توضح به إحلال فلز محل فلز آخر فى محلول أحد أملاحه، مع كتابة المعادلة الرمزية الموزونة. (المنوفية ١٦)

٧ يتفاعل الخارصين مع محلول كبريتات النحاس بشكل سريع :

(أ) اكتب المعادلة الرمزية الموزونة الدالة على التفاعل الحادث.

(ب) لماذا يتفاعل الخارصين مع محلول كبريتات النحاس ؟

(ج) ما نوع التفاعل الحادث ؟

(د) عند استبدال الخارصين بالألومنيوم يتم تفاعل الألومنيوم مع الحمض فى البداية ببطء، أيهما أكثر نشاطًا الخارصين أم الألومنيوم ؟ مع التفسير.

تفاعلات الإحلال المزدوج وتفاعلات الأكسدة والاختزال

٨ أضيف حمض الهيدروكلوريك المخفف إلى ثلاث عينات من كل من :

(أ) الماغنسيوم. (ب) كربونات الصوديوم. (ج) النحاس.

اذكر اسم الغاز المتصاعد فى حالة حدوث تفاعل كيميائى، مع كتابة المعادلات الرمزية الموزونة الدالة على ذلك.

٩ قام أحد الطلاب بوضع كمية من محلول هيدروكسيد الصوديوم فى أنبوبة اختبار، وأضاف إليها كمية من حمض الهيدروكلوريك : (المنوفية ١٥)

(أ) اكتب معادلة التفاعل، ثم اذكر نوع التفاعل.

(ب) ماذا يحدث عند إضافة كمية من محلول نترات الفضة إلى المحلول الناتج ؟ مع كتابة معادلة التفاعل.

١٠ كيف يمكنك التمييز بين محلول كبريتات الماغنسيوم و محلول كبريتات النحاس، باستخدام قطعة من الخارصين ؟ (بورسعيد ٢١)

١١ أمامك المواد الآتية فى معمل المدرسة : (المنوفية ٢٠١٨)

(حمض الهيدروكلوريك المخفف / نترات الفضة / كبريتات النحاس / كربونات الصوديوم / كلوريد الصوديوم / نترات الصوديوم / خارصين)

وضح بالمعادلات الرمزية الموزونة فقط كيف تحصل منها على :

(أ) راسب أبيض. (الغربية ٢٠١٩) (ب) مادة سوداء.

(جـ) غاز يعكر ماء الجير الرائق. (الغربية ٢٠١٩) (د) غاز يشتعل بفرقعة.

(هـ) غاز يساعد على الاشتعال.

١٢ من التفاعلات المقابلة :

1) $HCl + NaOH \longrightarrow H_2O + \boxed{A}$

2) $\boxed{A} + AgNO_3 \longrightarrow$ راسب $+ \boxed{B}$

3) $2\boxed{B} \xrightarrow{\Delta}$ ملح $+ \boxed{D}$

(أ) اكتب الصيغة الكيميائية لكل من (A) ، (B). (قنا ٢٠١٨)

(ب) ما اسم الراسب والملح الناتجين ؟ مع ذكر لون كل منهما.

(جـ) ما الاسم الذى يطلق على التفاعل (1) ؟

(د) ما نوع كل من التفاعلين (2) ، (3) ؟ (الفيوم ٢٠١٨)

(هـ) ما اسم الغاز (D) ؟ وكيف نكشف عنه ؟ (القليوبية ٢٠١٨)

١٣ من المعادلتين (1) ، (2) أجب عما يلى :

1) $\boxed{A}$ مادة خضراء $\xrightarrow{\Delta} \boxed{B} + CO_2\uparrow$

2) $\boxed{B} + H_2 \xrightarrow{\Delta} \boxed{D} + H_2O$

(أ) اكتب الصيغة الكيميائية لكل من (A) ، (B) ، (D) على الترتيب.

(ب) ما اسم العملية الحادثة للمادة (B) فى التفاعل (2) والتى أدت إلى تحولها إلى المادة (D) ؟ (المنوفية ٢٠١٨)

١٤ الأكسدة والاختزال عمليتان متلازمتان تحدثان فى نفس الوقت ناقش العبارة السابقة. (الأقصر ٢٠١٨)

١٥ عنصران (X) ، (Y) عددهما الذرى ١١ ، ١٧ على الترتيب.

وضح مع ذكر السبب أيهما يصبح عامل مؤكسد وأيهما عامل مختزل عند تكوين مركب منهما (شمال سيناء ٢٠١٨)

أسئلة تقيس مستويات التفكير العليا — مجاب عنها

١٥ اختر الإجابة الصحيحة مما بين الإجابات المعطاة :

(١) فى الشكل المقابل : أضاف تلميذ أحجام متماثلة من حمض الهيدروكلوريك إلى كتل متساوية من ثلاثة فلزات مختلفة. فأيًا مما يأتى يُعبر عن أقرب الاحتمالات للعناصر الثلاثة ؟ .....

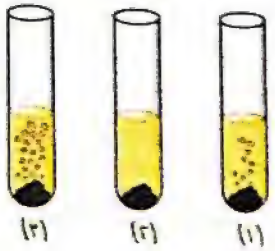

الاختيارات	(١)	(٢)	(٣)
(أ)	حديد	ماغنسيوم	فضة
(ب)	حديد	فضة	ماغنسيوم
(جـ)	ماغنسيوم	فضة	حديد
(د)	ماغنسيوم	حديد	فضة

(٢) أمامك أربع معادلات لذرات وأيونات أربعة عناصر (X) ، (Y) ، (Z) ، (W) :

- $Z + X^{+2} \longrightarrow Z^{+2} + X$
- $Z + 2W^{+} \longrightarrow Z^{+2} + 2W$
- $X + 2W^{+} \longrightarrow X^{+2} + 2W$
- $Y + Z^{+2} \longrightarrow Y^{+2} + Z$

ما الترتيب الصحيح الدال على التدرج التنازلى للنشاط الكيميائى لهذه العناصر ؟ .....

الاختيارات	الأقل نشاطًا ⟵ الأعلى نشاطًا			
(a)	W	X	Z	Y
(b)	X	W	Y	Z
(c)	Y	Z	X	W
(d)	Z	W	X	Y

(٣) يتفاعل حمض الكبريتيك مع المادة (X) مكونًا الغاز (Y) الذى يعكر ماء الجير الرائق، أيًا مما يأتى يعبر عن المادة (X) والغاز (Y) ؟ .....

الاختيارات	المادة (X)	الغاز (Y)
(أ)	كالسيوم	هيدروجين
(ب)	كربونات كالسيوم	ثانى أكسيد الكربون
(جـ)	هيدروكسيد كالسيوم	هيدروجين
(د)	أكسيد كالسيوم	ثانى أكسيد الكربون

(٤) أيًا من التفاعلات التالية، يعتبر تفاعل أكسدة ؟ .....

(a) $Mn + O_2 \xrightarrow{\Delta} MnO_2$ (b) $CaCO_3 \xrightarrow{\Delta} CaO + CO_2$

(c) $CaO + 2HCl \longrightarrow CaCl_2 + H_2O$ (d) $N_2O_4 \longrightarrow 2NO_2$

(٥) أيًا من العمليات الآتية يمثل عملية اختزال ؟ .....

(a) $2Br^- \longrightarrow Br_2$ (b) $Zn \longrightarrow Zn^{++}$

(c) $2O^{--} \longrightarrow O_2$ (d) $Cu^{++} \longrightarrow Cu$

(٦) أيًا من المعادلات الآتية تحدث فيها عملية اختزال للحديد ؟ .....

(a) $4Fe + 3O_2 \xrightarrow{\Delta} 2Fe_2O_3$ (b) $Fe + 2HCl \longrightarrow FeCl_2 + H_2$

(c) $Fe_2O_3 + 3CO \xrightarrow{\Delta} 2Fe + 3CO_2$ (d) $4FeO + O_2 \xrightarrow{\Delta} 2Fe_2O_3$

(٧) فى التفاعل : $Cr^{+3} + Al \longrightarrow Cr + Al^{+3}$، تنتقل .....

(أ) الإلكترونات من $Al \longrightarrow Cr^{+3}$ (ب) البروتونات من $Al \longrightarrow Cr^{+3}$

(جـ) الإلكترونات من $Cr^{+3} \longrightarrow Al$ (د) البروتونات من $Cr^{+3} \longrightarrow Al$

(٨) يتفاعل الماغنسيوم مع ثانى أكسيد الكربون مكونًا أكسيد الماغنسيوم وكربون، ما الذى يحدث للماغنسيوم فى هذا التفاعل ؟ .....

(أ) يتأكسد بفقد الإلكترونات. (ب) يتأكسد باكتساب الإلكترونات.

(جـ) يُختزل بفقد الإلكترونات. (د) يُختزل باكتساب الإلكترونات.

١٦ أسئلة متنوعة :

(١) فى النشاط الموضح بالشكل المقابل : يتكون راسب فى الأنبوبة (١) فقط. فماذا تتوقع أن يكون العنصر (X) ؟ مع تفسير إجابتك.

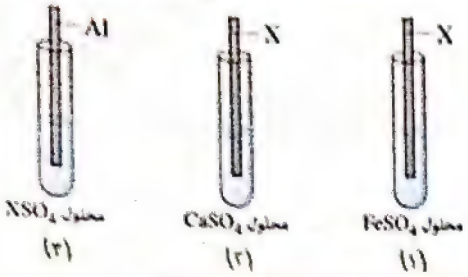

(٢) فى التفاعل الآتى : $X \xrightarrow{\Delta} Y + Z$

إذا علمت أن : • (Y) : أكسيد أسود. • (Z) : غاز يعكر ماء الجير الرائق.

(أ) استنتج الصيغ الكيميائية للمركبات الثلاثة.

(ب) وضح كيف تحصل على فلز من المركب (Y).

(٣) حضر أحد الطلاب كبريتات الماغنسيوم بتفاعل الماغنسيوم مع أحد الأحماض المخففة :

(أ) ما الصيغة الكيميائية لهذا الحمض ؟

(ب) اذكر اسم محلول آخر - ليس من الأحماض - يمكن استخدامه فى تحضير كبريتات الماغنسيوم، مع توضيح إجابتك.

(٤) كوِّن متسلسلة نشاط كيميائى من الرموز الافتراضية (A) ، (B) ، (Q) ، (Z) ، مستعينًا بالمعادلات المقابلة :

• $A + ZX \longrightarrow AX + Z$

• $B + ZX \longrightarrow$ لا يحدث تفاعل

• $Q + AX \longrightarrow QX + A$

(٥) كيف يمكنك الحصول على فلز النحاس من كبريتات النحاس بطريقتين مختلفتين ؟ مع كتابة المعادلات الرمزية الموزونة. (الشرقية ٢١)

(٦) فى التفاعل : $Mg + 2HCl \longrightarrow MgCl_2 + H_2\uparrow$ (الأقصر ١٩)

(أ) وضح عمليتى الأكسدة والاختزال التى تمت فى التفاعل.

(ب) حدد العامل المؤكسد والعامل المختزل. (Mg = 12 , H = 1)

(٧) فى التفاعل الآتى حدث فقد واكتساب للإلكترونات :

ماغنسيوم + كبريتات نحاس ⟵ كبريتات ماغنسيوم + نحاس

(أ) اكتب المعادلة الرمزية المعبرة عن التفاعل الحادث، مع ذكر نوع التفاعل.

(ب) حدد العامل المؤكسد والعامل المختزل فى هذا التفاعل، مع ذكر السبب.

تفاعل الكاتشب

المتفاعلات :

- ٥ ثمرات طماطم.
- ٧ فصوص ثوم.
- ١ بصلة متوسطة.
- ½ كوب خل.
- ٣ ملاعق صغيرة سكر.
- ١ ملعقة صغيرة ملح.

خطوات التفاعل :

(١) تقطع الطماطم إلى مكعبات والبصلة إلى حلقات والثوم إلى قطع.
(٢) ترفع جميعها على نار هادئة حتى تطرى.
(٣) يصفى نصف المقدار بمصفاة ضيقة.
(٤) يوضع المقدار الآخر على النار مرة أخرى، ثم يضاف إليه الخل والسكر والملح، ويقلب حتى يصبح غليظ القوام.
(٥) يصفى، ثم يضاف إليه المقدار الأول ويترك ليبرد.

أضحك

مدرس لغة عربية طلب من تلميذ - أبوه بياع خضار - أن يضع كلمة بائع فى جملة مفيدة. فكر التلميذ كتير أوى أوى، وبعدين قال للمدرس : عندما أقف مع أبى فى المحل بائع يا شو بيع !

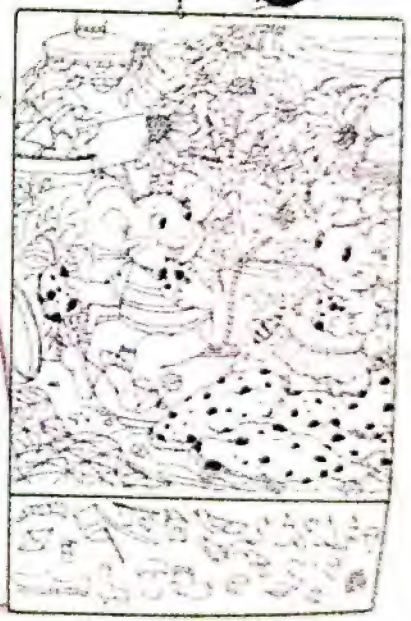

لخصها حتى لا تبتلعك !!

عندما تريد الظروف القاسية أن تلتهمك، وعندما تظن أن الكل قد تخلى عنك، وأنك أصبحت غير قادرًا على التفاؤل. لا تبالى.. بل انطلق نحو هدفك دون النظر لكونه بعيدًا أو إلى مدى الخسارة التى يمكن أن تلحق بك. احقق تلك الظروف ولا تستسلم لها حتى لا تبتلعك

الدرس الثانى سرعة التفاعلات الكيميائية

عناصر الدرس :

- سرعة التفاعل الكيميائى.
- العوامل المؤثرة على سرعة التفاعل الكيميائى :
  - طبيعة المتفاعلات.
  - تركيز المتفاعلات.
  - درجة حرارة التفاعل.
  - العوامل الحفازة و الإنزيمات.

أهداف الدرس

فى نهاية الدرس يجب أن يكون التلميذ قادرا على أن :

- يذكر مفهوم سرعة (معدل) التفاعل الكيميائى.
- يوضح إحدى طرق قياس سرعة التفاعل الكيميائى عمليًا.
- يذكر بعض العوامل المؤثرة على سرعة التفاعل الكيميائى.
- يجرى بعض الأنشطة لتوضيح أثر بعض العوامل على سرعة التفاعل الكيميائى.
- يستنتج أثر بعض العوامل على سرعة التفاعل الكيميائى.
- يذكر بعض التطبيقات على العوامل المؤثرة على سرعة التفاعل الكيميائى.
- يذكر خواص ونوعا العامل الحفاز.
- يدرك دور الإنزيمات فى إتمام التفاعلات الحيوية.
- يكتسب مهارة إجراء التفاعلات الكيميائية فى المعمل.
- يقدر أهمية العلم والتكنولوجيا فى حياة الإنسان والمجتمع.

أهم المفاهيم

- سرعة التفاعل الكيميائى
- العامل الحفاز (المساعد)
- تفاعلات الحفز الموجب
- تفاعلات الحفز السالب
- الإنزيمات
- التحول الحفزى

القضية الحياتية المصاحبة

- حماية البيئة من التلوث

سرعة (معدل) التفاعل الكيميائى

التفاعل الكيميائى عملية تدخل تدول مواد كيميائية (المتفاعلات) ← الى مواد كيميائية أخرى (النواتج)

وتختلف التفاعلات الكيميائية فى سرعة تدولها، فهناك :

1. تفاعلات سريعة جدا — تتم فى وقت قصير جدا.

مثل: تفاعل الألعاب النارية

2. تفاعلات بطيئة نسبيا — تتم فى وقت قصير.

مثل: تفاعل الزيت مع الصودا الكاوية لتكوين الصابون

3. تفاعلات بطيئة جدا — تحتاج لعدة شهور.

مثل: تفاعل صدأ الحديد

4. تفاعلات بطيئة جدا جدا — تحتاج لملايين السنين.

مثل: تفاعل تكوين النفط فى باطن الأرض

مفهوم سرعة التفاعل الكيميائى

لدراسة سرعة تفاعل كيميائى ما :

نرسم علاقة بيانية بين:

- التركيز (مول/لتر) على المحور الرأسى (محور الصادات).
- الزمن (دقيقة) على المحور الأفقى (محور السينات).

النواتج (Y) ← يمر أولا ← المتفاعلات (X)

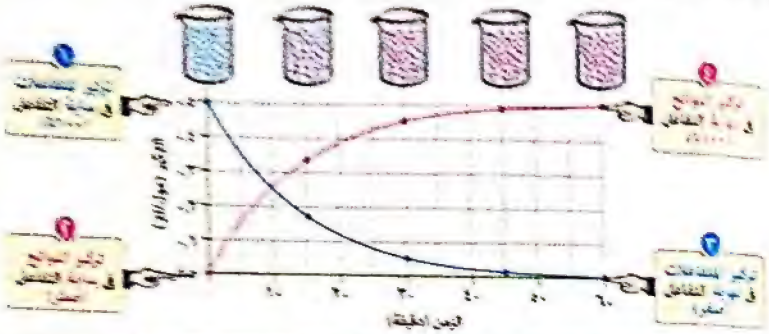

ومن الشكل البيانى يتضح أن

	المتفاعلات (X)	النواتج (Y)
فى بداية التفاعل	يكون تركيز المتفاعلات أكبر ما يمكن (بنسبة ١٠٠٪) (١)	يكون تركيز النواتج أقل ما يمكن (بنسبة صفر) (٢)
بمرور الزمن	يقل تركيز المتفاعلات	يزداد تركيز النواتج
فى نهاية التفاعل	يصبح تركيز المتفاعلات أقل ما يمكن (بنسبة صفر) (٣)	يصبح تركيز النواتج أكبر ما يمكن (بنسبة ١٠٠٪) (٤)

مما سبق يمكن تعريف سرعة التفاعل الكيميائى، كالتالى :

سرعة التفاعل الكيميائى

التغير فى تركيز المواد المتفاعلة والمواد الناتجة من التفاعل فى وحدة الزمن.

ملحوظة

يعتمد على إن المنحنى المتفاعل عن تغيرات تركيز كل من المتفاعلات و النواتج بمرور الزمن

ملحوظة

يعتمد على إن المنحنى المتفاعل عن تغيرات تركيز كل من المتفاعلات و النواتج بمرور الزمن

مثال ❶

❶	X	• بداية التفاعل أكبر ما يمكن (أقصى قيمة) $[X]_0$ • نهاية التفاعل أقل ما يمكن (أقصى قيمة صغرى)
❷	Z_2	• بداية التفاعل أقل ما يمكن (أقصى قيمة صغرى) • نهاية التفاعل أكبر ما يمكن (أقصى قيمة عظمى) $[Z_2]_f$
❸	Z	∴ عدد مولات المادة $(Z_2 < Z)$ مما يتضح من المعادلة الرمزية ∴ لابد أن يكون تركيز المادة $(Z_2 < Z)$ في المنحنى التالي

مثال ❷

المنحنى الموضح المتفاعل ، يمثل العلاقة البيانية (التركيز - الزمن) لمتفاعل ما

المنحنى الصاعد الرمزية الدالة على هذا التفاعل

فكرة المادة

∴ في بداية التفاعل (عند الزمن صفر) يكون :

• تركيز المادتين A_2 ، B_2 أكبر ما يمكن ، ∴ المادتين A_2 ، B_2 تمثلان المتفاعلات

∴ تركيز المادة A_2 يساوي تركيز المادة B_2 من بداية التفاعل

∴ تمثل المتفاعلات بالتفاعل : $2A_2 + B_2$

• تركيز المادة C أقل ما يمكن ، ∴ المادة C تمثل النواتج

∴ تركيز المادة C = تركيز المادة A_2 من بداية التفاعل

∴ تمثل النواتج بالتفاعل : $2C$

∴ معادلة التفاعل هي : $2A_2 + B_2 \longrightarrow 2C$

◀ الحل : $2A_2 + B_2 \longrightarrow 2C$

قياس سرعة التفاعل الكيميائى

• تقاس سرعة التفاعل الكيميائى عمليًا بمعدل :

• اختفاء إحدى المواد المتفاعلة.

أو

• ظهور إحدى المواد الناتجة.

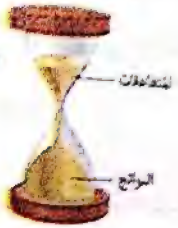

النقص فى كمية (تركيز) المتفاعلات

يقابله

زيادة فى كمية (تركيز) الناتج

تطبيق معدل تفاعل محلول هيدروكسيد الصوديوم مع محلول كبريتات النحاس.

$$2NaOH + CuSO_4 \longrightarrow Na_2SO_4 + Cu(OH)_2\downarrow$$

هيدروكسيد الصوديوم «محلول عديم اللون» + كبريتات النحاس «محلول أزرق اللون» ⟶ كبريتات الصوديوم «محلول عديم اللون» + هيدروكسيد النحاس «راسب أزرق اللون»

تقاس سرعة هذا التفاعل عمليًا بمعدل :

• اختفاء لون محلول كبريتات النحاس الأزرق.

أو

• تكون راسب هيدروكسيد النحاس الأزرق.



اختفاء لون محلول كبريتات النحاس الأزرق وتكون راسب أزرق من هيدروكسيد النحاس

العوامل المؤثرة على سرعة التفاعل الكيميائى

تتوقف سرعة التفاعل الكيميائى على عدة عوامل، هى :

1. طبيعة المتفاعلات
2. تركيز المتفاعلات
3. درجة حرارة التفاعل
4. العوامل الحفازة والإنزيمات

اذكر العوامل المؤثرة على سرعة التفاعل الكيميائى.

١ طبيعة المتفاعلات

يقصد بطبيعة المتفاعلات

1. نوع الترابط فى جزيئات المواد المتفاعلة
2. مساحة سطح المواد المتفاعلة المعرض للتفاعل

1 نوع الترابط فى جزيئات المواد المتفاعلة

• يؤثر نوع الترابط (أيونى أو تساهمى) فى جزيئات المواد المتفاعلة على سرعة التفاعل الكيميائى، كما يتضح فيما يلى :

المركبات الأيونية	المركبات التساهمية
 أيونات — أيونات مركب أيونى	 جزىء — جزيئات مركب تساهمى
تفاعلات المركبات الأيونية سريعة ... **علل؟** لأن المركبات الأيونية تتفكك كليًا عند ذوبانها فى الماء فيكون التفاعل بين الأيونات وبعضها	تفاعلات المركبات التساهمية معظمها بطىء ... **علل؟** لأن المركبات التساهمية يصعب تأينها عند ذوبانها فى الماء فيكون التفاعل بين الجزيئات وبعضها

علل؟ معدل تفاعل المركبات الأيونية أكبر من معدل تفاعل المركبات التساهمية.

علل؟

يعد تفاعل محلول كلوريد الصوديوم مع محلول نترات الفضة من التفاعلات السريعة (اللحظية).

لأنه يتم بين الأيونات الناتجة عن تفكك كل منهما فى الماء.

$$Na^+ Cl^- + Ag^+ NO_3^- \longrightarrow Na^+ NO_3^- + AgCl\downarrow$$

محلول كلوريد الصوديوم + محلول نترات الفضة ⟶ محلول نترات الصوديوم + ملح كلوريد الفضة

ب مساحة سطح المواد المتفاعلة المعرض للتفاعل

• تؤثر مساحة سطح المواد المتفاعلة المعرض للتفاعل على سرعة التفاعل الكيميائي،
كما يتضح مما يلى :

تفاعل المادة (A) مع المادة (B)

عندما تكون المادة المتفاعلة (B) على هيئة قطعة كبيرة الحجم

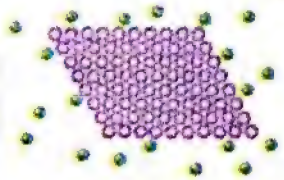

جزيئات المادة A تتفاعل مع جزيئات السطح الخارجى فقط من المادة B ولا تتفاعل مع الجزيئات التى فى عمق المادة

فيكون

التفاعل بطىء

لأن

مساحة السطح المعرض للتفاعل صغيرة

عند تفتيت المادة المتفاعلة (B) لتصبح على هيئة (برادة أو مسحوق أو خراطة)

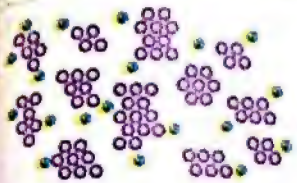

جزيئات المادة A
جزيئات المادة B

فإن

جزيئات المادة A تتفاعل مع جزيئات السطح الخارجى من المادة B وكذلك مع الجزيئات التى كانت فى عمق المادة

فيكون

التفاعل سريع

لأن

مساحة السطح المعرض للتفاعل كبيرة

مما سبق نستنتج أن

كلما ازدادت مساحة سطح المواد المتفاعلة المعرض للتفاعل،
تزداد سرعة التفاعل الكيميائى (علاقة طردية).

مساحة سطح المكعب الواحد ٦ سم² — مساحة أسطح المكعبات ١٨ سم²

تجزئة المادة تعمل على زيادة مساحة سطحها

أيهما أسرع :
ذوبان ملعقة من السكر المطحون فى كوب به ماء أم ذوبان مكعب من السكر فى نفس الحجم من الماء.

نشاط 1 أثر مساحة سطح المتفاعلات على سرعة التفاعل الكيميائى

المواد و الأدوات المستخدمة

- دورقان.
- سرنجتان.
- حمض هيدروكلوريك مخفف.
- كتلتان متساويتان من الحديد، إحداهما على هيئة برادة، والأخرى على هيئة قطعة واحدة.



تجربة عملية لقياس سرعة تفاعل كيميائى

الخطوات

(١) ضع فى أحد الدورقين برادة الحديد، وفى الآخر قطعة الحديد.

(٢) أضف إلى الدورقين حجمين متساويين من حمض الهيدروكلوريك المخفف.

(٣) قارن بين سرعة التفاعل فى الحالتين بمراقبة حركة السرنجتين.

تقاس سرعة (معدل) هذا التفاعل عملياً بالفترة الزمنية اللازمة لإتمام التفاعل الذى يستدل عليه من ثبات كمية الغاز المتجمعة بالسرنجة

معادلة التفاعل

$$Fe + 2HCl \xrightarrow{\text{مخفف}} FeCl_2 + H_2\uparrow$$

حديد — حمض الهيدروكلوريك — كلوريد الحديد (II) — هيدروجين

الملاحظة

معدل تفاعل حمض الهيدروكلوريك مع برادة الحديد أسرع مما فى حالة قطعة الحديد.

التفسير

مساحة سطح برادة الحديد المعرض للتفاعل مع الحمض أكبر من مساحة سطح قطعة الحديد، لذلك ينتهى التفاعل فى حالة برادة الحديد فى زمن أقل مما فى حالة قطعة الحديد.

الاستنتاج

تزداد سرعة التفاعل الكيميائى بزيادة مساحة سطح المواد المتفاعلة المعرض للتفاعل.

علل ؟

(١) تزداد سرعة التفاعل الكيميائى بزيادة مساحة سطح المواد المتفاعلة المعرض للتفاعل.

لزيادة عدد جزيئات المواد المتفاعلة المعرض للتفاعل.

(٢) يفضل استخدام النيكل المجزأ فى هدرجة الزيوت بدلاً من قطع النيكل.

لأن مساحة السطح المعرض للتفاعل فى حالة النيكل المجزأ أكبر مما فى حالة قطع النيكل وسرعة التفاعل الكيميائى تزداد بزيادة مساحة السطح المعرض للتفاعل.

تدريب 1

انظر كراسة الواجب

ع: سرعة التفاعل الكيميائى إلى أثر طبيعة المتفاعلات على سرعة التفاعل الكيميائى

اختبر فهمك

أكمل ما يأتى :

(١) $2N_2O_5 \longrightarrow$ ..... $+ O_2\uparrow$ (المعلوم ٢٠١٩)

(٢) تتوقف طبيعة المواد المتفاعلة على ..... و ..... (الفيوم ٢٠١٧)

(٣) المركبات التساهمية تكون تفاعلاتها بطيئة لأنها تتم بين ..... ، (جنوب سيناء ٢٠١٦)

بينما المركبات الأيونية تكون تفاعلاتها سريعة لأنها تتم بين ..... (الدقهلية ٢٠١٦)

اختر : كل مما يأتى يؤثر على معدل التفاعل الكيميائى، عدا ..... (الجيزة ٢٠١٥)

(أ) تركيز المتفاعلات. (ب) طبيعة المتفاعلات.

(ج) طبيعة النواتج. (د) درجة حرارة التفاعل.

صوب ما تحته خط :

(١) التفاعلات الكيميائية التى تحدث فى باطن الأرض لتكوين البترول تحتاج لعدة شهور. (الغربية ٢٠١٦) (.....)

(٢) يسمى التغير فى حجم المواد المتفاعلة والمواد الناتجة فى وحدة الزمن بسرعة التفاعل الكيميائى. (بنى سويف ٢٠١٨) (.....)

(٣) فى بداية التفاعل الكيميائى تكون نسبة تركيز المتفاعلات صفر. (السويس ٢٠١٦) (.....)

من الشكل المقابل :

(١) اكتب المعادلة الكيميائية الدالة على التفاعل.

* .....

(٢) كيف تقاس سرعة هذا التفاعل عمليًا ؟ (الإسماعيلية ٢٠١٩)

* .....

.....

الشكل المقابل يمثل تفاعل كتلتان متساويتان من كربونات الكالسيوم مع حجمان متساويان من حمض الهيدروكلوريك المخفف، **ما التفسير العلمى** لزيادة معدل التفاعل فى الأنبوبة (٢) عنه فى الأنبوبة (١) ؟

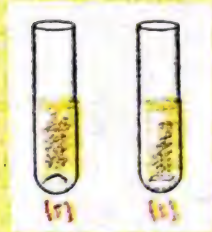

* .....

.....

2 تركيز المتفاعلات

• يحدث التفاعل الكيميائي بين الذرات في شكل مركبات تتكون أكبر مما في الشكل التالي:

• ويسمى الكيمياء ...

عند زيادة تركيز (عدد جزيئات) المواد المتفاعلة

... ما النتائج المترتبة على ذلك ؟

يزداد عدد التصادمات الحادثة بين الجزيئات وبالتالي تزداد سرعة التفاعل الكيميائي

(علاقة طردية)



نشاط 2 أثر تركيز المتفاعلات على سرعة التفاعل الكيميائي

المواد والأدوات المستخدمة

• دورقان. • سرنجتان. • شريطان متماثلان من الماغنسيوم.
• حمضان متساويان من حمض الهيدروكلوريك أحدهما مخفف والآخر مركز. • ساعة إيقاف.

الخطوات

(١) أضع شريط ماغنسيوم في كل دورق.

(٢) أضف إلى أحد الدورقين كمية من الحمض المخفف وإلى الآخر نفس الكمية من الحمض المركز باستخدام الماصة وتحت إشراف معلمك.

(٣) قارن بين عدد الفقاعات المتصاعدة خلال فترة زمنية معينة بمراقبة كمية الغاز المتجمعة في كل من السرنجتين.

نقاس سرعة (معدل) هذا التفاعل عن طريق كمية الغاز المتصاعد (المتجمعة بالسرنجة) خلال فترة زمنية معينة

$$Mg + 2HCl \longrightarrow MgCl_2 + H_2\uparrow$$

ماغنسيوم — حمض الهيدروكلوريك — كلوريد الماغنسيوم — هيدروجين

الملاحظة

• عدد الفقاعات المتصاعدة (كمية الغاز المتجمعة في السرنجة) في حالة استخدام الحمض المركز أكبر مما في حالة استخدام الحمض المخفف.

• معدل تفاعل الماغنسيوم مع حمض الهيدروكلوريك المركز أسرع مما في حالة الحمض المخفف.

التفسير

عدد جزيئات الحمض في المحلول المركز أكبر من عددها في المحلول المخفف منه، وهو ما يؤدي إلى زيادة عدد التصادمات المحتملة بين الجزيئات المتفاعلة فتزداد سرعة التفاعل الكيميائي.

الاستنتاج

تزداد سرعة التفاعل الكيميائي بزيادة تركيز المواد المتفاعلة.

علل ؟

(١) تزداد سرعة التفاعل الكيميائي بزيادة تركيز المواد المتفاعلة.

لأنه بزيادة تركيز المتفاعلات يزداد عدد الجزيئات المتفاعلة وبالتالي يزداد عدد التصادمات المحتملة بينها.

(٢) احتراق سلك تنظيف الألومنيوم في دورق به أكسجين نقي أسرع من احتراقه في أكسجين الهواء الجوي.

لزيادة تركيز غاز الأكسجين في الدورق عن تركيزه في الهواء الجوي وسرعة التفاعل الكيميائي (معدل احتراق سلك الألومنيوم) تزداد بزيادة تركيز أحد المتفاعلات (غاز الأكسجين).

ألومنيوم مشتعل في
أكسجين نقي (تركيز ١٠٠٪) — أكسجين الهواء الجوي (تركيز ٢١٪)

أداء ذاتى

الشكل المقابل يمثل تفاعل كتلتان متساويتان من القارصين مع حجمان متساويان من حمض الكبريتيك بتركيزين مختلفين، أى الكأسين تحتوى على الحمض ذو التركيز الأعلى ؟ مع التعليل.

◄ **الحل :**

الكأس (.....) / لأن ..... المتصاعدة فيه .....

مما فى الكأس (.....).

٣ درجة حرارة التفاعل

• عند رفع درجة حرارة المواد المتفاعلة

... **ما النتائج المترتبة على ذلك ؟**

تزداد سرعة جزيئات المتفاعلات وبالتالى يزداد عدد التصادمات المحتملة بينها فتزداد سرعة التفاعل الكيميائى

(علاقة طردية)



يزداد عدد التصادمات بين جزيئات المتفاعلات بزيادة درجة الحرارة

ملحوظة !

يزداد معدل معظم التفاعلات الكيميائية برفع درجة حرارة المتفاعلات

نشاط 3 أثر درجة الحرارة على سرعة التفاعل الكيميائى

المواد و الأدوات المستخدمة

• كأسين زجاجيتين بهما حجمين متساويين من الماء أحدهما ساخن والآخر بارد.

• قرصين فوار.

أقراص فوار
(أقراص فيتامين C)

الخطوات

ضع أحد القرصين فى الماء الساخن، والآخر فى الماء البارد، ثم قارن بينهما من حيث سرعة حدوث الفوران.

الملاحظة

الفوران الحادث فى حالة الماء الساخن أسرع مما فى حالة الماء البارد.



ماء ساخن — ماء بارد
الفوران الحادث فى حالة الماء الساخن أسرع مما فى حالة الماء البارد

التفسير

سرعة الجزيئات المتفاعلة فى حالة الماء الساخن أكبر من سرعتها فى حالة الماء البارد وهو ما يؤدى إلى زيادة عدد التصادمات المحتملة بين الجزيئات فتزداد سرعة التفاعل الكيميائى.

الاستنتاج

تزداد سرعة التفاعل الكيميائى بزيادة درجة حرارة التفاعل.

علل ؟

(١) تزداد سرعة التفاعل الكيميائى برفع درجة الحرارة.

لزيادة سرعة جزيئات المواد المتفاعلة وبالتالى زيادة عدد التصادمات المحتملة بينها.

(٢) تبريد الطعام فى الثلاجة يحفظه من التلف.

لأن درجة الحرارة المنخفضة فى الثلاجة تبطئ من سرعة التفاعلات الكيميائية التى تحدثها البكتيريا والتى تسبب تلف الطعام.

(٣) رفع درجة الحرارة يؤدى إلى طهى الطعام بسرعة أكبر.

لأن سرعة تفاعلات طهى الطعام تزداد بارتفاع درجة الحرارة.

قبل — بعد

رفع درجة الحرارة

أداء ذاتى

الأشكال التالية توضح تفاعل كتل متساوية من الكالسيوم مع كميات متساوية من فى ظروف مختلفة، فى أى حالة يتم التفاعل بشكل أسرع ؟ ولماذا ؟



الحل :

الشكل (.....) / لأن معدل التفاعل الكيميائى يزداد بزيادة كل من ..... ، .....

٤ العوامل الحفازة (المساعدة) Catalysts

- هناك تفاعلات كيميائية بطيئة جدًا وأخرى سريعة جدًا، ولزيادة أو خفض سرعة هذه التفاعلات يضاف إليها مواد كيميائية معينة لا تؤثر على طبيعة النواتج.

وتعرف مثل هذه المواد الكيميائية بالعوامل الحفازة (المساعدة).

العامل الحفاز (المساعد)

مادة كيميائية تغير من معدل التفاعل الكيميائى دون أن تتغير.

- وتعرف التفاعلات الكيميائية التى تستخدم فيها العوامل الحفازة بتفاعلات الحفز والتى تنقسم إلى نوعين تبعًا لدور العامل الحفاز فيها.

كما يتضح من المخطط التالى :

أنواع تفاعلات الحفز

تفاعلات الحفز الموجب ↑
تفاعلات كيميائية
يقوم فيها العامل الحفاز
بزيادة سرعتها

تفاعلات الحفز السالب ↓
تفاعلات كيميائية
يقوم فيها العامل الحفاز
بخفض سرعتها

خواص العامل الحفاز

١. يغير من سرعة التفاعل ولكنه لا يؤثر على بدء أو إيقاف التفاعل
٢. غالبًا ما تكفى كمية صغيرة منه لإتمام التفاعل
٣. يرتبط أثناء التفاعل بالمواد المتفاعلة، وسرعان ما ينفصل عنها بعد تكوين النواتج
٤. يقلل من الطاقة اللازمة لحدوث التفاعل الكيميائى
٥. لا يحدث له أى تغير كيميائى أو نقص فى كتلته بعد انتهاء التفاعل

لاحظ فقط

شكل تخطيطى يوضح أن العامل الحفاز يرتبط بالمواد المتفاعلة وسرعان ما ينفصل عنها بعد تكوين النواتج ولا يحدث له تغير كيميائى :

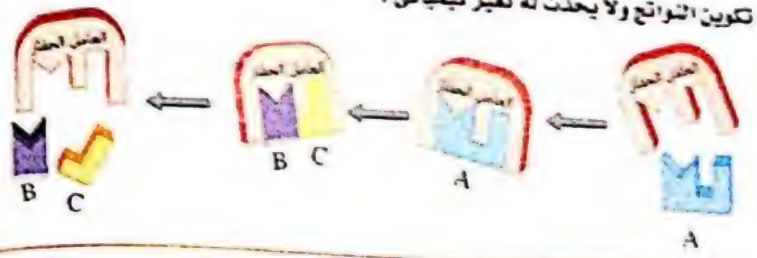

• النشاط التالى يوضح أثر ثانى أكسيد المنجنيز كعامل حفاز على سرعة تفكك فوق أكسيد الهيدروجين :

نشاط 4 أثر العامل الحفاز على سرعة التفاعل الكيميائى

المواد و الأدوات المستخدمة

• كأس زجاجية.
• كمية من فوق أكسيد الهيدروجين H_2O_2
• مسحوق ثانى أكسيد المنجنيز MnO_2 (عامل حفاز).

الخطوات

(١) ضع فوق أكسيد الهيدروجين فى الكأس، ثم أضف إليه مقدار صغير من مسحوق ثانى أكسيد المنجنيز.
(٢) قارن بين عدد الفقاعات المتصاعدة قبل وبعد إضافة ثانى أكسيد المنجنيز.

الملاحظة

زيادة عدد الفقاعات المتصاعدة عند إضافة مسحوق ثانى أكسيد المنجنيز إلى فوق أكسيد الهيدروجين.



تزداد سرعة التفاعل الكيميائى بإضافة عامل حفاز

التفسير

ثانى أكسيد المنجنيز عامل حفاز يزيد من سرعة تفكك فوق أكسيد الهيدروجين إلى ماء وغاز الأكسجين الذى يتصاعد على هيئة فقاعات.

الاستنتاج

تزداد سرعة التفاعل الكيميائى بإضافة عامل حفاز.

لاحظ فقط

$$\underset{\text{فوق أكسيد الهيدروجين}}{2H_2O_2} \xrightarrow{MnO_2} \underset{\text{ماء}}{2H_2O} + \underset{\text{أكسجين}}{O_2\uparrow}$$

أداء ذاتى

الشكل البيانى المقابل يمثل العلاقة البيانية (التركيز - الزمن) لتفاعل ما :

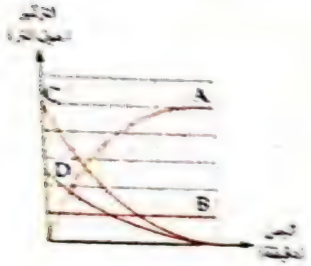

(١) حدد الرمز (الرموز) الدال على كل مما يأتى :
١- المتفاعلات. ٢- النواتج. ٣- العامل الحفاز.

(٢) اكتب المعادلة الرمزية الدالة على التفاعل.

الحل :

(١) ١- ..... ، ..... ٢- ..... ٣- B

(٢) ..... $\xrightarrow{B}$ ..... + ...

الإنزيمات Enzymes

• يحتوى جسم الإنسان على آلاف من المواد الكيميائية التى تقوم بنفس دور العوامل الحفازة فى المعمل، وتُعرف هذه المواد باسم الإنزيمات.

الإنزيمات

مواد كيميائية ينتجها جسم الكائن الحى تعمل كعوامل حفازة تزيد من سرعة التفاعلات البيولوجية (الحيوية).

• تتم التفاعلات البيولوجية (الحيوية) فى وجود الإنزيمات بسرعة تفوق آلاف أو ملايين المرات فى حالة عدم وجودها.

• يؤدى كل إنزيم وظيفة واحدة محددة ويمكن للإنزيم أن يؤدى عمله كاملًا مليون مرة فى الدقيقة وبدونه لا تتم عمليات التنفس أو الهضم أو الحركة أو غيرها ...

• النشاط التالى يوضح أثر إنزيم الأوكسيديز - الذى يوجد فى البطاطا - على سرعة تفكك فوق أكسيد الهيدروجين :

نشاط 5 أثر الإنزيمات على سرعة التفاعل الكيميائى

المواد و الأدوات المستخدمة

- كأس زجاجية.
- قطعة بطاطا.
- كمية من فوق أكسيد الهيدروجين.

الخطوات

(١) ضع فوق أكسيد الهيدروجين فى الكأس، ثم أضف إليها قطعة البطاطا.

(٢) قارن بين عدد الفقاعات المتصاعدة قبل وبعد إضافة قطعة البطاطا.



إضافة قطعة البطاطا إلى فوق أكسيد الهيدروجين

الملاحظة

زيادة عدد الفقاعات المتصاعدة عند إضافة قطعة البطاطا إلى فوق أكسيد الهيدروجين.

التفسير

تحتوى البطاطا على إنزيم الأوكسيديز الذى يزيد من سرعة تفكك فوق أكسيد الهيدروجين إلى ماء وغاز الأكسجين.

الاستنتاج

تزداد سرعة التفاعل الكيميائى بإضافة إنزيم.

★ يمكن إجمال ما سبق فى المخطط التالى :

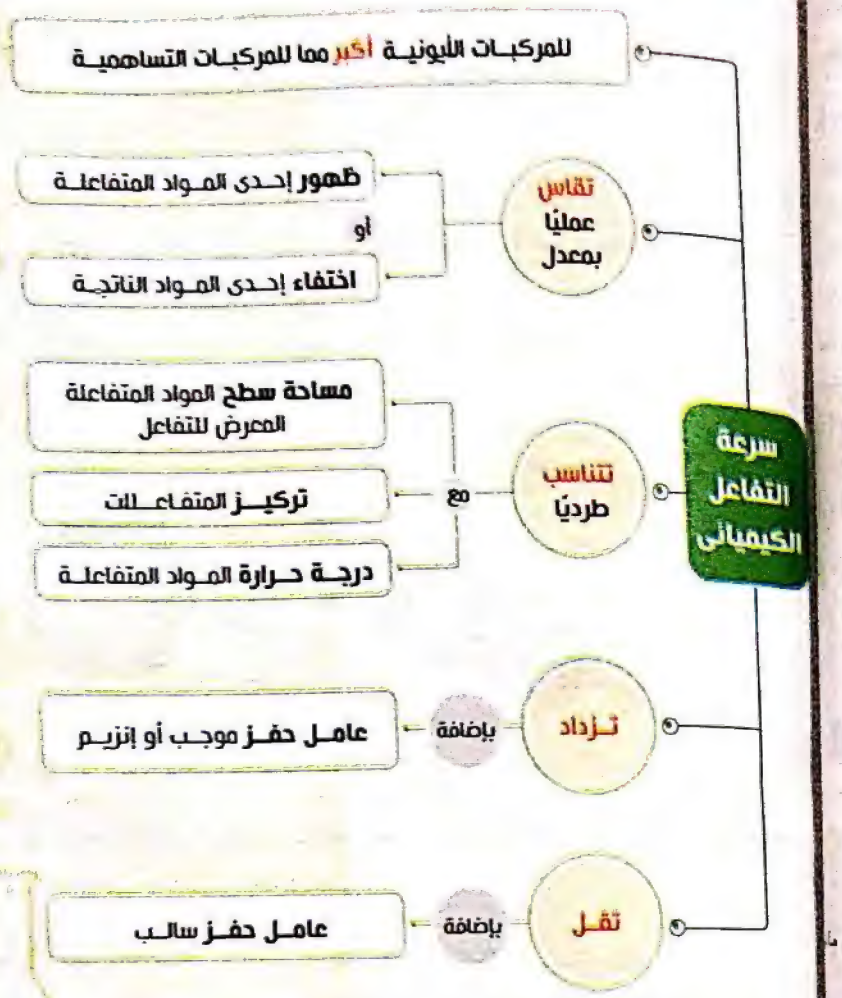

العلم و التكنولوجيا و المجتمع المحول الحفزى Catalytic converter

المحول الحفزى

عبارة معدنية توجد فى السيارات الحديثة لمعالجة الغازات الضارة الناتجة عن احتراق الوقود قبل طردها.

التركيب

يتركب من ثلاث شُعب كل منها عبارة عن خلايا مصنوعة من الخزف أو السيراميك تشبه خلايا شمع النحل، مطلية بطبقة رقيقة من عامل حفاز كالبلاتين أو الأيريديوم أو البلاديوم (فلزات ثمينة). ويتصل المحول الحفزى بأنبوب لطرد غازات عوادم الاحتراق.

الأهمية

تقوم كل شُعبة من الشُعب الثلاث بمعالجة واحد من الغازات الضارة الناتجة عن احتراق الوقود فى المحرك قبل طردها للحد من التلوث البيئى.

فكرة العمل

- العوامل الحفازة تزيد من سرعة تفاعلات معالجة غازات الاحتراق الضارة.
- الخلايا السيراميكية المشابهة لخلايا شمع النحل تعمل على زيادة مساحة السطح المعرض لتيار الغازات المنبعثة من المحرك مما يحقق أكبر وفر فى استخدام المعادن الثمينة.

العلم و التكنولوجيا و المجتمع استخدامات بيكربونات الصوديوم فى حياتنا اليومية

فى المنزل

- ضع قليلاً من بيكربونات الصوديوم فى كيس النفاية الكهربائية ... علل؟
  للتخلص من رائحة الغازات التى تظهر أثناء التنظيف.
- ضع قليلاً من بيكربونات الصوديوم فى الحوض وصب عليه الماء المغلى ... علل؟
  لتذيبه وتصريفه بشكل أسرع.
- ضع قليلاً من بيكربونات الصوديوم فى قاع سلة المهملات قبل وضع الكيس ... علل؟
  لمنع الروائح الكريهة.
- انقع البقوليات فى الماء وأضف إليها قليلاً من بيكربونات الصوديوم ... علل؟
  للتخلص من الانتفاخ المصاحب لأكل البقوليات.

تنقع البقوليات فى الماء المضاف إليه بيكربونات الصوديوم للتخلص من الانتفاخ المصاحب لتناولها

فى تلميع المعادن

- ضع الأدوات الفضية فى إناء مغطى بورق الألومنيوم (القصدير)، ثم غطها بالماء المغلى المضاف إليه بيكربونات الصوديوم، ثم جففها بعد شطفها بالماء ليعود إليها بريقها.
- دلك القطع المعدنية المصنوعة من النحاس أو الكروم بقطعة من القماش المبللة بالماء والمغموسة فى بيكربونات الصوديوم لتعيد إليها رونقها.

فى الحديقة

- ضع بيكربونات الصوديوم فى أماكن خروج النمل بدون إضافات ومع مرور الوقت والمداومة سوف تلاحظ اختفاء النمل.

مراجعة شاملة على الدرس | أنظر | مفكرة الامتحان

تدريب 2

أنظر كراسة التدريبات

انظر توضيح التعديلات فى آخر الدرس

أسئلة — الوحدة 1 — الدرس الثاني

أولاً أسئلة الكتاب المدرسي مجاب عنها

١ أكمل العبارات التالية :

(١) فى بداية التفاعل الكيميائى تكون نسبة تركيز المتفاعلات ..... ٪ (الإسماعيلية)

(٢) التغير فى تركيز المواد المتفاعلة والمواد الناتجة من التفاعل فى وحدة الزمن يعرف بـ ..... (أسوان)

(٣) بزيادة تركيز المواد المتفاعلة ..... سرعة التفاعل الكيميائى. (البحيرة)

(٤) المركبات التساهمية تكون تفاعلاتها ..... (الشرقية)

(٥) تفاعل مسحوق كلوريد الصوديوم ..... من تفاعل مكعب منه مساوٍ له فى الكتلة. (شمال سيناء)

(٦) المادة التى تزيد من سرعة التفاعل الكيميائى، دون أن تدخل فى التفاعل تسمى ..... (أسوان)

٢ بم تفسر :

(١) تستخدم الثلاجة فى حفظ الأطعمة. (الإسكندرية)

(٢) التفاعلات بين المركبات الأيونية سريعة، بينما بين المركبات التساهمية بطيئة. (بورسعيد)

(٣) تزداد سرعة التفاعل الكيميائى بزيادة تركيز المواد المتفاعلة. (القاهرة)

٣ المعادلة التالية توضح تفكك المركب X : (الأقصر ١٩)

$$2X \longrightarrow 2Y + Z$$

والشكل البيانى المقابل يوضح التغير فى تركيز كل من المتفاعلات والنواتج بمرور الزمن.

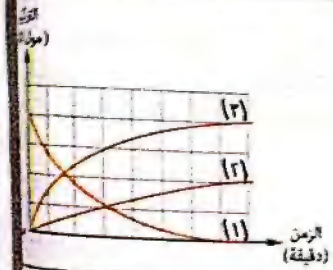

اكتب مستعينًا بالشكل البيانى المقابل رمز الحرف الذى يشير إليه كل رقم.

٤ وضح بتجربة عملية تأثير (أهمية) كل من :

(١) العامل المساعد (الحفاز) فى التفاعلات الكيميائية. (المنيا)

(٢) مساحة السطح على سرعة التفاعل الكيميائى. (الدقهلية)

(٣) درجة الحرارة على سرعة التفاعل الكيميائى. (أسيوط)

ثانيًا أسئلة كتاب الامتحان مجاب عنها

ثم الانتقال إلى أسئلة كل درس على حدة

١ اختر الإجابة الصحيحة مما بين الإجابات المعطاة :

من سرعة التفاعل إلى أثر طبيعة المتفاعلات على سرعة التفاعل الكيميائى

(١) يعتبر تفاعل الزيت مع الصودا الكاوية من التفاعلات ..... (الوادى الجديد ١٩)

(أ) السريعة جدًا. (ب) البطيئة نسبيًا. (ج) البطيئة جدًا. (د) البطيئة جدًا جدًا.

(٢) فى بداية التفاعل تكون نسبة تركيز المتفاعلات ..... (القاهرة ٢١)

(أ) ١٠٠٪ (ب) صفر (ج) ٥٠٪ (د) ٢٥٪

(٣) فى التفاعل : $H_2 + Cl_2 \longrightarrow 2HCl$ (السويس ٢١)

أى العبارات الآتية تصف معدل هذا التفاعل الكيميائى ؟ ..... بمرور الزمن.

(أ) يزداد تركيزى H_2 ، HCl (ب) يزداد تركيزى Cl_2 ، H_2

(ج) يزداد تركيز HCl (د) يقل تركيزى Cl_2 ، HCl

(٤) الصيغة الكيميائية لغاز خامس أكسيد النيتروجين هى ..... (الدقهلية ١٩)

(أ) NO_2 (ب) N_5O_2 (ج) $5NO_2$ (د) N_2O_5

(٥) تقاس سرعة تفاعل محلول هيدروكسيد الصوديوم مع محلول كبريتات النحاس بمعدل اختفاء لون .....

(أ) هيدروكسيد النحاس. (ب) كبريتات الصوديوم.

(ج) كبريتات النحاس. (د) هيدروكسيد الصوديوم.

(٦) تفاعل نترات الفضة مع كلوريد الصوديوم من التفاعلات ..... (أسوان سيناء ١٨)

(أ) السريعة. (ب) المتوسطة. (ج) البطيئة. (د) البطيئة جدًا.

(٧) معدل تفاعل حمض الهيدروكلوريك المخفف مع برادة حديد أسرع منه مع قطعة حديد مساوية لها فى الكتلة، ما العامل المؤثر على هذا التفاعل ؟ ..... (الشرقية ٢١)

(أ) طبيعة المتفاعلات. (ب) تركيز المتفاعلات.

(ج) درجة حرارة التفاعل. (د) إضافة عامل حفاز.

من أثر تركيز المتفاعلات إلى آخر الدرس

(٨) زيادة تركيز المواد المتفاعلة أثناء التفاعل الكيميائى تجعل عدد التصادمات بين الجزيئات المتفاعلة ..... (أسيوط ١٩)

(أ) يقل. (ب) يزداد. (ج) يقل ثم يزداد. (د) يتوقف.

(٩) فى كل أنبوبة من الأنابيب التالية، تم إضافة ٢ جم من كربونات الكالسيوم إلى ١٠ سم³ من حمض الهيدروكلوريك، فى أيًا منهم يتم التفاعل بشكل أسرع ؟ .....

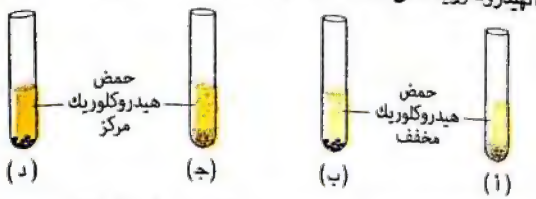

(١٠) أيًا من هذه التفاعلات تؤدى إلى إنتاج غاز H_2 بالمعدل الأبطأ ؟ .....

(أ) مسحوق Mg مع حمض HCl تركيزه 2 M

(ب) شريط Mg مع حمض HCl تركيزه 2 M

(جـ) مسحوق Mg مع حمض HCl تركيزه 1 M

(د) شريط Mg مع حمض HCl تركيزه 1 M

(١١) معدل معظم التفاعلات الكيميائية ..... بارتفاع درجة الحرارة. (الفيوم)

(أ) يزداد (ب) يقل (جـ) لا يتأثر

(١٢) عند رفع درجة حرارة تفاعل كيميائى يزداد معدل التفاعل لزيادة ..... (الإسكندرية)

(أ) مساحة السطح المعرض للتفاعل. (ب) عدد الجزيئات المتفاعلة.

(جـ) عدد التصادمات المحتملة بين الجزيئات المتفاعلة. (د) تركيز المتفاعلات.

(١٣) تزداد سرعة تفكك فوق أكسيد الهيدروجين بإضافة ..... (الفيوم)

(أ) أكسيد المنجنيز. (ب) أكسيد الماغنسيوم.

(جـ) ثانى أكسيد المنجنيز. (د) ثانى أكسيد الكربون.

(١٤) عند إضافة ثانى أكسيد المنجنيز إلى فوق أكسيد الهيدروجين، فإن ..... (الإسكندرية)

(أ) ثانى أكسيد المنجنيز يعمل كعامل حفاز وتقل كتلته بنهاية التفاعل.

(ب) ثانى أكسيد المنجنيز يعمل كعامل حفاز ولا يتغير تركيبه.

(جـ) فوق أكسيد الهيدروجين ينحل ويتصاعد غاز الهيدروجين.

(د) فوق أكسيد الهيدروجين لا يتغير تركيبه ولا تنقص كتلته.

(١٥) تعمل الإنزيمات ..... فى العديد من العمليات البيولوجية. (الأقصر)

(أ) كعوامل مؤكسدة (ب) كمواد مطهرة

(جـ) كعوامل مختزلة (د) كعوامل حفازة

(١٦) يحتوى نبات البطاطا على إنزيم الأوكسيديز الذى يزيد من معدل تفكك محلول .....

(أ) كلوريد الهيدروجين. (ب) كلوريد الصوديوم.

(جـ) فوق أكسيد الهيدروجين. (د) كربونات الصوديوم. (الفيوم)

(١٧) أجريت تجربة للتعرف على أثر الإنزيمات على سرعة التفاعل الكيميائى باستخدام ١٥ سم³ من فوق أكسيد الهيدروجين وقطعة (قطع) من البطاطا حجمها ٣ سم³، فى أيًا من الأشكال التالية ينتفخ البالون أولًا ؟ .....

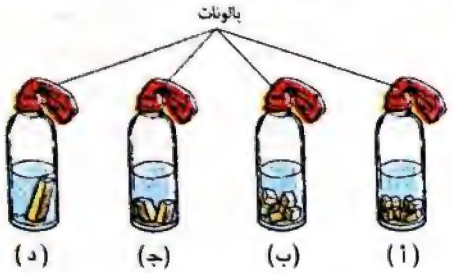

(١٨) تعمل الخلايا السيراميكية فى المحول الحفزى على زيادة .....

(أ) تركيز المتفاعلات.

(ب) مساحة سطح المادة الحفازة المعرض للتفاعل.

(جـ) درجة الحرارة.

(د) عوادم الاحتراق.

٢ اكتب المصطلح العلمى الدال على كل عبارة من العبارات الآتية :

من سرعة التفاعل إلى أثر طبيعة المتفاعلات على سرعة التفاعل الكيميائى

(١) التغير فى تركيز المواد المتفاعلة والمواد الناتجة من التفاعل فى وحدة الزمن. (التجريبية ٣١)

(٢) مركبات تفاعلاتها الكيميائية بطيئة حيث تتم بين جزيئاتها. (الإسكندرية ٣١)

من أثر تركيز المتفاعلات إلى آخر الدرس

(٣) * مادة كيميائية تغير من معدل التفاعل الكيميائى دون أن تتغير. (القاهرة ٣١)

* مادة تزيد من سرعة التفاعل الكيميائى دون أن تدخل أو تستهلك فيه. (أسيوط ٣١)

(٤) تفاعلات كيميائية يقوم فيها العامل الحفاز بزيادة سرعتها. (الوادى الجديد ١٩)

(٥) تفاعلات يتم فيها إضافة مادة كيميائية تقلل من سرعة التفاعل الكيميائى، دون حدوث أى تغير كيميائى لهذه المادة. (المنوفية ١٩)

(٦) العامل الحفاز الذى يقوم بخفض سرعة التفاعل الكيميائى. (الجيزة ٣١)

(٧) مواد كيميائية ينتجها جسم الكائن الحى تعمل كعوامل حفازة تزيد من سرعة التفاعلات البيولوجية (الحيوية). (البحيرة ٣١)

(٨) إنزيم يوجد فى البطاطا، يحفز عملية انحلال فوق أكسيد الهيدروجين. (الشرقية ١٩)

(٩) علبة معدنية متصلة بأنبوب طرد غازات عوادم الاحتراق فى السيارات الحديثة. (الشرقية ١٩)

٣ اختر من العمود (B) ما يناسب العمود (A) :

(A)	(B)
التفاعل الكيميائي	يستدل على سرعته بمعدل
(١) محلول كلوريد الصوديوم مع محلول نترات الفضة	(١) تكون الراسب الأزرق.
(٢) تفكك خامس أكسيد النيتروجين	(٢) استهلاك العامل الحفاز.
(٣) محلول كبريتات النحاس مع محلول هيدروكسيد الصوديوم	(٣) تكون الراسب الأبيض.
	(٤) الزيادة في تركيز غاز NO_2

٤ أكمل ما يأتي بما يناسبه :

من سرعة التفاعل إلى أثر طبيعة المتفاعلات على سرعة التفاعل الكيميائي

(١) يعتبر تفاعل صدأ الحديد من التفاعلات .....، بينما تفاعل الألعاب النارية من التفاعلات ..... (الشرقية)

(٢) أثناء التفاعل الكيميائي ..... تركيز المتفاعلات تدريجياً، بينما ..... تركيز النواتج تدريجياً. (الفيوم)

(٣) يتفكك خامس أكسيد النيتروجين إلى غازي ..... و ..... (أسوان مبدئي)

(٤) في بداية التفاعل : $2N_2O_5 \longrightarrow 4NO_2 + O_2$ تكون نسبة N_2O_5 .....، بينما نسبة NO_2 ..... (الفيوم)

(٥) تقاس سرعة التفاعل الكيميائي عملياً بمعدل ..... إحدى المواد المتفاعلة أو ..... إحدى المواد الناتجة. (الفيوم)

(٦) $Fe + 2HCl \xrightarrow{\text{مخفف}} FeCl_2 + H_2\uparrow$ (الدقهلية)

من أثر تركيز المتفاعلات إلى آخر الدرس

(٧) زمن ذوبان قرص من الفوار في حجم معين من الماء البارد ..... زمن ذوبان قرص مماثل في نفس الحجم من الماء الساخن. (الدقهلية)

(٨) تنقسم تفاعلات الحفز تبعاً لدور العامل الحفاز إلى تفاعلات ..... وتفاعلات ..... (بني سويف)

(٩) أغلب العوامل المساعدة تزيد من سرعة التفاعل وتسمى ..... (بني سويف)

(١٠) الطاقة التي تقلل من الطاقة اللازمة لحدوث التفاعل الكيميائي تسمى ..... (الدقهلية)

(١١) يغير العامل الحفاز من سرعة التفاعل الكيميائي دون أن يؤثر على ..... أو ..... التفاعل. (سوهاج)

(١٢) يمكن زيادة معدل تفكك فوق أكسيد الهيدروجين بإضافة مادة ..... أو قطعة ..... (الإسكندرية)

(١٣) يوجد في معظم السيارات الحديثة ..... لمعالجة الغازات الضارة الناتجة عن احتراق الوقود قبل طردها. (الجيزة)

(١٤) يستخدم في المحول الحفزي عوامل حفازة مثل ..... أو الأيريديوم وهي تعمل على ..... (الدقهلية)

٥ صوب ما تحته خط :

من سرعة التفاعل إلى أثر طبيعة المتفاعلات على سرعة التفاعل الكيميائي

(١) التفاعلات التي تحدث في باطن الأرض لتكوين صدأ الحديد تحتاج ملايين السنين. (بني سويف)

(٢) عند إضافة محلول هيدروكسيد الصوديوم إلى محلول كبريتات النحاس يتكون محلول كبريتات صوديوم أزرق اللون. (السويس)

(٣) المركبات الأيونية تفاعلاتها سريعة لأنها تتفكك إلى جزيئات يسهل اشتراكها في التفاعل. (الشرقية)

(٤) تفاعل حمض الهيدروكلوريك مع كمية من برادة الحديد أسرع من تفاعله مع قطعة من الحديد مساوية لها في الكتلة وذلك لزيادة التركيز. (قنا)

(٥) $Fe + 2HCl \xrightarrow{\text{مخفف}} Fe_2Cl_3 + H_2\uparrow$ (الشرقية)

من أثر تركيز المتفاعلات إلى آخر الدرس

(٦) عدد جزيئات الحمض في المحلول المركز أقل من عددها في المحلول المخفف عند (بني سويف)

(٧) زيادة تركيز النواتج يؤدي إلى زيادة عدد التصادمات بين الجزيئات وبالتالي تزداد سرعة التفاعل الكيميائي. (جنوب سيناء)

(٨) تزداد سرعة معظم التفاعلات الكيميائية بثبات درجة الحرارة. (الوادي الجديد)

(٩) في تفاعلات الحفز الموجب يقوم العامل الحفاز بخفض سرعة التفاعل الكيميائي. (الإسماعيلية)

(١٠) العوامل المساعدة التي تزيد من سرعة التفاعل الكيميائي تسمى عوامل حفز سالب. (الإسماعيلية)

(١١) عند استخدام ٣ جرام من عامل حفاز في تفاعل ما، فإن كتلة العامل الحفاز بعد انتهاء التفاعل تكون أقل من ٣ جرام. (مطروح)

(١٢) تعمل الإنزيمات على ثبات سرعة التفاعلات البيولوجية داخل جسم الإنسان. (بني سويف)

٦ اذكر أهمية أو استخداماً واحداً لكل من :

(١) العامل المساعد في التفاعل الكيميائي. (السويس)

(٢) ثاني أكسيد المنجنيز. (جنوب سيناء)

(٣) الإنزيمات. (الحيوية)

(٤) إنزيم الأوكسيديز في الطماطم. (مطروح)

(٥) المحولات الحفزية في السيارات الحديثة. (الحيوية)

٢ وضح بالمعادلات الرمزية الموزونة كل من التفاعلات التالية:

(١) تفاعل تفكك حامض كبريت التيتروجين. (الإسكندرية)

(٢) تفاعل حمض الهيدروكلوريك المخفف مع برادة الحديد. (شمال سيناء)

(٣) تفاعل الماغنسيوم مع حمض الهيدروكلوريك المخفف.

٣ علل لما يأتي:

من سرعة التفاعل إلى كم طبيعة المتفاعلات على سرعة التفاعل الكيميائي

(١) معدل تفاعل المركبات الأيونية أكبر من معدل تفاعل المركبات التساهمية. (الوادي الجديد)

(٢) يُعد تفاعل محلول كلوريد الصوديوم مع محلول نترات الفضة من التفاعلات السريعة.

(٣) تزداد سرعة التفاعل الكيميائي بزيادة مساحة سطح المواد المتفاعلة المعرض للتفاعل.

(٤) تفاعل حمض الهيدروكلوريك مع برادة الحديد أسرع من تفاعله مع قطعة من الحديد مساوية لها في الكتلة. (مطروح)

(٥) يفضل استخدام الثلج المجرش في مدرجة الزيوت بدلاً من قطع الثلج. (الجيزة)

من كم تركيز المتفاعلات إلى آخر الدرس

(٦) تزداد سرعة التفاعل الكيميائي كلما ازداد تركيز المتفاعلات. (الجيزة)

(٧) تفاعل الماغنسيوم مع الأحماض المركزة أسرع من تفاعله مع الأحماض المخففة.

(٨) احتراق سلك تشحيف الألومنيوم في مخبار به أكسجين نقي أسرع من احتراقه في أكسجين الهواء الجوي. (الغربية)

(٩) تزداد سرعة التفاعل الكيميائي برفع درجة الحرارة. (أسيوط)

(١٠) تحفظ الأطعمة في الثلاجة. (الإسكندرية)

(١١) استخدام العوامل المساعدة في بعض التفاعلات الكيميائية. (الجيزة)

(١٢) إضافة مسحوق ثاني أكسيد المنجنيز إلى محلول فوق أكسيد الهيدروجين يزيد من معدل التفاعلات الغازية المتصاعدة. (الأقصر)

(١٣) إضافة قطعة من البطاطا إلى كأس بها محلول فوق أكسيد الهيدروجين يزيد من معدل تفككه. (السويس)

٤ ما المصطلح العلمي الدال على:

(١) سرعة التفاعل الكيميائي. (الجيزة) (٢) العامل الحفاز. (السويس)

(٣) تفاعلات الحفز الموجب. (٤) تفاعلات الحفز السالب.

(٥) الإنزيمات. (البحيرة) (٦) المحول الحفزي. (الإسكندرية)

٥ ما المقصود بالعبارات التالية على كل مما يأتي:

من سرعة التفاعل إلى كم طبيعة المتفاعلات على سرعة التفاعل الكيميائي

(١) وصول تركيز المتفاعلات إلى الصفر. (شمال سيناء)

(٢) إضافة محلول هيدروكسيد الصوديوم إلى محلول كبريتات النحاس الزرقاء. (الشرقية)

(٣) تفتيت المتفاعلات المستخدمة في تفاعل كيميائي.

(٤) استبدال برادة حديد بقطعة حديد لها نفس الكتلة عند تفاعله مع الأحماض المخففة. (الجيزة)

(٥) زيادة مساحة السطح المعرض للتفاعل بالنسبة لعدد الجزيئات المتفاعلة ومعدل التفاعل. (الدقهلية)

من كم تركيز المتفاعلات إلى آخر الدرس

(٦) زيادة تركيز المواد المتفاعلة بالنسبة لسرعة التفاعل الكيميائي. (مطروح)

(٧) استبدال حمض الهيدروكلوريك المخفف بحمض الهيدروكلوريك المركز عند تفاعله مع الماغنسيوم. (الجيزة)

(٨) وضع قرصين من الفوار أحدهما في كأس بها ماء ساخن والآخر في كأس بها ماء بارد. .....

(٩) رفع درجة حرارة المواد المتفاعلة. .....

(١٠) ترك الطعام خارج الثلاجة لفترة طويلة. .....

(١١) إضافة عامل حفز سالب لتفاعل كيميائي سريع. .....

(١٢) إضافة مسحوق ثاني أكسيد المنجنيز إلى فوق أكسيد الهيدروجين. .....

(١٣) وضع قطعة من البطاطا في كأس بها فوق أكسيد الهيدروجين. .....

١٢ اشرح نشاطًا توضح به أثر كل مما يأتي على سرعة التفاعل الكيميائي :

(١) تركيز المتفاعلات. (٢) درجة الحرارة.

(٣) العامل الحفاز. (٤) الإنزيمات.

١٣ قارن بين كل من :

(١) المركبات الأيونية و المركبات التساهمية.

(٢) تفاعلات الحفز الموجب و تفاعلات الحفز السالب.

١٤ ادرس الأشكال و الجداول التالية، ثم أجب :

من سرعة التفاعل إلى أثر طبيعة المتفاعلات على سرعة التفاعل الكيميائي

١ الشكل البياني المقابل يوضح معدل تفكك غاز خامس أكسيد النيتروجين : (سوهاج ١٩)

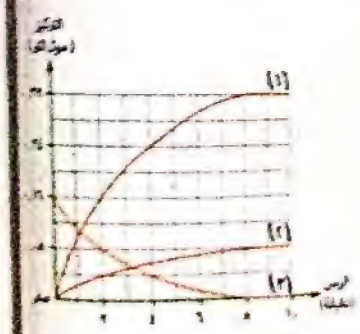

(أ) اكتب المعادلة الرمزية الموزونة الدالة على التفاعل.

(ب) اذكر اسم المركب أو العنصر الذي يشير إليه كل رقم.

(جـ) اذكر نسبة تركيز غاز خامس أكسيد النيتروجين في نهاية التفاعل. (الأزهر ١٩)

٢ الشكل البياني المقابل : يوضح التغير في تركيز المتفاعلات والنواتج عند الاتحاد الحراري لمركب نترات الصوديوم بمرور الزمن. (الدقهلية ٢٠)



أكمل ما يلي :

(أ) المنحنى (١) يعبر عن مركب .....
والمعروف بلونه .....

(ب) المنحنى (٢) يعبر عن مركب .....
والمعروف بلونه .....

٣ من الشكلين المقابلين : (أسيوط ٢٠)



(أ) ما نوع التفاعل الحادث ؟ (الإسماعيلية ٢٠)

(ب) عبر عن هذا التفاعل بمعادلة كيميائية موزونة.

(جـ) ما العامل المؤثر على سرعة هذا التفاعل ؟

(د) ماذا يحدث عند استبدال الحديد بالنحاس ؟ ولماذا ؟

من أثر تركيز المتفاعلات إلى آخر الدرس

٤ من الشكلين التاليين :

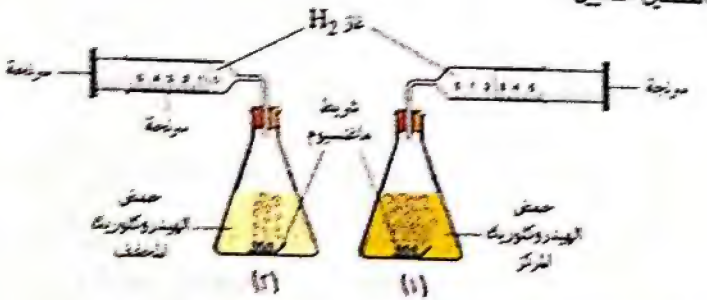

(أ) بم تفسر اختلاف كمية الغاز المتجمعة في كل سرنجة ؟

(ب) اختر : لزيادة كمية الغاز المتجمعة في كل سرنجة يلزم .....
(خفض درجة حرارة التفاعل / استخدام مسحوق من الماغنسيوم / استخدام عامل حفز سالب / إضافة كمية من الماء)

٥ في الشكل المقابل، وضعت ثلاث كميات متماثلة من الخارصين في ثلاث أنابيب، وتم إضافة حمض الهيدروكلوريك إليها بتركيزات مختلفة :



(أ) رتب الأنابيب تصاعديًا حسب تركيز حمض الهيدروكلوريك.

(ب) أي الأنابيب سوف ينتهي فيها التفاعل أولاً ؟ مع تفسير إجابتك.

٦ قامت هايدي بإضافة ثلاثة أقراص فوار في ثلاث كؤوس بها كميات متساوية من ماء متفاوت السخونة فلاحظت اختلاف في سرعة الفوران في كل منها.



رتب هذه الكؤوس تنازليًا تبعًا لدرجة حرارة الماء فيها، مع التفسير.

٧ في أي التجارب الموضحة بالجدول التالي يكون معدل التفاعل بين الخارصين وحمض الهيدروكلوريك أسرع ما يمكن ؟ مع تفسير إجابتك.

التجربة	درجة الحرارة	هيئة الخارصين	تركيز حمض الهيدروكلوريك
(١)	٣٠°م	لوح	مخفف
(٢)	٣٠°م	مسحوق	مخفف
(٣)	٩٠°م	مسحوق	مركز
(٤)	٩٠°م	مسحوق	مخفف
(٥)	٩٠°م	لوح	مركز

٨ أجرى تلاميذ أحد الفصول التجربة الموضحة بالشكل المقابل للتعرف على أثر أحد العوامل على سرعة التفاعل :

(أ) ما العامل المؤثر على سرعة هذا التفاعل ؟

(ب) اذكر طريقة أخرى لزيادة سرعة هذا التفاعل.

٩ الشكلان المقابلان يوضحان كأسين بهما كميتين متساويتين من فوق أكسيد الهيدروجين تحتوي إحداهما على قطعة بطاطا : (البحيرة ١٦)

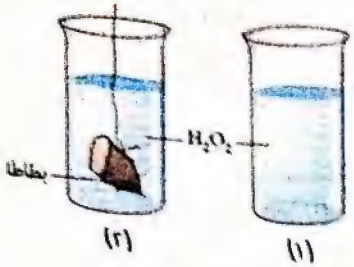

(أ) ما اسم الغاز الناتج من تفكك فوق أكسيد الهيدروجين ؟ (جنوب سيناء ٢١)

(ب) كيف تكشف عن الغاز الناتج ؟

(جـ) في أي الكأسين تتصاعد فقاعات غاز أكثر ؟ مع تفسير إجابتك.

١٤ أسئلة متنوعة :

من سرعة التفاعل إلى أثر طبيعة المتفاعلات على سرعة التفاعل الكيميائي

١ من التفاعل : $A + B \longrightarrow C$

(أ) اختر : تصبح نسبة تركيز المادة C ..... ٪ عندما تصبح نسبة تركيز المادة B صفر. (٢٠ / ٥٠ / ٨٠ / ١٠٠) (الدقهلية ١٣)

(ب) متى يصبح تركيز المادة A أقل ما يمكن ؟

٢ من التفاعل التالي : (الشرقية ١٩)

$$2NaOH + CuSO_4 \longrightarrow \text{راسب} + \text{محلول ملح}$$

(أ) ما اسم الملح المتكون ؟

(ب) كيف تقاس سرعة هذا التفاعل عمليًا ؟

(جـ) اذكر نوع التفاعل الكيميائي.

(د) ماذا يحدث عند تسخين الراسب المتكون بشدة ؟ مع كتابة المعادلة الرمزية. (البحيرة ١٧)

٣ أذيبت كمية من كبريتات النحاس في الماء لعمل محلول وتم تقسيم المحلول إلى قسمين :

- أضيف إلى القسم الأول : محلول هيدروكسيد الصوديوم فتكون راسب أزرق اللون.
- أضيف إلى القسم الثاني : مسحوق الخارصين فتحول لون المحلول تدريجيًا من اللون الأزرق إلى عديم اللون.

(أ) اكتب الصيغة الكيميائية للراسب الأزرق المتكون.

(ب) فسر التغير الحادث في لون محلول كبريتات النحاس عند إضافة مسحوق الخارصين إليه.

٤ يتوقف تأثير طبيعة المتفاعلات على سرعة التفاعل الكيميائى على عاملين، اذكرهما. (الدقهلية)

٥ لديك : (دورقان / سرنجتان / حجمان متساويان من حمض الهيدروكلوريك المخفف كتلتان متساويتان من الحديد إحداهما على شكل برادة والأخرى قطعة واحدة).
باستخدام الأدوات السابقة، اشرح نشاطًا تبين فيه أثر مساحة سطح المتفاعل على سرعة التفاعل الكيميائى، مع كتابة معادلة التفاعل.

من أثر تركيز المتفاعلات إلى آخر الدرس

٦ فى التفاعل :
خارصين + حمض الهيدروكلوريك $\xrightarrow{\text{مخفف}}$ محلول ملح + غاز الهيدروجين
(أ) اذكر اسم الملح الناتج.
(ب) وضح أثر كل من العوامل الآتية على معدل التفاعل :
١- تبريد التفاعل.
٢- إضافة عامل حفز موجب للتفاعل.
٣- استبدال حمض الهيدروكلوريك المخفف بآخر مركز.

٧ اذكر طريقتين يمكن بهما زيادة سرعة التفاعل الآتى : (دمياط)
مكعب حديد + حمض الهيدروكلوريك $\xrightarrow{\text{مخفف}}$ كلوريد الحديدوز + غاز الهيدروجين

٨ أراد المعلم أن يُجرى تفاعل تفكك فوق أكسيد الهيدروجين بسرعة فأضاف للتفاعل ٣ جم من إحدى المواد الكيميائية :
(أ) ما اسم المادة الكيميائية المضافة ؟
(ب) إلى أى تفاعلات الحفز ينتمى هذا التفاعل ؟ ولماذا ؟
(جـ) هل تتغير كتلة المادة المضافة بعد الانتهاء من التفاعل ؟ ولماذا ؟
(د) كيف تزيد من سرعة هذا التفاعل بطريقة أخرى ؟

٩ اذكر :
(أ) العوامل المؤثرة على سرعة التفاعل الكيميائى. (الشرقية)
(ب) خواص العامل المساعد. (الإسكندرية)
(جـ) فكرة عمل المحول الحفزى.

أسئلة تقيس مستويات التفكير العليا — مجاب عنها

١٥ اختر الإجابة الصحيحة مما بين الإجابات المعطاة :

(١) من التفاعلات البطيئة نسبيًا، تفاعل .....
(أ) محلول نترات الفضة مع محلول كلوريد الصوديوم. (ب) الصوديوم مع الماء.
(جـ) الماغنسيوم مع حمض الهيدروكلوريك. (د) الزيت مع الهيدروجين.

(٢) عند تفاعل شريط من الماغنسيوم مع حمض الهيدروكلوريك المخفف، فإن الشكل ..... يعبر عن التغير الحادث فى تركيز حمض الهيدروكلوريك بمرور الزمن. (أسوان ٢١)

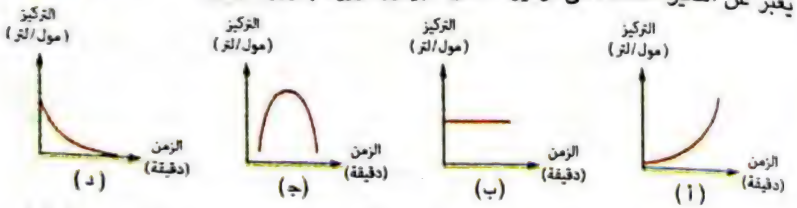

(٣) الزمن اللازم لإتمام تفاعلات المركبات الأيونية ..... الزمن اللازم لإتمام تفاعلات المركبات التساهمية تحت نفس الظروف. (المنوفية ١٩)
(أ) أكبر من (ب) أقل من
(جـ) يساوى (د) أكبر من أو يساوى

(٤) الشكل ..... يعبر عن العلاقة بين مساحة سطح المواد المتفاعلة المعرض للتفاعل ومعدل التفاعل.

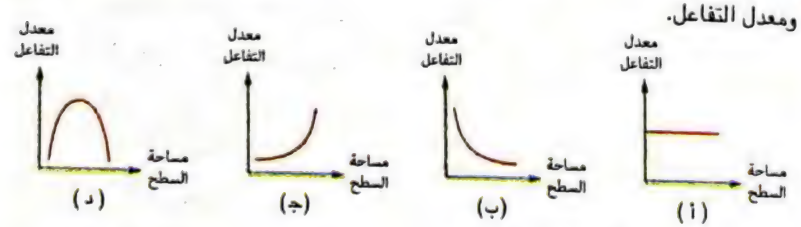

(٥) من الشكل المقابل : أيًا مما يأتى لا يؤثر فى معدل التفاعل الحادث ؟ .....
(أ) زيادة حجم الحمض.
(ب) خفض تركيز الحمض.
(جـ) رفع درجة الحرارة. (د) سحق قطع $CaCO_3$

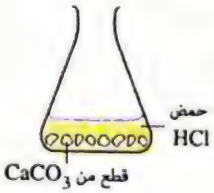

[illegible]

(أ) [illegible]

(ب) [illegible]

(ج) [illegible]

(د) [illegible]

[illegible]

مسائل متنوعة

الشكل البياني المقابل يعبر عن التفاعل :

$N_2 + 3H_2 \rightleftharpoons 2NH_3$

[illegible] ما المقصود من الأرقام (١) ، (٢) ، (٣) الموضحة على الشكل البياني

الشكل البياني المقابل يمثل [illegible] (التركيز – الزمن) لتفاعل ما [illegible]

[illegible]

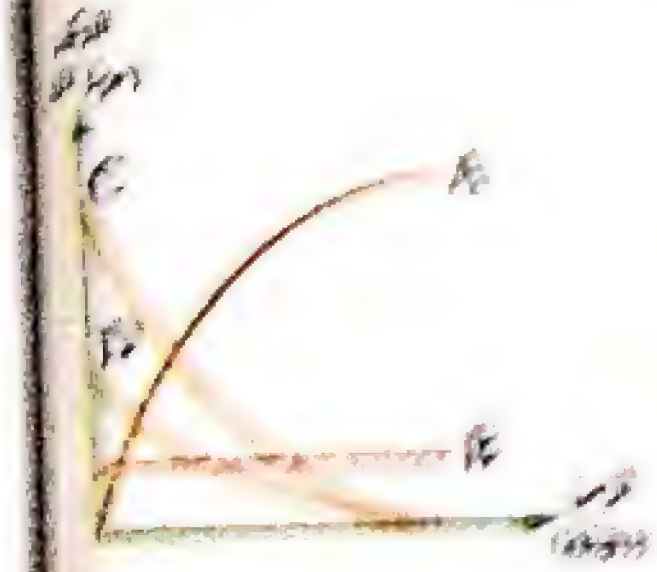

[illegible]

(٣) [illegible]

$2SO_3 \rightleftharpoons 2SO_2 + O_2$



(أ) أكمل ما يأتي :

١- [illegible] SO_3

٢- المنحنى البياني (A) يعبر عن [illegible]

(ب) [illegible] عند إضافة عامل حفاز إلى التفاعل السابق [illegible] المنحنى (B) [illegible] على هذا التفاعل

[illegible]



(أ) [illegible]

(ب) [illegible]

(ج) [illegible]

(د) [illegible]

[illegible]

[illegible]	الزمن (بالثانية)
[illegible]	[illegible]
[illegible]	[illegible]
[illegible]	[illegible]

[illegible]

(٧) أجرى تلميذ تجربتين لتحضير غاز الهيدروجين في نفس درجة الحرارة :

- التجربة الأولى : استخدم قطعة خارصين كتلتها ٥ جم مع وفرة من حمض الهيدروكلوريك.
- التجربة الثانية : استخدم مسحوق خارصين كتلته ٥ جم مع وفرة من نفس الحمض بنفس التركيز.

انسب لكل تجربة الشكل البياني الدال عليها، مع تفسير إجابتك.

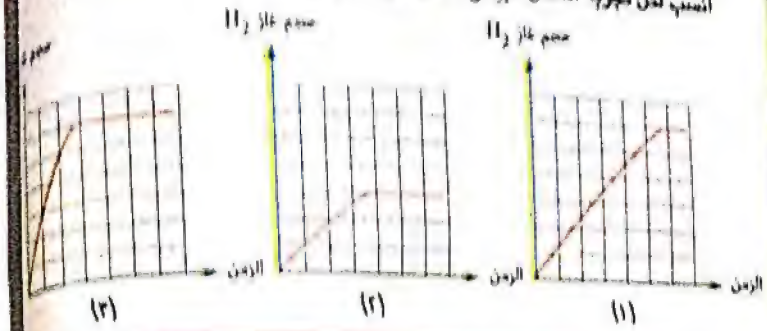

(٨) الشكل البياني المقابل، يوضح أثر مساحة سطح الباريوم المعرض للتفاعل على معدل التفاعل مع حمض الهيدروكلوريك :

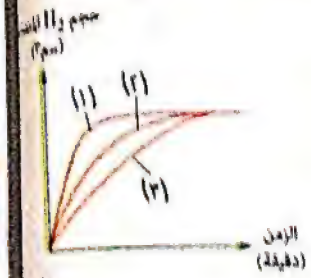

(أ) أيًا من الأرقام الموضحة على الشكل تمثل معدل هذا التفاعل، عندما يكون الباريوم على هيئة :

١- قطعة كبيرة.

٢- قطع صغيرة.

٣- مسحوق.

(ب) ما اللازم مراعاته أثناء إجراء هذا النشاط لضمان أن تكون مساحة سطح المتفاعل هي العامل الوحيد المؤثر في هذه التجربة ؟

التركة في العامل الصفار

أعلن الإمبراطور الفرنسي «لويس نابليون الثالث» في عام ١٨٧٠م عن جائزة لمن يتوصل إلى بديل رخيص للزبد الحيواني، يمكن حفظه لفترات طويلة، ليكون متوفرًا على مدار السنة.

وفي نفس الوقت كان العالم «ميجيه موريس» مشغولًا أصلًا بالبحث والدراسة في كيفية تحويل زيت بذر القطن ذي الطعم غير المقبول إلى منتج مقبول الطعم ... وأسفرت محاولاته بإجراء غاز H2 على الزيت الساخن المضاف إليه مسحوق النيكل والذي كان يقوم بدور العامل الصفار عن تجمد الزيت وتحوله إلى مادة مقبولة الطعم أطلق عليها اسم المارجرين وهو عبارة عن مسلى صناعي، وفاز «ميجيه موريس» بالجائزة، وفاز الناس بالمارجرين.

دقة ملاحظة

اكتشف ٨ اختلافات بين الشكلين



ابتسم مع فضلك

مرة فار فشار، شاف جثة أسد، قعد يجر فيها لغاية ما وصلها الغابة، الحيوانات كلها قعدت تهتف وتقول عاش الفار .. عاش الفار

راح الفار رفس الأسد برجله وهو بيقول..

أنا كده لما أتعصب

ما بزحمش !

صيد فعال للصراصير

المقادير :

- ½ فنجان مسحوق حمض البوريك
- رباع في الصيدليات.
- فنجان دقيق.
- ملعقة كبيرة سكر.
- بصلة متوسطة الحجم.
- قليل من اللبن الحليب.

الطريقة :

- تفرى البصلة ناعمًا وتخلط بحمض البوريك والسكر والدقيق.
- يضاف بعض اللبن مع التقليب، حتى تتجانس العجينة.
- تشكل العجينة على هيئة كرات صغيرة وتترك على ورقة حتى تجف.
- توزع الكرات في الأدراج والأماكن التي تنتشر فيها الصراصير.

تحفظ بعيدًا عن متناول يد الأطفال

أسئلة لتنمية التنظيم العقلي

«ملاحظة الخصائص»

- ذكر ملاحظة واحدة تفسر كل مما يأتي :

١ تحول هيدروكسيد النحاس بالتسخين إلى أكسيد نحاس.

•

٢ تصاعد غاز ثاني أكسيد الكربون عند التسخين الشديد لكربونات النحاس.

•

٣ الاستدلال على حدوث تفاعل كيميائي.

•

٤ وفرة إنتاج غاز النيتروجين من أزيد الصوديوم بفعل الشرر الكهربي.

•

٥ تفاعل الصوديوم مع الماء من التفاعلات الطاردة للحرارة.

•

٦ إحلال الماغنسيوم محل النحاس في محلول كبريتات النحاس.

•

٧ الصفة الاختزالية لغاز الهيدروجين.

•

٨ تأثير مساحة سطح المتفاعلات على معدل حدوث التفاعل الكيميائي.

•

٩ تأثير درجة الحرارة على معدل حدوث التفاعل الكيميائي.

•

١٠ احتواء البطاطا على إنزيم الأوكسيديز.

•

الوحدة 2

الطاقة الكهربية و النشاط الإشعاعي

الدرس الأول: الخصائص الفيزيائية للتيار الكهربي.

الدرس الثاني: التيار الكهربي و الأعمدة الكهربية.

الدرس الثالث: النشاط الإشعاعي و الطاقة النووية.

أهداف الوحدة : بعد دراسة هذه الوحدة يجب أن يكون التلميذ قادرًا على أن :

- يوضح مفاهيم شدة التيار وفرق الجهد والمقاومة الكهربية.
- يذكر الأجهزة المستخدمة في قياس شدة التيار وفرق الجهد والمقاومة الكهربية.
- يحدد وحدات قياس شدة التيار وفرق الجهد والمقاومة الكهربية.
- يقارن بين التيار الكهربي المتردد و التيار الكهربي المستمر.
- يقارن بين طرق توصيل الأعمدة بالدوائر الكهربية.
- يذكر أمثلة للعناصر المشعة.
- يحدد الاستخدامات السلمية للطاقة النووية.
- يذكر أضرار التلوث الإشعاعي وطرق الوقاية منها.
- يقدر أهمية الطاقة الكهربية في حياتنا من خلال تطبيقاتها المتعددة.

مقدمة الوحدة :

- بالرغم من أن الكهرباء طاقة خفية لا نستطيع أن نقدم لها وصفًا دقيقًا، إلا أنه يمكننا إدراكها من تأثيراتها وظواهرها المتعددة، والتي تتمثل في :
  - ضوء في المصابيح الكهربية.
  - حركة في المحركات الكهربية.
  - صوت وصورة في التليفزيون والكمبيوتر.
  - حرارة في السخانات والمكاوي والمدافئ الكهربية.
  - صوت في الراديو والكاسيت والهاتف.
  - إشعاع (كالأشعة السينية) في التشخيصات الطبية.
- وقد سخرها الله للإنسان وجعلها في خدمته في كثير من مجالات حياته، خاصةً وأنها طاقة نظيفة لا تلوث البيئة.

الدرس الأول

الخصائص الفيزيائية للتيار الكهربى



عناصر الدرس :

- مفهوم التيار الكهربى
- الخصائص الفيزيائية للتيار الكهربى
- شدة التيار
- فرق الجهد
- المقاومة الكهربية
- العلاقة بين شدة التيار وفرق الجهد (قانون أوم)

أهداف الدرس

فى نهاية الدرس يجب أن يكون التلميذ قادرًا على أن :

١ يقدر أهمية الكهرباء فى حياتنا
٢ يذكر مكونات الدائرة الكهربية البسيطة
٣ يحدد بعض الخصائص الفيزيائية للتيار الكهربى
٤ يحدد الأجهزة المستخدمة فى القياسات الكهربية
٥ يستنتج تعريف وحدات القياس الكهربية التى قام بدراستها
٦ يكتسب مهارة توصيل الأميتر والفولتميتر فى الدوائر الكهربية بطريقة صحيحة
٧ يذكر نوعا المقاومة الكهربية
٨ يذكر أسباب واستخدام المقاومة المتغيرة (الريوستات)
٩ يحقق قانون أوم عمليًا
١٠ يرسم دائرة لتحقيق قانون أوم تخطيطيًا
١١ يستخدم القوانين التى وردت بالدرس فى حل المسائل

أهم المفاهيم

التيار الكهربى
شدة التيار الكهربى
الأمبير
الكولوم
الجهد الكهربى
فرق الجهد
الفولت
القوة الدافعة الكهربية
المقاومة الكهربية
المقاومة المتغيرة
قانون أوم
الأوم

القيمة الحياتية المتضمنة

ترشيد استهلاك الكهرباء

★ يصعب على الإنسان فى العصر الحالى أن يعيش بدون تيار كهربى... حيث تعمل معظم الأجهزة سواء التى فى المنازل أو المصانع بالكهرباء.

التيار الكهربى

سبق أن علمت أن الذرة تتركب من :

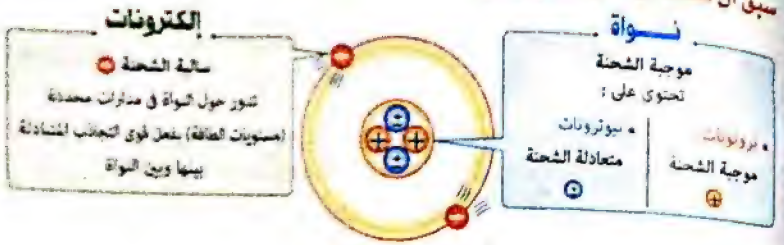

تركيب ذرة الهيليوم

- وعندما تضعف أو تنعدم قوى التجاذب بين النواة وإلكترونات مستوى الطاقة الخارجى (إلكترونات التكافؤ) ... **ما النتائج المترتبة على ذلك ؟**

تتحرر هذه الإلكترونات، ويطلق عليها اسم **الإلكترونات الحرة**.

- **وعلى هذا الأساس...** تصنع أسلاك التوصيل الكهربى من فلزات تتميز بضعف قوى التجاذب بين أنوية ذراتها، وإلكترونات تكافؤها.
- وعند توصيل هذه الأسلاك بمصدر للتيار الكهربى، تسرى الإلكترونات الحرة فى الأسلاك، مكونة تيار كهربى.

التيار الكهربى

تدفق الشحنات الكهربية (الإلكترونات السالبة) خلال الموصلات المعدنية (الأسلاك) فى الدوائر المغلقة.



حركة الإلكترونات الحرة فى مقطع من موصل

الدائرة الكهربية

* تتكون الدائرة الكهربية من العديد من المكونات والتى يؤدى كل منها دورًا محددًا كما يتضح من الجدول التالى :

التعبير بالرسم عن دائرة كهربية بسيطة

المكونات (الأدوات)	الأهمية	الشكل	الرمز
المصباح الكهربى	يستدل منه على مرور التيار الكهربى		
المفتاح الكهربى	فتح وغلق الدائرة	مفتوح مغلق	
سلك التوصيل	توصيل مكونات الدائرة الكهربية ببعضها		
العمود الكهربى	مصدر للتيار الكهربى		
البطارية			

ملحوظة

يرمز للعمود الكهربى فى الدائرة الكهربية بخطين متوازيين | | :

* الخط الأقصر يمثل القطب السالب.
* الخط الأطول يمثل القطب الموجب.

* وفيما بعد سوف يتم دراسة بعض المكونات الأخرى كالأميتر والفولتميتر والمقاومة والريوستات.

مثال ①

فى الدائرتين الكهربيتين التاليتين، لماذا يضىء المصباح فى الدائرة (١) ولا يضىء فى الدائرة (٢) ؟


(١)


(٢)

الحل :

* فى الدائرة (١) : يضىء المصباح لاتصال جميع أجزاء الدائرة معًا (دائرة مغلقة).
* فى الدائرة (٢) : لا يضىء المصباح لأن الدائرة مفتوحة.

موقع التفوق

الخصائص الفيزيائية للتيار الكهربى

دراسة التيار الكهربى تتطلب معرفة عدة خصائص (مفاهيم) فيزيائية، منها :

- أولًا: شدة التيار
- ثانيًا: فرق الجهد
- ثالثًا: المقاومة الكهربية

أولًا شدة التيار Current intensity

شدة التيار الكهربى

كمية الكهربية (مقدار الشحنة الكهربية) المتدفقة عبر مقطع من موصل فى زمن قدره ١ ثانية.



$$\text{شدة التيار (ت)} = \frac{\text{كمية الكهربية (ك)}}{\text{الزمن (ز)}}$$ ①

• الجدول التالى يوضح وحدة قياس كل من شدة التيار و كمية الكهربية و الزمن :

الكمية الفيزيائية	شدة التيار	كمية الكهربية	الزمن
وحدة القياس	أمبير	كولوم	ثانية

$$\therefore \text{أمبير} = \frac{\text{كولوم}}{\text{ثانية}}$$ ②

ما معنى أن ؟

❖ شدة التيار الكهربى المار فى موصل ٠,٢ أمبير.

أى أن

كمية الكهربية المتدفقة عبر مقطع من هذا الموصل فى زمن قدره ١ ثانية، تساوى ٠,٢ كولوم.

❖ كمية الشحنة الكهربية المتدفقة عبر مقطع من موصل فى زمن قدره ١ ثانية تساوى ٥ كولوم.

$$\text{ت} = \frac{\text{ك}}{\text{ز}} = \frac{٥}{١} = ٥ \text{ أمبير}$$

شدة التيار الكهربى المار فى هذا الموصل تساوى ٥ أمبير.

وبناءً على العلاقتين ① ، ② يمكن استنباط تعريف كل من الأمبير و الكولوم، كالتالى :

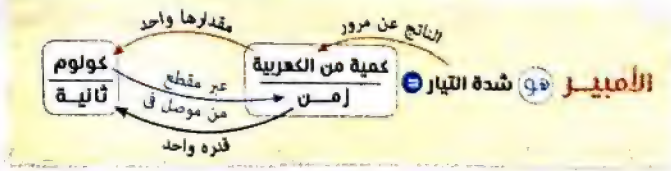

الأمبير

شدة التيار الناتج عن مرور كمية من الكهربية مقدارها ١ كولوم، عبر مقطع من موصل فى زمن قدره ١ ثانية.

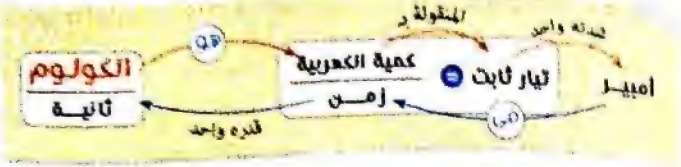

الكولوم

كمية الكهربية المنقولة بتيار ثابت شدته ١ أمبير فى زمن قدره ١ ثانية.

• ويمكن حساب كل من شدة التيار و كمية الكهربية و الزمن، كما يتضح مما يلى :

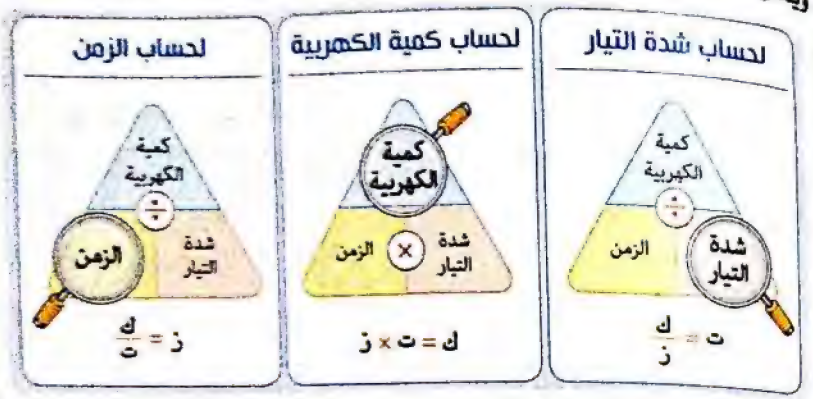

مثال ②

احسب شدة التيار الكهربى الناتج عن تدفق كمية من الكهربية مقدارها ٥٤٠٠ كولوم خلال مقطع من موصل لمدة نصف ساعة.

ت = ؟ أمبير
ك = ٥٤٠٠ كولوم
ز = ٠,٥ ساعة

الحل :

الزمن بوحدة (ثانية)

= الزمن بوحدة (ساعة) × ٦٠ (دقيقة) × ٦٠ (ثانية)

= ٠,٥ × ٦٠ × ٦٠ = ١٨٠٠ ثانية

$$\text{شدة التيار (ت)} = \frac{\text{كمية الكهربية (ك)}}{\text{الزمن (ز)}}$$

$$= \frac{٥٤٠٠}{١٨٠٠} = ٣ \text{ أمبير}$$

تطبيق عددي

شدة التيار (ت) = كمية الكهربية (ك) / الزمن (ز)

ماذا يحدث لشدة التيار في الحالات الآتية؟

١ إذا زادت كمية الشحنة الكهربية المارة عبر مقطع من موصل للضعف، مع ثبات زمن سريان الشحنة الكهربية.

$ك_٢ = ٢ ك_١$ ، $ز_٢ = ز_١$

تزداد شدة التيار للضعف

$ت_٢ = ٢ ت_١$

في الحالة الأولى	في الحالة الثانية
$ك_١ = ١٠٠$ كولوم	$ك_٢ = ٢٠٠$ كولوم (زادت للضعف)
$ز_١ = ١٠$ ثانية	$ز_٢ = ١٠$ ثانية
$ت_١ = \frac{١٠٠}{١٠} = ١٠$ أمبير	$ت_٢ = \frac{٢٠٠}{١٠} = ٢٠$ أمبير (تزداد للضعف)

٢ إذا زاد زمن سريان الشحنة الكهربية المارة عبر مقطع من موصل للضعف، مع ثبات كمية الشحنة الكهربية.

$ك_٢ = ك_١$ ، $ز_٢ = ٢ ز_١$

تقل شدة التيار للنصف

$ت_٢ = \frac{١}{٢} ت_١$

$ك_١ = ١٠٠$ كولوم	$ك_٢ = ١٠٠$ كولوم
$ز_١ = ١٠$ ثانية	$ز_٢ = ٢٠$ ثانية (زاد للضعف)
$ت_١ = \frac{١٠٠}{١٠} = ١٠$ أمبير	$ت_٢ = \frac{١٠٠}{٢٠} = ٥$ أمبير (قل للنصف)

٣ إذا زادت كمية الشحنة الكهربية المارة عبر مقطع من موصل للضعف، وقل زمن سريانها للنصف.

$ك_٢ = ٢ ك_١$ ، $ز_٢ = \frac{١}{٢} ز_١$

تزداد شدة التيار إلى أربعة أمثال قيمتها.

$ت_٢ = ٤ ت_١$

$ك_١ = ١٠٠$ كولوم	$ك_٢ = ٢٠٠$ كولوم (زادت للضعف)
$ز_١ = ١٠$ ثانية	$ز_٢ = ٥$ ثانية (قل للنصف)
$ت_١ = \frac{١٠٠}{١٠} = ١٠$ أمبير	$ت_٢ = \frac{٢٠٠}{٥} = ٤٠$ أمبير (تزداد إلى ٤ أمثالها)

مما سبق نستنتج أن: شدة التيار الكهربي المار في موصل **تتناسب**

- **طرديًا مع كمية الشحنة الكهربية** المارة عبر مقطع من هذا الموصل عند ثبوت زمن سريان الشحنة الكهربية
- **عكسيًا مع زمن** سريان الشحنة الكهربية المارة عبر مقطع من هذا الموصل عند ثبوت كمية الشحنة الكهربية

جهاز الأميتر

استخدامه: يستخدم في قياس شدة التيار الكهربي المار في الدائرة الكهربية.

رمزه: يرمز له في الدائرة الكهربية بالرمز —Ⓐ—

طريقة توصيله: يوصل في الدائرة الكهربية على التوالي، كالتالي:

تدريب 1

أبطر كراسة الواجب

التيار الكهربي وشدة التيار

يتم توصيل:

الطرف الموجب للأميتر (الأحمر) بالقطب الموجب للمصدر الكهربي (+)

الطرف السالب للأميتر (الأسود) بالقطب السالب للمصدر الكهربي (−)

الأميتر

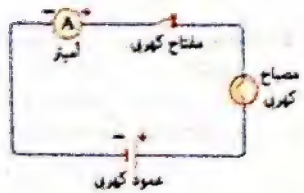

شكل تخطيطي يوضح طريقة توصيل الأميتر في الدائرة الكهربية

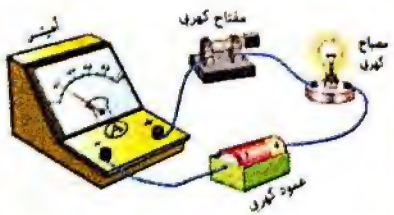

قراءة مؤشر الأميتر تدل على قيمة شدة التيار المار في الدائرة الكهربية

ثانيًا فرق الجهد الكهربى Potential difference

الجهد الكهربى لموصل

حالة الموصل الكهربية التى تدين انتقال الكهربية منه أو إليه إذا ما وصل بموصل آخر.

• وسنتعرف فيما يلى على مفهوم فرق الجهد وكيفية انتقال الشحنات الكهربية (التيار الكهربى) من موصل لآخر.

من المعروف أن ...

انتقال الحرارة من جسم إلى آخر يتوقف على وجود فرق فى درجة الحرارة بين الجسمين وليس على كمية الحرارة فى كل منهما

وبنفس الكيفية ...

انتقال الشحنات الكهربية من موصل إلى آخر يتوقف على وجود فرق فى الجهد الكهربى بين الموصلين وليس على كمية الشحنة فى كل منهما

تطبيق

تنتقل الحرارة من

الجسم (A) (الأعلى درجة حرارة) — إلى ← الجسم (B) (الأقل درجة حرارة)

ويستمر ذلك حتى تتساوى درجة حرارتهما

تنتقل الشحنات الكهربية من

الموصل (A) (الأعلى جهدًا) — إلى ← الموصل (B) (الأقل جهدًا)

ويستمر ذلك حتى يتساوى جهديهما، أى يصبح فرق الجهد بينهما صفر

علل ؟

انتقال الشحنات الكهربية من موصل مشحون إلى موصل آخر مشحون.

لوجود فرق فى الجهد الكهربى بينهما.

ماذا يحدث عند ؟

(١) تلامس موصلان مشحونان وكان الجهد الكهربى لأحدهما أعلى من الجهد الكهربى للآخر.

تنتقل الشحنات الكهربية من الموصل الأعلى جهدًا إلى الموصل الأقل جهدًا حتى يتساوى جهديهما.

(٢) توصيل موصلين مشحونين لهما نفس الجهد الكهربى (فرق الجهد بينهما = صفر) بسلك توصيل.

لا يمر تيار كهربى بينهما.

فى ضوء ما سبق يمكن تعريف فرق الجهد بين طرفى موصل كالتالى :

فرق الجهد بين طرفى موصل

مقدار الشغل المبذول لنقل كمية من الكهربية (شحنة كهربية) مقدارها ١ كولوم بين طرفى هذا الموصل.

$$\text{فرق الجهد (جـ)} = \frac{\text{الشغل المبذول (شغ)}}{\text{كمية الكهربية (ك)}} \quad (1)$$

الجدول التالى يوضح وحدة قياس كل من فرق الجهد و الشغل المبذول و كمية الكهربية :

الكمية الفيزيائية	فرق الجهد	الشغل المبذول	كمية الكهربية
وحدة القياس	فولت	جول	كولوم

$$\therefore \text{فولت} = \frac{\text{جول}}{\text{كولوم}} \quad (2)$$

ما معنى أن ؟

• فرق الجهد بين طرفى موصل ٢٠ فولت.

مقدار الشغل المبذول لنقل كمية من الكهربية مقدارها ١ كولوم بين طرفى هذا الموصل يساوى ٢٠ جول.

• الشغل المبذول لنقل كمية من الكهربية مقدارها ٨ كولوم بين طرفى موصل يساوى ٦٤ جول.

اى أن

$$\text{جـ} = \frac{\text{شغ}}{\text{ك}} = \frac{٦٤}{٨} = ٨ \text{ فولت}$$

فرق الجهد بين طرفى هذا الموصل يساوى ٨ فولت.

وبناءً على العلاقتين ❶ ، ❷ يمكن استنتاج تعريف الفولت كالتالي :

الفولت

فرق الجهد بين طرفي موصل عند بذل شغل مقداره ١ جول لنقل كمية من الكهربية (شحنة كهربية) مقدارها ١ كولوم بين طرفي هذا الموصل.

• ويمكن حساب كل من فرق الجهد والشغل المبذول وكمية الكهربية كما يتضح مما يلي :

لحساب فرق الجهد	لحساب الشغل المبذول	لحساب كمية الكهربية
الشغل المبذول ÷ كمية الكهربية = فرق الجهد	الشغل المبذول = فرق الجهد × كمية الكهربية	كمية الكهربية = الشغل المبذول ÷ فرق الجهد
جـ = شغ / ك	شغ = جـ × ك	ك = شغ / جـ

مثال ❸

إذا كان مقدار الشغل المبذول لنقل شحنة كهربية مقدارها ٢٠٠ كولوم بين نقطتين يساوي ٢٢٢٠٠ جول، احسب فرق الجهد بين النقطتين.

◀ **الحل :**

ك = ٢٠٠ كولوم

شغ = ٢٢٢٠٠ جول

جـ = ؟ فولت

فرق الجهد (جـ) = الشغل المبذول (شغ) / كمية الكهربية (ك)

= ٢٢٢٠٠ / ٢٠٠ = ١١١ فولت

ماذا يحدث لفرق الجهد في الحالات الآتية ؟

❶ إذا نقل الشغل المبذول لنقل كمية من الكهربية عبر مقطع من موصل النصف مع ثبات كمية الكهربية.

شغ = ½ شغ₁ ، ك = ك₁

فرق الجهد النصف

جـ = ½ جـ₁

تطبيق عددي

فرق الجهد (جـ) = الشغل المبذول (شغ) / كمية الكهربية (ك)

فرق الجهد الأول	فرق الجهد الثاني
شغ = ٢٠٠ جول	شغ = ١٠٠ جول
ك = ٢٠ كولوم	ك = ٢٠ كولوم
جـ = ٢٠٠ / ٢٠ = ١٠ فولت	جـ = ١٠٠ / ٢٠ = ٥ فولت

❷ إذا قلت كمية الكهربية المارة عبر مقطع من موصل النصف مع ثبات الشغل المبذول.

شغ = شغ₁ ، ك = ½ ك₁

فرق الجهد الضعف

جـ = ٢ جـ₁

فرق الجهد الأول	فرق الجهد الثاني
شغ = ١٠٠ جول	شغ = ١٠٠ جول
ك = ٢٠ كولوم	ك = ١٠ كولوم
جـ = ١٠٠ / ٢٠ = ٥ فولت	جـ = ١٠٠ / ١٠ = ١٠ فولت

❸ إذا زاد الشغل المبذول لنقل كمية من الكهربية النصف وقلت كمية الكهربية النصف.

شغ₂ = ٢ شغ₁ ، ك = ½ ك₁

فرق الجهد الأول أربعة أمثال فرق الجهد

جـ = ٤ جـ₁

فرق الجهد الأول	فرق الجهد الثاني
شغ = ١٠٠ جول	شغ = ٢٠٠ جول
ك = ٢٠ كولوم	ك = ١٠ كولوم
جـ = ١٠٠ / ٢٠ = ٥ فولت	جـ = ٢٠٠ / ١٠ = ٢٠ فولت

مما سبق نستنتج أن : فرق الجهد بين طرفي موصل

يتناسب

طرديًا مع الشغل المبذول	عكسيًا مع كمية الكهربية
لنقل كمية من الكهربية بين طرفي هذا الموصل عند ثبوت كمية الكهربية	المارة بين طرفي هذا الموصل عند ثبوت الشغل المبذول

جهاز الفولتميتر

استخدامه يستخدم فى قياس فرق الجهد بين أى نقطتين أو بين طرفى موصل فى الدائرة الكهربية المغلقة .

رمزه يرمز له فى الدائرة الكهربية بالرمز

طريقة توصيله يوصل فى الدائرة الكهربية بين أى نقطتين على التوازى، كالتالى :

يتم توصيل :

الطرف الموجب للفولتميتر (الأحمر) بالقطب الموجب للمصدر الكهربى

الطرف السالب للفولتميتر (الأسود) بالقطب السالب للمصدر الكهربى

الفولتميتر

قراءة مؤشر الفولتميتر تدل على قيمة فرق الجهد بين طرفى المصباح

شكل تخطيطى يوضح طريقة توصيل الفولتميتر فى الدائرة المغلقة

القوة الدافعة الكهربية

عند توصيل الفولتميتر مع قطبى المصدر الكهربى فى الدائرة الكهربية المفتوحة، فإن الفولتميتر فى هذه الحالة يقيس فرق جهد المصدر الكهربى أو ما يسمى بالقوة الدافعة الكهربية للمصدر الكهربى (ق.د.ك).

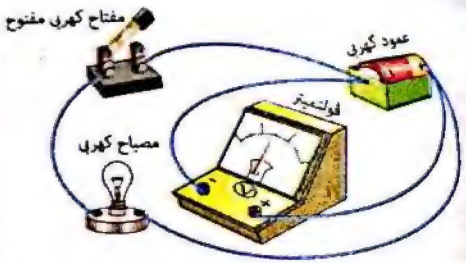

قراءة مؤشر الفولتميتر تدل على قيمة القوة الدافعة الكهربية للعمود الكهربى

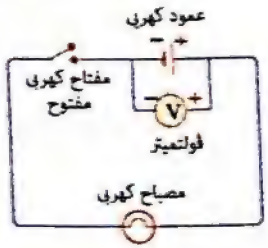

شكل تخطيطى يوضح طريقة توصيل الفولتميتر فى الدائرة المفتوحة

القوة الدافعة الكهربية لمصدر كهربى

فرق الجهد بين قطبى المصدر الكهربى فى الدائرة الكهربية المفتوحة (التى لا يمر بها تيار كهربى).

وحدة قياس القوة الدافعة الكهربية : فولت

ما معنى أن ؟

القوة الدافعة الكهربية لبطارية سيارة ١٢ فولت.

أى أن فرق الجهد بين قطبى هذه البطارية فى الدائرة الكهربية المفتوحة يساوى ١٢ فولت.

مثال ٤

احسب شدة التيار الكهربي المار في الدائرة الكهربية المقابلة، علمًا بأن :

- الشغل المبذول لنقل الشحنة الكهربية ٢٠ جول.
- زمن سريان الشحنة الكهربية ٢ ثانية.

الحـــل :

ت = ؟ أمبير ، شغ = ٢٠ جول ، ز = ٢ ثانية ، جـ = ٥ فولت

كمية الكهربية (ك) = الشغل المبذول (شغ) / فرق الجهد (جـ) = ٢٠ / ٥ = ٤ كولوم

شدة التيار (ت) = كمية الكهربية (ك) / الزمن (ز) = ٤ / ٢ = ٢ أمبير



العلم و التكنولوجيا و المجتمع

المحول الكهربي Transformer

الجهد الكهربي لمصدر التيار المستخدم في منازلنا مقداره ٢٢٠ فولت، وكثيرًا من الأجهزة - كالموبايل - تعمل على جهد كهربي أقل من هذا المقدار (١١٠ - ١٢٠ فولت)، فإذا تم توصيلها مباشرةً بالتيار المنزلي، فسوف تتلف، لذا يستلزم خفض الجهد باستخدام جهاز يعرف بالمحول الكهربي (محول خافض للجهد الكهربي) مثل شاحن بطارية الموبايل.

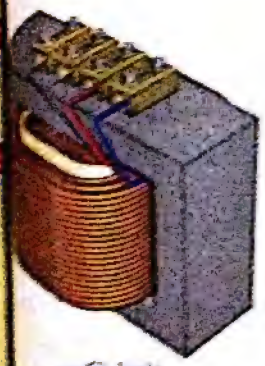
المحول الكهربي

حلل ؟ يستلزم شحن الموبايل استخدام محول كهربي.

لخفض الجهد الكهربي لمصدر التيار المستخدم والحصول على الجهد المناسب لشحن الموبايل.

تدريب

ابحث كراسة الواجب

فرق الجهد

اختبر فهمك

موقع التفوق

ما المقصود بكل من :

(١) التيار الكهربي. (الكتاب ص ٢٨)

(٢) الكولوم. (السؤال ٢٨)

(٣) الجهد الكهربي لموصل. (الكتاب ص ٣٦)

(٤) فرق الجهد بين طرفي موصل. (المطلوب ٢٨)

ضع علامة (✓) أمام العبارة الصحيحة، و أعد تصويب العبارة الخطأ :

(١) يستخدم جهاز الفولتميتر لقياس شدة التيار المار بالدائرة الكهربية. (الموجة ٢٤) ( )

(٢) الأمبير = كولوم × فولت. (السؤال ٢٦) ( )

(٣) القوة الدافعة الكهربية لمصدر كهربي هي فرق الجهد بين قطبيه عندما تكون الدائرة الكهربية مفتوحة. (السؤال ٢٦) ( )

ماذا يحدث عند تلامس موصلان مشحونان وكان الجهد الكهربي للموصل الأول مساوٍ للجهد الكهربي للموصل الثاني ؟ (الكتاب ص ٣٧)

مسائل متنوعة :

(١) احسب كمية الكهربية المتدفقة عبر مقطع من موصل يمر به تيار شدته ٤٨ أمبير لمدة ٧ دقائق. (الموجة ٢٤)

(٢) احسب مقدار الشغل المبذول لنقل شحنة كهربية مقدارها ٢٠ كولوم عبر مقطع من موصل فرق الجهد بين طرفيه ٥٠ فولت. (الكتاب ص ٣٩)

من الدائرة الكهربية المقابلة ما الذي تدل عليه قراءة الفولتميتر عندما يكون المفتاح K :

(١) مغلق. (.....)

(٢) مفتوح. (.....)

ثالثًا المقاومة الكهربية Resistance


مطب صناعى

- تلقى السيارات أثناء سيرها على الطرق مطبات صناعية تعوق حركتها.

وبنفس الكيفية ...

- يلقى التيار الكهربى أثناء سريانه فى الموصلات المعدنية ممانعة تعوق سريانه تعرف **بالمقاومة الكهربية**.

المقاومة الكهربية

المانعة التى يلقاها التيار الكهربى أثناء سريانه فى الموصل.

وحدة قياس المقاومة الكهربية : أوم

جهاز الأوميتر يستخدم فى قياس المقاومة الكهربية.

أنواع المقاومات الكهربية

- **مقاومة ثابتة**
- **مقاومة متغيرة** (ريوستات منزلق)

يرمز لها فى الدائرة الكهربية بالشكل

المقاومة المتغيرة (الريوستات المنزلق) Rheostat

التركيب

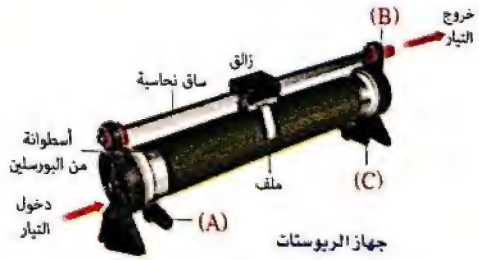

A، B، C مسامير توصيل

1. ملف من سلك معدنى مقاومته كبيرة، ملفوف بانتظام حول أسطوانة من مادة عازلة كالبورسلين ويثبت طرفا السلك بمسمارى التوصيل (A) ، (C).
2. ساق من النحاس تنزلق عليه صفيحة معدنية مرنة تلامس لفات السلك المعدنى – لذا تُعرف الصفيحة بالزالق المعدنى – ويتصل بالساق النحاسية مسمار التوصيل (B).

طريقة التوصيل

- يتم توصيل مسمارى التوصيل (A) ، (B) بالدائرة الكهربية.

كيف يعمل؟ استخدام الريوستات كمقاومة ثابتة.

- إذا تم توصيل مسمارى طرفى سلك الريوستات (A) ، (C) بالدائرة الكهربية، فإن الريوستات فى هذه الحالة يعمل كمقاومة ثابتة.

الاستخدام

- التحكم فى شدة التيار المار فى الدائرة الكهربية، وبالتالى التحكم فى فرق الجهد بين أجزائها المختلفة.

علل: يوصل فى بعض الدوائر الكهربية مقاومة متغيرة (ريوستات).

الأساس العلمى

- تتناسب مقاومة الموصل (السلك) تناسبًا طرديًا مع طوله،

أى :
- تزداد المقاومة بزيادة طول الموصل.
- تقل المقاومة بنقص طول الموصل.

العلاقة بين مقاومة الموصل و طوله

فكرة العمل

- **تعتمد على** إمكانية التحكم فى قيمة المقاومة بالتحكم فى طول السلك المعدنى المدمج بالدائرة الكهربية، فعند تحريك الزالق المعدنى يتغير طول السلك المدمج بالدائرة، فتتغير معه قيمة المقاومة الكلية للدائرة، وبالتالى تتغير شدة التيار المار فيها.
- **أى أنه** بزيادة طول سلك الريوستات المدمج فى الدائرة الكهربية، تزداد المقاومة، فتقل شدة التيار المار فى الدائرة وبالتالى يقل فرق الجهد بين أجزائها والعكس صحيح.

ما النتائج المترتبة على زيادة طول سلك الريوستات المدمج فى الدائرة الكهربية ؟

- فى ضوء ما سبق يمكن تعريف **المقاومة المتغيرة (الريوستات المنزلق)، كالتالى :**

المقاومة المتغيرة (الريوستات المنزلق)

المقاومة التى يمكن تغيير قيمتها للتحكم فى قيمة كل من شدة التيار وفرق الجهد بين الأجزاء المختلفة من الدائرة الكهربية.

مثال ٥

من الشكل المقابل :

(١) ما أثر تحريك زالق الريوستات إلى النقطة (أ) على شدة التيار المار بالدائرة الكهربية ؟

(٢) أكمل :

عند تحريك الزالق إلى النقطة (ب)

..... قيمة المقاومة،

و ..... قراءة الفولتميتر.

الحل :

(١) تزداد شدة التيار الكهربى المار فى الدائرة الكهربية.

(٢) تزداد / تقل

للاطلاع فقط

فكرة عمل عداد الوقود فى السيارة

- **تعتمد على** وجود دائرة كهربية مكونة من بطارية متصلة بعوامة تطفو فوق سطح الوقود - فى خزان الوقود - وتتصل العوامة بمقاومة متغيرة ومؤشر عداد الوقود.

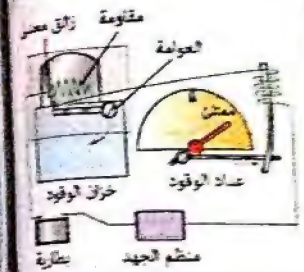

- **وعند نقص الوقود** تهبط العوامة لأسفل، فيتحرك الزالق على السلك، مسببًا اتصال جزء كبير منه بالدائرة، فتزداد المقاومة الكهربية فيقل تبعًا لذلك شدة التيار المار بعداد الوقود فينحرف مؤشره بشكل يوضح مستوى الوقود بالخزان.

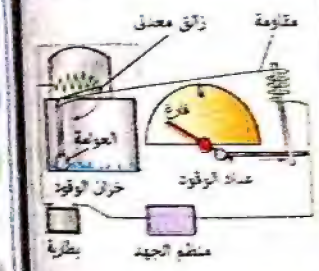

العلاقة بين شدة التيار و فرق الجهد (قانون أوم)


العالم جورج أوم

- **اكتشف** العالم الألمانى **جورج سيمون أوم** الخصائص الكمية للتيار الكهربى. واستنبط قانونًا فى الكهرباء - عرف باسمه تخليدًا لذكراه - يوضح العلاقة بين شدة التيار و فرق الجهد **والذى يمكن تحقيقه بإجراء النشاط التالى :**

نشاط تحقيق قانون أوم

الأدوات المستخدمة

- بطارية.
- أميتر.
- فولتميتر.
- ريوستات.
- مقاومة ثابتة.
- أسلاك توصيل.
- مفتاح كهربى.

الخطوات

(١) كوّن دائرة كهربية مغلقة كالموضحة بالشكل المقابل.

دائرة تحقيق قانون أوم

(٢) عين فرق الجهد بين طرفى المقاومة الثابتة (قراءة الفولتميتر) وشدة التيار المار فى المقاومة الثابتة (قراءة الأميتر).

(٣) غير قيمة المقاومة بتحريك زالق الريوستات عدة مرات، وعين فى كل مرة قراءتى الفولتميتر (جـ) والأميتر (ت) وسجلهما فى جدول.

(٤) مثّل القيم التى حصلت عليها بشكل بيانى (فرق الجهد - شدة التيار).

(٥) أوجد خارج قسمة $\frac{جـ}{ت}$ لكل محاولة.

قراءة الفولتميتر (جـ)	٢	٤	٦	٨	١٠
قراءة الأميتر (ت)	٠,٢	٠,٤	٠,٦	٠,٨	١
$\frac{جـ}{ت}$	١٠	١٠	١٠	١٠	١٠



الملاحظة

خارج قسمة $\frac{جـ}{ت}$ لكل محاولة = مقدار ثـابت.

الاستنتاج

شدة التيار الكهربى المار فى المقاومة الثابتة تتناسب طرديًا مع فرق الجهد بين طرفيها، عند ثبوت درجة الحرارة وهو ما يعرف بقانون أوم.

استنتج؟ الصيغة الرياضية لقانون أوم.

∴ جـ = مقدار ثابت × ت

∵ جـ ∝ ت

ويرمز للمقدار الثابت بالرمز (م) وهو يساوى قيمة المقاومة الثابتة.

∴ جـ = م × ت ← وبالتالى ← م = $\frac{جـ}{ت}$

• من النقاط السابقة يمكن تعريف قانون أوم، كالتالى :

قانون أوم

تتناسب شدة التيار الكهربى المار فى موصل تناسبًا طرديًا مع فرق الجهد بين طرفى هذا الموصل عند ثبوت درجة الحرارة.

• ومن قانون أوم يمكن تعريف المقاومة الكهربية، كالتالى :

المقاومة الكهربية

النسبة بين فرق الجهد بين طرفى موصل وشدة التيار الكهربى المار فيه.

المقاومة الكهربية (م) = $\frac{\text{فرق الجهد (جـ)}}{\text{شدة التيار (ت)}}$ ← (١)

• الجدول التالى يوضح وحدة قياس كل من المقاومة الكهربية و فرق الجهد و شدة التيار :

الكمية الفيزيائية	المقاومة الكهربية	فرق الجهد	شدة التيار
وحدة القياس	أوم	فولت	أمبير

∴ **أوم = $\frac{\text{فولت}}{\text{أمبير}}$** ← (٢)

ما معنى أن؟

• مقاومة موصل ٢٥ أوم.

∴ النسبة بين فرق الجهد بين طرفى موصل وشدة التيار المار فيه ٢٠ فولت / أمبير.

أى أن

النسبة بين فرق الجهد بين طرفى هذا الموصل وشدة التيار المار فيه تساوى ٢٥ أوم.

مقاومة هذا الموصل تساوى ٢٠ أوم.

بناءً على العلاقتين (١) ، (٢) يمكن تعريف كل من الأوم و الأمبير و الفولت، كالتالى :

الأوم

مقاومة موصل كهربى يمر خلاله تيار كهربى شدته ١ أمبير عندما يكون فرق الجهد بين طرفيه ١ فولت.

أوم = $\frac{\text{فولت}}{\text{أمبير}}$

الأمبير

شدة التيار الكهربى المار فى موصل مقاومته ١ أوم، عندما يكون فرق الجهد بين طرفيه ١ فولت.

أمبير = $\frac{\text{فولت}}{\text{أوم}}$

الفولت

فرق الجهد بين طرفى موصل مقاومته ١ أوم يمر خلاله تيار كهربى شدته ١ أمبير.

فولت = أوم × أمبير

ما معنى أن؟

• موصل كهربى فرق الجهد بين طرفيه ٢٠ فولت ويمر فيه تيار شدته ٤ أمبير.

أى أن

م = $\frac{جـ}{ت}$ = $\frac{٢٠}{٤}$ = ٥ أوم

مقاومة هذا الموصل تساوى ٥ أوم

• فرق الجهد بين طرفى موصل مقاومته ٤ أوم يساوى ٨ فولت.

أى أن

ت = $\frac{جـ}{م}$ = $\frac{٨}{٤}$ = ٢ أمبير

شدة التيار المار فى هذا الموصل تساوى ٢ أمبير

• شدة التيار المار فى موصل مقاومته ٢ أوم تساوى ٦ أمبير.

جـ = م × ت = ٢ × ٦ = ١٢ فولت

فرق الجهد بين طرفى هذا الموصل يساوى ١٢ فولت

ملحوظة

تكتب الشركات المصنعة للأجهزة الكهربية :

مقدار فرق الجهد وشدة التيار **أو** مقدار فرق الجهد والمقاومة الكهربية على الأجهزة،

حيث إن معرفة مقدار متغيرين فقط من المتغيرات الثلاثة،

تمكننا من معرفة مقدار المتغير الثالث (باستخدام قانون أوم)

كاريكاتير يوضح العلاقة بين الأوم والأمبير والفولت

ما النتائج المترتبة على ؟

(١) احتراق المقاومة الثابتة فى دائرة كهربية بالنسبة لقراءة كل من الأميتر المتصل بالدائرة على التوالى والفولتميتر المتصل على التوازى مع مصدر التيار الكهربى.

تصبح قراءة الأميتر صفر، بينما تظل قراءة الفولتميتر ثابتة كما هى.

(٢) زيادة فرق الجهد بين طرفى موصل للضعف، مع ثبات درجة الحرارة «بالنسبة لشدة التيار الكهربى».

تزداد شدة التيار الكهربى للضعف.

(٣) زيادة قيمة المقاومة الكهربية للضعف، مع ثبات درجة الحرارة «بالنسبة لشدة التيار الكهربى».

تقل شدة التيار الكهربى للنصف.

مما سبق يمكن استنتاج أن :

العلاقة بين

شدة التيار و فرق الجهد عند ثبوت درجة الحرارة



«علاقة طردية»

المقاومة الكهربية و شدة التيار عند ثبوت فرق الجهد

«علاقة عكسية»

أى أنه

كلما زادت شدة التيار يزداد فرق الجهد والعكس صحيح



كلما زادت قيمة المقاومة قلت شدة التيار والعكس صحيح

مثال ٦

فى الدائرة الكهربية الموضحة بالشكل المقابل، ماذا يحدث لكل من قراءة الأميتر وقيمة المقاومة (م) المتصل معها الفولتميتر على التوازى، عند زيادة قراءة الفولتميتر للضعف ؟ مع التعليل.

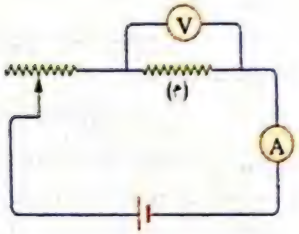

الحل :

- تزداد قراءة الأميتر للضعف / لأن شدة التيار تتناسب طرديًا مع فرق الجهد عند ثبوت درجة الحرارة.
- لا تتغير قيمة المقاومة (م) / لأن المقاومة (م) تساوى مقدار ثابت للموصل الواحد.

• ويمكن حساب كل من المقاومة الكهربية و فرق الجهد و شدة التيار، كما يتضح مما يلى :

مثال ٧

احسب مقاومة ملف سخان كهربى إذا مر خلاله تيار كهربى شدته ٠,٢ أمبير وكان فرق الجهد بين طرفيه ٢٢٠ فولت.

م = ؟ أوم
ت = ٠,٢ أمبير
جـ = ٢٢٠ فولت

◀ **الحـــل :**

المقاومة الكهربية (م) = فرق الجهد (جـ) / شدة التيار (ت) = ٢٢٠ / ٠,٢ = ١١٠٠ أوم

أداء ذاتى

احسب فرق الجهد بين طرفى مكنسة كهربية، مقاومتها ٢٢ أوم وشدة التيار اللازمة لتشغيلها ١٠ أمبير.

جـ = ؟ فولت
م = ٢٢ أوم
ت = ١٠ أمبير

◀ **الحـــل :**

فرق الجهد (جـ) = ... × ..... = ... × ..... = ...

أداء ذاتى

احسب شدة التيار المار فى جهاز كهربى، مقاومته ٦٠٠٠ أوم إذا كان فرق الجهد بين طرفيه ٣٠٠ فولت.

ت = ؟ أمبير
م = ٦٠٠٠ أوم
جـ = ٣٠٠ فولت

◀ **الحـــل :**

شدة التيار (ت) = ... / ..... = ... / ..... = ...

أداء ذاتى

من الشكل المقابل، احسب :

(١) فرق الجهد بين طرفى المقاومة.

(٢) قراءة الفولتميتر والمفتاح مفتوح.

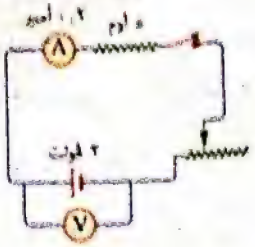

◀ **الحـــل :**

(١) فرق الجهد (جـ) = ... × .....

= ..... × ..... = ...

(٢) قراءة الفولتميتر = ...

مثال ٨

احسب كمية الكهربية المارة فى موصل مقاومته ١٠٠٠ أوم لمدة ٣٠ دقيقة، إذا كان فرق الجهد بين طرفيه يساوى ٢٢٠ فولت.

ك = ؟ كولوم ، م = ١٠٠٠ أوم ، ز = ٣٠ دقيقة ، جـ = ٢٢٠ فولت

◀ **الحـــل :**

شدة التيار (ت) = فرق الجهد (جـ) / المقاومة الكهربية (م)

= ٢٢٠ / ١٠٠٠ = ٠,٢٢ أمبير

الزمن (ز) بالثانية = ٣٠ × ٦٠ = ١٨٠٠ ثانية

كمية الكهربية (ك) = شدة التيار (ت) × الزمن (ز)

= ٠,٢٢ × ١٨٠٠ = ٣٩٦ كولوم

ت = جـ / م = ك / ز

مثال ٩

احسب مقدار الشغل الكهربى المبذول لإمرار شحنة كهربية مقدارها ٥٠٠ كولوم عبر مقطع من موصل مقاومته ٣ أوم ويمر به تيار شدته ٢ أمبير.

◀ **الحـــل :**

شغ = ؟ جول ، ك = ٥٠٠ كولوم ، م = ٣ أوم ، ت = ٢ أمبير

فرق الجهد (جـ) = المقاومة (م) × شدة التيار (ت)

= ٣ × ٢ = ٦ فولت

الشغل المبذول (شغ) = فرق الجهد (جـ) × كمية الكهربية (ك)

= ٦ × ٥٠٠ = ٣٠٠٠ جول

جـ = م × ت = شغ / ك

مثال ⑩

إذا كان فرق الجهد بين طرفي سخان ماء ٢٤٠ فولت، وشدة التيار المار خلاله ٨ أمبير.

فكم تكون شدة التيار المار في هذا السخان ؟ إذا وصل بطرفي مصدر كهربي جهده ٢٢٠ فولت.

جـ١ = ٢٤٠ فولت
ت١ = ٨ أمبير
ت٢ = ؟ أمبير
جـ٢ = ٢٢٠ فولت

◀ **الحـــل :**

المقاومة (م) = $\frac{جـ_١}{ت_١}$ = $\frac{٢٤٠}{٨}$ = ٣٠ أوم

∵ المقاومة تساوى مقدار ثابت لنفس الموصل

∴ ت٢ = $\frac{جـ_٢}{م}$ = $\frac{٢٢٠}{٣٠}$ = ٧,٣٣ أمبير

• **ملخص لأهم الكميات الفيزيائية و وحدات قياسها و الوحدات المكافئة لها :**

مثال ⑪

اذكر الكمية الفيزيائية التى تقاس بكل من الوحدات التالية فى ضوء ما درست .

(١) جول/فولت . ثانية
(٢) جول/كولوم . أوم
(٣) فولت . ثانية/أوم
(٤) جول/أمبير . ثانية
(٥) أوم . كولوم/ثانية
(٦) فولت . أمبير . ثانية
(٧) جول/كولوم . أمبير
(٨) فولت . ثانية/كولوم

فكرة الحل

الوحدة	الكمية الفيزيائية التى تقيسها
جول / فولت.ثانية	الشغل المبذول / (فرق الجهد × الزمن) = كمية الكهربية / الزمن = **شدة التيار**
جول / كولوم.أوم	الشغل المبذول / (كمية الكهربية × المقاومة الكهربية) = فرق الجهد / المقاومة الكهربية = **شدة التيار**
فولت.ثانية / أوم	(فرق الجهد × الزمن) / المقاومة الكهربية = شدة التيار × الزمن = **كمية الكهربية**
جول / أمبير.ثانية	الشغل المبذول / (شدة التيار × الزمن) = الشغل المبذول / كمية الكهربية = **فرق الجهد**

موقع التفوق

٥	أوم.كولوم / ثانية	المقاومة الكهربية × كمية الكهربية / الزمن = المقاومة الكهربية × شدة التيار = فرق الجهد
٦	فولت.أمبير.ثانية	فرق الجهد × شدة التيار × الزمن = فرق الجهد × كمية الكهربية = الشغل المبذول
٧	جول / كولوم.أمبير	الشغل المبذول / كمية الكهربية × شدة التيار = فرق الجهد / شدة التيار = المقاومة الكهربية
٨	فولت.ثانية / كولوم	فرق الجهد × الزمن / كمية الكهربية = فرق الجهد × ١ / شدة التيار = المقاومة الكهربية

◀ **الحـــل :**

(١) ، (٢) شدة التيار. (٣) كمية الكهربية.

(٤) ، (٥) فرق الجهد. (٦) الشغل المبذول.

(٧) ، (٨) المقاومة الكهربية.

تدريب 3

انظر كراسة الواجب

المقاومة الكهربية وقانون أوم

مراجعة شاملة على الدرس — انظر — مفكرة الامتحان

أسئلة

هجاب عنها بكراسة الواجب

أولاً أسئلة الكتاب المدرسى هجاب عنها

أكمل العبارات الآتية :

(١) يتناسب فرق الجهد بين طرفى موصل تناسبًا ..... مع شدة التيار الكهربى المار فيه عند ثبوت درجة الحرارة. (صحافة ق ٢٠٢١)

(٢) يستخدم جهاز ..... لقياس شدة التيار بوحدة تسمى ..... (ق ٢٢)

(٣) يقاس ..... باستخدام جهاز الفولتميتر بوحدة تسمى ..... (بورسعيد ٢١)

(٤) يستخدم جهاز ..... لقياس القوة الدافعة الكهربية للبطارية بوحدة تسمى ..... (الدقهلية ٢٢)

(٥) عند توصيل موصلين مشحونين مختلفين فى الجهد الكهربى، فإن التيار الكهربى يسرى من الموصل ..... جهدًا إلى الموصل ..... جهدًا. (البحر الأحمر ٢١)

اختر الإجابة الصحيحة مما بين القوسين :

(١) يستخدم جهاز ..... لقياس القوة الدافعة الكهربية للبطارية. (المنوفية ١٨)
(الفولتميتر / الأوميتر / الأميتر)

(٢) يستخدم الريوستات المنزلق فى ..... بالدائرة الكهربية. (الأقصر ٢١)
(قياس شدة التيار / قياس فرق الجهد / تغيير قيمة المقاومة)

(٣) يستخدم جهاز الأوميتر لقياس ..... بالدائرة الكهربية. (مطروح ٢١)
(فرق الجهد / شدة التيار / المقاومة)

(٤) وحدة قياس المقاومة الكهربية هى ..... (أمبير / فولت / أوم)

(٥) وحدة قياس شدة التيار هى ..... (الفيوم ٢٢) (أمبير / فولت / أوم)

اكتب المصطلح العلمى الدال على كل عبارة مما يأتى :

(١) الممانعة التى يلقاها التيار الكهربى أثناء مروره فى الموصل. (أسيوط ٢١)

(٢) تدفق الشحنات الكهربية السالبة خلال مادة موصلة (سلك معدنى). (السويس ٢١)

(٣) كمية الشحنة الكهربية المتدفقة خلال مقطع من موصل فى زمن قدره ثانية واحدة. (الوادى الجديد ١٨)

(٤) حالة الموصل التى تبين انتقال الكهربية منه أو إليه إذا ما وصل بموصل آخر. (الدقهلية ٢١)

(٥) مقاومة الموصل الذى يسرى فيه تيار كهربى شدته ١ أمبير عندما يكون فرق الجهد بين طرفيه ١ فولت. (مطروح ٢١)

ثانيًا أسئلة كتاب الامتحان مجاب عنها

١ اختر الإجابة الصحيحة مما بين الإجابات المعطاة :

التيار الكهربى و شدة التيار

(١) حاصل ضرب شدة التيار الكهربى المار فى موصل فى زمن سريان الشحنة الكهربية يتعين كمية فيزيائية تقاس بوحدة .....

(أ) أمبير. (ب) كولوم.
(جـ) ثانية. (د) متر.

(٢) إذا قلت كمية الشحنة الكهربية المارة عبر مقطع من موصل للنصف مع ثبات زمن سريانها فإن شدة التيار .....

(أ) تقل للنصف. (ب) تقل للربع.
(جـ) تزداد للضعف. (د) تزداد لأربعة أمثالها.

(٣) كمية الكهربية المارة فى موصل عند مرور تيار كهربى شدته ٢ أمبير عبر مقطع من هذا الموصل فى زمن قدره عشرون دقيقة، تساوى ..... كولوم. (جنوب سيناء)

(أ) ١٠ (ب) ٢٠
(جـ) ٤٠ (د) ٢٤٠٠

(٤) الشكل ..... يمثل دائرة متصل بها أميتر بطريقة صحيحة.

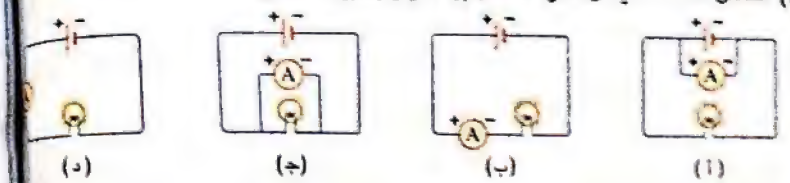

(أ) (ب) (جـ) (د)

فرق الجهد

(٥) يقاس الشغل المبذول بوحدة ..... (الغربية)

(أ) أمبير. (ب) جول.
(جـ) كولوم. (د) أوم.

(٦) يلزم بذل شغل قدره ..... جول لنقل شحنة قدرها ١٠ كولوم بين نقطتين فرق الجهد بينهما ٢٠ فولت. (الإسكندرية)

(أ) $\frac{1}{2}$ (ب) ٢
(جـ) ٢٠ (د) ٢٠٠

(٧) الشكل ..... يمثل جزء من دائرة متصل بها أميتر و فولتميتر بطريقة صحيحة. (الجيزة ١٨)

(أ) (ب) (جـ) (د)

القوة الكهربية و قانون أوم

(٨) الشكل ..... يعبر عن التوصيل الصحيح لفولتميتر يستخدم لقياس فرق الجهد بين طرفى مصباح.



(أ) (ب) (جـ) (د)

(٩) يتحرك الزالق المعدنى للريوستات على .....

(أ) أسطوانة معزولة. (ب) أسطوانة من الجرافيت.
(جـ) سلك معزول ملفوف حول أسطوانة من مادة موصلة.
(د) سلك معدنى ملفوف حول أسطوانة معزولة.

(١٠) من المواد العازلة التى تستخدم فى صناعة الأجهزة الكهربية ..... (الدقهلية ١٩)

(أ) البورسلين. (ب) الرصاص. (جـ) النتجستين. (د) البلاتين.

(١١) للتحكم فى قيمة شدة التيار الكهربى المار فى الأجزاء المختلفة بالدائرة الكهربية، يستخدم جهاز ..... (الغربية ١٨)

(أ) الأميتر. (ب) الفولتميتر. (جـ) الأوميتر. (د) الريوستات.

(١٢) إذا تم تحريك زالق المقاومة المتغيرة لزيادة طول السلك المدمج بالدائرة الكهربية، فما تأثير ذلك على كل من شدة التيار والمقاومة الكهربية ؟ ..... (الإسكندرية ١٩)

الاختيارات	شدة التيار	المقاومة الكهربية
(أ)	تزداد	لا تتأثر
(ب)	لا تتأثر	تزداد
(جـ)	تقل	تزداد
(د)	تزداد	تقل

(١٣) أمامك أربع دوائر كهربية : أيًا من هذه الدوائر الكهربية تستخدم فى توضيح كيفية تغير شدة التيار الكهربى المار فى فتيل المصباح عند تغيير فرق الجهد بين طرفيه ؟ .....

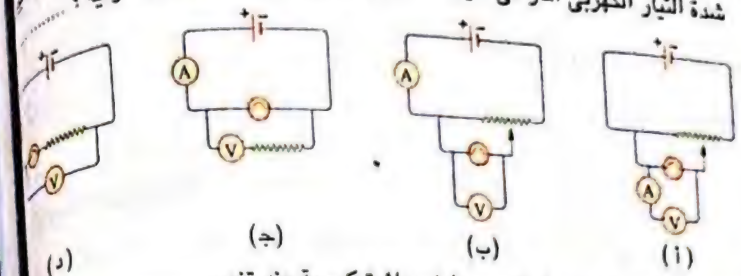

(أ) (ب) (جـ) (د)

(١٤) تتغير قيمة مقاومة موصل كهربى ما فى دائرة كهربية عند تغير .....

(أ) شدة التيار المار به. (ب) زمن التوصيل.

(جـ) أبعاد الموصل. (د) كمية الكهربية المارة به.

(١٥) إذا تم استبدال السلك (أ ب) فى دائرة كهربية بالسلك (حـ ء) وكان كلاهما من النحاس ولهما نفس مساحة المقطع، فإن قيمة المقاومة .....

(أ) لا تتغير. (ب) تزداد. (جـ) تقل.

(١٦) الصيغة الرياضية لقانون أوم هى .....

(أ) م = جـ / ت (ب) م = ت / جـ (جـ) ت = م / جـ (د) جـ = ت / م

(١٧) ما الكمية الفيزيائية التى تقاس بوحدة فولت/أمبير ؟ .....

(أ) شدة التيار. (ب) المقاومة الكهربية.

(جـ) فرق الجهد. (د) كمية الكهربية.

(١٨) أى الأشكال التالية يحقق قانون أوم ؟ .....

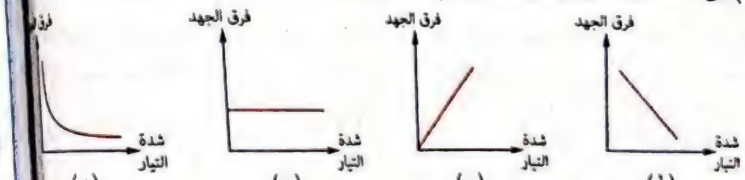

(أ) (ب) (جـ) (د)

(١٩) إذا مر تيار كهربى شدته ٠,٢ أمبير خلال سخان كهربى وكان فرق الجهد بين طرفيه ٢٢٠ فولت، فإن مقاومته تساوى ..... أوم.

(أ) ٢٠ (ب) ١٠٠٠ (جـ) ١١٠٠ (د) ٢٢٠٠

(٢٠) الجدول المقابل : يوضح فرق الجهد بين طرفى أربعة مصابيح مختلفة وشدة التيار المار فى كل منها. أيًا من هذه المصابيح تكون مقاومة فتيله هى الأكبر ؟ .....

المصباح	فرق الجهد (فولت)	شدة التيار (أمبير)
(A)	٢	٠,٥
(B)	٣	٠,٢
(C)	٦	١٢
(D)	١٢	١

(أ) (A) (ب) (B)

(جـ) (C) (د) (D)

(٢١) فى الدائرة الموضحة بالشكل المقابل : إذا كان فرق الجهد بين طرفى المقاومة ١٨ فولت، فإن قراءة الأميتر تساوى ..... أمبير. (القليوبية ١٥)

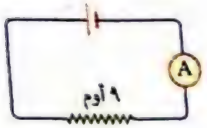

(أ) ١ (ب) ١,٥

(جـ) ٢ (د) ٢,٥

(٢٢) من الشكل البيانى المقابل، مقاومة الموصل تعادل ..... أوم.

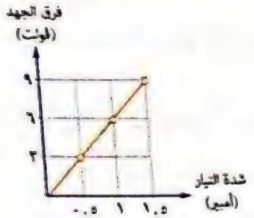

(أ) ١,٥ (ب) ٤

(جـ) ٦ (د) ١٨

(٢٣) الشكل ..... يمثل العلاقة بين شدة التيار الكهربى والمقاومة الكهربية عند ثبوت درجة الحرارة. (المنيا ١٦)

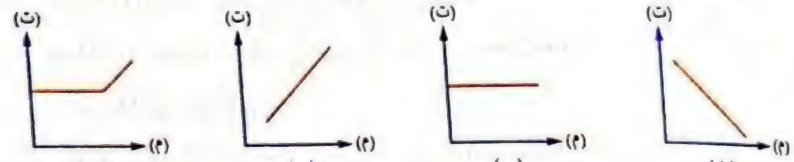

(أ) (ب) (جـ) (د)

(٢٤) فى الدائرة الموضحة بالشكل المقابل :

إذا زادت قراءة الفولتميتر للضعف، فإن قيمة المقاومة (م) المتصل معها الفولتميتر على التوازى ..... (الدقهلية ١٥)

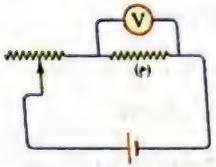

(أ) تزداد للضعف.

(ب) تقل للنصف. (جـ) لا تتغير.

(٢٥) إذا زادت شدة التيار الكهربى المار فى مقاومة كهربية مقدارها ٢٠ أوم إلى الضعف تكون قيمة المقاومة ..... أوم. (البحيرة)

(أ) ١٠ (ب) ٢٠ (جـ) ٣٠ (د) ٤٠

٢ اكتب المصطلح العلمى الدال على كل عبارة من العبارات الآتية :

التيار الكهربى و شدة التيار

(١) تدفق الشحنات الكهربية السالبة خلال الموصلات المعدنية. (بورسعيد)

(٢) كمية الكهربية بالكولوم المتدفقة عبر مقطع من موصل فى زمن قدره ١ ثانية. (القليوبية)

(٣) شدة التيار الناتج عن مرور كمية من الكهربية مقدارها ١ كولوم عبر مقطع من موصل فى زمن قدره ١ ثانية. (الفيوم)

(٤) كمية الكهربية المنقولة بتيار ثابت شدته ١ أمبير فى زمن قدره ١ ثانية. (الشرقية)

فرق الجهد

(٥) حالة الموصل الكهربية التى تبين انتقال الكهربية منه أو إليه إذا ما وصل بموصل آخر. (المنوفية)

(٦) مقدار الشغل المبذول لنقل كمية من الكهربية مقدارها ١ كولوم بين طرفى موصل. (الإسكندرية)

(٧) النسبة بين الشغل المبذول وكمية الكهربية المارة بين نقطتين. (الشرقية)

(٨) فرق الجهد بين طرفى موصل عند بذل شغل مقداره ١ جول لنقل كمية من الكهربية مقدارها ١ كولوم بين طرفى هذا الموصل. (بنى سويف)

(٩) كمية فيزيائية وحدة قياسها تكافئ جول/ڤولت. (البحر الأحمر)

(١٠) فرق الجهد بين قطبى المصدر الكهربى فى الدائرة الكهربية المفتوحة. (سوهاج)

المقاومة الكهربية و قانون أوم

(١١) الممانعة التى يلقاها التيار الكهربى أثناء سريانه فى الموصل. (البحيرة)

(١٢) المقاومة التى يمكن تغيير قيمتها للتحكم فى قيمة كل من شدة التيار وفرق الجهد بين الأجزاء المختلفة من الدائرة الكهربية. (البحيرة)

(١٣) تتناسب شدة التيار الكهربى المار فى موصل تناسبًا طرديًا مع فرق الجهد بين طرفى هذا الموصل، عند ثبوت درجة الحرارة. (سوهاج)

(١٤) النسبة بين فرق الجهد بين طرفى موصل وشدة التيار الكهربى المار فيه. (مطروح)

(١٥) مقاومة موصل كهربى يمر خلاله تيار كهربى شدته ١ أمبير عندما يكون فرق الجهد بين طرفيه ١ ڤولت. (الفيوم)

(١٦) شدة التيار الكهربى المار فى موصل مقاومته ١ أوم، عندما يكون فرق الجهد بين طرفيه ١ ڤولت. (الأقصر)

(١٧) فرق الجهد بين طرفى موصل مقاومته ١ أوم يمر خلاله تيار كهربى شدته ١ أمبير.

٣ اذكر اسم الجهاز المستخدم فى كل من :

(١) قياس شدة التيار الكهربى المار فى دائرة كهربية. (البحيرة)

(٢) * قياس فرق الجهد بين طرفى موصل. (الفيوم)

* قياس القوة الدافعة الكهربية.

(٣) خفض الجهد الكهربى.

(٤) قياس المقاومة الكهربية لموصل. (أسوان)

(٥) التحكم فى شدة التيار المار فى الدائرة الكهربية وفيه تتناسب المقاومة طرديًا مع طول السلك. (المنوفية)

٤ اذكر الكمية الفيزيائية التى تقاس بكل من الوحدات الآتية :

(١) * الكولوم. (٢) * الأمبير.

* أمبير.ثانية. (القليوبية) * كولوم/ثانية. (السويس)

(٣) * الڤولت. (٤) * الأوم.

* جول/كولوم. (السويس) * ڤولت/أمبير. (السويس)

٥ اختر من العمود (B) ما يناسب العمود (A) :

(A)	(B) (البحيرة)
وحدة القياس	الوحدة المكافئة
(١) الأمبير	(١) ڤولت ÷ أمبير.
(٢) الأوم	(٢) أمبير × ثانية.
(٣) الڤولت	(٣) جول ÷ كولوم.
(٤) الجول	(٤) كولوم ÷ ثانية.
	(٥) كولوم × ڤولت.

٦ اختر من العمودين (B) ، (C) ما يناسب العمود (A) :

(A)	(B)	(C)
الكمية الفيزيائية	وحدة القياس	الجهاز المستخدم
(١) شدة التيار الكهربى	(١) الأوم	(١) الفولتميتر.
(٢) فرق الجهد	(٢) الكولوم	(٢) الأميتر.
(٣) المقاومة الكهربية	(٣) الفولت	(٣) الريوستات.
	(٤) الأمبير	(٤) الأوميتر.

٧ أكمل العبارات الآتية بما يناسبها :

التيار الكهربى وشدة التيار

(١) شدة التيار الكهربى الناتج عن مرور كمية من الكهربية مقدارها ٥٤٠٠ كولوم عبر مقطع موصل فى زمن قدره ٥ دقائق تساوى ..... (البحيرة)

فرق الجهد

(٢) إذا وصل موصل أعلى جهد كهربى بموصل آخر أقل جهد كهربى، فإن انتقال الشحنات الكهربية يتوقف على وجود ..... بينهما ولا يتوقف على ..... فى كل منهما. (الدقهلية)

(٣) الشكل المقابل : يوضح اتجاه انتقال الشحنات الكهربية بين موصلين مشحونين ومنه يستنتج أن الموصل الأعلى جهداً هو ..... (بنى سويف ٢١)

(٤) الفولت = جول ÷ ..... وهو وحدة قياس كل من ..... و ..... (الإسماعيلية)

(٥) تقدر كمية الكهربية بوحدة ..... التى تكافئ ..... أو ..... (المنوفية)

(٦) فى الدائرة الكهربية يرمز لجهاز ..... بالرمز —(V)— ولجهاز ..... بالرمز —(A)—

(٧) فى الدائرة الكهربية يوصل الأميتر على ..... بينما يوصل الفولتميتر على ..... (سوهاج)

(٨) يوصل جهاز الفولتميتر على التوازى بطرفى الموصل لقياس ..... بين طرفيه أو يوصل فى الدائرة الكهربية المفتوحة على التوازى بين قطبى المصدر الكهربى لقياس ..... لهذا المصدر

المقاومة الكهربية وقانون أوم

(٩) تستخدم فى الدوائر الكهربية نوعان من المقاومات، هما : ..... ، .....

(١٠) يستخدم جهاز ..... لقياس المقاومة الكهربية والتى تقدر بوحدة ..... (البحر الأحمر ١٩)

(١١) يستخدم جهاز الريوستات المنزلق للتحكم فى ..... عن طريق التحكم فى ..... المدمج بالدائرة الكهربية. (السويس ١٩)

(١٢) تتناسب شدة التيار الكهربى المار فى موصل تناسبًا ..... مع مقاومة هذا الموصل عند ثبوت فرق الجهد، وتتناسب تناسبًا ..... مع فرق الجهد بين طرفى هذا الموصل عند ثبوت درجة الحرارة. (البحر الأحمر ١٨)

(١٣) فى الدائرة الكهربية المقابلة : (البحيرة ١٩)

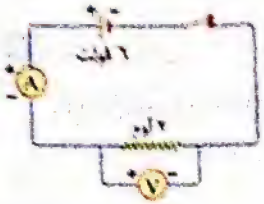

• قراءة الفولتميتر = ...

• قراءة الأميتر = ...

(١٤) فى الدائرة الكهربية المقابلة : (السويس ٢١)

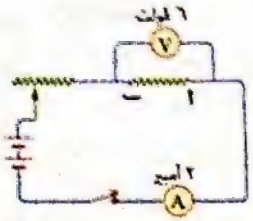

• نوع المقاومة (أ ب) : .....

• قيمة المقاومة (أ ب) = ... أوم.

• كمية الكهربية المارة فى المقاومة (أ ب) خلال نصف دقيقة = ... كولوم.

٨ صوب ما تحته خط :

التيار الكهربى وشدة التيار

(١) الفولت هو الشحنة المنقولة بتيار ثابت شدته واحد أمبير فى الثانية الواحدة. (الأزهر ١٦)

(٢) وحدة قياس الشحنة الكهربية هى الفولت. (البحيرة ٢١)

فرق الجهد

(٣) يعتمد انتقال الشحنة الكهربية بين موصلين على شدة تيار الموصلين. (الإسماعيلية ٢١)

(٤) إذا كان مقدار الشغل المبذول لنقل شحنة كهربية مقدارها ٣٠٠ كولوم بين نقطتين يساوى ٣٣٢٠٠ جول، فإن فرق الجهد بين النقطتين يساوى ٢٢٢ فولت. (الغربية ١٦)

(٥) يوصل الأميتر فى الدوائر الكهربية على التوازى. (الأقصر ١٩)

(٦) وحدة قياس القوة الدافعة الكهربية هى الكولوم. (بورسعيد ٢١)

المقاومة الكهربية و قانون أوم

(٧) يستخدم الأميتر فى تغيير قيمة المقاومة فى الدائرة الكهربية. (كفر الشيخ)

(٨) مقاومة الموصل الذى يسرى فيه تيار كهربى شدته ١ أمبير عندما يكون فرق الجهد بين طرفيه ١ فولت هى ١٠ أوم. (بورسعيد)

(٩) إذا احترقت المقاومة الثابتة فى دائرة تحقيق قانون أوم تصبح قراءة الأميتر مالا نهاية. (القليوبية)

٩ علل لما يأتى :

التيار الكهربى و شدة التيار

(١) يوصل جهاز الأميتر فى الدائرة الكهربية.

فرق الجهد

(٢) انتقال الشحنات الكهربية من موصل مشحون إلى موصل آخر مشحون. (الفيوم)

(٣) لا يمكن أن يمر تيار كهربى فى السلك الموضح بالشكل المقابل من النقطة (أ) إلى النقطة (ب) عند دمجه فى دائرة كهربية. (القليوبية ١٥)

(٤) لا يمر تيار كهربى عند توصيل موصلين مشحونين لهما نفس الجهد الكهربى. (كفر الشيخ)

(٥) يوصل طرفى الفولتميتر بقطبى البطارية فى الدائرة الكهربية المفتوحة. (مطروح)

(٦) فى الشكل المقابل :
لا تنعدم قراءة الفولتميتر عند فتح المفتاح فى الدائرة الكهربية. (القليوبية ١٩)



(٧) يستلزم لشحن الموبايل استخدام محول كهربى. (الشرقية ١٩)

المقاومة الكهربية و قانون أوم

(٨) تزداد مقاومة الموصل الكهربى بزيادة طوله. (البحيرة ٢٦)

(٩) يستخدم الريوستات المنزلق (المقاومة المتغيرة) فى بعض الدوائر الكهربية. (دمياط ٢٦)

(١٠) يمكن تغيير قيمة مقاومة الريوستات المنزلق. (الغربية ١٥)

(١١) إذا زادت شدة التيار الكهربى المار فى مقاومة ما، فإن فرق الجهد بين طرفيها يزداد. (القليوبية ١٩)

١٠ استدرج الكلمة (أو العبارة) غير المناسبة، ثم اذكر ما يربط بين باقى الكلمات (أو العبارات) :

(١) كولوم / ثانية / أمبير / جول / كولوم / فولت / أوم (جنوب سيناء ٢٦)

(٢) الضغط / فرق الجهد / المقاومة الكهربية / شدة التيار. (الفيوم ٢٦)

(٣) الفولتميتر / الأميتر / الأوميتر / البارومتر. (أسوان ٢٦)

١١ ما المقصود بكل من :

التيار الكهربى و شدة التيار

(١) شدة التيار الكهربى. (الوادى الجديد ١٤) (٢) الأمبير. (البحيرة ٢٦)

فرق الجهد

(٣) الفولت. (مطروح ١٤) (٤) القوة الدافعة الكهربية لمصدر كهربى. (الفيوم ١٤)

المقاومة الكهربية و قانون أوم

(٥) المقاومة الكهربية. (الوادى الجديد ١٤) (٦) المقاومة المتغيرة (الريوستات المنزلق). (سوهاج ١١)

(٧) قانون أوم. (الدقهلية ٢١) (٨) الأوم. (السويس ١٦)

١٢ ما معنى قولنا أن :

التيار الكهربى و شدة التيار

(١) شدة التيار الكهربى المار فى موصل ٢ أمبير. (البحر الأحمر ١٦)

(٢) كمية الشحنة الكهربية المتدفقة عبر مقطع من موصل فى زمن قدره ١ ثانية تساوى ٥ كولوم.

فرق الجهد

(٣) فرق الجهد الكهربى بين طرفى موصل ٥ فولت. (البحر الأحمر)

(٤) الشغل المبذول لنقل كمية من الكهربية مقدارها ٨ كولوم بين طرفى موصل يساوى ٦٤ جول. (البحيرة)

(٥) القوة الدافعة الكهربية لعمود كهربى ١,٥ فولت. (الأقصر)

المقاومة الكهربية و قانون أوم

(٦) مقاومة موصل ٢٥ أوم. (الدقهلية)

(٧) النسبة بين فرق الجهد بين طرفى موصل وشدة التيار الكهربى المار فيه تساوى ٢٠ فولت/أمبير. (البحيرة)

(٨) موصل كهربى فرق الجهد بين طرفيه ١٥ فولت ويمر فيه تيار شدته ٣ أمبير.

(٩) شدة التيار المار فى موصل مقاومته ٤٠٠ أوم تساوى ٠,٥ أمبير.

(١٠) فرق الجهد بين طرفى موصل مقاومته ٢ أوم يساوى ٤ فولت. (البحر الأحمر)

١٣ اذكر استخدام أو أهمية كلاً من :

(١) الأميتر. (الأقصر ٢١) (٢) الفولتميتر. (كفر الشيخ)

(٣) المحول الكهربى. (النوبة ١٨) (٤) الأوميتر. (أسوان)

(٥) • الريوستات المنزلق (المقاومة المتغيرة). (مطروح)

• الشكل المقابل فى الدوائر الكهربية  (بنى سويف)

١٤ ما النتائج المترتبة على كل من :

التيار الكهربى و شدة التيار

(١) انعدام أو ضعف قوى التجاذب فى الذرة بين النواة والإلكترونات مستوى الطاقة الخارجى. (الغربية)

(٢) زيادة كمية الشحنة الكهربية المارة عبر مقطع من موصل فى الثانية الواحدة. (كفر الشيخ ١٨)

(٣) زيادة زمن سريان الشحنة الكهربية للضعف مع ثبات كمية الشحنة الكهربية. «بالنسبة لشدة التيار الكهربى». (الأقصر ٢٥)

فرق الجهد

(٤) تلامس موصلان مشحونان وكان الجهد الكهربى لأحدهما أكبر من الجهد الكهربى للآخر. (الجيزة ٢١)

(٥) تساوى الجهد الكهربى للموصل (A) مع الجهد الكهربى للموصل (B) فى الشكل المقابل «بالنسبة لمرور التيار الكهربى». (الجيزة ٢١)

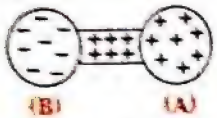

(٦) زيادة الشغل المبذول لنقل كمية من الكهربية عبر مقطع من موصل للضعف مع ثبات كمية الكهربية.

المقاومة الكهربية و قانون أوم

(٧) زيادة الممانعة التى يلقاها التيار الكهربى أثناء سريانه فى موصل. (كفر الشيخ ١٢)

(٨) نقص طول سلك الريوستات المدمج فى الدائرة الكهربية «بالنسبة لشدة التيار الكهربى».

(٩) زيادة طول سلك الريوستات المدمج فى الدائرة الكهربية. «بالنسبة للمقاومة وشدة التيار الكهربى». (دمياط ١٨)

(١٠) احتراق المقاومة الثابتة فى الدائرة الكهربية المستخدمة لتحقيق قانون أوم «بالنسبة لقراءة كل من الأميتر المتصل بالدائرة على التوالى والفولتميتر المتصل مع مصدر التيار الكهربى بالدائرة». (مطروح ١٩)

(١١) زيادة فرق الجهد بين طرفى موصل للضعف مع ثبات درجة الحرارة. (الأزهر ٢٤)

١٥ قارن بين كل من :

(١) التيار الكهربى و شدة التيار الكهربى. (الإسماعيلية ٢١)

(٢) شدة التيار و فرق الجهد و المقاومة الكهربية (الأقصر ٢١)

«من حيث : التعريف – جهاز القياس – وحدة القياس».

(٣) الأميتر و الڤولتميتر، من حيث : (البحر الأحمر ٢١)

(أ) الاستخدام – وحدة القياس.

(ب) الرمز – طريقة التوصيل فى الدائرة الكهربية. (البحر الأحمر ٢١)

(٤) وحدة قياس شدة التيار و وحدة قياس فرق الجهد «من حيث : التعريف». (كفر الشيخ ٢١)

(٥) المقاومة الكهربية و القوة الدافعة الكهربية (الدقهلية ٢٠)

«من حيث : الجهاز المستخدم فى قياس كل منهما».

(٦) شدة التيار الكهربى المار خلال سلكين من النحاس لهما نفس المقطع، الأول طوله ٥ سم و الثانى طوله ١٠ سم عند تساوى فرق الجهد بين طرفيهما.

١٦ أكمل بيانات الجدولين التاليين :

①	شدة التيار (أمبير)	الزمن (ثانية)	كمية الكهربية (كولوم)	الشغل المبذول (جول)	فرق الجهد (ڤولت)
(١)	٤	١	.....	٨٠	.....
(٢)	.....	٠.٥	٥	.....	٢٥

②	المقاومة (م)	فرق الجهد (جـ)	شدة التيار (ت)
(١)	.....	ڤولت	.....
(٢)	٣	.....	٣٠
(٣)	٣٠	٣٠	.....

١٧ مسائل متنوعة :

التيار الكهربى و شدة التيار

١ احسب شدة التيار الكهربى الناتج عن مرور كمية من الكهربية مقدارها ٢٤٠٠ كولوم عبر مقطع من موصل خلال ٤ دقائق. (القاهرة ٢١)

٢ احسب شدة التيار الكهربى الناتج عن مرور كمية من الكهربية مقدارها ٤٠٠ كولوم عبر مقطع من موصل خلال ٥ ساعة. (أسيوط ٢٠)

٣ احسب كمية الكهربية بالكولوم الناتجة عن مرور تيار كهربى شدته ١٨ أمبير لمدة ٥ دقيقة. (جنوب سيناء ١٨)

٤ احسب الزمن الذى تستغرقه كمية من الكهربية مقدارها ١٠ كولوم للمرور عبر مقطع من موصل ما فى دائرة كهربية يمر بها تيار شدته ٥ أمبير.

فرق الجهد

٥ احسب فرق الجهد بين نقطتين إذا كان مقدار الشغل المبذول لنقل شحنة كهربية مقدارها ٣٠٠ كولوم بينهما يساوى ٦٦٠٠٠ جول. (المنيا ٢١)

٦ إذا كان فرق الجهد بين طرفى موصل يساوى ٣ ڤولت، احسب مقدار الشغل المبذول لنقل شحنة كهربية مقدارها ٥ كولوم بين طرفيه. (قنا ٢٦)

٧ إذا كان فرق الجهد بين طرفى مصدر كهربى ١٥ ڤولت، احسب كمية الكهربية المنقولة عندما يبذل هذا المصدر الكهربى شغل مقداره ١٥٠ جول.

المقاومة الكهربية و قانون أوم

٨ إذا مر تيار كهربى شدته ٠.٣ أمبير خلال سخان كهربى وكان فرق الجهد بين طرفيه ٢٤٠ ڤولت، احسب مقاومة السخان. (الدقهلية ١٩)

٩ احسب شدة التيار المار فى جهاز كهربى مقاومته ٢٠ أوم عندما يكون فرق الجهد بين طرفيه ٢٢٠ ڤولت. (سوهاج ١٩)

١٠ احسب فرق الجهد بين طرفى جهاز كهربى مقاومته ٢٢ أوم وشدة التيار المار فيه ١٠ أمبير. (بورسعيد ٢١)

١١ إذا تم بذل شغل قدره ١٠٠٠ جول لنقل كمية من الكهربية مقدارها ١٠٠ كولوم فى موصل ما خلال زمن قدره ٢٠ ثانية، احسب : (الوادى الجديد ١٩)

(أ) شدة التيار المار فى هذا الموصل.

(ب) فرق الجهد بين طرفى هذا الموصل.

(جـ) مقاومة هذا الموصل.

١٢ في الشكل المقابل، إذا كانت قراءة الأميتر ٢ أمبير وقراءة الفولتميتر ٨ فولت، احسب :

(أ) قيمة المقاومة (م).

(ب) كمية الكهربية المارة في الدائرة خلال دقيقة واحدة.

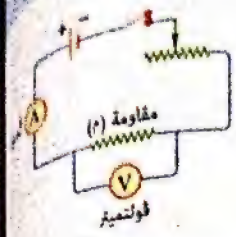

(شمال سيناء ٢١)

١٣ في الدائرة الكهربية المقابلة، احسب :

(أ) قراءة الفولتميتر V_1 والمفتاح مفتوح.

(ب) قراءة الفولتميتر V_2 والمفتاح مغلق.

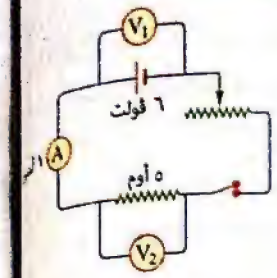

(الإسماعيلية ١٧)

١٤ في الدائرة الكهربية المقابلة، إذا كانت كمية الكهربية المارة خلال زمن قدره ٦٠ ثانية هي ٣٠ كولوم، احسب :

(أ) قراءة الأميتر (A).

(ب) مقاومة السلك (م).

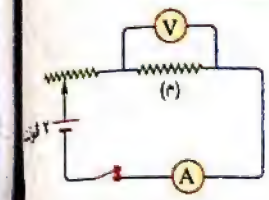

(مطروح ٢١)

١٨ ادرس الأشكال الآتية، ثم أجب :

١ من الشكل المقابل :

(أ) ما اسم هذا الجهاز ؟

(ب) اكتب ما تشير إليه الأرقام من (١) : (٤).

(جـ) ما فكرة عمل هذا الجهاز ؟

(د) كيف يمكن استخدامه كمقاومة ثابتة ؟

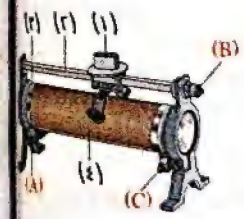

(الفيوم ١٤)

٢ الشكل المقابل يوضح دائرة كهربية :

(أ) أكمل : الجهاز (١) يمثل ..... ويستخدم في قياس ..... بينما الجهاز (٢) يمثل ..... ويستخدم في قياس ..... (الإسكندرية ١٧)

(ب) ما طريقة توصيل كل من (١)، (٢) في الدائرة ؟ (بني سويف ١٤)

(جـ) مما يتركب الجزء (٣) ؟ وفيما يستخدم ؟ (الإسكندرية ١٤)

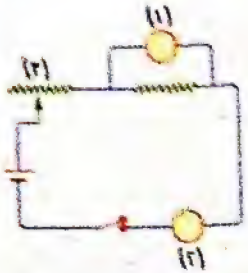

٣ من الشكل المقابل : (السويس ١٦)

(أ) فيما تستخدم الدائرة الكهربية الموضحة بالشكل ؟

(ب) اكتب الصيغة الرياضية للقانون المستنتج من التجربة التي تستخدم هذه الدائرة الكهربية فيها.

(جـ) إذا تم خفض قيمة المقاومة المتغيرة المتصلة بالدائرة، ماذا يحدث لكل من :

١- المقاومة الكلية.

٢- قراءة الأميتر المتصل بالدائرة.

٣- قراءة الفولتميتر المتصل بالمقاومة الثابتة.

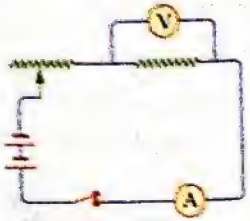

٤ (أ) ما الذي يرمز إليه كل شكل من الأشكال التالية ؟ (القاهرة ١٦)

(ب) كوِّن دائرة كهربية مغلقة من الأدوات السابقة، ثم وضح كيف يمكنك بواسطتها تحقيق قانون أوم عمليًا. (أسوان ١٦)

٥ من الدائرة الكهربية المقابلة : (الغربية ١٢)

(أ) اكتب ما تشير إليه الأرقام (١)، (٢).

(ب) إذا استبدلت المقاومة (أ ب) بمقاومة أخرى من نفس المادة ولها نفس مساحة المقطع ولكنها أكبر في الطول، فماذا يحدث لقراءة الأميتر ؟

(جـ) هل تصلح هذه الدائرة لتحقيق قانون أوم ؟ ولماذا ؟

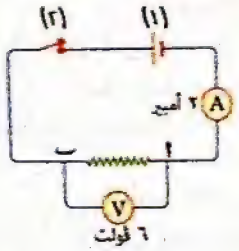

(دمياط ٢١)

٦ في الدائرة الكهربية المقابلة :

(أ) احسب قراءة الفولتميتر.

(ب) وضح أثر تحريك زالق الريوستات من النقطة (أ) إلى النقطة (ب) على قراءة الأميتر.

وماذا تستنتج من ذلك ؟

٧ الشكل المقابل يوضح العلاقة بين شدة التيار المار في مقاومة ثابتة وفرق الجهد بين طرفيها :



(أ) أوجد قيمة المقاومة الثابتة في الدائرة.

(ب) حدد قراءة الأميتر عندما كانت قراءة الفولتميتر ٣٠ فولت.

١٩ أسئلة متنوعة :

١ وضح بالرسم فقط توصيل الفولتميتر في الدائرة الكهربية لقياس كل من : (الشرقية ...)

(أ) فرق الجهد بين طرفي مصباح.

(ب) القوة الدافعة الكهربية بين قطبي البطارية.

٢ إذا علمت أن جهد التيار الكهربي في المنزل ٢٢٠ فولت، فكيف يمكنك تشغيل جهاز راديو يعمل على جهد قدره ١١٠ فولت دون أن يتلف ؟

٣ اذكر أنواع المقاومات الكهربية، مع ذكر رمز كل منها في الدائرة الكهربية. (الدقهلية ...)

٤ اذكر اسم العالم الذي اكتشف الخصائص الكمية للتيار الكهربي ووضع قانون في الكهربية عرف باسمه. (كفر الشيخ ...)

٥ وضح بالرسم الدائرة الكهربية المستخدمة لاستنتاج العلاقة بين شدة التيار الكهربي المار في مقاومة ما وفرق الجهد بين طرفيها، مع كتابة البيانات على الرسم. (الجيزة ...)

٦ تكتب الشركات المصنعة للأجهزة الكهربية مقدار فرق الجهد وشدة التيار أو مقدار فرق الجهد والمقاومة الكهربية على الأجهزة، فإن معرفة مقدار متغيرين فقط تمكنك من معرفة مقدار المتغير الثالث. اذكر اسم القانون المستخدم لذلك، مع ذكر صيغته الرياضية. (الغربية ...)

٢٠ أسئلة تقيس مستويات التفكير العليا

اختر الإجابة الصحيحة مما بين الإجابات المعطاة :

١ في الدائرة ..... يكون المصباح X مطفأ، بينما المصباحين Z ، Y مضيئين.

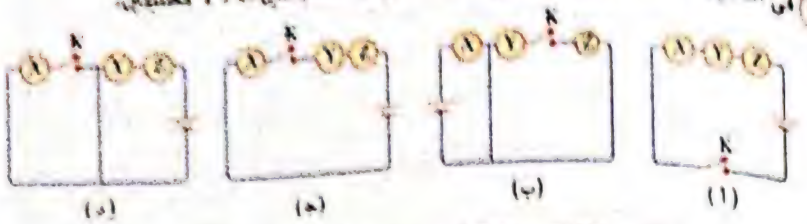

(أ) (ب) (ج) (د)

٢ إذا زادت كمية الشحنة الكهربية المارة في سلك كهربي إلى الضعف وقل زمن مرورها للنصف، فإن شدة التيار ..... (الشرقية ٢١)

(أ) تزداد إلى أربعة أمثالها. (ب) تقل إلى الربع.

(ج) تظل ثابتة. (د) تزداد للضعف.

٣ الكمية الفيزيائية التي وحدة قياسها تكافئ جول/فولت.ثانية هي ..... (البحر الأحمر ١٨)

(أ) شدة التيار. (ب) فرق الجهد.

(ج) الشغل المبذول. (د) كمية الكهربية.

٤ الشكل المقابل : يوضح جهاز X يصل بين مصدر للتيار الكهربي قوته الدافعة الكهربية ٦ فولت ومصباح كهربي فرق الجهد بين طرفيه ١٢ فولت. ما اسم الجهاز X ؟ .....



(أ) جهاز تغذية كهربية غير منقطعة. (ب) دينامو.

(ج) محول كهربي. (د) ريوستات.

٥ يشترك كل من فرق الجهد بين طرفي موصل والقوة الدافعة الكهربية بين طرفي موصل في وحدة القياس وهي تكافئ ..... (المنوفية ٢١)

(أ) $\frac{\text{أوم}}{\text{أمبير}}$ (ب) $\frac{\text{أمبير}}{\text{أوم}}$ (ج) $\frac{\text{كولوم}}{\text{جول}}$ (د) $\frac{\text{جول}}{\text{أمبير} \times \text{ثانية}}$

⑥ ماذا يحدث لشدة التيار المار فى دائرة كهربية عند زيادة القوة الدافعة الكهربية للمصدر الكهربى للضعف وزيادة المقاومة المتصلة بالدائرة الكهربية للضعف فى نفس الوقت ؟

(أ) تظل كما هى. (ب) تزداد للضعف.

(جـ) تزداد بمقدار ربع قيمتها. (د) تقل للنصف.

⑦ ما تأثير إزالة المقاومة (م٢) من الدائرة الكهربية الموضحة بالشكل المقابل، على قراءة كل من الأميتر و الفولتميتر ؟ .....

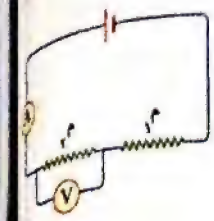

الاختيارات	قراءة الأميتر	قراءة الفولتميتر
(أ)	تزداد	تزداد
(ب)	تزداد	تقل
(جـ)	تقل	تزداد
(د)	تظل كما هى	تظل كما هى

⑧ فى الدائرة الكهربية المقابلة : عند تحريك زالق الريوستات من النقطة (أ) إلى النقطة (ب)، فإن قراءة الفولتميتر ..... (الوادى الجديد ٢١)

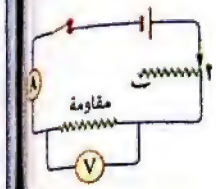

(أ) تزداد. (ب) تقل. (جـ) لا تتأثر.

(د) تساوى قيمة القوة الدافعة الكهربية للبطارية.

⑨ الشكل المقابل : يعبر عن العلاقة بين فرق الجهد و شدة التيار لسلكين معدنيين من مادتين مختلفتين. ومنه يتضح أن مقاومة السلك (أ) ..... مقاومة السلك (ب). (البحيرة ١٦)



(أ) أقل من (ب) تساوى (جـ) أكبر من

٢١ اذكر الكمية الفيزيائية التى تقاس بكل من الوحدات الآتية :

① جول/كولوم . أوم (الشرقية ١٩) ② فولت . أمبير . ثانية (الشرقية ١٩)

③ $\frac{\text{فولت . ثانية}}{\text{كولوم}}$ (الشرقية ١٩)

٢٢ مسائل متنوعة :

① احسب شدة التيار المار فى الدائرة الكهربية المقابلة، علمًا بأن الشغل المبذول لنقل الشحنة الكهربية ٥٤٠ جول، وزمن سريان الشحنة الكهربية ٣ ثوان. (الدقهلية ١٩)

② احسب فرق الجهد بين طرفى موصل شدة التيار المار به ٥ أمبير لمدة ١٠ ثانية، علمًا بأن الشغل المبذول يساوى ٢٠٠ جول. (الشرقية ٢١)

③ أمرت كمية من الكهربية مقدارها ٣٦٠ كولوم بين طرفى موصل لمدة ساعة، احسب الجهد الكهربى للمصدر، علمًا بأن مقاومة الموصل ٢٢٠٠ أوم. (الدقهلية ١٨)

④ احسب مقاومة موصل فرق الجهد بين طرفيه ٥٠ فولت، عند بذل شغل قدره ٣٠٠٠ جول، لنقل كمية من الكهربية خلاله لمدة دقيقتين. (الأزهر ١٦)

⑤ احسب كمية الكهربية المارة فى موصل كهربى مقاومته ٢٢٠٠ أوم لمدة دقيقتين عند توصيله بمصدر كهربى جهده ٢٢٠ فولت. (الغربية ٢١)

⑥ إذا لزم بذل شغل قدره ٢٠ جول لنقل كمية من الكهربية مقدارها ٤٠ كولوم خلال سلك مقاومته ١٠ أوم، احسب شدة التيار المار فى السلك. (البحيرة ٢١)

⑦ احسب مقدار الشغل المبذول لإمرار شحنة كهربية مقدارها ٣٠٠ كولوم عبر مقطع من موصل مقاومته ٥ أوم، وشدة التيار المار فيه ٣ أمبير. (الغربية ١٩)

⑧ إذا كان فرق الجهد بين طرفى موصل ٦ فولت وشدة التيار المار خلاله ٠,٥ أمبير فكم تكون شدة التيار المار فى هذا الموصل ؟ إذا تم توصيله بطرفى مصدر كهربى جهده ١٢ فولت. (بورسعيد ١٩)

٢٣ أسئلة متنوعة :

① متى يتساوى عدديًا فرق الجهد بين طرفى موصل مع شدة التيار المار فيه ؟ (المنوفية ١٩)

② فى الشكل المقابل :

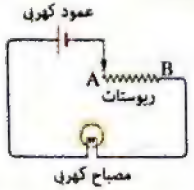

ماذا يحدث لإضاءة المصباح عند تحريك زالق الريوستات من النقطة A إلى النقطة B ؟ مع ذكر السبب. (شمال سيناء ٢١)

٣ من الشكل المقابل :

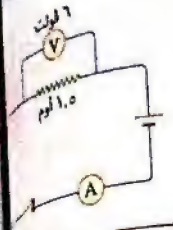

(أ) احسب قراءة الأميتر.

(ب) ماذا يحدث لقراءة الأميتر عند استبدال المقاومة بأخرى ٣ أوم ؟

(القليوبية ١٣)

٤ الشكل المقابل يوضح دائرة كهربية بها مصباح مقاومته ١٠ أوم ينصهر فتيله إذا زادت شدة التيار المار فيه عن ٠,١ أمبير : (القليوبية ١٧)

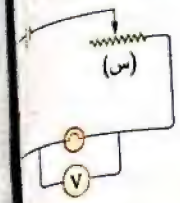

(أ) هل ينصهر فتيل المصباح عند مرور تيار كهربى فى الدائرة أم لا ؟ مع التعليل، علمًا بأن قراءة الفولتميتر المتصل به على التوازى ٥ فولت.

(ب) ما اسم الجزء (س) ؟ وفيما يستخدم ؟

٥ قارن بين قراءتى الفولتميتر فى الدائرتين الكهربيتين التاليتين، مع التعليل : (البحيرة)

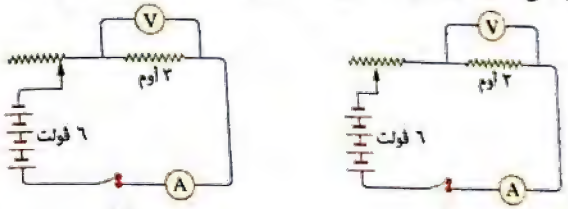

(٢) (١)

٦ فى الدائرة الكهربية الموضحة بالشكل المقابل، إذا كانت قراءة الأميتر ٥ أمبير وقراءة الفولتميتر ٢٠ فولت وعند تحريك زالق الريوستات أصبح تيار المقاومة الثابتة ٨ أمبير :

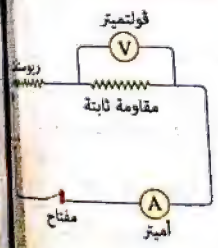

(أ) ماذا حدث لطول سلك الريوستات المدمج بالدائرة ؟

(ب) احسب فرق الجهد بين طرفى المقاومة الثابتة بعد تغيير قيمة الريوستات. (السويس ١٩)

فاصل ونواصل

الطفل البليد والمصباح الكهربى !

بعد ٣ أشهر من التحاقه بالمدرسة الابتدائية، أرسل مدير المدرسة خطابًا إلى أمه يخبرها بأن ابنها بليد، ويفضل أن تجلسه معها فى المنزل !! فردت أمه فى نفسها .. ابنى ليس بليدًا بل أنتم الأغبياء، واهتمت بعد ذلك بتعليمه وتربيته بنفسها.

وفى إحدى الليالى، مرضت أمه مرضًا شديدًا استلزم إجراء جراحة عاجلة، ولم يتمكن الطبيب من إجرائها، لعدم وجود ضوء كافٍ ... ومن هنا تولد لديه الإصرار على اختراع المصباح الكهربى، وقيل إنه حاول أكثر من ٩٩ محاولة قبل أن ينجح، وعندما توفى فى ١٩٣١/١٠/١٨م أطفأت أمريكا جميع مصابيحها - إكرامًا له - لأن لياليها كانت من قبله ظلامًا.

إنه توماس أديسون الطفل البليد .. الذى سجل فى حياته ١٠٩٣ براءة اختراع، كان من أهمها المصباح الكهربى و الميكروفون و الفونوجراف.

لقد استحق ما نال لأنه تحدى اليأس

"من أقوال توماس أديسون الخالدة"

* النجاح : ١٪ حظ + ٩٩٪ جهد.
* إذا فعلنا كل الأشياء التى نحن قادرون على فعلها، لأذهلنا أنفسنا.
* كل الناس يفكرون فى تغيير العالم، ولا أحد يفكر فى تغيير نفسه.

اختبر ذكاءك

ما الرقم الذى يجب وضعه بدلًا من علامة الاستفهام ؟

هل الحكاية :

عندما كان يعود الجنود قديمًا من الحروب، دون خسائر فى الأرواح، كانوا يرفعون لافتة مكتوب عليها (0 Killed) أى (صفر قتلى)، ومن هنا جاء مصطلح OK والذى يعنى أن كل شىء تمام !!

الدرس الثانى

التيار الكهربى و الأعمدة الكهربية

عناصر الدرس :

- مصادر التيار الكهربى.
- أنواع التيار الكهربى.
- طرق توصيل الأعمدة الكهربية فى الدوائر الكهربية.
- قياس القوة الدافعة الكهربية للأعمدة المتصلة على التوالى و على التوازى.

أهداف الدرس

من نهاية الدرس يجب أن يكون التلميذ قادرًا على أن :

١ يحدد بعض مصادر التيار الكهربى.

٢ يقارن بين التيار الكهربى المستمر و التيار الكهربى المتردد.

٣ يكتسب مهارة توصيل الأعمدة فى الدوائر الكهربية.

٤ يقارن بين طريقتى توصيل الأعمدة على التوالى و على التوازى.

٥ يستخدم القوانين التى وردت بالدرس فى حساب القوة الدافعة الكهربية لبطارية مكونة من عدة أعمدة متصلة معًا.

٦ يقدر أهمية استخدام البطاريات فى تيسير الكثير من التطبيقات المهمة فى حياتنا.

أهم المفاهيم

الخلايا الكهروكيميائية
المولدات الكهربية
التيار الكهربى المستمر
التيار الكهربى المتردد
البطارية

القصة الحياتية المتكاملة

التخلص الآمن من الخلايا الكهروكيميائية

مصادر التيار الكهربى

• يمكن الحصول على التيار الكهربى من مصدرين، هما :

الخلايا الكهروكيميائية	المولدات الكهربية
الخلايا الكهروكيميائية خلايا تتحول فيها الطاقة الكيميائية إلى طاقة كهربية.	**المولدات الكهربية** أجهزة تتحول فيها الطاقة الحركية إلى طاقة كهربية.

نوع التيار الكهربى الناتج

- تيار كهربى مستمر
- تيار كهربى متردد

أمثلة

- الأعمدة الجافة.
- البطاريات.
- الدينامو (المولد الكهربى).

أنواع التيار الكهربى

★ يقسم التيار الكهربى تبعًا لشدته واتجاه سريانه فى الموصلات، إلى :

تيار كهربى مستمر (DC)	تيار كهربى متردد (AC)
المصدر	
الخلايا الكهروكيميائية	المولدات الكهربية
الشدة	
تيار ثابت الشدة	تيار متغير الشدة «تتغير شدته كل نصف دورة حيث تزداد من صفر إلى قيمة عظمى، ثم تقل إلى صفر مرة أخرى، وهكذا...»

التمثيل البيانى



الاتجاه

تيار موحد الاتجاه

(يسرى فى اتجاه واحد فقط فى الدائرة الكهربية المغلقة) حيث تنساب الإلكترونات من أحد قطبى الخلية الكهروكيميائية لتمر خلال مكونات الدائرة، حتى تصل إلى القطب الآخر

يسرى التيار المستمر فى اتجاه واحد

تيار متغير الاتجاه

(يسرى فى اتجاهين متضادين «متعاكسين» فى الدائرة الكهربية المغلقة) حيث تنساب الإلكترونات فى اتجاه ما فى البداية، ثم تنساب بعد ذلك فى الاتجاه المعاكس، وتتكرر هذه الدورة مرات كثيرة متلاحقة وبسرعة كبيرة

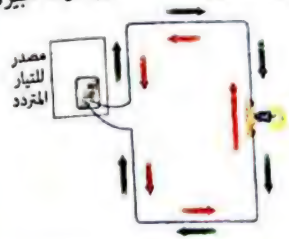

يسرى التيار المتردد فى اتجاهين متضادين

التعريف

التيار الكهربى المستمر

تيار كهربى ثابت الشدة يسرى فى اتجاه واحد فقط فى الدائرة الكهربية.

التيار الكهربى المتردد

تيار كهربى متغير الشدة يسرى فى اتجاهين متضادين فى الدائرة الكهربية.

إمكانية نقل التيار

يمكن نقله لمسافات قصيرة فقط

يمكن نقله لمسافات قصيرة أو طويلة عبر الأسلاك

إمكانية تحويل كل منهما للآخر

لا يمكن تحويله إلى تيار متردد

يمكن تحويله إلى تيار مستمر

الاستخدامات

- تشغيل بعض الأجهزة الكهربية.
- عمليات الطلاء الكهربى.



يستخدم التيار المستمر فى طلاء شوكة بطبقة من الفضة

- تشغيل معظم الأجهزة الكهربية.
- إنارة المنازل والشوارع.

يستخدم التيار المتردد فى إنارة المنازل و الشوارع

تدريب 1

انظر كراسة الواجب

مصادر و أنواع التيار الكهربى

علل؟ يفضل استخدام التيار المتردد عن التيار المستمر غالبًا.

لأن التيار المتردد يمكن نقله لمسافات قصيرة أو طويلة عبر الأسلاك، كما يمكن تحويله إلى تيار مستمر، على عكس التيار المستمر.

- ويمكن إجمال ما سبق فى المخطط التالى :

اختبر فهمك

١ اكتب المصطلح العلمى الدال على كل عبارة من العبارات الآتية :

(١) أجهزة تتحول فيها الطاقة الحركية إلى طاقة كهربية. (الجيزة ١٤) (.....)

(٢) تيار كهربى ثابت الشدة، يسرى فى اتجاه واحد فقط فى الدائرة الكهربية. (دمياط ٢١) (.....)

٢ أكمل العبارات الآتية :

(١) فى العمود الجاف تتحول الطاقة ..... إلى طاقة كهربية، وينتج تيار ..... (إدفو سويل)

(٢) يستخدم التيار الكهربى ..... فى عمليات الطلاء الكهربى، بينما يستخدم التيار الكهربى ..... فى إنارة الشوارع وتشغيل معظم الأجهزة الكهربية. (الشرقية)

٣ اذكر أهمية الدينامو. (الإسكندرية)

* .....

٤ لديك تيارين كهربيين أحدهما ناتج عن خلية كهروكيميائية والآخر ناتج عن مولد كهربى.
أى التيارين أفضل ؟ ولماذا ؟ (الأقصر ٢١)

* .....

.....

٥ علل :

الشكل المقابل يمثل تيار كهربى متردد. (الإسكندرية ١٧)

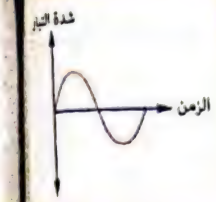

* .....

طرق توصيل الأعمدة الكهربية فى الدوائر الكهربية

* عند توصيل عدة أعمدة كهربية معًا يتكون ما يعرف بالبطارية.

البطارية
عمودان كهربيان أو أكثر متصلان معًا بطريقة ما فى الدائرة الكهربية.

* ويتم توصيل الأعمدة بطريقتين أساسيتين، هما :

التوصيل على التوالى

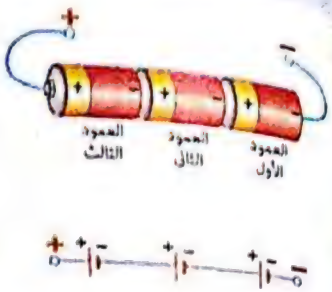

يتم توصيل

الأقطاب المختلفة معًا كالتالى :

• القطب الموجب للعمود الأول ← بالقطب السالب للعمود الثانى.

• القطب الموجب للعمود الثانى ← بالقطب السالب للعمود الثالث.

وهكذا...

وبذلك

يتبقى القطب السالب للعمود الأول والقطب الموجب للعمود الأخير (الثالث) واللذان يمثلان قطبى البطارية الكهربية المتكونة

التوصيل على التوازى

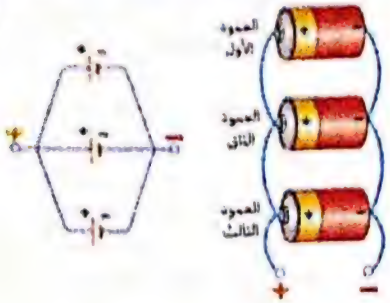

الأقطاب المتشابهة معًا كالتالى :



الأقطاب السالبة للأعمدة كلها معًا بطرف واحد ليعمل كقطب سالب.

الأقطاب الموجبة للأعمدة كلها معًا بطرف واحد ليعمل كقطب موجب.

يكون هناك قطب واحد سالب وقطب واحد موجب يمثلان قطبى البطارية الكهربية المتكونة

نشاط 1 قياس القوة الدافعة الكهربية (ق) لعدة أعمدة متصلة معًا على التوالى

الخطوات	الأشكال التوضيحية	الملاحظة
(١) صل فولتميتر بعمود كهربى ق.د.ك له (١,٥ فولت)، وعين قراءة الفولتميتر... الحالة ①.		قراءة الفولتميتر ١,٥ فولت
(٢) صل عمود كهربى آخر ق.د.ك له (١,٥ فولت) على التوالى مع العمود الأول فى الدائرة الكهربية، وعين قراءة الفولتميتر... الحالة ②.		قراءة الفولتميتر ٣ فولت ∴ ق.د.ك فى الحالة ② ضعف ق.د.ك فى الحالة ①
(٣) صل عمود كهربى ثالث ق.د.ك له (١,٥ فولت) على التوالى مع العمودين الكهربيين فى الدائرة الكهربية، وعين قراءة الفولتميتر... الحالة ③.	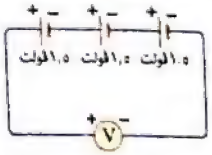	قراءة الفولتميتر ٤,٥ فولت ∴ ق.د.ك فى الحالة ③ ثلاثة أضعاف ق.د.ك فى الحالة ①
(٤) صل الفولتميتر بثلاثة أعمدة مختلفة، متصلة معًا على التوالى، ق.د.ك لها على الترتيب (١,٥ / ١,١ / ٠,٤) فولت وعين قراءة الفولتميتر.	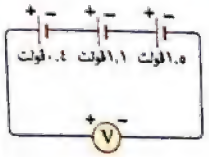	قراءة الفولتميتر ٣ فولت

الاستنتاج

- القوة الدافعة الكهربية لبطارية مكونة من عدة أعمدة متماثلة متصلة معًا على التوالى = عدد الأعمدة المتماثلة × القوة الدافعة الكهربية للعمود الواحد

ق للبطارية = ن × ق للعمود الواحد

- القوة الدافعة الكهربية لبطارية مكونة من عدة أعمدة مختلفة متصلة معًا على التوالى = مجموع القوى الدافعة الكهربية للأعمدة المكونة للبطارية

ق للبطارية = $ق_1$ + $ق_2$ + $ق_3$ + ...

ويمكن تمثيل العلاقة بين

عدد الأعمدة الكهربية المتماثلة المتصلة معًا على التوالى و القوة الدافعة الكهربية الكلية لها بالشكل البيانى المقابل، حيث تزداد القوة الدافعة الكهربية بزيادة عدد الأعمدة المتماثلة المتصلة معًا (علاقة طردية).



مثال ①

من الشكل المقابل، احسب القوة الدافعة الكهربية للبطارية.

الحل :

∵ الأعمدة مختلفة ومتصلة معًا على التوالى.

∴ ق للبطارية = $ق_1$ + $ق_2$ + $ق_3$ = ٣ + ١,٥ + ٣ = ٧,٥ فولت

أداء ذاتى

الشكل المقابل يمثل أربعة أعمدة القوة الدافعة الكهربية لكل منها ١,٥ فولت ،

(١) ما نوع توصيل الأعمدة ؟

(٢) احسب القوة الدافعة الكهربية لهذه البطارية.

الحل :

(١) الأعمدة متصلة معًا على .....

(٢) ق للبطارية = ... × ..... للعمود الواحد

= ..... × ..... = ... فولت

علل ؟

توصل الأعمدة الكهربية على التوالى فى بعض الدوائر الكهربية.

للحصول على بطارية القوة الدافعة الكهربية لها أكبر ما يمكن.

نشاط 2 قياس القوة الدافعة الكهربية (ق) لعدة أعمدة متصلة معًا على التوازي

الخطوات	الأشكال التوضيحية	الملاحظة
(١) صل فولتميتر بعمود كهربي ق.د.ك له (١,٥ فولت)، وعين قراءة الفولتميتر... الحالة ①.		قراءة الفولتميتر ١,٥ فولت
(٢) صل عمود كهربي آخر ق.د.ك له (١,٥ فولت) على التوازي مع العمود الكهربي الأول في الدائرة الكهربية، وعين قراءة الفولتميتر... الحالة ②.		قراءة الفولتميتر ١,٥ فولت ∴ ق.د.ك في الحالة ② تساوي ق.د.ك في الحالة ①
(٣) صل عمود كهربي ثالث ق.د.ك له (١,٥ فولت) على التوازي مع العمودين الكهربيين في الدائرة الكهربية، وعين قراءة الفولتميتر... الحالة ③.	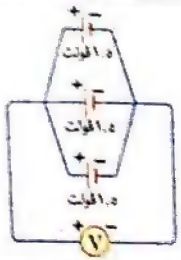	قراءة الفولتميتر ١,٥ فولت ∴ ق.د.ك في الحالة ③ تساوي ق.د.ك في الحالة ①

الاستنتاج

القوة الدافعة الكهربية لبطارية مكونة من عدة أعمدة متماثلة متصلة معًا على التوازي = القوة الدافعة الكهربية للعمود الواحد

ق للبطارية = ق للعمود الواحد

ويمكن تمثيل العلاقة بين

عدد الأعمدة الكهربية المتماثلة المتصلة معًا على التوازي و القوة الدافعة الكهربية الكلية لها بالشكل البياني المقابل، حيث تظل القوة الدافعة الكهربية ثابتة مهما ازداد عدد الأعمدة المتماثلة المتصلة معًا على التوازي.

هل؟ تتصل الأعمدة الكهربية على التوازي في بعض الدوائر الكهربية، للحصول على بطارية القوة الدافعة الكهربية لها أقل ما يمكن.



للاهتمام فقط تعمل البطارية المتصلة أعمدتها الكهربية على التوازي لفترة زمنية طويلة مما يسمح باستمرار مرور التيار الكهربي لمدة أطول

مثال ② احسب القوة الدافعة الكهربية للبطارية المكونة من خمسة أعمدة كهربية متصلة معًا على التوازي، إذا علمت أن القوة الدافعة الكهربية لكل منها ٢ فولت.

الحل: ∵ الأعمدة متماثلة ومتصلة معًا على التوازي.

∴ ق للبطارية = ق للعمود الواحد = ٢ فولت

أداء ذاتي بطارية مكونة من ثلاثة أعمدة القوة الدافعة الكهربية لكل منها ٣ فولت.

احسب القوة الدافعة الكهربية لها إذا وصلت أعمدتها :

(١) على التوالي. (٢) على التوازي.

الحل:

(١) ق لبطارية المتصلة أعمدتها المتماثلة على التوالي = ———— x ————

= —— x —— = —— فولت

(٢) ق لبطارية المتصلة أعمدتها المتماثلة على التوازي = ———— = —— فولت

إرشادات لحل المسائل

إذا كانت البطارية مكونة من عدة أعمدة بعضها متصل على التوازي والبعض الآخر متصل على التوالي، فإن القوة الدافعة الكهربية الكلية لها تحسب من العلاقة :

ق للبطارية = ق للأعمدة المتصلة على التوازي + ق لباقي الأعمدة المتصلة على التوالي

مثال ٥

احسب القوة الدافعة الكهربية بين الطرفين أ ، ب في كل من الدوائر الكهربية التالية

(١)

(٢)

الحل:

(١) ق المطارية = ق للأعمدة المتصلة على التوازي + ق لباقي الأعمدة المتصلة على التوالي

= ١,٥ + (١,٥ + ١,٥) = ٤,٥ فولت

(٢) ق للمجموعة الأولى المتصلة أعمدتها معًا على التوالي = ١,٥ + ١,٥ = ٣ فولت

ق للمجموعة الثانية المتصلة أعمدتها معًا على التوالي = ١,٥ + ١,٥ = ٣ فولت

∵ المجموعتين متصلتين معًا على التوازي وقيمة ق لكل منهما متساوية

∴ ق للمطارية = ق إحدى المجموعتين = ٣ فولت

أسئلة

في الشكلين التاليين احسب القوة الدافعة الكهربية بين الطرفين أ ، ب

(١)

(٢)

الحل:

(١) ق للمطارية = ... + ... = ... + ... = ... فولت

(٢) ق للمجموعة الأولى المتصلة أعمدتها معًا على التوازي = ... = ...

ق للمجموعة الثانية المتصلة أعمدتها معًا على التوازي = ... = ...

∵ المجموعتين متصلتين معًا على ..... وقيمة ق لكل منهما مختلفة عن الأخرى

∴ ق للمطارية = ... + ... = ... + ... = ٤,٥ فولت

تطبيق عددي



وضح بالرسم كيفية توصيل ثلاثة أعمدة كهربية متشابهة لتعطي القوة الدافعة الكهربية لكل منها ١,٥ فولت للحصول على:

(١) مطارية القوة الدافعة الكهربية لها ١,٥ فولت

(٢) مطارية القوة الدافعة الكهربية لها ٣ فولت

(٣) مطارية القوة الدافعة الكهربية لها ٤,٥ فولت

الحل:

(١) ∵ كانت قيمة ق ، د ، ك للمطارية ثلاثة أمثال قيمة ق ، د ، ك للعمود الواحد

∴ ق ، د ، ك لمجموع ق ، د ، ك لجميع الأعمدة

∴ وصل مجموع الأعمدة على التوالي

(٢) ∵ كانت قيمة ق ، د ، ك للمطارية ضعف قيمة ق ، د ، ك للعمود الواحد

∴ ق ، د ، ك لمجموع ق ، د ، ك لجميع الأعمدة

تتبع الخطوات التالية:

الخطوة (١):

وصل الأعمدة على التوالي لكل مجموعة منها

ثم إن قيمة الجهد المستمر

الخطوة (٢):

وصل باقي الأعمدة على التوازي مع أي الأعمدة المتصلة على التوالي

(٣) ∵ كانت قيمة ق ، د ، ك للمطارية ضعف قيمة ق ، د ، ك للعمود الواحد

∴ ق ، د ، ك لمجموع ق ، د ، ك لجميع الأعمدة

تتبع الخطوات التالية:

الخطوة (١):

الخطوة (٢):



أداء ذاتى

لديك ثلاثة أعمدة كهربية متماثلة، القوة الدافعة الكهربية لكل منها ٢ فولت.
وضح بالرسم طريقة توصيلها معًا للحصول على بطارية القوة الدافعة الكهربية لها ،
(١) ٢ فولت. (٢) ٤ فولت. (٣) ٦ فولت.

الحل :

(١)	(٢)	(٣)

مثال ٤

لديك أربعة أعمدة كهربية متماثلة، القوة الدافعة الكهربية لكل منها ١,٥ فولت.
وضح بالرسم كيفية توصيلها معًا للحصول على بطارية القوة الدافعة الكهربية لها ٣ فولت «بثلاث طرق مختلفة».

الحل :

-١ 	-٢ 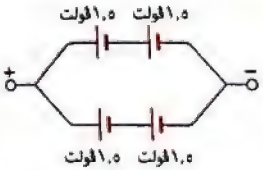
-٣ 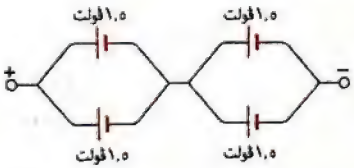	

مثال ٥

إذا كان لديك ثلاثة أعمدة متماثلة، القوة الدافعة الكهربية لكل منها ٣ فولت،
وضح بالرسم كيفية توصيلها معًا للحصول على بطارية القوة الدافعة الكهربية لها ،
(١) أكبر ما يمكن. (٢) ٦ فولت. (٣) أقل ما يمكن.

الحل :

(١)	(٢)	(٣)
	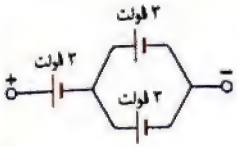	
ق للبطارية = ٣ × ٣ = ٩ فولت «أكبر ما يمكن»	ق للبطارية = ٣ + ٣ = ٦ فولت	ق للبطارية = ٣ فولت «أقل ما يمكن»

للإيضاح فقط

مثال ٦

إذا كان لديك أربعة أعمدة متماثلة، القوة الدافعة الكهربية لكل منها ٣ فولت،
وضح بالرسم كيفية توصيلها معًا بين النقطتين أ ، ب فى الشكل المقابل للحصول على تيار كهربى شدته ٤,٥ أمبير.

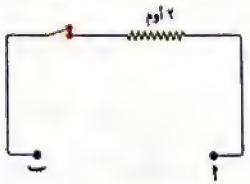

الحل :

∴ فرق الجهد بين النقطتين أ ، ب = المقاومة الكهربية × شدة التيار
= ٢ × ٤,٥ = ٩ فولت

∴ يتم توصيل الأعمدة الكهربية معًا - كما بالرسم المقابل - للحصول على بطارية القوة الدافعة الكهربية لها ٩ فولت.

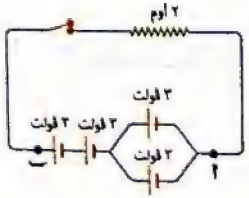

أداء ذاتى

احسب شدة التيار الكهربى المار فى الدائرة الموضحة بالشكل المقابل.

الحـــل :

ق للبطارية (جـ) = ... + ...

= (٣ × .....) + ... = ٧,٥ فولت

شدة التيار (ت) = (جـ) ..... / (م) .....

= ..... / ..... = ٠,٢٥ أمبير

مثال ٧

فى الدائرة الكهربية المقابلة إذا تم فتح المفتاح K احسب القوة الدافعة الكهربية التى يقرأها :

(١) الفولتميتر (V_1).

(٢) الفولتميتر (V_2).

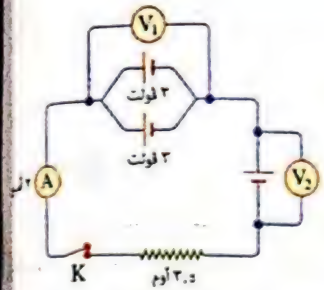

الحـــل :

(١) قراءة الفولتميتر (V_1) = ٣ فولت

(٢) فرق الجهد (V) = المقاومة الكهربية × شدة التيار

= ٣,٥ × ٢ = ٧ فولت

قراءة الفولتميتر (V_2) = (V) - (V_1)

= ٧ - ٣ = ٤ فولت

يتم حساب فرق الجهد الكلى (V) فى الدائرة والمفتاح K مغلق

نشاط إثرائى بطارية الليمون

العهد و الأدوات المستخدمة

- ٨ ثمار ليمون ناضجة.
- شرائح صغيرة من الخارصين.
- مصباحان كهربيان.
- شرائح صغيرة من النحاس.
- أسلاك توصيل من النحاس.

الخطوات

(١) اغرس شرائح النحاس والخارصين فى ثمار الليمون بدون تلامس.

(٢) صل الشرائح ببعضها بواسطة أسلاك التوصيل ثم صل طرفى السلك الحرين بمصباح كهربى لتكوين الدائرتين (١)، (٢).

(١)



(٢)

الملاحظة

إضاءة المصباح فى الدائرة (١) أشد من إضاءته فى الدائرة (٢).

التفسير

تعمل ثمار الليمون كأعمدة كهربية تتحول فيها الطاقة الكيميائية إلى طاقة كهربية وتختلف شدة التيار الناتج عنها باختلاف طريقة توصيلها معًا.

الاستنتاج

توصيل الأعمدة الكهربية على التوالى يزيد من شدة التيار الناتج عنها.

تدريب 2

انظر كراسة الواجب

طرق توصيل الأعمدة الكهربية فى الدوائر الكهربية

مراجعة شاملة على الدرس — انظر — مفكرة الامتحان

أسئلة ج 2 الدرس الثانى

أولاً أسئلة الكتاب المدرسى مجاب عنها

١ أكمل العبارات الآتية :

(١) يتولد تيار كهربى من الدينامو نتيجة تحويل الطاقة ..... إلى طاقة ..... (محافظة بورسعيد ٢٠٠٠)

(٢) يوجد نوعان من التيار الكهربى، هما ..... و ..... (مطروح ٢٠١٩)

(٣) تنتج الأعمدة الكهربية تيارًا ..... ، بينما تنتج المولدات الكهربية تيارًا ..... (مطروح ٢٠١٩)

٢ اختر الإجابة الصحيحة مما بين القوسين :

(١) يستخدم التيار المتردد فى ..... (موجز ٢٠١٩)

(إنارة الشوارع والمنازل / تشغيل معظم الأجهزة الكهربية / جميع ما سبق)

(٢) فى العمود الكهربى تتحول الطاقة ..... إلى طاقة كهربية. (الغربية ٢٠١٩)

(الحركية / المغناطيسية / الكيميائية)

(٣) من خصائص التيار المستمر أنه ..... (أسوان ٢٠١٩)

(متغير الشدة / متغير الاتجاه / ثابت الشدة و الاتجاه)

٣ ضع علامة (✓) أمام العبارة الصحيحة و علامة (✗) أمام العبارة غير الصحيحة، مع تصويب الخطأ :

(١) القوة الدافعة الكهربية لعدة أعمدة متماثلة متصلة معًا على التوالى تساوى القوة الدافعة الكهربية للعمود الواحد. (الغربية ٢٠١٢) ( )

(٢) يُنتج الدينامو تيارًا كهربيًا مترددًا. (جنوب سيناء ٢٠١٦) ( )

(٣) تتحول الطاقة الكيميائية إلى طاقة كهربية فى الأعمدة والبطاريات. (أسيوط ٢٠٢١) ( )

٤ لديك ثلاثة أعمدة كهربية متماثلة، القوة الدافعة الكهربية لكل منها ١,٥ فولت.

وضح بالرسم كيف يمكن توصيلها معًا للحصول على قوة دافعة كهربية مقدارها :

(١) ١,٥ فولت. (٢) ٣ فولت. (٣) ٤,٥ فولت. (الوادى الجديد ٢٠٢١)

ثانيًا أسئلة كتاب الامتحان مجاب عنها

تم الإشارة إلى أسئلة دليل تقويم الطالب بالعلامة

١ اختر الإجابة الصحيحة مما بين الإجابات المعطاة :

مصادر وأنواع التيار الكهربى

(١) يمكن الحصول على تيار متردد من ..... (السويس ٢٠١٨)

(أ) الريوستات. (ب) الدينامو.

(ج) الأميتر. (د) الأوميتر.

(٢) التيار ..... يمكن تمثيله بيانيًا بخط مستقيم يوازى محور الزمن. (القليوبية ٢٠١٤)

(أ) المتردد (ب) المستمر

(ج) جميع ما سبق

(٣) يستخدم ..... فى عملية الطلاء الكهربى. (الفيوم ٢٠١٤)

(أ) المولد الكهربى (ب) المحرك الكهربى

(ج) العمود الكهربى (د) المحول الكهربى

(٤) التيار الكهربى المتردد ..... (الإسكندرية ٢٠١٥)

(أ) يسرى فى اتجاهين متضادين. (ب) يمكن تحويله لتيار مستمر.

(ج) يمكن نقله لمسافات طويلة. (د) جميع ما سبق.

طرق توصيل الأعمدة الكهربية فى الدوائر الكهربية

(٥) القوة الدافعة الكهربية الكلية لعمودين مختلفين متصلين معًا على التوالى تساوى ..... القوة الدافعة الكهربية لكل منهما.

(أ) حاصل ضرب (ب) مجموع

(ج) الفرق بين (د) خارج قسمة

(٦) بطارية مكونة من عدة أعمدة متصلة معًا على التوالى القوة الدافعة الكهربية لها ٩ فولت، فإذا علمت أن القوة الدافعة الكهربية للعمود الواحد ١,٥ فولت، فإن عدد الأعمدة المكونة لهذه البطارية ..... عمود. (بنى سويف ٢٠٢١)

(أ) ٤ (ب) ٦

(ج) ٩ (د) ١٥

(٧) الشكل ..... يمثل دائرة كهربية تتصل مكوناتها بطريقة صحيحة.

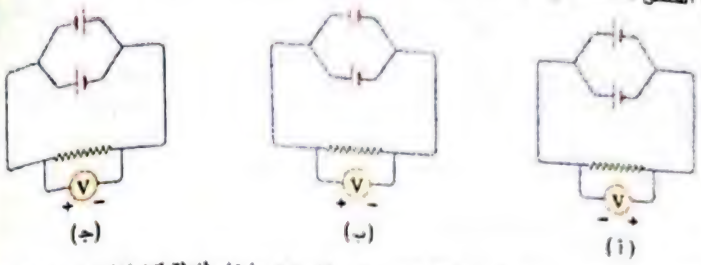

(٨) الأشكال التالية توضح ثلاث طرق لتوصيل بطاريتين داخل ثلاثة كشافات ضوئية :

فى أيًا من الطرق الثلاثة يضىء الكشاف ؟ .....

(أ) الطريقة (١). (ب) الطريقة (٢).

(جـ) الطريقة (٣). (د) لا يضىء الكشاف بأيًا من هذه الطرق.

(٩) القوة الدافعة الكهربية لثلاثة أعمدة متماثلة متصلة معًا على التوازى .....

القوة الدافعة الكهربية للعمود الواحد.

(أ) تساوى (ب) ضعف (جـ) ثلاثة أمثال

(١٠) عند توصيل ١٠ أعمدة كهربية متماثلة على التوازى فى دائرة كهربية، كانت قراءة الفولتميتر ٢ فولت. فإذا تم توصيل عمود واحد فقط منها فى الدائرة تكون قراءة الفولتميتر ..... فولت

(أ) ٢ (ب) ٠,٨

(جـ) ٠,٤ (د) ٠,٢

(١١) أيًا من الدوائر الكهربية الآتية تعبر عن الشكل المقابل ؟ .....



(١٢) بعد عن الدائرة الكهربية الموضحة بالشكل المقابل، بالشكل التخطيطى .....

(١٣) من الأشكال التالية : «علمًا بأن ق.د.ك للعمود الواحد ١,٥ فولت»



١- الشكل ..... يمثل بطارية جميع أعمدتها متصلة معًا على التوازى.

٢- الشكل ..... يمثل بطارية جميع أعمدتها متصلة معًا على التوالى.

٣- الشكل ..... يمثل بطارية ق.د.ك لها ٣ فولت.

(١٤) من الأشكال التالية : «علمًا بأن ق.د.ك للعمود الواحد ١,٥ فولت»

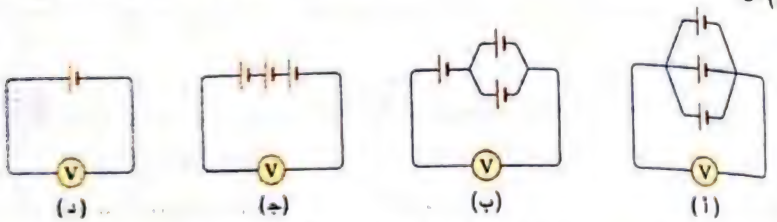

١- فى الشكل ..... تكون القوة الدافعة الكهربية أكبر ما يمكن.

٢- فى الشكلين ..... تتساوى القوة الدافعة الكهربية.

(١٥) فى الشكل المقابل : القوة الدافعة الكهربية بين الطرفين أ ، ب تساوى ..... فولت.

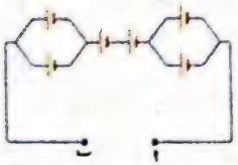

«علمًا بأن ق.د.ك للعمود الواحد ٢ فولت»

(أ) ٦ (ب) ٨

(جـ) ١٠ (د) ١٢ (بنى سويف ١٥)

(١٦) تحتوى كل دائرة كهربية من الدوائر الآتية على ٣ أعمدة متماثلة.
أيًا من هذه الدوائر تكون إضاءة المصباح فيها أقوى ؟ .....

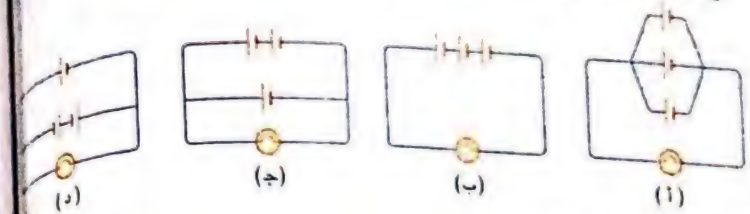

(١٧) من الأشكال التالية :

١- الشكل ..... يمثل توصيل أعمدة متماثلة على التوالى.
٢- الشكل ..... يمثل توصيل أعمدة متماثلة على التوازى.

(١٨) دائرة كهربية تحتوى على أربعة أعمدة متصلة معًا على التوازى ق.د.ك لكل منها ٢ فولت ومقاومة مقدارها ٦ أوم، ما قيمة شدة التيار المار فى هذه الدائرة ؟ ..... أمبير.
(أ) ٠,٥ (ب) ٢ (جـ) ٣ (د) ٧٢

٢ اكتب المصطلح العلمى الدال على كل عبارة من العبارات الآتية :

مصادر وأنواع التيار الكهربى

(١) خلايا تتحول فيها الطاقة الكيميائية إلى طاقة كهربية. (الإسماعيلية)
(٢) تيار كهربى ثابت الشدة، موحد الاتجاه. (شمال سيناء)
(٣) * تيار كهربى يمكن نقله لمسافات طويلة عبر الأسلاك. (الإسكندرية)
* تيار كهربى متغير الشدة يسرى فى اتجاهين متضادين فى الدائرة الكهربية. (الأزهر)
* تيار كهربى ينتج من تحول الطاقة الحركية إلى طاقة كهربية بواسطة الدينامو. (القليوبية)

طرق توصيل الأعمدة الكهربية فى الدوائر الكهربية

(٤) عمودان كهربيان أو أكثر متصلان معًا بطريقة ما فى الدائرة الكهربية.
(٥) الطريقة المستخدمة فى توصيل الأعمدة الكهربية للحصول على أكبر قوة دافعة كهربية. (الجيزة)

٣ أكمل العبارات الآتية بما يناسبها :

مصادر وأنواع التيار الكهربى

(١) يمكن الحصول على التيار الكهربى من مصدرين، هما ..... و ..... (الأقصر ١٤)
(٢) ينتج تيار كهربى من العمود الجاف، نتيجة تحول الطاقة ..... إلى طاقة ..... (الدقهلية ١٨)
(٣) تنتج الأعمدة الكهربية تيار كهربى .....، بينما تنتج المولدات الكهربية تيار كهربى ..... (الإسماعيلية ٢١)
(٤) التيار الكهربى المتردد متغير ..... و ..... (جنوب سيناء ١٨)
(٥) يستخدم التيار المستمر فى عمليات .....، بينما يستخدم التيار المتردد فى .....

طرق توصيل الأعمدة الكهربية فى الدوائر الكهربية

(٦) عند توصيل عدة أعمدة متماثلة على التوالى، فإن ق للبطارية = ...، بينما عند توصيلهم على التوازى، فإن ق للبطارية = ...
(٧) عند توصيل ثلاثة أعمدة متماثلة ق.د.ك لكل منها ١,٥ فولت على التوالى، فإن ق للبطارية تساوى ..... فولت، أما إذا وصلت على التوازى، فإن ق للبطارية تساوى ..... فولت. (أسيوط ١٣)
(٨) فى الدائرتين المقابلتين : (السويس ١٢)
١- الدائرة ..... تمثل بطارية القوة الدافعة الكهربية لها ٦ فولت.
٢- الدائرة ..... تمثل بطارية القوة الدافعة الكهربية لها ٤ فولت.

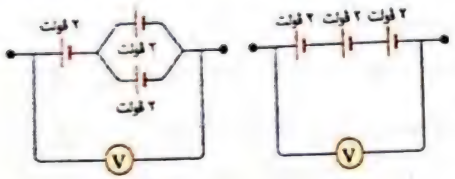

(١) (٢)

(٩) فى الدائرتين التاليتين : (القليوبية ٢١)

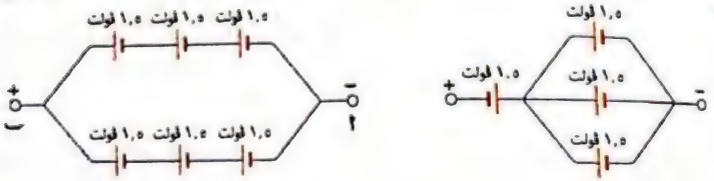

(١) (٢)

١- ق.د.ك للبطارية (١) تساوى .....
٢- ق.د.ك للبطارية (٢) تساوى .....

(١٠) فى الشكل المقابل :

١- قراءة الفولتميتر = ... فولت. (الجيزة ٢١)

٢- إذا وصلت جميع الأعمدة على التوالى،
فإن قراءة الفولتميتر تصبح ..... فولت.

٤ صوب ما تحته خط :

(١) فى العمود الجاف تتحول الطاقة المغناطيسية إلى طاقة كهربية. (شمال سيناء ٢١)

(٢) فى دائرة التيار الكهربى المستمر تنساب الجزيئات من أحد قطبى الخلية الكهروكيميائية لتمر خلال مكونات الدائرة ثم تعود للقطب الآخر. (الغربية ٢١)

(٣) التيار الكهربى الناتج من الدينامو يسرى فى اتجاه واحد فقط. (الإسكندرية ٢١)

(٤) القوة الدافعة الكهربية الكلية لعدة أعمدة متماثلة متصلة معًا على التوازى ضعف القوة الدافعة الكهربية للعمود الواحد. (الغربية ٢١)

٥ ضع علامة (✓) أمام العبارة الصحيحة و علامة (✗) أمام العبارة الخطأ، مع التصويب :

مصادر وأنواع التيار الكهربى

(١) ينتج الدينامو تيارًا كهربيًا مستمرًا. ( )

(٢) التيار الكهربى الذى يغذى المنازل والمصانع تيار مستمر. (قنا ١٤) ( )

(٣) التيار المستمر يمكن نقله لمسافات قصيرة فقط. (قنا ١٧) ( )

طرق توصيل الأعمدة الكهربية فى الدوائر الكهربية

(٤) عند توصيل الأعمدة الكهربية على التوالى نحصل على بطارية القوة الدافعة الكهربية لها أكبر ما يمكن. ( )

(٥) عند توصيل عدة أعمدة على التوالى توصل الأقطاب الموجبة للأعمدة كلها معًا وتوصل الأقطاب السالبة للأعمدة كلها معًا. ( )

٦ علل لما يأتى :

مصادر وأنواع التيار الكهربى

(١) • تسمية الخلايا الكهروكيميائية بهذا الاسم.
• بطارية السيارة خلية كهروكيميائية.

(٢) • يعرف التيار المستخدم فى إنارة المنازل بالتيار المتردد. (البحيرة ١٣)
• يعرف التيار الناتج من المولد الكهربى بالتيار المتردد. (المنوفية ١٤)

(٣) يفضل استخدام التيار المتردد عن التيار المستمر غالبًا. (القاهرة ٢١)

طرق توصيل الأعمدة الكهربية فى الدوائر الكهربية

(٤) توصل الأعمدة الكهربية على التوالى فى بعض الدوائر الكهربية. (البحر الأحمر ٢١)

(٥) توصل الأعمدة الكهربية على التوازى فى بعض الدوائر الكهربية. (الإسكندرية ٢١)

(٦) القوة الدافعة الكهربية للبطارية المتصلة أعمدتها المتماثلة على التوالى أكبر من تلك المتصلة أعمدتها المتماثلة على التوازى. (كفر الشيخ ١٤)

(٧) تعمل البطارية المتصلة أعمدتها المتماثلة على التوازى عمل العمود الواحد.

٧ ما المقصود بكل من :

(١) الخلايا الكهروكيميائية. (المنوفية ١٤) (٢) المولدات الكهربية.

(٣) التيار الكهربى المستمر. (البحيرة ٢١) (٤) التيار الكهربى المتردد. (المنوفية ١٧)

٨ ما معنى قولنا أن :

(١) القوة الدافعة الكهربية لبطارية مكونة من ٣ أعمدة متماثلة متصلة معًا على التوالى تساوى ٦ فولت.

(٢) القوة الدافعة الكهربية لبطارية تساوى القوة الدافعة الكهربية لأحد أعمدتها.

٩ ما النتائج المترتبة على كل مما يأتى :

مصادر وأنواع التيار الكهربى

(١) تدفق الشحنات الكهربية السالبة (الإلكترونات) فى اتجاه واحد فقط خلال سلك معدنى فى دائرة كهربية. (القليوبية ٢١)

(٢) انسياب الإلكترونات فى اتجاهين متضادين فى الدائرة الكهربية.

طرق توصيل الأعمدة الكهربية فى الدوائر الكهربية

(٣) توصيل ثلاثة أعمدة كهربية متماثلة على التوالى، القوة الدافعة الكهربية لكل منها ٢ فولت. (الإسكندرية ٢٠١٩)

(٤) زيادة عدد الأعمدة الكهربية المتصلة معًا على التوالى «بالنسبة للقوة الدافعة الكهربية للبطارية».

(٥) توصيل الأقطاب المتشابهة معًا لثلاثة أعمدة كهربية.

(٦) زيادة عدد الأعمدة الكهربية المتماثلة المتصلة معًا على التوازى «بالنسبة للقوة الدافعة الكهربية للبطارية».

١٠ اذكر أهمية واحدة لكل من :

(١) * الخلايا الكهروكيميائية. (الأقصر ٢٠١٩) * الأعمدة الجافة. (السويس ٢٠١٩)

(٢) التيار الكهربى المستمر. (البحر الأحمر ٢٠١٩)

(٣) التيار الكهربى المتردد. (البحيرة ٢٠١٩)

١١ قارن بين كل من :

(١) الخلية الكهروكيميائية و المولد الكهربى. (جنوب سيناء ٢٠١٩)

(٢) العمود الجاف و الدينامو «من حيث : تحولات الطاقة». (القاهرة ٢٠١٩)

(٣) التيار الكهربى المستمر و التيار الكهربى المتردد، من حيث :

(أ) الاتجاه. (الغربية ٢٠١٩)

(ب) الشدة - الاستخدامات - المصدر. (المنيا ٢٠١٩)

(جـ) تحويل كل منهما للآخر. (كفر الشيخ ٢٠١٩)

(د) التمثيل البيانى لكل منهما. (الجيزة ٢٠١٩)

(هـ) التعريف. (الجيزة ٢٠١٩)

(٤) توصيل الأعمدة الكهربية المتماثلة على التوالى و على التوازى «من حيث : الشكل التخطيطى - القوة الدافعة الكهربية الناتجة». (جنوب سيناء ٢٠١٩)

١٢ ضع بالرسم :

(١) كيفية توصيل ثلاثة أعمدة كهربية متماثلة القوة الدافعة الكهربية لكل منها ١,٥ فولت : (الأقصر ٢٠١٩)

(أ) على التوالى. (ب) على التوازى.

(٢) كيفية توصيل ثلاثة أعمدة كهربية متماثلة القوة الدافعة الكهربية لكل منها ٢ فولت للحصول على بطارية ق. د. ك لها : (دمياط ٢٠١٩)

(أ) أكبر ما يمكن. (ب) أقل ما يمكن.

(٣) كيفية توصيل أربعة أعمدة كهربية متماثلة القوة الدافعة الكهربية لكل منها ١,٢ فولت للحصول على بطارية ق.د.ك لها : (الأقصر ٢٠١٩)

(أ) ١,٢ فولت. (ب) ٢,٤ فولت «بطريقتين».

(٤) كيفية توصيل ثلاثة أعمدة كهربية ق.د.ك لكل منها ٣ فولت للحصول على بطارية القوة الدافعة الكهربية الكلية لها : (الإسماعيلية ٢٠١٩)

(أ) ٣ فولت. (ب) ٦ فولت. (جـ) ٩ فولت.

(٥) كيفية توصيل أربعة أعمدة كهربية متماثلة القوة الدافعة الكهربية لكل منها ٣ فولت للحصول على بطارية ق.د.ك الكلية لها : (الأزهر ٢٠١٩)

(أ) ٦ فولت. (ب) ٩ فولت.

(٦) كيفية توصيل أربعة أعمدة كهربية القوة الدافعة الكهربية لكل منها ١,٥ فولت للحصول على بطارية القوة الدافعة الكهربية الكلية لها :

(أ) ١,٥ فولت. (مطروح ٢٠١٩)

(ب) ٣ فولت «بثلاث طرق مختلفة». (مطروح ٢٠١٩)

(جـ) ٤,٥ فولت. (المنيا ٢٠١٩)

(د) ٦ فولت. (المنيا ٢٠١٩)

(٧) كيفية تكوين دائرة كهربية لتشغيل جرس كهربى دون أن يتلف باستخدام أربعة أعمدة كهربية ق. د.ك لكل منها ٢ فولت، علمًا بأن القوة الدافعة الكهربية اللازمة لتشغيل الجرس ٤ فولت.

١٣ مسائل متنوعة :

١ احسب عدد الأعمدة الكهربية المكونة لبطارية قوتها الدافعة الكهربية ١٢ فولت، علمًا بأن أعمدتها متماثلة ومتصلة معًا على التوالى، ق.د.ك للعمود الواحد ١,٥ فولت.

٢ بطارية مكونة من ثلاثة أعمدة القوة الدافعة الكهربية لكل منها ١,٥ فولت،
احسب القوة الدافعة الكهربية الكلية (مع كتابة القانون المستخدم) إذا وصلت أعمدتها : (الدقهلية ٢٠١٩)
(أ) على التوالى.
(ب) على التوازى.

٣ احسب القوة الدافعة الكهربية الكلية بين الطرفين أ ، ب فى كل من الدوائر الكهربية التالية :

(أ) (القاهرة ١٦)

(ب)

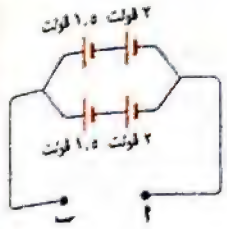

(جـ) (جنوب سيناء ١٩)

(د) (بنى سويف)

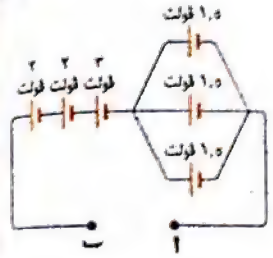

٤ فى الدائرة الكهربية المقابلة :
إذا كان فرق الجهد بين طرفى المقاومة يساوى القوة الدافعة الكهربية الكلية للأعمدة وقيمة المقاومة الكهربية ٣ أوم، احسب قراءة الأميتر، علمًا بأن القوة الدافعة الكهربية للعمود الواحد ١,٥ فولت. (الجيزة ٢١)

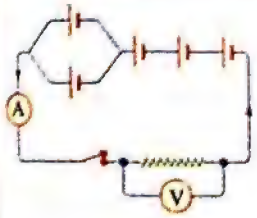

٥ احسب قراءة الأميتر فى كل من الدائرتين الكهربيتين التاليتين : (الفيوم ٢٢)



(١)

(٢)

٦ من الدائرة الكهربية المقابلة، أوجد قراءة الأميتر فى كل من الحالتين الآتيتين : (المنيا ١٦)
(أ) عندما يكون المفتاح K مفتوح.
(ب) عندما يكون المفتاح K مغلق.

٧ فى الدائرتين الكهربيتين التاليتين، احسب قيمة المقاومة (م) : (البحيرة ١٣)

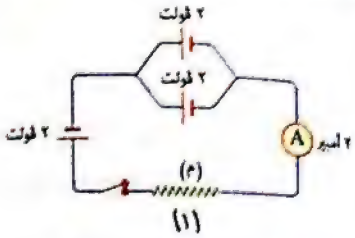

(١)

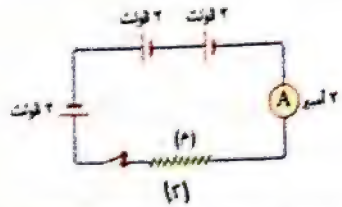

(٢)

٨ ادرس الأشكال الآتية، ثم أجب :

مصادر وأنواع التيار الكهربى

١ من الشكلين المقابلين : (مطروح ٢١)
(أ) ما نوع التيار الكهربى الذى يمثله كل شكل بيانى ؟ وما مصدر كل منهما ؟
(ب) أى من الشكلين يمثل :
١- التيار الكهربى الذى يمكن نقله لمسافات طويلة. (المنيا ٢١)
٢- التيار المستخدم فى عملية الطلاء الكهربى. (الإسماعيلية ٢١)

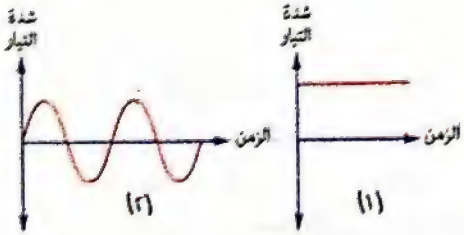

(١) (٢)

طرق توصيل الأعمدة الكهربية فى الدوائر الكهربية

٢ اذكر سبب عدم إضاءة المصباح فى كل من الدائرتين الكهربيتين التاليتين :

(١) (٢)

٣ من الشكلين المقابلين : (الإسماعيلية ١٨)

(أ) اذكر طريقة توصيل الأعمدة فى كل من الشكلين.

(ب) أيهما أكبر قراءة الفولتميتر عند توصيله بالبطارية (١) أم قراءته عند توصيله بالبطارية (٢) ؟ مع التعليل.

«علمًا بأن جميع الأعمدة متماثلة»

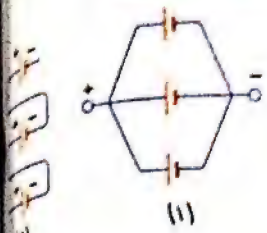

(١) (٢)

٤ إذا كان لديك عمودين كهربيين القوة الدافعة الكهربية لكل منهما ٣ فولت، وضح بالرسم فقط طريقة توصيلهما بين النقطتين (أ) ، (ب) للحصول على :

(أ) أكبر فرق جهد بين طرفى المقاومة (م).

(ب) أصغر فرق جهد بين طرفى المقاومة (م).

(الإسماعيلية ١٥)

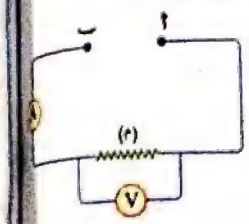

٥ الشكل المقابل يمثل دائرة كهربية تتكون من عدة أعمدة متماثلة القوة الدافعة الكهربية لكل منها ١,٥ فولت : (الأزهر ١٥)

(أ) احسب القوة الدافعة الكهربية الكلية للبطارية.

(ب) وضح بالرسم كيفية توصيل هذه الأعمدة بالدائرة للحصول على بطارية قوتها الدافعة الكهربية ٣ فولت.

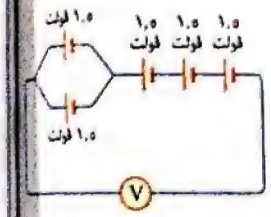

الشكلان المقابلان يوضحان العلاقة البيانية بين عدد الأعمدة المتماثلة و القوة الدافعة الكهربية الكلية لها عند توصيلها بطريقتين مختلفتين : (المنوفية ١٥)

(أ) اذكر طريقة التوصيل المعبر عنها فى كل شكل. (بورسعيد ١٢)

(ب) أوجد ق.د.ك الكلية فى كل حالة عند توصيل الأربعة أعمدة معًا.

(جـ) أيًا من الطريقتين ينتج عنها أعلى شدة تيار ؟



(١) (٢)

٧ من الدائرة الكهربية المقابلة : (القليوبية ١٤)

(أ) أوجد :

١- القوة الدافعة الكهربية للبطارية.

٢- قراءة الأميتر.

(ب) ما الأجهزة التى تقترح إضافتها لهذه الدائرة لتحقيق قانون أوم عمليًا ؟



٨ من الدائرة الكهربية المقابلة، إذا كانت كمية الكهربية التى تمر فى الدائرة الكهربية خلال ٢٠ ثانية هى ١٠ كولوم : (الدقهلية ٢١)

(أ) اختر : ما الإجراء اللازم اتخاذه لكى يكون للأميتر قراءة ؟ .....

(غلق المفتاح الكهربى / تغيير المقاومة / تعديل البطارية)

(ب) أوجد :

١- قراءة الأميتر.

٢- قراءة الفولتميتر.

٣- قيمة المقاومة (م).

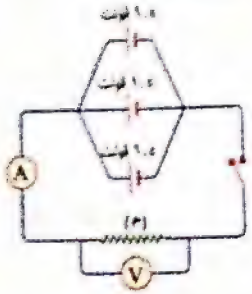

أسئلة تقيس مستويات التفكير العليا — أجاب عنها

١٥ اختر الإجابة الصحيحة مما بين الإجابات المعطاة :

(١) إذا اتفقتا الدائرتين الكهربيتين الموضحتين بالشكل المقابل فى شدة التيار المار فى كل منهما وفى قيمة ق.د.ك للعمود الكهربى المستخدم فى كل منهما تكون قيمة المقاومة R ..... أوم.

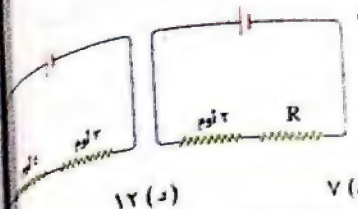

(أ) ١,٥ (ب) ٥ (جـ) ٧ (د) ١٢

(٢) فى الدائرة الكهربية الموضحة بالشكل المقابل تمر كمية من الكهرباء مقدارها ٤٥ كولوم فى المقاومات الأربعة لمدة ٣ دقائق، ما قيمة المقاومة المكافئة للمقاومات الأربعة فى هذه الدائرة الكهربية ؟ ..... أوم.

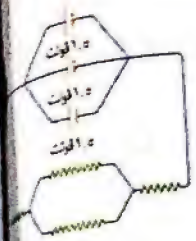

(أ) ٣ (ب) ٦
(جـ) ٩ (د) ١٨

١٦ صوب ما تحته خط :

فى الشكل المقابل عند غلق المفتاح فإن شدة التيار المار فى المقاومة (م) تزداد. (المنوفية ٢١)

١٧ مسائل متنوعة :

(١) فى الدائرة الكهربية المقابلة، إذا تم فتح المفتاح K، احسب القوة الدافعة الكهربية التى يقرأها :

(أ) الفولتميتر (V_1).

(ب) الفولتميتر (V_2). (البحيرة ١٦)

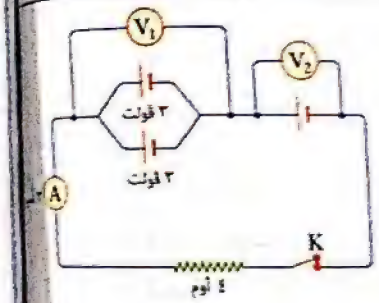

(٥) من الشكل المقابل : احسب مقدار الشغل المبذول لنقل كمية من الكهربية بين النقطتين (أ) ، (ب) خلال دقيقتين. (البحيرة ١٩)

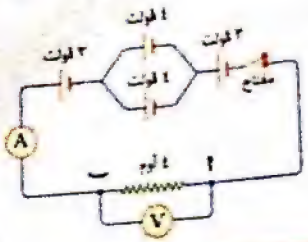

(٦) من الشكل المقابل : احسب قيمة القوة الدافعة الكهربية للعمود الكهربى (X)، علمًا بأن قراءة الأميتر ٢ أمبير وقيمة المقاومة ٣ أوم. (دمياط ٢١)

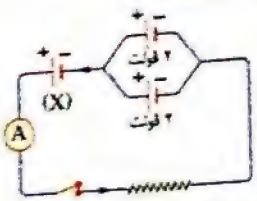

(٤) احسب عدد الأعمدة الكهربية المكونة لبطارية قوتها الدافعة الكهربية ٩ فولت، علمًا بأنها تحتوى على عمودين كهربيين فقط متصلين على التوازى وباقى الأعمدة متصلة على التوالى والقوة الدافعة الكهربية للعمود الواحد ١,٥ فولت.

١٨ أسئلة متنوعة :

(١) وضح بالرسم كيفية توصيل ثلاثة أعمدة كهربية القوة الدافعة الكهربية لكل من العمودين الأول والثانى ١,٥ فولت وللعمود الثالث ٣ فولت للحصول على بطارية ق.د.ك لها : (الأقصر ١٢)

(أ) ٦ فولت. (ب) ٤,٥ فولت. (جـ) ٣ فولت.

(٢) الجدول التالى يوضح القوة الدافعة الكهربية لمجموعة من الأعمدة الكهربية المتصلة معًا بطريقة ما وعدد هذه الأعمدة الكهربية : (البحيرة ١٨)

عدد الأعمدة الكهربية	١	٢	٣	٤	٥
ق.د.ك الكلية (فولت)	١,٥	٣	٤,٥	٦	٧,٥

(أ) ارسم العلاقة البيانية بين ق.د.ك الكلية على المحور الرأسى و عدد الأعمدة الكهربية على المحور الأفقى.

(ب) حدد نوع توصيل الأعمدة الكهربية.

(جـ) من الشكل البيانى أوجد القوة الدافعة الكهربية للعمود الواحد.

٢ الشكل البياني المقابل يعبر عن القوة الدافعة الكهربية لبطاريتين (أ) ، (ب) تتكون كل منهما من أربعة أعمدة كهربية متماثلة قوة كل منها ١,٥ فولت :



(أ) ارسم شكل تخطيطي لكل من البطاريتين.

(ب) إذا تم توصيل البطارية (أ) بدائرة كهربية بها مقاومة مقدارها ١٠ أوم، احسب شدة التيار المار خلالها.

٣ قام إبراهيم بإجراء التجربة الموضحة بالشكل المقابل وكررها عدة مرات مستخدمًا في كل مرة عدد أكبر من الأعمدة الكهربية وعبر عن النتائج التي توصل إليها، كما بالشكل البياني المقابل :

(أ) ما الاستنتاج الذي توصل إليه إبراهيم ؟

(ب) عندما أضاف إبراهيم عمود خامس إلى هذه الدائرة لم يضيء المصباح .. فما تفسيرك ؟

٤ في الدائرة الكهربية المقابلة، إذا كانت قراءة الأميتر ٠,١ أمبير ومقاومة المصباح ٦٠ أوم والقوة الدافعة الكهربية لكل عمود من الأعمدة المكونة للبطارية تساوي ١,٥ فولت : (الإسكندرية ١٩)

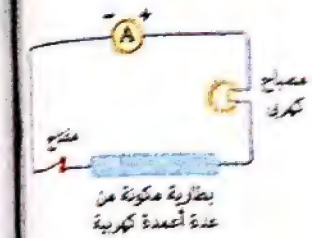

(أ) ما أقل عدد من الأعمدة الكهربية بالبطارية يلزم لإنارة المصباح ؟

(ب) أعد رسم الدائرة الكهربية مع توضيح كيفية توصيل الأعمدة الكهربية بالبطارية.

٦ إذا كان لديك أربعة أعمدة كهربية متماثلة القوة الدافعة الكهربية لكل منها ٢ فولت، وضح بالرسم التخطيطي طريقة توصيلها معًا بين النقطتين (س) ، (ص) في الشكل المقابل للحصول على تيار شدته ٣ أمبير. (الإسماعيلية ١٩)

فاصل ونواصل

الإنارة المبهرة

لسمك الأنقليس جلوبة ورقيقة ويوجد بها حوالي ٥٠٠ جزء ويمر بعدها على الصحن الكهربي بدون لمس وتشبه ما هو سمك الأنقليس الرعاد... الجهاز الكهربي لديه عبارة عن مجموعة من الألواح - يصل عددها إلى ٥٠٠ لوح - مكدسة على هيئة ٢٠٠ عمود، ويتصل الألواح بعضها على التوازي، بينما تتصل الأعمدة على التوازي.

ويعد أن فرق الجهد الكهربي الذي يولده الرعاد يصل إلى ٤٠٠ فولت إلا أنه لا يؤدي إلى قتل الإنسان الذي يتعرض له بل يؤدي إلى شل حركته فقط ولكنه يؤدي إلى قتل الأسماك المصعوقة ويرجع ذلك إلى أن الماء العذب رديء التوصيل للكهرباء.

ابتسم من فضلك

اتنين أصحاب قاعدين بيذاكروا
وفجأة ... النور انقطع!
قام واحد منهم، وولع شمعة
بعد شوية ... اللي قال لصاحبه
قوم شغل المروحة ... الدنيا بقت حر أوي
رد عليه : يا ذكي... لو شغلت المروحة
الشمعة هاتنطفي!!

قمة ملاحظة

ما الخطأ في هذا المقص ؟

حانوتي عالم الحشرات

عندما تجد الخنفساء حيوان ميت، حتى وإن كان كبير الحجم كالفأر، فإنها تبدأ على الفور بحفر الأرض تحته مباشرةً، حتى يسقط فيها، ثم تهيل عليه التراب..

والسبب في هذا السلوك أن الخنفساء تضع بيضها في هذا القبر، حتى متى فقست اليرقات، تجد غذائها جاهزًا.

حانوتي ولا أم مكافحة ؟!

الدرس الثالث

النشاط الإشعاعى و الطاقة النووية



عناصر الدرس :

- اكتشاف ظاهرة النشاط الإشعاعى.
- الاستخدامات السلمية للطاقة النووية.
- التلوث الإشعاعى.
- طرق الوقاية من التلوث الإشعاعى.

أهداف الدرس

فى نهاية الدرس يجب أن يكون التلميذ قادرًا على أن :

١ يشرح مفهوم ظاهرة النشاط الإشعاعى.
٢ يذكر أمثلة للعناصر المشعة.
٣ يقارن بين النشاط الإشعاعى الطبيعى و الصناعى.
٤ يحدد الاستخدامات السلمية للطاقة النووية.
٥ يذكر مصادر التلوث الإشعاعى.
٦ يحدد التأثيرات الناتجة عن التلوث الإشعاعى.
٧ يراعى احتياطات الأمن والسلامة عند التعامل مع المواد المشعة.
٨ يقدر دور العلماء المصريين فى تقدم العلوم.
٩ يبدى رأيه فى استخدامات الطاقة النووية.

أهم المفاهيم

- قوى الترابط النووى
- العناصر المشعة
- ظاهرة النشاط الإشعاعى
- النشاط الإشعاعى الصناعى
- التلوث الإشعاعى
- السيفرت (Sv)

القضية الحياتية المتضمنة

- الاستخدام السلمى للطاقة.

أسمح لك معرفة أن :

- العناصر تتكون من ذرات.
- كتلة الذرة تتركز فى النواة.
- التركيب الذرى للعنصر هو المسئول عن خواصه الكيميائية والفيزيائية.

منشأ الطاقة النووية

هذا تتماسك أنوية ذرات العناصر المستقرة بالرغم من وجود قوى تنافر داخلها ـ ؟

لأن ينشأ داخل النواة قوى **تعمل على :**

- ربط مكونات النواة ببعضها.
- التغلب على قوى التنافر الموجودة بين البروتونات موجبة الشحنة وبعضها.

وتعرف هذه القوى باسم قوى الترابط النووى.

قوى الترابط النووى

القوى اللازمة لربط مكونات النواة ببعضها، والتغلب على قوى التنافر الموجودة بين البروتونات موجبة الشحنة وبعضها.

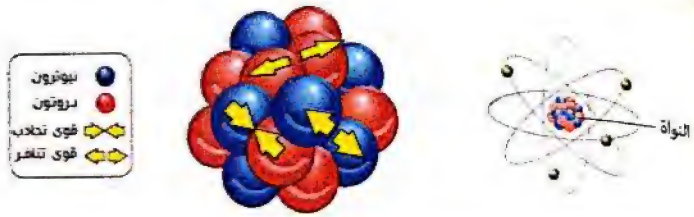

النواة مخزن للطاقة و تتركز فيها كتلة الذرة

وتعتبر قوى الترابط النووى المصدر الذى تستمد منه الذرة قوتها الهائلة والتى تعرف باسم **الطاقة النووية**، لذا تعتبر نواة الذرة **مخزنًا للطاقة**.

علل : تعتبر النواة مخزنًا للطاقة.

اكتشاف ظاهرة النشاط الإشعاعى

هنرى بيكوريل

- يرجع **اكتشاف ظاهرة النشاط الإشعاعى** إلى العالم الفرنسى **«هنرى بيكوريل»**، حيث اكتشف انبعاث أشعة غير مرئية (غير منظورة) من عنصر **اليورانيوم**، لها القدرة على النفاذ خلال المواد الصلبة.

للاطلاع فقط

اكتشف العالم بيكوريل ظاهرة النشاط الإشعاعى عام ١٨٩٦م بالصدفة العلمية، حيث وضع فى درج مكتبه عينة من الصخور تحتوى على أملاح اليورانيوم فوق فيلم حساس مغلف بورق أسود، وعندما أراد استعمال هذا الفيلم اكتشف تلفه، لذا استنتج أن اليورانيوم يصدر عنه إشعاعات غير مرئية لها القدرة على النفاذ خلال المواد الصلبة

أثر الإشعاعات غير المرئية على الفيلم الحساس

ظاهرة النشاط الإشعاعى

- العناصر التى تحتوى أنوية ذراتها على عدد من النيوترونات، يزيد عن العدد اللازم لاستقرارها تكون غير مستقرة، بسبب ما فيها من طاقة زائدة، وتعرف بالعناصر المشعة الطبيعية.

العناصر المشعة الطبيعية

عناصر تحتوى أنوية ذراتها على عدد من النيوترونات يزيد عن العدد اللازم لاستقرارها.

★ وفيما يلى أمثلة لبعض العناصر المشعة:

وتميل أنوية ذرات العناصر المشعة إلى إصدار إشعاعات (ألفا و بيتا و جاما) غير مرئية بشكل تلقائى ... علل؟ لتخلص من الطاقة الزائدة والوصول إلى تركيب أكثر استقرارًا فيما يعرف بظاهرة النشاط الإشعاعى (النشاط الإشعاعى الطبيعى).

ظاهرة النشاط الإشعاعى

عملية تحول تلقائى لأنوية ذرات بعض العناصر المشعة الموجودة فى الطبيعة كمحاولة للوصول إلى تركيب أكثر استقرارًا.

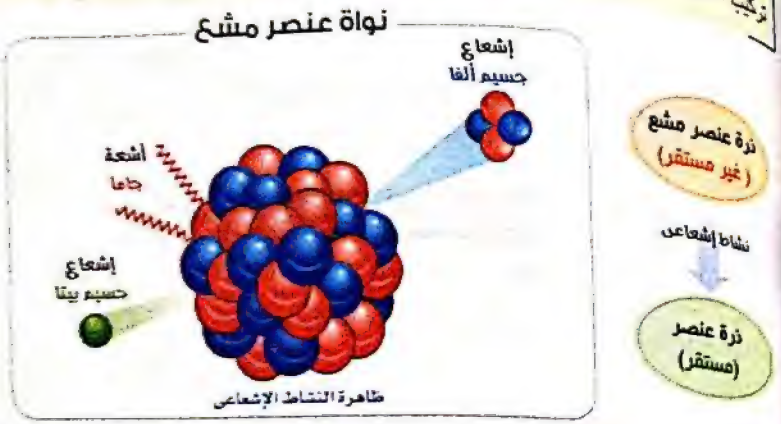

ظاهرة النشاط الإشعاعى

ما النتائج المترتبة على؟

زيادة عدد النيوترونات فى نواة ذرة عنصر ما عن العدد اللازم لاستقرارها.

تصبح النواة غير مستقرة لزيادة طاقتها فتصدر إشعاعات غير مرئية للوصول إلى تركيب أكثر استقرارًا.

علل؟

يعتبر عنصر اليورانيوم من العناصر المشعة.

لاحتواء نواة ذرته على عدد من النيوترونات يزيد عن العدد اللازم لاستقراره، مما يتسبب فى وجود طاقة زائدة تخرج فى صورة إشعاع غير مرئى.

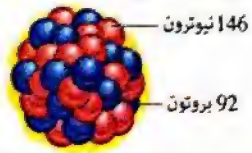

نواة ذرة اليورانيوم 238

النشاط الإشعاعى الصناعى

• هناك نوعًا آخر من النشاط الإشعاعى يعرف بالنشاط الإشعاعى الصناعى، وهو عبارة عن الإشعاع أو الطاقة النووية المنطلقة من التفاعلات النووية.

والتى قد :

يمكن التحكم فيها

كتلك التى تجرى فى المفاعلات النووية المستخدمة فى الأغراض السلمية

لا يمكن التحكم فيها

كتلك التى تجرى فى القنابل الذرية المستخدمة فى الأغراض الحربية

النشاط الإشعاعى الصناعى

الإشعاع أو الطاقة النووية المنطلقة أثناء التفاعلات النووية التى تُجرى فى المفاعلات النووية أو القنابل الذرية.

الاستخدامات السلمية للطاقة النووية

• اهتم العلماء بالبحث عن كيفية التحكم فى كمية الطاقة المنطلقة من التفاعلات النووية التى تُجرى فى المفاعلات النووية وذلك حتى يتم استخدامها فى الأغراض السلمية فى الكثير من المجالات والتى يوضحها المخطط التالى :

مجالات استخدامات الطاقة النووية

١ مجال الطب
٢ مجال توليد الكهرباء
٣ مجال استكشاف الفضاء
٤ مجال الصناعة
٥ مجال الزراعة
٦ مجال التنقيب

١ مجال الطب

تستخدم الطاقة النووية فى تشخيص وعلاج بعض الأمراض، كالسرطان

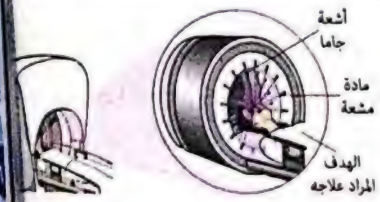

استخدام الإشعاعات النووية فى علاج بعض الأمراض

٢ مجال توليد الكهرباء

تستخدم الطاقة الحرارية الناتجة عن بعض التفاعلات النووية فى تسخين الماء حتى الغليان واستغلال البخار الناتج فى إدارة التوربينات وتشغيل المولدات لتوليد الكهرباء

توليد الكهرباء فى المفاعل النووى

٣ مجال استكشاف الفضاء

تستخدم بعض المواد المشعة كوقود نووى لصواريخ الفضاء التى تنطلق إلى القمر أو التى تجوب الفضاء

٤ مجال الصناعة

• تستخدم الطاقة النووية فى :
- الكشف عن عيوب المنتجات الصناعية.
- تحويل الرمال إلى شرائح السيليكون المستخدمة فى تصنيع بعض أجزاء الكمبيوتر والدوائر الإلكترونية المدمجة بالأجهزة الكهربية.


شريحة إلكترونية

٥ مجال الزراعة

تستخدم الطاقة النووية فى القضاء على الآفات الزراعية وتحسين سلالات بعض النباتات

٦ مجال التنقيب

الكشف والتنقيب عن البترول والمياه الجوفية

تدريب 1

انظر كراسة الواجب

ظاهرة النشاط الإشعاعى والاستخدامات السلمية للطاقة النووية

اختبر فهمك

1 [illegible] العلمي الدال على كل من العبارات الآتية:

(١) العناصر التي تحتوي أنوية ذراتها على عدد من النيوترونات يزيد عن العدد اللازم لاستقرارها. ( )

(٢) الإشعاع أو الطاقة النووية المنطلقة أثناء التفاعلات النووية التي يجريها العلماء والتي يمكن التمسك في بعضها والبعض الآخر لا يمكن التمسك فيه. ( )

2 أكمل العبارات الآتية مما يناسبها:

(١) اكتشف العالم ..... النيوترونات أشعة غير مشحونة من عنصر .....

(٢) تتحول أنوية ذرات العناصر ..... إلى أنوية عناصر أخرى أكثر استقرارًا، فيما يعرف بظاهرة .....

(٣) تستخدم الطاقة النووية في مجال الطب في ..... و ..... بعض الأمراض.

3 ضع علامة (✓) أمام العبارة الصحيحة وعلامة (✗) أمام العبارة الخطأ:

(١) من أمثلة العناصر المشعة الطبيعية الراديوم واليورانيوم. ( )

(٢) يستخدم الوقود الكيميائي في تشغيل الصواريخ التي تجوب الفضاء. ( )

(٣) تتحول الرمال إلى شرائح سيليكون تستخدم في صناعة الدوائر الإلكترونية. ( )

4 علل: أنوية ذرات العناصر المستقرة متماسكة بالرغم من وجود قوى تنافر داخلها.

.....

5 اذكر استخدامات الطاقة النووية في:

(١) مجال الزراعة.

.....

(٢) مجال توليد الكهرباء.

.....

موقع التفوق

التلوث الإشعاعي

[illegible] الإشعاعات النووية وزيادة نوعيتها في البيئة المحيطة بنا.

مصادر التلوث الإشعاعي

تنقسم مصادر التلوث الإشعاعي إلى نوعين، هما:

مصادر طبيعية	مصادر صناعية
تتمثل في:	
• الأشعة الكونية الصادرة من الفضاء الخارجي.	• تجارب تفجير القنابل النووية التي تُجريها بعض الدول.
• مصادر الإشعاع الطبيعية الموجودة على سطح الأرض (العناصر المشعة).	• النفايات المشعة الناتجة عن التفاعلات النووية.

ويعد حادثة انفجار مفاعل تشيرنوبل الروسي مثالًا على التلوث الإشعاعي الناتج من مصادر صناعية.

انفجار مفاعل تشيرنوبل

• توقيت حدوثه

• ٢٦/٤/١٩٨٦م

• سبب حدوثه

• خطأ فني في التشغيل.

• نتائج حدوثه

• تسرب الكثير من الغبار الذري المحمل بعناصر المشعة مكونًا سُحب ذرية ضخمة حملتها الرياح إلى معظم دول أوروبا الشرقية والغربية.



السحب الذرية الناتجة عن انفجار مفاعل تشيرنوبل

• وعندما سقطت الأمطار فى شهر مايو من نفس العام،
حملت معها العناصر المشعة إلى سطح الأرض، فتلوثت التربة والنباتات والمياه بالعناصر
ثم انتقل هذا التلوث إلى الخضروات والفواكه والحيوانات آكلة العشب كالأبقار
وبالتالى أصبحت ألبانها ولحومها والمنتجات المصنعة منها ملوثة بالإشعاع النووى.

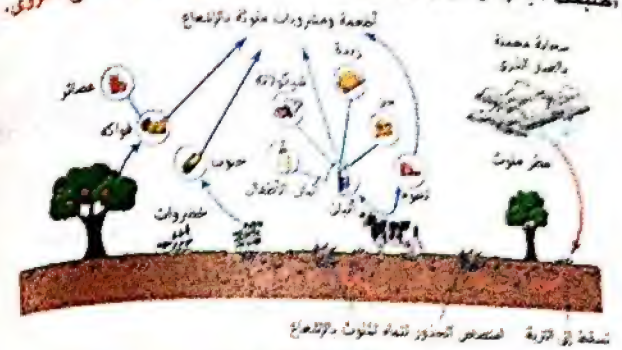

علل؟ قد يحدث تلوث إشعاعى فى مناطق لم يحدث بها انفجار نووى.

لأن التلوث الإشعاعى قد ينتقل عن طريق السقوط الجاف بواسطة الرياح أو السقوط بواسطة الأمطار إلى سطح الأرض.

وحدة قياس الإشعاع الممتص

يقدر الإشعاع الممتص بوحدة تُعرف باسم: **السيفرت (Sv)**

السيفرت (Sv)

الوحدة الدولية لقياس الإشعاع الممتص بواسطة الجسم البشرى.

الجرعة الآمنة عند التعرض للإشعاعات النووية

يجب مراعاة عدم التعرض للإشعاعات النووية بكميات كبيرة، فالحد الأقصى للجرعة الآمنة عند التعرض للإشعاعات فى العام الواحد، بالنسبة لـ:

• العاملين فى مجال الإشعاع هو ٢٠ مللى سيفرت.
• الجمهور لا يتجاوز ١ مللى سيفرت.

١ مللى سيفرت = 10^{-3} سيفرت

العوامل التى تتوقف عليها حدود الجرعة الفعالة الآمنة للإشعاعات النووية

تختلف حدود الجرعة الفعالة الآمنة، حسب:

(١) عمر الشخص.
(٢) الفترة التى يتعرض فيها الشخص للإشعاع.
(٣) الجزء الذى يتعرض للإشعاع من الجسم.

تأثير التلوث الإشعاعى على الإنسان

• تختلف تأثيرات الإشعاعات على الإنسان باختلاف كميتها و زمن التعرض لها.

حيث تنقسم إلى نوعين، هما:
1. تأثيرات ناتجة عن التعرض لجرعة إشعاعية كبيرة خلال فترة زمنية قصيرة
2. تأثيرات ناتجة عن التعرض لجرعات إشعاعية صغيرة لفترات زمنية طويلة

١ التأثيرات الناتجة عن التعرض لجرعة إشعاعية كبيرة خلال فترة زمنية قصيرة

• يعرض الجسم لجرعة إشعاعية كبيرة خلال فترة زمنية قصيرة (يوم واحد أو أقل)

ما النتائج المترتبة على ذلك؟

يؤدى إلى تدمير

• الشعال.
• الجهاز الهضمى.
• الجهاز العصبى المركزى.
• نخاع العظام المسئول عن تكوين خلايا الدم مما يترتب عليه نقص عدد كرات الدم الحمراء فى جسم الإنسان.


خلايا دم طبيعى — لوكيميا

التلوث الإشعاعى أحد أسباب الإصابة بمرض اللوكيميا (التهام كرات الدم البيضاء لكرات الدم الحمراء)

ملحوظة

نخاع العظام هو أول ما يتأثر بالإشعاع النووى

ما النتائج المترتبة على؟ نقص عدد كرات الدم الحمراء فى جسم الإنسان.

• الشعور بالإعياء.
• حدوث التهابات متنوعة بأماكن متفرقة من الجسم مثل الحنجرة و الجهاز التنفسى.
• حدوث غثيان و دوار و إسهال.

التأثيرات الناتجة عن التعرض لجرعات إشعاعية صغيرة لفترات زمنية طويلة

يتعرض الجسم لجرعات إشعاعية صغيرة لفترات زمنية طويلة (عدة أشهر أو سنوات) يؤدي إلى ما يلي:

- تأثيرات بدنية
- تأثيرات وراثية
- تأثيرات خلوية

التأثيرات البدنية للإشعاعات النووية

هي التغيرات التي تطرأ على جسم الكائن الحي

مرض الجلد من تأثير الإشعاع

التأثيرات الوراثية للإشعاعات النووية

هي التغيرات التي تحدث في تركيب الكروموسومات الجنسية للآباء وتكون نتيجتها ولادة أطفال غير طبيعيين (مصابون بتشوهات خلقية)

التشوه الخلقي من التأثيرات الوراثية للإشعاع

التأثيرات الخلوية للإشعاعات النووية

هي التغيرات التي تحدث في تركيب الخلايا والتي قد تتدمر إذا تم التعرض لجرعات هائلة من الإشعاع ومن أمثلتها:

تغير التركيب الكيميائي لهيموجلوبين الدم ... **ما الذي يترتب على ذلك؟**
يصبح الهيموجلوبين غير قادر على حمل الأكسجين إلى جميع خلايا الجسم مما قد يؤدي إلى تدميرها

تدريب 2

انظر كراسة الواجب

التلوث الإشعاعي وطرق الوقاية منه

طرق الوقاية من التلوث الإشعاعي

- زيادة الاهتمام من الدول المشعة بالعامل والمستخدمين
- طرق وقائية خاصة **حال؟** للوقاية من الإشعاع النووي.
- إتباع طرق خاصة تقوم المنظمات الدولية بتوريد المياه الساخنة الناتجة عن تبريد المفاعلات النووية قبل إلقائها في البحار أو المحيطات.
- دفن النفايات النووية بما تقوله الإشعاعات الصادرة منها.
- وعمليات ذات الإشعاعات:
  - الضعيفة والمتوسطة تدفن في باطن الأرض محاطة بطبقة من الصخور أو الأسمنت.
  - القوية تدفن على أعماق أكبر في باطن الأرض.
- إتباع الشروط التالية عند دفن النفايات المشعة:

أن تدفن النفايات بعيدة تمامًا عن:
- مجرى المياه الجوفية ... **حال؟**
  حتى لا تتعرض مياهها للتلوث.
- المناطق المعرضة للزلازل، أي أنه لابد أن تكون المناطق المختارة مستقرة ... **حال؟**
  حتى لا تنتشر النفايات المشعة في البيئة المحيطة بفعل الهزات الأرضية.

الكاشف المستخدم للتعامل مع الإشعاعات النووية



دفن النفايات النووية

تاريخ العلم — د. علي مصطفى مشرفة

- عالم مصري وصفه العالم أينشتين بأنه من أعظم علماء الفيزياء في العالم.
- كانت له نظريات هامة في مجال الذرة والإشعاع، بنيت على أساسها صناعة القنبلة الذرية.
- عارض تطوير صناعة القنبلة الذرية، ونادى بضرورة تسخير الطاقة النووية والإشعاع لخير البشرية.

د. علي مصطفى مشرفة

أولاً أسئلة الكتاب المدرسي

١ أكمل الإجابة الصحيحة مما بين القوسين:

(١) اكتشف ظاهرة النشاط الإشعاعي بواسطة العالم ..... (أوم / بيكوريل / ...)

(٢) ترجع التغيرات ..... للإشعاع إلى تغير تركيب الكروموسومات الجنسية بالخلايا. (الجينية / الوراثية / ...)

(٣) يجب ألا يزيد مقدار ما يتعرض له المتعاملون مع المواد المشعة من الإشعاع عن ..... على سيفرت. (٥ / ١ / ...)

(٤) من العناصر غير المشعة ..... (الراديوم / اليورانيوم / ...)

(٥) وحدة قياس الإشعاع الممتص هي ..... (كيوري / سيفرت / روتجن)

٢ علل لما يأتي:

(١) يجب أن تكون المنطقة المختارة لحفظ النفايات المشعة مستقرة.

(٢) التعرض للإشعاع له تأثيرات وراثية.

(٣) بعد وقوع حادثة انفجار مفاعل تشيرنوبل اكتشفت نظائر مشعة في الأطعمة.

(٤) للنشاط الإشعاعي مصادر طبيعية وأخرى صناعية.

(٥) يطلق على بعض العناصر اسم العناصر المشعة.

٣ اكتب المصطلح العلمي الدال على كل عبارة مما يأتي:

(١) عملية تحول تلقائي لأنوية ذرات بعض العناصر المشعة الموجودة في الطبيعة كمصدر للوصول إلى تركيب أكثر استقرارًا.

(٢) الإشعاع أو الطاقة النووية المنطلقة أثناء التفاعلات النووية التي يمكن التحكم فيها وتُستخدم بالمفاعلات النووية.

(٣) التغيرات التي تطرأ على جسم الكائن الحي ذاته، نتيجة التعرض للإشعاعات النووية.

(٤) وحدة قياس الإشعاع الممتص.

ثانيًا أسئلة كتاب الامتحان

١ اختر الإجابة الصحيحة مما بين القوسين:

(١) ترجع ظاهرة النشاط الإشعاعي إلى زيادة عدد ..... عن العدد اللازم لاستقرار ذرة العنصر.
(أ) البروتونات (ب) النيوترونات
(ج) الإلكترونات (د) جميع ما سبق

(٢) كل مما يأتي من العناصر المشعة، عدا ..... (كتاب امتحان ١٩)
(أ) الراديوم. (ب) اليورانيوم.
(ج) الثوريوم. (د) السيزيوم.

(٣) تصدر العناصر المشعة مجموعة من الإشعاعات غير المرئية مثل إشعاعات ..... (أكتوبر ٢٠١٩)
(أ) ألفا. (ب) بيتا.
(ج) جاما. (د) جميع ما سبق.

(٤) لا يمكن السيطرة على التفاعلات النووية التي تجري في ..... (دور تجريبي ٢١)
(أ) المفاعلات النووية. (ب) المعامل الشبه.
(ج) التوربينات. (د) القنابل الذرية.

(٥) تستخدم الطاقة النووية في الأغراض السلمية في مجال ..... (دور مايو ٢١)
(أ) الطب. (ب) الصناعة.
(ج) التنقيب. (د) جميع ما سبق.

(٦) تستخدم الطاقة النووية سلميًا في مجال الصناعة لتحويل الرمال إلى ..... لتصنيع بعض أجزاء الكمبيوتر. (التجريبية ٢١)
(أ) طاقة كهربية (ب) شرائح السيليكون
(ج) وقود نووي (د) قنبلة ذرية

(٧) من استخدامات الطاقة النووية في مجال ..... تحسين سلالات بعض النباتات. (الإسماعيلية ٢١)
(أ) الطب (ب) التنقيب
(ج) الصناعة (د) الزراعة

التلوث الإشعاعى وطرق الوقاية منه

(٨) ترجع حادثة انفجار مفاعل تشيرنوبل إلى
(أ) خطأ فنى فى التشغيل. (ب) خطأ فى تصميمه.
(جـ) سوء اختيار موقعه. (د) تغير نوعية الوقود النووى المستخدم.

(٩) ١ مللى سيفرت = ... سيفرت.
(أ) $١٠^{-٦}$ (ب) $١٠^{-٣}$
(جـ) $١٠^{٣}$ (د) $١٠^{٦}$

(١٠) يجب ألا يتجاوز مقدار ما يتعرض له الجمهور من الإشعاع عن ..... مللى سيفرت فى العام الواحد.
(أ) ١ (ب) ٥
(جـ) ٨ (د) ٢٠

(١١) تختلف حدود الجرعة الفعالة الآمنة للإشعاعات النووية حسب .....
(أ) الفترة التى يتعرض فيها الشخص للإشعاع.
(ب) عمر الشخص.
(جـ) الجزء الذى يتعرض للإشعاع من الجسم.
(د) جميع ما سبق.

(١٢) يحدث تدمير للطحال عند تعرض الإنسان لجرعة إشعاعية ..... (الغربية)
(أ) كبيرة لفترة زمنية قصيرة. (ب) صغيرة لفترة زمنية قصيرة.
(جـ) كبيرة لفترة زمنية طويلة. (د) صغيرة لفترة زمنية طويلة.

(١٣) يعتبر ..... هو المسئول عن تكوين خلايا الدم.
(أ) المخ (ب) نخاع العظام
(جـ) الجهاز الهضمى (د) الجهاز العصبى المركزى

(١٤) نقص عدد كرات الدم الحمراء فى جسم الكائن الحى يؤدى إلى .....
(أ) ظهور أورام. (ب) التهاب الجهاز التنفسى.
(جـ) ولادة أطفال مشوهين. (د) جميع ما سبق.

(١٥) حدوث تغيرات فى تركيب الكروموسومات الجنسية للآباء من أمثلة التأثيرات ..... للإشعاع
(أ) البدنية (ب) الوراثية
(جـ) الخلوية (د) جميع ما سبق

(١٦) يرجع حدوث تغيرات فى تركيب الكروموسومات الجنسية للآباء ويكون نتيجتها ولادة أطفال غير عاديين إلى التعرض لجرعات إشعاعية ..... (الدقهلية ٢٠)
(أ) كبيرة لفترات زمنية طويلة. (ب) كبيرة خلال فترة زمنية قصيرة.
(جـ) صغيرة لفترات زمنية طويلة. (د) صغيرة خلال فترة زمنية قصيرة.

(١٧) يعتبر ..... هو المسئول عن نقل الأكسجين إلى جميع خلايا الجسم. (السويس ١٦)
(أ) نخاع العظام (ب) هيموجلوبين الدم
(جـ) الكروموسومات (د) جميع ما سبق

(١٨) بنيت على نظريات العالم ..... أسس صناعة القنبلة الذرية. (الشرقية ٢٣)
(أ) على مصطفى مشرفة (ب) أوم
(جـ) مندل (د) هنرى بيكوريل

---

٢ اكتب المصطلح العلمى الدال على كل عبارة من العبارات الآتية :

ظاهرة النشاط الإشعاعى والاستخدامات السلمية للطاقة النووية

(١) القوى اللازمة لربط مكونات النواة ببعضها والتغلب على قوى التنافر الموجودة بين البروتونات موجبة الشحنة وبعضها. (الأقصر ١٩)

(٢) العناصر التى يحدث فى أنوية ذراتها تحول تلقائى للوصول إلى تركيب أكثر استقرارًا. (القليوبية ١٩)

(٣) تحول تلقائى لأنوية ذرات بعض العناصر المشعة الموجودة فى الطبيعة كمحاولة للوصول إلى تركيب أكثر استقرارًا. (الجيزة ٢٠)

(٤) الإشعاع أو الطاقة النووية المنطلقة أثناء التفاعلات النووية التى يمكن التحكم فيها وتُجرى فى المفاعلات النووية. (أسوان ١٨)

التلوث الإشعاعى وطرق الوقاية منه

(٥) • ارتفاع كمية الإشعاعات النووية وزيادة نوعيتها فى البيئة المحيطة بنا. (جنوب سيناء ٢٠)
• زيادة كمية الإشعاع النووى فى البيئة عن الحد الأقصى الآمن الذى يستطيع أن يتحمله الإنسان.

(٦) الوحدة الدولية لقياس الإشعاع الممتص بواسطة الجسم البشرى. (القاهرة ٢٢)

(٧) التغيرات التى تطرأ على جسم الكائن الحى نتيجة التعرض للإشعاعات النووية. (سوهاج ١٩)

٣ اذكر مثالاً واحداً لكل مما يأتى :

(١) عنصر مشع.

(٢) الاستخدامات السلمية للطاقة النووية. (أكتوبر ٢٠١٦)

(٣) استخدام غير سلمى للطاقة النووية. (الفيوم ٢٠١٦)

(٤) مصدر صناعى للتلوث الإشعاعى.

(٥) التأثيرات الناتجة عن التعرض لجرعة إشعاعية كبيرة خلال فترة زمنية قصيرة.

(٦) التأثيرات الناتجة عن التعرض لجرعات إشعاعية صغيرة لفترات زمنية طويلة.

٤ أكمل العبارات الآتية بما يناسبها :

ظاهرة النشاط الإشعاعى و الاستخدامات السلمية للطاقة النووية

(١) تعتبر قوى ..... المصدر الذى تستمد منه الذرة قوتها الهائلة.

(٢) من أمثلة العناصر المشعة ..... و ..... (جنوب سيناء ٢٠١٦)

(٣) تستخدم ..... الناتجة من المفاعلات النووية فى تسخين الماء حتى الغليان واستخدام بخار الماء الناتج فى إدارة ..... لتوليد الكهرباء.

(٤) تدار الصواريخ التى تصل إلى القمر وتجوب ..... بواسطة .....

(٥) تستخدم الطاقة النووية فى مجال الزراعة فى ..... و ..... (المطروح ٢٠١٦)

(٦) تستخدم الطاقة النووية فى مجال التنقيب عن ..... و .....

التلوث الإشعاعى و طرق الوقاية منه

(٧) تنقسم مصادر التلوث الإشعاعى إلى نوعين، هما : ..... و ..... (السويس ٢٠١٦)

(٨) تعتبر الأشعة الكونية من مصادر التلوث الإشعاعى ..... (القليوبية ٢٠١٦)

(٩) الحد الأقصى الآمن للتعرض للإشعاعات فى العام الواحد بالنسبة للعاملين فى مجال الإشعاع هو ..... وبالنسبة للجمهور هو .....

(١٠) التعرض للإشعاع بجرعات هائلة يدمر نخاع العظام و ..... و ..... والجهاز العصبى المركزى.

(١١) يؤدى التعرض لجرعات إشعاعية صغيرة لفترات زمنية طويلة، إلى ظهور تأثيرات ..... و ..... و خلوية. (البحيرة ٢٠١٨)

(١٢) من التأثيرات الخلوية للإشعاع حدوث تغير فى ..... كتغير التركيب الكيميائى لـ ..... (الوادى الجديد ٢٠١٨)

(١٣) تدفن النفايات ذات الإشعاعات الضعيفة والمتوسطة فى باطن الأرض محاطة بطبقة من ..... أو ..... (القليوبية ٢٠١٦)

(١٤) تدفن النفايات المشعة بعيدة تمامًا عن مجرى ..... وعن المناطق المعرضة لحدوث ..... (الوادى الجديد ٢٠١٦)

(١٥) وصف العالم ..... العالم المصرى ..... بأنه من أعظم علماء الفيزياء فى العالم. (الفيوم ٢٠١٥)

٥ صوب ما تحته خط :

ظاهرة النشاط الإشعاعى و الاستخدامات السلمية للطاقة النووية

(١) تعتبر البروتونات مخزنًا للطاقة فى الذرة.

(٢) تحتوى أنوية ذرات العناصر المشعة على عدد من البروتونات يزيد عن العدد اللازم لاستقرارها. (البحر الأحمر ٢٠١٨)

(٣) تستخدم بعض المواد المشعة كوقود حفرى لصواريخ الفضاء. (القاهرة ٢٠١٦)

(٤) وحدة قياس الإشعاع الممتص هى الرونتجن. (أسوان ٢٠١٦) (البحيرة ٢٠١٦)

التلوث الإشعاعى و طرق الوقاية منه

(٥) الجهاز الهضمى هو أول ما يتأثر بالإشعاع النووى. (الوادى الجديد ٢٠١٨)

(٦) تغير التركيب الكيميائى لهيموجلوبين الدم يجعله غير قادر على حمل النيتروجين إلى جميع خلايا الجسم.

٦ ضع علامة (✓) أمام العبارة الصحيحة و علامة (✗) أمام العبارة الخطأ، مع التصويب :

ظاهرة النشاط الإشعاعى و الاستخدامات السلمية للطاقة النووية

(١) يمكن استخدام الطاقة النووية فى تشخيص وعلاج بعض الأمراض. (س سويف ٢٠١٦) ( )

(٢) يمكن الكشف عن عيوب المنتجات الصناعية بالإشعاعات النووية. ( )

التلوث الإشعاعى و طرق الوقاية منه

(٣) تعتبر الأشعة الكونية من مصادر التلوث الإشعاعى. (المنوفية ٢٠١٥) ( )

(٤) تؤدى تجارب التفجيرات النووية إلى زيادة كمية الإشعاع فى البيئة المحيطة. ( )

(٥) أدى انفجار مفاعل تشيرنوبل إلى تلوث الأغذية بالعناصر المستقرة. ( )

(٦) الحد الأقصى الآمن للتعرض للإشعاعات النووية بالنسبة للعاملين فى مجال الإشعاع هو ٢٠ سيفرت. ( )

(٧) تختلف حدود الجرعة الفعالة الآمنة للإشعاعات النووية حسب عمر الشخص. ( )

٧ علل لما يأتى :

ظاهرة النشاط الإشعاعى و الاستخدامات السلمية للطاقة النووية

(١) تعتبر النواة مخزنًا للطاقة. (أسيوط ٢٠)

.....

(٢) يطلق على بعض العناصر اسم العناصر المشعة. (مطروح ٢٠)

.....

(٣) أنوية ذرات العناصر المشعة غير مستقرة. (مطروح ٢٠)

.....

(٤) يعتبر عنصر اليورانيوم من العناصر المشعة. (البحر الأحمر ١٩)

.....

التلوث الإشعاعى و طرق الوقاية منه

(٥) انفجار مفاعل تشيرنوبل فى ١٩٨٦/٤/٢٦م

.....

(٦) قد يحدث تلوث إشعاعى فى مناطق لم يحدث بها انفجار نووى.

.....

(٧) التعرض للإشعاع له تأثيرات وراثية. (أسيوط ١٩)

.....

(٨) التعرض للإشعاع له تأثيرات خلوية. (الأزهر ١٦)

.....

(٩) تغير التركيب الكيميائى لهيموجلوبين الدم يمكن أن يؤدى إلى الوفاة.

.....

(١٠) ارتداء المتعاملين مع المواد المشعة قفازات وملابس خاصة.

.....

(١١) يجب دفن النفايات المشعة بعيدة تمامًا عن مجارى المياه الجوفية. (الغربية ١١)

.....

(١٢) يجب دفن النفايات النووية فى مناطق مستقرة.

.....

٨ ما المقصود بكل من :

(١) قوى الترابط النووى. (الفيوم ١٩) (٢) العناصر المشعة الطبيعية. (الفيوم ١٨)

(٣) • ظاهرة النشاط الإشعاعى. (السويس ٢١)

• النشاط الإشعاعى الطبيعى. (المنوفية ١٨)

(٤) النشاط الإشعاعى الصناعى. (أسيوط ١٨)

(٥) التلوث الإشعاعى. (٦) السيفرت.

---

٩ اذكر استخدام (أو أهمية) كل من :

(١) قوى الترابط النووى. (٢) المفاعلات النووية. (قنا ٢١)

(٣) الطاقة النووية (العناصر المشعة) فى مجال :

(أ) الطب. (الأقصر ٢١) (ب) الزراعة. (الدقهلية ١٩)

(ج) الصناعة. (مطروح ٢١) (د) التنقيب. (أسوان ١٨)

(هـ) استكشاف الفضاء. (الغربية ١٧) (و) توليد الكهرباء. (كفر الشيخ ١٥)

(٤) القفازات والملابس التى يرتديها أخصائى الأشعة بالمستشفيات. (البحيرة ٢١)

---

١٠ ما النتائج المترتبة على كل مما يأتى :

(١) زيادة عدد النيوترونات فى نواة ذرة عنصر ما عن العدد اللازم لاستقرارها. (القليوبية ١٩)

.....

(٢) انفجار قنبلة نووية أو مفاعل نووى.

.....

(٣) انفجار مفاعل تشيرنوبل.

.....

(٤) تعرض الإنسان لجرعة إشعاعية كبيرة خلال فترة زمنية قصيرة. (المنيا ٢١)

.....

(٥) نقص عدد كرات الدم الحمراء فى جسم الإنسان نتيجة التعرض للإشعاع النووى. (بنى سويف ١٧)

.....

(٦) تعرض الإنسان لجرعات إشعاعية صغيرة لفترات زمنية طويلة. (بورسعيد ١٩)

.....

(٧) تغير التركيب الكيميائى لهيموجلوبين الدم. (البحر الأحمر ١٩)

.....

١١ قارن بين كل من :

(١) المفاعلات النووية و القنابل الذرية
«من حيث : إمكانية التحكم فى التفاعلات النووية التى تُجرى فيها – الاستخدام».

(٢) المصادر الطبيعية و المصادر الصناعية «للتلوث الإشعاعى». (بنى سويف ٢٠١٩)

(٣) التأثيرات الوراثية و التأثيرات الخلوية «للإشعاعات النووية». (دمياط ٢٠١٩)

(٤) النفايات النووية ذات الإشعاعات الضعيفة و النفايات النووية ذات الإشعاعات القوية
«من حيث : طريقة التخلص منها». (الإسماعيلية ٢٠١٩)

١٢ أسئلة متنوعة :

ظاهرة النشاط الإشعاعى و الاستخدامات السلمية للطاقة النووية

١ اذكر جهود العالم هنرى بيكوريل التى أدت إلى اكتشاف النشاط الإشعاعى للمرة الأولى. (كفر الشيخ ٢٠١٩)

٢ كيف تحصل على الطاقة الكهربية من الطاقة النووية ؟ (الإسكندرية ٢٠١٩)

التلوث الإشعاعى و طرق الوقاية منه

٣ ما وحدة قياس الإشعاع النووى ؟ وما الحد الأقصى الآمن للتعرض لهذا الإشعاع فى العام الواحد ؟

٤ اذكر طرق الوقاية من التلوث الإشعاعى. (القليوبية ٢٠١٩)

٥ ما الاحتياطات الواجب اتخاذها عند التعامل مع النفايات المشعة ؟ (الجيزة ٢٠١٩)

٦ اذكر اسم العالم الذى بنيت على نظرياته أسس صناعة القنبلة الذرية. (كفر الشيخ ٢٠١٩)

٧ متى يحدث كل مما يأتى : (المنوفية ٢٠١٩)

(أ) نقص كرات الدم الحمراء نتيجة تدمير نخاع العظام لشخص يعمل فى مفاعل نووى.

(ب) التخلص من النفايات النووية بدفنها فى باطن الأرض محاطة بطبقة من الأسمنت أو الصخور.

٨ أعط نبذة مختصرة عن كل من :

(أ) انفجار مفاعل تشيرنوبل.

(ب) حدود الجرعة الفعالة الآمنة للإشعاعات النووية.

(جـ) إنجازات د. على مصطفى مشرفة فى مجال الذرة. (البحيرة ٢٠١٩)

موقع التفوق

فاصل ونواصل

فراولة بالإشعاع

أعلن بعض منتجى الخضروات والفاكهة فى بريطانيا عن عدد من المنتجات الزراعية، يمكن أن تبقى دون تلف لمدة طويلة، نتيجة تعريضها لجرعات محدودة من الإشعاعات الذرية التى تؤدى إلى تدمير الكائنات الدقيقة التى تسبب تلف الطعام مثل البكتيريا والفطريات، والشكل المقابل لعينتين من الفراولة تم تركهما فى الهواء الجوى لمدة ٣ أيام ...

(١) (٢)

أى من العينتين تم تعريضها لإشعاع جاما ؟

متاهة

هل يمكنك مساعدة هذه الأسرة فى الوصول إلى الأيس كريم ؟

اختبر ذكاءك

ما الرقم الذى يجب وضعه بدلًا من علامة الاستفهام ؟

٤ ٥ ٦ ٦٠ ؟ ١ ١٠ ١٢ ١٥

الذى واللذين

الذى يعرف، ولا يعرف أنه يعرف، هو نائم .. أيقظوه.

والذى لا يعرف، ويعرف أنه لا يعرف، هو جاهل .. علموه.

والذى لا يعرف، ولا يعرف أنه لا يعرف، هو أحمق .. تحاشوه.

والذى يعرف ويعرف أنه يعرف، هو حكيم .. اتبعووووووووه.

أسئلة لتنمية التفكير التحليلي

«تحديد الأسباب والنتائج»

أكمل الفراغات الناقصة في الجدول التالي :

	الأسباب	النتائج
١	.....	تزداد شدة التيار للضعف
٢	توصيل الأميتر في دائرة كهربية	.....
٣	.....	تنتقل الشحنات الكهربية من أحدهما إلى الآخر
٤	زيادة الشغل المبذول لنقل كمية من الكهربية إلى الضعف وخفض كمية الكهربية للنصف	.....
٥	.....	إمكانية التحكم في شدة التيار المار في الأجزاء المختلفة من الدائرة الكهربية
٦	خفض فرق الجهد بين طرفي موصل إلى النصف مع ثبات درجة الحرارة	.....
٧	.....	تزداد القوة الدافعة الكهربية للبطارية بمقدار الزيادة في عدد الأعمدة المتصلة ببعضها
٨	غرس شرائح من النحاس والخارصين في ثمرة من البطاطس	.....
٩	.....	انبعاث إشعاعات غير مرئية من نواة الذرة للوصول إلى تركيب أكثر استقرارًا
١٠	التعرض لجرعة إشعاعية كبيرة خلال فترة زمنية قصيرة	.....

الوحدة 3

الجينات و الوراثة

الدرس المبادئ الأساسية للوراثة

أهداف الوحدة : بعد دراسة هذه الوحدة نتمكن أن يشير المتعلم قادرًا على أن :

- يحدد الفرق بين الصفة الوراثية و الصفة المكتسبة.
- يذكر قانوني مندل للوراثة.
- يذكر مفهوم الصفة السائدة و الصفة المتنحية.
- يحدد الصفات السائدة و الصفات المتنحية في تجارب مندل على نبات البازلاء.
- يحدد بعض الصفات السائدة و الصفات المتنحية في الإنسان.
- يذكر مفهوم الجين.
- يقدر جهود علماء الوراثة في اكتشاف كيفية انتقال الصفات الوراثية.

مقدمة الوحدة :

- يفسر علم الوراثة أوجه التشابه والاختلاف في الصفات الوراثية في الكائنات الحية نتيجة انتقالها خلال عملية التكاثر من جيل إلى آخر وفقًا لأسس وراثية معينة ويكون التشابه تامًا في حالة التكاثر اللاجنسي لأن الأبناء ينتجون من فرد أبوي واحد، في حين يظهر أوجه تشابه واختلاف في حالة التكاثر الجنسي لأن الأبناء ينتجون من تزاوج فردين مختلفين.

المبادئ الأساسية للوراثة

الدرس

عناصر الدرس :

- مندل مؤسس علم الوراثة.
- تجارب مندل فى الوراثة :
  - دراسة وراثة زوج واحد من الصفات المتضادة.
  - دراسة وراثة زوجين من الصفات المتضادة.
- الصفات البشرية و الوراثة المندلية.
- التركيب الكيميائى للحمض النووى DNA.
- كيفية تحكم الجين فى إظهار صفته الوراثية.



أهم المفاهيم

الصفات الوراثية
الصفات المكتسبة
علم الوراثة
مبدأ السيادة التامة
الأمشاج
القانون الأول لمندل
الجين السائد
الجين المتنحى
الصفة السائدة
الصفة المتنحية
الفرد النقى
الفرد الهجين
القانون الثانى لمندل
الجينات

القصة الحياتية المتضمنة

المساواة بين الجنسين

أهداف الدرس

فى نهاية الدرس يجب أن يكون التلميذ قادرًا على أن :

١ يحدد الفرق بين الصفات المكتسبة و الصفات الوراثية.
٢ يفسر أسباب اختيار مندل لنبات البازلاء لإجراء تجاربه.
٣ يذكر قانونى مندل للوراثة.
٤ يقارن بين الصفات السائدة و الصفات المتنحية لنبات البازلاء.
٥ يفسر نتائج تجارب مندل فى ضوء الانقسام الميوزى.
٦ يذكر بعض الصفات السائدة و الصفات المتنحية فى الإنسان.
٧ يذكر التركيب الكيميائى للحمض النووى DNA
٨ يذكر كيفية تحكم الجين فى إظهار الصفة الوراثية المسئول عنها.
٩ يقدر جهود العالم مندل فى تأسيس علم الوراثة.
١٠ يقدر جهود العلماء فى اكتشاف الجينوم البشرى.

لاحظ الإنسان منذ آلاف السنين أن هناك :

صفات يرثها الأبناء من الآباء، وقد أطلق عليها العلماء اسم الصفات الوراثية

صفات لا يرثها الأبناء من الآباء، وإنما تنشأ نتيجة الخبرة التى يكتسبها الفرد من البيئة التى يعيش فيها وقد أطلق عليها العلماء اسم الصفات المكتسبة

الصفات الوراثية

الصفات الوراثية

الصفات التى تنتقل من جيل إلى آخر.

الصفات المكتسبة

الصفات المكتسبة

الصفات غير القابلة للانتقال من جيل إلى آخر.

أمثلة

- لون الجلد.
- فصيلة الدم.
- لون الشعر.
- عدد الأصابع.
- مهارة لعب كرة القدم.
- التحدُّث باللغات المختلفة.
- تعلم المشى لدى الأطفال.

توارث صفتى نعومة الشعر و العيون الضيقة

اكتساب صفة تعلم المشى

علل ؟

تعلم المشى لدى الأطفال لا يعتبر صفة وراثية.

لأنها صفة لا يرثها الأبناء من الآباء وإنما تنشأ نتيجة الخبرة التى يكتسبها الفرد من البيئة التى يعيش فيها.

• ويسمى العلم الذى يدرس الصفات الوراثية فى الكائنات الحية والقوانين التى تحكم كيفية انتقالها من جيل إلى آخر بعلم الوراثة.

علم الوراثة

العلم الذى يفسر أوجه التشابه والاختلاف فى الصفات الوراثية بين أفراد النوع الواحد من خلال دراسة كيفية انتقالها من جيل إلى آخر.

★ نقاط هامة سبق دراستها فى العام الماضى :

الزهرة الثنائى	الزهرة التى تحمل أعضاء التذكير و التأنيث معًا	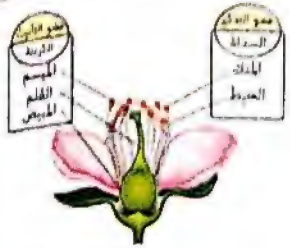
التلقيح الذاتى	عملية انتقال حبوب اللقاح من متوك زهرة إلى مياسم نفس الزهرة أو زهرة أخرى على نفس النبات	
التلقيح الخلطى	عملية انتقال حبوب اللقاح من متوك زهرة إلى مياسم زهرة أخرى على نبات آخر من نفس النوع	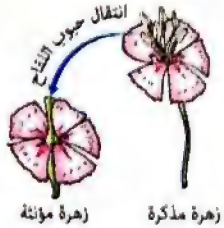

مندل مؤسس علم الوراثة

يعتبر العالم النمساوى « جريجور مندل » مؤسس علم الوراثة ... علل ؟

• لأن الدراسة العلمية للوراثة بدأت مع تجارب مندل على نبات البازلاء (بسلة الخضر). وبناءً على النتائج التى توصل إليها، تجمع لدى علماء الوراثة الكثير من المعلومات عن كيفية انتقال الصفات الوراثية من جيل إلى آخر.

أسباب اختيار مندل لنبات البازلاء لإجراء تجاربه

١. **سهولة** زراعة النبات **و سرعة** نموه
٢. **قصر دورة حياة النبات** (وهو ما مكنه من الحصول على نتائج سريعة لتجاربه)
٣. **أزهار النبات خنثى، وبالتالى يمكن تلقيحها ذاتيًا**
٤. **سهولة تلقيحه صناعيًا** (بواسطة الإنسان)
٥. **إنتاج النبات لأعداد كبيرة** من الأفراد فى الجيل الواحد
٦. **تعدد أصناف النبات التى تحمل أزواج من الصفات المتضادة (المتقابلة)، والتى يسهل تمييزها بالعين المجردة**

علل : كان اختيار مندل لنبات البازلاء لإجراء تجاربه، اختيارًا موفقًا.

للاطلاع فقط

استخدم مندل حوالى ٢٤ ألف نبتة بازلاء فى تجاربه التى استغرقت حوالى ٨ سنوات

★ بالرغم من تعدد الصفات المتضادة فى نبات البازلاء إلا أن مندل اختار منها سبع صفات للإجراء تجاربه، والتى يوضحها الشكل التالى :



تجارب مندل فى الوراثة

أولًا دراسة وراثة زوج واحد من الصفات المتضادة

* كان مندل أول من تتبع دراسة توارث أزواج الصفات الوراثية المتضادة – كلٍ على حدى – متبعًا المنهج العلمى فى البحث والتجريب، وفيما يلى توضح إحدى تجاربه :

تجربة مندل لتتبع صفة لون البذور فى نبات البازلاء

١ اتفق مندل عددًا من نباتات البازلاء بعضها ينتج بذور خضراء والبعض الآخر ينتج بذور صفراء ثم ترك أزهار هذه النباتات تلقح ذاتيًا لعدة أجيال ... علل ؟ للتأكد من نقاء صفة لون البذور.

لاحظ مندل أن

النباتات ذات البذور الصفراء تنتج نباتات بذورها صفراء – جيل بعد جيل – وكذلك النباتات ذات البذور الخضراء تنتج نباتات بذورها خضراء.

لذا استنتج أن

صفة لون البذور نقية فى النباتات التى قام بزراعتها.

٢ زرع مندل البذور (الصفراء النقية و الخضراء النقية)، وعندما أعطت نباتات – أسماها الآباء – انتزع أسدية بعض أزهارها قبل نضج متوكها ... علل ؟ لمنع حدوث التلقيح الذاتى فى هذه الأزهار.

٣ • أجرى عملية تلقيح خلطى عن طريق :

• نقل حبوب لقاح من متوك أزهار النباتات التى تنتج البذور الخضراء إلى مياسم أزهار النباتات التى نزعت أسديتها والتى تنتج البذور الصفراء.

• نقل حبوب لقاح من متوك أزهار النباتات التى تنتج البذور الصفراء إلى مياسم أزهار النباتات التى نزعت أسديتها والتى تنتج البذور الخضراء.

• ثم غطى مياسم الأزهار بعد تلقيحها ... علل ؟

لمنع حدوث التلقيح الخلطى لها مرة أخرى.

• ثم زرع البذور الناتجة عنها.

الجيل الأول

٪١٠٠ بذور صفراء

لاحظ مندل أن

• النباتات الناتجة والتى أسماها الجيل الأول جميعها ذات بذور صفراء (بنسبة ١٠٠٪).

• صفة اللون الأخضر للبذور اختفت تمامًا فى أفراد الجيل الأول.

فأطلق مندل على

• صفة اللون الأصفر للبذور صفة سائدة ... علل ؟

لأنها تسود (تغلب) على صفة اللون الأخضر وتظهر فى الجيل الأول بنسبة ١٠٠٪

• صفة اللون الأخضر للبذور صفة متنحية ... علل ؟

لأنها اختفت تمامًا فى أفراد الجيل الأول.

٤ ترك مندل نباتات الجيل الأول تتلقح ذاتيًا، ثم زرع البذور الناتجة عنها.

التلقيح الذاتى فى نبات البازلاء

لاحظ مندل أن

• النباتات الناتجة والتى أسماها الجيل الثانى :

- ثلاث أرباعها بذورها صفراء (٧٥٪).
- ربعها بذورها خضراء (٢٥٪).

أى أن نسبة النباتات ذات البذور (الصفراء : الخضراء) هى (٣ : ١) على الترتيب.

• صفة اللون الأخضر للبذور التى اختفت فى الجيل الأول ظهرت فى الجيل الثانى.

نباتات الجيل الثانى

٧٥٪ بذور صفراء : ٢٥٪ بذور خضراء

٣ : ١

ويمكن إجمال تجربة مندل لدراسة توارث صفة لون البذور فى نبات البازلاء فى الشكل التالى :

مبدأ السيادة التامة

عندما كرر مندل تجربته السابقة على باقى الصفات السبع الأخرى لنبات البازلاء، كانت النتائج مماثلة لتلك التى حصل عليها من تجربته على صفة لون البذور.

وأطلق على سيادة الصفة السائدة على الصفة المتنحية فى أفراد الجيل الأول، مصطلح مبدأ السيادة التامة.

مبدأ السيادة التامة

ظهور الصفة السائدة فى أفراد الجيل الأول الناتج عن تزاوج فردين يحمل كلًا منهما صفة وراثية نقية مضادة للصفة التى يحملها الفرد الآخر.

علل ؟

عند تزاوج نبات بازلاء بذوره صفراء مع نبات بازلاء بذوره خضراء، تنتج نباتات جميعها بذورها صفراء.

لأن صفة اللون الأصفر للبذور تسود على صفة اللون الأخضر للبذور، تبعًا لمبدأ السيادة التامة.

• والجدول التالى يوضح الصفات السائدة و الصفات المتنحية لنبات البازلاء التى قام مندل بدراستها.

الصفة	الصفة السائدة	الصفة المتنحية
لون الزهرة	أحمر	أبيض
وضع الزهرة	جانبى	طرفى
لون البذرة	أصفر	أخضر
شكل البذرة	أملس	مجعد
طول الساق	طويل	قصير
لون القرن	أخضر	أصفر
شكل القرن	منتفخ	محزز

موقع التفوق

فروض مندل لتفسير نتائج تجاربه

وضع مندل عدة فروض لتفسير النتائج التى توصل إليها خلال تجاربه على نبات البازلاء، كالتالى :

الفروض	تطبيق على صفة لون بذور البازلاء
تنتقل الصفات الوراثية من **الآباء إلى الأبناء** عن طريق عوامل وراثية (تعرف حاليًا بالجينات) تحملها **الأمشاج**.	تنتقل صفة لون بذور نبات البازلاء من جيل إلى آخر عن طريق عوامل وراثية تحملها الأمشاج (حبوب اللقاح والبويضات).
يتحكم فى كل صفة وراثية **عاملان وراثيان** أحدهما من الأب **و الآخر** من الأم.	يتحكم فى صفة لون البذور عاملان وراثيان أحدهما يحدد اللون الأصفر والآخر يحدد اللون الأخضر.
ينعزل (ينفصل) العاملان الوراثيان لكل صفة **عند تكوين الأمشاج** بحيث يحمل كل مشيج عامل واحد فقط من هذين العاملين.	ينعزل عاملى لون البذور عند تكوين الأمشاج بحيث يحمل كل مشيج (حبة اللقاح أو البويضة) عامل واحد فقط من هذين العاملين.
أثناء **عملية الإخصاب** يجتمع العاملان الوراثيان مرة أخرى، **وإذا كان العاملان** :	
• **متشابهان** : فإن الصفة الناتجة (**السائدة** أو المتنحية) تكون **نقية**، ويسمى الفرد الذى يحمل هذه الصفة **بالفرد النقى**.	* عند اجتماع :
عامل سائد + عامل سائد ⟸ صفة سائدة نقية	• عامل اللون الأصفر للبذور (السائد) مع عامل اللون الأصفر للبذور (السائد) تنتج نباتات بذورها صفراء نقية.
عامل متنحى + عامل متنحى ⟸ صفة متنحية نقية	• عامل اللون الأخضر للبذور (المتنحى) مع عامل اللون الأخضر للبذور (المتنحى) تنتج نباتات بذورها خضراء نقية.
• **غير متشابهان** : فإن الصفة الناتجة (السائدة) تكون **غير نقية**، ويسمى الفرد الذى يحمل هذه الصفة **بالفرد الهجين**.	* عند اجتماع عامل اللون الأصفر للبذور (السائد) مع عامل اللون الأخضر للبذور (المتنحى)، تنتج نباتات بذورها صفراء غير نقية، نتيجة لسيادة عامل اللون الأصفر للبذور على عامل اللون الأخضر للبذور.
عامل سائد + عامل متنحى ⟸ صفة سائدة غير نقية	

الأمشاج

الخلايا التي يتم بواسطتها انتقال العوامل الوراثية من الآباء إلى الأبناء.

لخص مندل فروضه السابقة في قانونه الأول والذي يعرف باسم **قانون انعزال العوامل** ... علل؟
لانعزال عاملي الصفة عن بعضهما عند تكوين الأمشاج (الجاميتات).

ملحوظة !

انعزال العوامل يحدث أثناء **تكوين الأمشاج** في عملية الانقسام الميوزي (الاختزالي)

القانون الأول لمندل (قانون انعزال العوامل)

إذا اختلف فردان نقيان في زوج من صفاتهما المتضادة (المتقابلة)، فإنهما ينتجان عند تزاوجهما جيلاً به صفة أحد الفردين فقط (الصفة السائدة)، ثم تورث الصفتان معًا في الجيل الثاني بنسبة ٣ (صفة سائدة) : ١ (صفة متنحية).

معلومة إضافية

- **استخدم العالم الدنماركي جوهانسن مصطلح الجين** بدلاً من العامل الوراثي، **كما أنه أطلق مصطلح**
  - التركيب الجيني على الجينات المكونة للصفة الوراثية في الكائن الحي.
  - المظهر الخارجي على الشكل الخارجي الذي تظهر به الصفة في الكائن الحي.

في ضوء ما سبق يمكن استنتاج الآتي :

ماذا يحدث عند ؟

تواجد جين سائد لأحد الصفات مع جين متنحي لنفس الصفة.
يسود الجين السائد على الجين المتنحي فتظهر الصفة السائدة.

قارن بين ؟ الصفة السائدة و الصفة المتنحية.

	الصفة السائدة	الصفة المتنحية
التعريف	الصفة التي تظهر عند اجتماع جينين متماثلين للصفة السائدة أو جين للصفة السائدة مع جين للصفة المتنحية	الصفة التي لا تظهر إلا عند اجتماع جينين متماثلين للصفة المتنحية
مثال	صفة اللون الأصفر لبذور البازلاء	صفة اللون الأخضر لبذور البازلاء
نسبة الظهور تبعًا لقانون الأول لمندل	تظهر في الجيل الأول بنسبة ١٠٠٪ وفي الجيل الثاني بنسبة ٧٥٪	لا تظهر في الجيل الأول وتظهر في الجيل الثاني بنسبة ٢٥٪
نقاء الصفة	قد تكون نقية أو غير نقية	تكون نقية دائمًا

وبناء على ذلك يمكن تعريف الفرد النقي و الفرد الهجين، كالتالي :

الفرد النقي

الفرد الذي يحمل عاملين متماثلين للصفة السائدة أو للصفة المتنحية فتظهر عليه الصفة السائدة (نقية) أو الصفة المتنحية.

الفرد الهجين

الفرد الذي يحمل عاملين مختلفين أحدهما للصفة السائدة والآخر للصفة المتنحية فتظهر عليه الصفة السائدة (غير نقية).

التعبير عن تجارب الوراثة باستخدام الرموز

◄ لتسهيل عملية دراسة انتقال الصفات الوراثية من جيل إلى آخر ،

• يتم استخدام الرموز والمصطلحات الآتية :

المصطلح	الفرد المذكر	التزاوج	الفرد المؤنث	الآباء	الأمشاج (الجاميتات)	الجيل الأول	الجيل الثاني
الرمز	♂	×	♀	P	G	F_1	F_2

• يرمز لعامل الصفة الوراثية النقية بحرفين متماثلين بمثلا - غالبًا - الحرف الأول من اسم الصفة السائدة باللغة الإنجليزية. على أن يعبر عن :

• عامل (جين) الصفة السائدة بحرف كبير Capital

• عامل (جين) الصفة المتنحية بحرف صغير Small

• يرمز للفرد الذي يحمل :

• صفة سائدة نقية بحرفين كبيرين .

• صفة متنحية بحرفين صغيرين .

• صفة سائدة غير نقية بحرفين أحدهما كبير و الآخر صغير .

(عند مراعاة أن الحرف الكبير يكتب دائمًا قبل الصغير).

تطبيق

• للتعبير بالرموز عن صفة طول الساق (Tall) في نبات البازلاء يعبر عن :

• عامل صفة طول الساق بالحرف T

• عامل صفة قصر الساق بالحرف t

• يرمز للنبات الذي يحمل :

• صفة طول الساق نقية بالحرفين TT

• صفة قصر الساق بالحرفين tt

• صفة طول الساق غير نقية بالحرفين Tt

أداء ذاتي

إذا علمت أن الرمز الجيني لصفة :

• طول الساق T • الأزهار البيضاء r • القرون الصفراء g • البذور الملساء R

أكمل الجدول التالي :

النبات	أصفر القرون	أزهاره حمراء نقية	بذوره ملساء هجينة	أزهاره بيضاء			طويل الساق هجين	بذوره مجعدة
التركيب الجيني					rr	GG		

مثال توضيحي

وضح على أسس وراثية ناتج تزاوج نباتي بازلاء أحدهما بذوره صفراء ملساء والآخر بذوره خضراء مع ذكر النسبة بين الأفراد الناتجة حتى الجيل الثاني.

◄ الحل :

أولاً: الجيل الأول: يتم اتباع الخطوات التالية :

خطوات فكرة الحل	الحل
• يتم تحديد التركيب الجيني لكل من الفردين الأبويين : ∴ الفردين كلاهما نقي وعامل (جين) اللون الأصفر للبذور (Yellow) سائد على عامل (جين) اللون الأخضر للبذور. ∴ نرمز للنبات ذو البذور الصفراء بالرمز (YY) والنبات ذو البذور الخضراء بالرمز (yy). • يوضح بين التركيب الجيني لكل من الفردين الأبويين علامة التزاوج (×).	① الآباء (P) نبات بازلاء بذوره خضراء (نقي) yy × نبات بازلاء بذوره صفراء (نقي) YY
يلعزل عاملي كل صفة عند تكوين الأمشاج	② الأمشاج (G) y y y y Y Y Y Y
يجتمع عاملي كل صفة مرة أخرى عند حدوث عملية الإخصاب لتكوين أفراد الجيل الأول	③ الجيل الأول (F_1) Yy Yy Yy Yy
يتم تحديد النسبة بين الأفراد الناتجة حيث يمثل كل فرد ٢٥ ٪ من الجيل	④ النسبة بين الأفراد الناتجة النسبة: ١ / نباتات بازلاء بذورها صفراء (هجينة)

ثانيًا : الجيل الثانى، يتم اتباع نفس خطوات الجيل الأول.

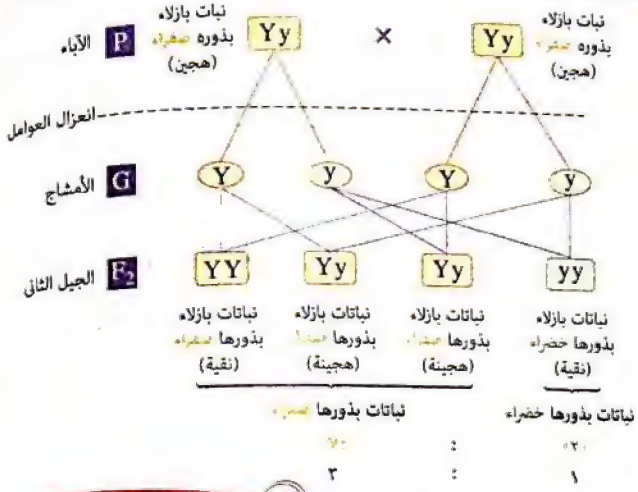

النسبة	٣ :	٧٥٪	٢٥٪
	٣ :	٧٥	١

* **ويمكن التعبير عن حل المثال السابق بطريقة أخرى تعرف بمربع بانيت، كالتالى :**

- الجيل الأول

	Y	Y
y	Yy	Yy
y	Yy	Yy

١٠٠٪ نباتات بازلاء بذورها صفراء هجينة

- الجيل الثانى

	Y	y
Y	YY	Yy
y	Yy	yy

٧٥٪ نباتات بازلاء بذورها صفراء : ٢٥٪ نباتات بازلاء بذورها خضراء

(٣ : ١)

إرشادات لكيفية رسم مربع بانيت

١ حدد التركيب الجينى للفردين الأبوين.
YY : نبات بذوره صفراء نقى.
yy : نبات بذوره خضراء.

٢ ضع أمشاج الآباء على مربع بانيت.



٣ اكتب فى كل مربع صغير مشيج من أعلى وآخر من اليسار.

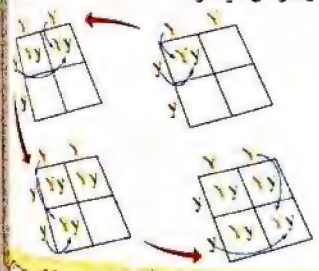

إرشاد لحل المسائل

إذا حدث تزاوج بين فردين ونتج عن تزاوجهما أفراد جميعها هجينة (تحمل الصفة السائدة غير نقية)،

فهذا يعنى أن :

أحد الآباء يحمل **الصفة السائدة نقية والآخر** يحمل **الصفة المتنحية** المقابلة لها

أداء ذاتى

عند تلقيح نباتى بازلاء مع بعضهما، نتجت نباتات جميعها طويلة الساق هجينة، فسر ذلك على أسس وراثية.

الحل :

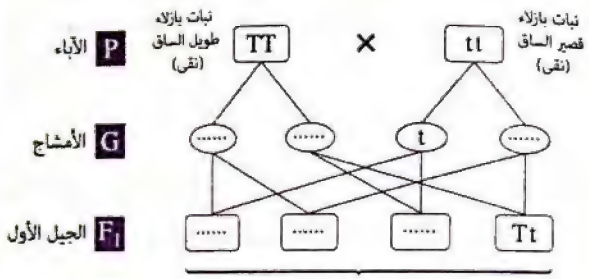

إرشاد لحل المسائل

إذا حدث تزاوج بين فردين ونتج عن تزاوجهما أفراد بنسبة ٥٠٪ تحمل الصفة السائدة : ٥٠٪ تحمل الصفة المتنحية أى بنسبة ١ : ١

فهذا يعنى أن :

أحد الآباء هجين (يحمل الصفة السائدة غير نقية) و الآخر يحمل **الصفة المتنحية** المقابلة لها

مثال ❶

عند تزاوج نباتى بازلاء أحدهما أحمر الأزهار والآخر أبيض الأزهار، نتجت أفراد بنسبة ٥٠٪ حمراء الأزهار : ٥٠٪ بيضاء الأزهار، **وضح على أسس وراثية** التركيب الجينى لكل من الآباء والأفراد الناتجة، **علمًا بأنه** يرمز للجين السائد بالرمز (R) وللجين المتنحى بالرمز (r).

الحل :

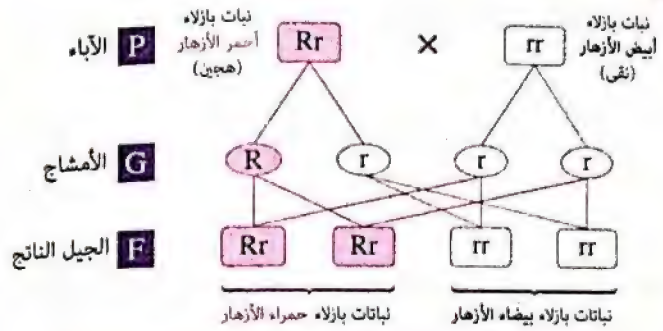

أداء ذاتى

إذا تزاوج فأر أسود اللون هجين (Bb) مع أنثى بنية (bb)، **اذكر الطرز المظهرى** (المظهر الخارجى) والتركيب الجينى **ونسبة** الأفراد الناتجة فى الجيل الأول.

الحل :

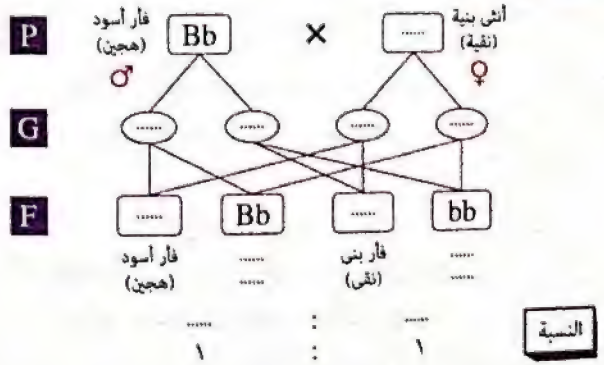

إشارة لحل المشاكل

إذا حدث تزاوج بين فردين تظهر عليهما الصفة السائدة ونتج عن تزاوجهما بعض أفراد تحمل الصفة المتنحية،

فهذا يعنى أن :

كلا الأبوين هجين (يحمل الصفة السائدة غير نقية)

مثال ❷

تم التزاوج فى ذبابة الفاكهة بين ذكر وأنثى كلاهما طويل الجناح وكان الناتج ٢٧ فردًا طويل الجناح و ٩ أفراد قصيرة الجناح، **وضح ذلك على أسس وراثية، علمًا بأنه** يرمز لجين صفة طول الجناح بالرمز (T) ولجين صفة قصر الجناح بالرمز (t).

الحل :

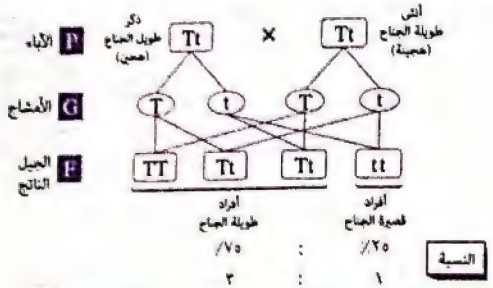

∴ النسبة الناتجة ٢٧ : ٩

أى ٣ : ١

∴ الآباء هجينة.

أداء ذاتى

عند حدوث تلقيح ذاتى لنبات بازلاء قرونه خضراء نتجت نباتات بعضها قرونه خضراء والبعض الآخر قرونه صفراء، **استخدم الرموز فى التعبير عن هذا التزاوج، مع ذكر** نسب الأفراد الناتجة.

الحل :

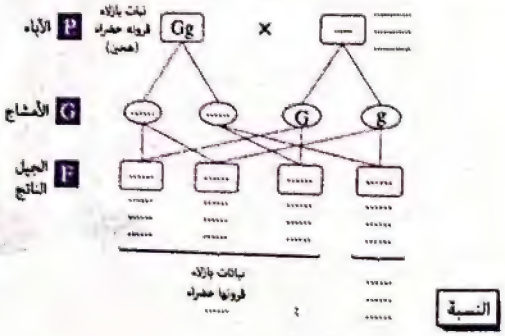

* المخطط التالى يوضح نواتج احتمالات حدوث تزاوج بين بعض الأفراد، علمًا بأنه يرمز لجين الصفة السائدة بالرمز A :

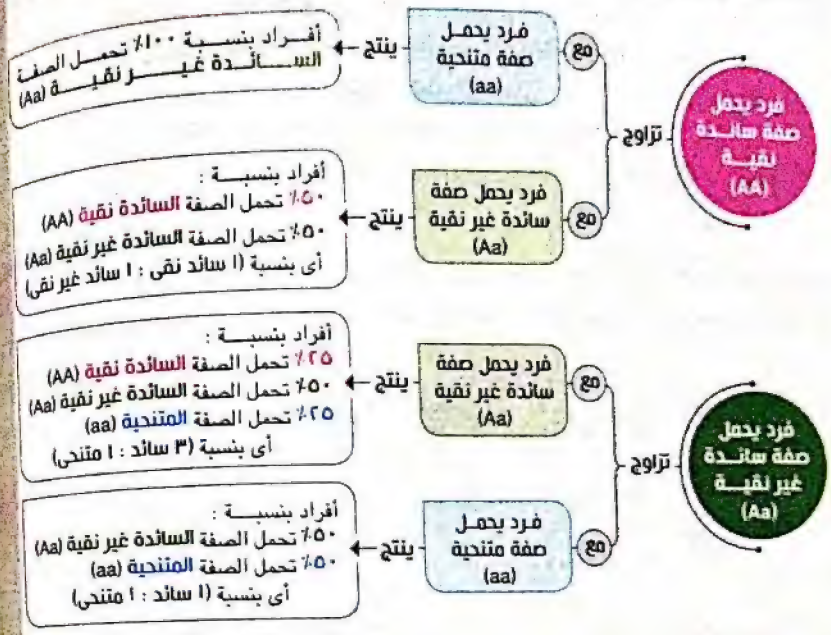

تدريب 1

انظر كراسة الواجب

القانون الأول لمندل

اختبر فهمك

أكمل العبارات الآتية بما يناسبها :

(١) يعتبر العالم ..... مؤسس علم الوراثة، حيث أن الدراسة العلمية للوراثة بدأت مع تجاربه على نبات ..... (قنا ١٣)

(٢) انتزع مندل أسدية بعض الأزهار أثناء تجاربه لمنع حدوث ..... . بينما غطى مياسم الأزهار لمنع حدوث ..... مرة أخرى. (الشرقية ١٩)

اختر الإجابة الصحيحة :

كل مما يأتى من أسباب اختيار مندل لنبات البسلة لإجراء تجاربه عليه، عدا .....

(أ) سهولة تلقيح النبات صناعيًا. (ب) قصر دورة حياة النبات.

(ج) كبر حجم النبات. (د) أزهار النبات خنثى. (الإسكندرية ٢١)

اكتب المصطلح العلمى الدال على كل عبارة من العبارات الآتية :

(١) الجين الذى تختفى صفته عند وجوده مع الجين المقابل له. (.....)

(٢) الفرد الذى يحمل عاملين وراثيين أحدهما للصفة السائدة والآخر للصفة المتنحية. (المنوفية ٢١) (.....)

ما المقصود بمبدأ السيادة التامة ؟ مع ذكر مثال. (البحر الأحمر ١٦)

.....

.....

.....

ماذا يحدث إذا تم التزاوج بين فردين أحدهما يحمل صفة سائدة غير نقية والآخر يحمل صفة متنحية مقابلة لها ؟

.....

.....

٦ قارن بين الصفات الوراثية و الصفات المكتسبة، مع ذكر مثال لكل منهما.

* .....

* .....

٧ أكمل المخطط التالى :

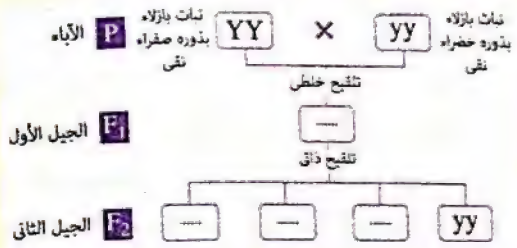

٨ وضح على أسس وراثية صفات الجيل الناتج عن التلقيح الذاتى فى نباتى بازلاء كلاهما أحمر الأزهار هجين، موضحًا التركيب الجينى لكل من الآباء والأفراد الناتجة.

ثانيًا دراسة وراثة زوجين من الصفات المتضادة

تابع مندل تجاربه على نبات البازلاء، بدراسة توارث زوجين من الصفات المتضادة، كالتالى :

أجرى مندل عملية تلقيح خلطى بين نباتى بازلاء :

- الأول : طويل الساق أحمر الأزهار نقى (الصفتين سائدتين نقيتين).
- الثانى : قصير الساق أبيض الأزهار نقى (الصفتين متنحيتين)، ثم زرع البذور الناتجة.

نبات طويل الساق أحمر الأزهار — نبات قصير الساق أبيض الأزهار

لاحظ مندل أن

النباتات الناتجة (أفراد الجيل الأول) جميعها طويلة الساق حمراء الأزهار (هجينة) (تحمل الصفة السائدة) بنسبة ١٠٠٪

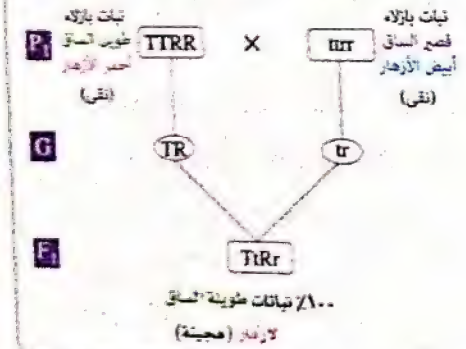

الأمشاج الناتجة هى :

TR TR tr tr

وتم الاكتفاء بـ : TR tr

لعدم التكرار

٢ **ترك** مندل نباتات الجيل الأول **تتلقح ذاتيًا، ثم زرع** البذور الناتجة.

لاحظ مندل أن

- **نباتات الجيل الثانى** مختلفة الصفات، كما يوضحها مربع بانيت التالى :

P_2 نبات بازلاء طويل الساق أحمر الأزهار (هجين) TtRr × TtRr نبات بازلاء طويل الساق أحمر الأزهار (هجين)

G: TR، Tr، tR، tr

F_2

	TR	Tr	tR	tr
TR	TTRR طويل الساق أحمر الأزهار	TTRr طويل الساق أحمر الأزهار	TtRR طويل الساق أحمر الأزهار	TtRr طويل الساق أحمر الأزهار
Tr	TTRr طويل الساق أحمر الأزهار	TTrr طويل الساق أبيض الأزهار	TtRr طويل الساق أحمر الأزهار	Ttrr طويل الساق أبيض الأزهار
tR	TtRR طويل الساق أحمر الأزهار	TtRr طويل الساق أحمر الأزهار	ttRR قصير الساق أحمر الأزهار	ttRr قصير الساق أحمر الأزهار
tr	TtRr طويل الساق أحمر الأزهار	Ttrr طويل الساق أبيض الأزهار	ttRr قصير الساق أحمر الأزهار	ttrr قصير الساق أبيض الأزهار

- **عند تصنيف صفات الأفراد الناتجة :**

– تبعًا لزوجى الصفتين المتضادتين كانت النتائج، **كالتالى :**

صفات أفراد الجيل الثانى	نباتات بازلاء			
	طويلة الساق حمراء الأزهار	طويلة الساق بيضاء الأزهار	قصيرة الساق حمراء الأزهار	قصيرة الساق بيضاء الأزهار
النسبة	٩ :	٣ :	٣ :	١

– تبعًا لكل زوج من الصفات المتضادة كانت النتائج، **كالتالى :**

	صفة طول الساق		صفة لون الأزهار	
	نباتات طويلة الساق	نباتات قصيرة الساق	نباتات حمراء الأزهار	نباتات بيضاء الأزهار
نسبة	١٣ :	٤	١٣ :	٤
أى	٣	١	٣	١

من النتائج السابقة وغيرها استنتج مندل أن توارث صفة واحدة ليس له تأثير فى توارث صفة أخرى فوضع قانونه الثانى، والذى يعرف بقانون التوزيع الحر للعوامل.

القانون الثانى لمندل (قانون التوزيع الحر للعوامل)

إذا تزاوج فردان نقيان مختلفان فى زوجين (أو أكثر) من صفاتهما المتضادة (المتقابلة) فإن صفتا كل زوج منهما تورث مستقلة وتظهر فى الجيل الثانى بنسبة ٣ (صفة سائدة) : ١ (صفة متنحية).

مثال ٢

الشكل المقابل يوضح توارث صفتى شكل ولون البذور فى نبات البازلاء :

(١) أى الصفات سائد و أيها متنحى ؟

(٢) وضح التركيب الجينى لأمشاج أفراد الجيل الأول.

(٣) وضح صفات أفراد الجيل الأول والجيل الثانى، ونسبة كل منها.

P_1 نبات بازلاء بذوره مجعدة خضراء rryy × نبات بازلاء بذوره ملساء صفراء RRYY

F_1 RrYy

P_2 RrYy × RrYy

G: RY، Ry، rY، ry

F_2

	RY	Ry	rY	ry
RY	RRYY	RRYy	RrYY	RrYy
Ry	RRYy	RRyy	RrYy	Rryy
rY	RrYY	RrYy	rrYY	rrYy
ry	RrYy	Rryy	rrYy	rryy

الحل :

(١) • **الصفات السائدة :**
- شكل البذور الأملس.
- لون البذور الأصفر.

• **الصفات المتنحية :**
- شكل البذور المجعد.
- لون البذور الأخضر.

(٢) **التركيب الجينى لأمشاج أفراد الجيل الأول :** RY ، Ry ، rY ، ry

(٣) **صفات أفراد الجيل الأول :**

نباتات بازلاء بذورها ملساء صفراء (هجينة) بنسبة ١٠٠٪

صفات أفراد الجيل الثانى	نباتات بازلاء بذورها			
	ملساء صفراء	مجعدة صفراء	ملساء خضراء	مجعدة خضراء
النسبة	٩ :	٣ :	٣ :	١

مثال ④ وضح على أسس وراثية ناتج التلقيح الخلطى لنبات بازلاء قرونه خضراء وبذوره صفراء GGYY مع نبات بازلاء قرونه صفراء وبذوره خضراء ggyy موضحًا : الآباء - الأمشاج - الجيل الأول - الجيل الثانى - نسبة الأفراد الناتجة.

◀ **الحل :**

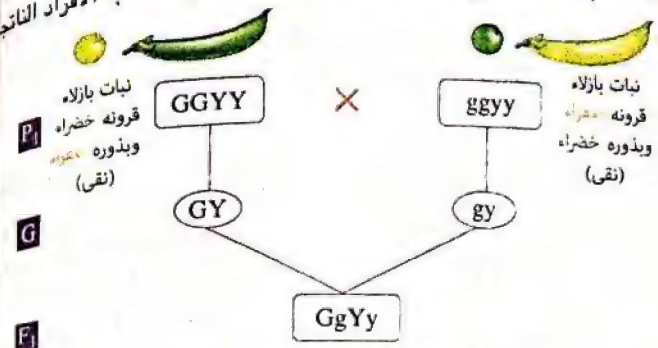

١٠٠٪ نباتات بازلاء قرونها خضراء وبذورها صفراء (هجينة)

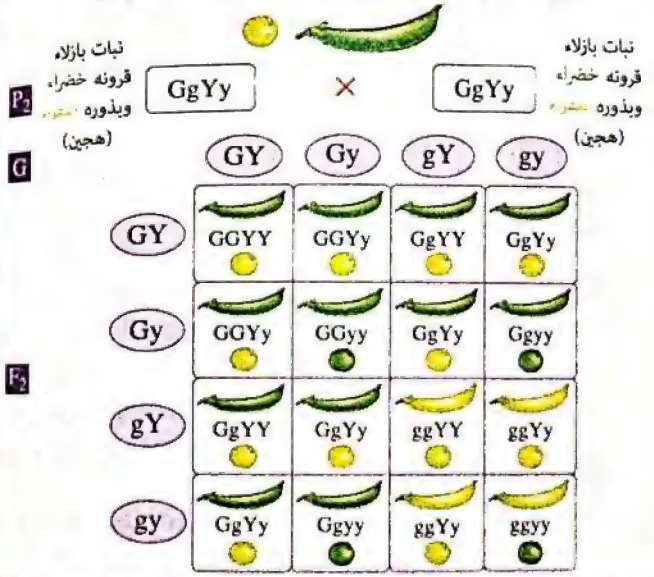

صفات أفراد الجيل الثانى	نباتات بازلاء			
	قرونها خضراء بذورها صفراء	قرونها خضراء بذورها خضراء	قرونها صفراء بذورها صفراء	قرونها صفراء بذورها خضراء
النسبة	٩ :	٣ :	٣ :	١

أداء ذاتى

وضح على أسس وراثية ناتج التلقيح الذاتى لنبات بازلاء طويل الساق أخضر القرون هجين، موضحًا : الآباء - الأمشاج - الجيل الناتج - نسبة الأفراد الناتجة.

◀ **الحل :**

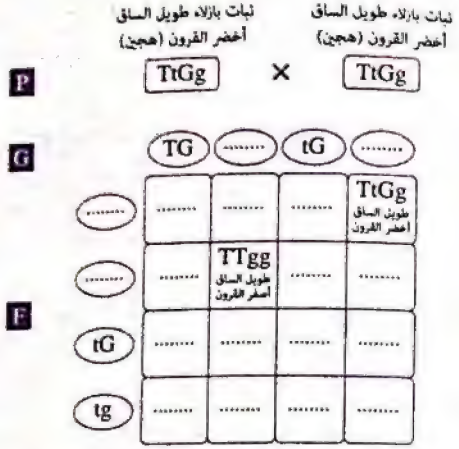

صفات أفراد الجيل الناتج	نباتات بازلاء			
	طويلة الساق خضراء القرون	.....	.....	.....
النسبة	..... :	..... :	..... :	٣ : ١

أداء ذاتى

أكمل المخطط التالى، ثم استنتج المظهر الخارجى للأفراد الناتجة :

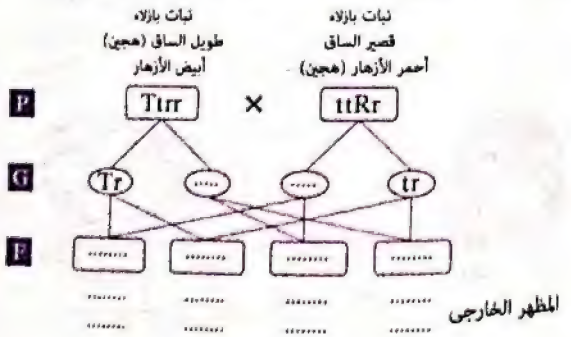

الصفات البشرية و الوراثة المندلية

دلت نتائج العديد من التجارب التى أجريت فى مطلع القرن الماضى على أن قوانين مندل تنطبق على العديد من الصفات الوراثية فى الإنسان، حيث يتحكم فى كل صفة زوج واحد من الجينات،

فإذا حصل الفرد على :

- جين سائد واحد على الأقل من أحد الأبوين، تظهر عليه الصفة السائدة.
- جين متنحى من كلا الأبوين، تظهر عليه الصفة المتنحية.

معلومة إضافية

هناك صفات لا تتبع قوانين مندل بشكل كامل اتفق على تسميتها بالوراثة اللامندلية

الجدول التالى يوضح بعض الصفات البشرية التى تخضع لمبدأ السيادة التامة :

الصفة	الصفة السائدة	الصفة المتنحية
١ الالتفاف الأنبوبى للسان	 القدرة على لف اللسان	 عدم القدرة على لف اللسان
٢ شحمة الأذن	 شحمة الأذن المنفصلة	 شحمة الأذن الملتحمة (المتصلة)
٣ مظهر الشعر	 الشعر المجعد	 الشعر الناعم

٤ لون الشعر	 الشعر الأسود	 الشعر الفاتح
٥ حجم العيون	 العيون الواسعة	 العيون الضيقة
٦ لون العيون	 العيون البنية	 العيون الملونة (أزرق ، أخضر ، رمادى)
٧ غمازات الوجه	 وجود الغمازات	 عدم وجود الغمازات
٨ نمش الوجه	 عدم وجود النمش	 وجود النمش

علل ؟

القدرة على لف اللسان من الصفات السائدة فى الإنسان.

لأن جين القدرة على لف اللسان يسود على جين عدم القدرة على لف اللسان فى حالة وجودهما معًا فى الإنسان تبعًا لمبدأ السيادة التامة.

مثال ٥

استنتج على أسس وراثية صفات الأبناء الناتجين من تزاوج رجل مجعد الشعر Hh بامرأة ناعمة الشعر، موضحًا التركيب الجينى لكل منهم.

◀ **الحل :**

∵ الشعر الناعم صفة متنحية.

∴ التركيب الجينى للفرد ذو الشعر الناعم hh

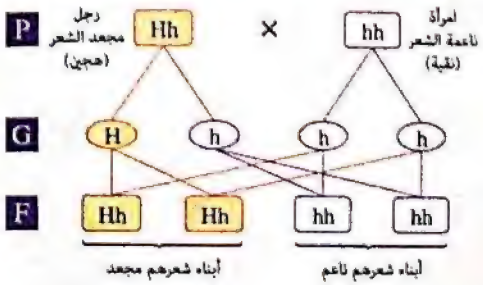

التركيب الكيميائى للحمض النووى DNA

معلومات سبق دراستها فى الفصل الدراسى السابق :

- نواة كل خلية تحتوى على كروموسومات (صبغيات).
- الكروموسوم يتركب كيميائيًا من حمض نووى يسمى DNA مرتبط مع بروتين.
- الحمض النووى DNA يحمل المعلومات الوراثية للكائن الحى.

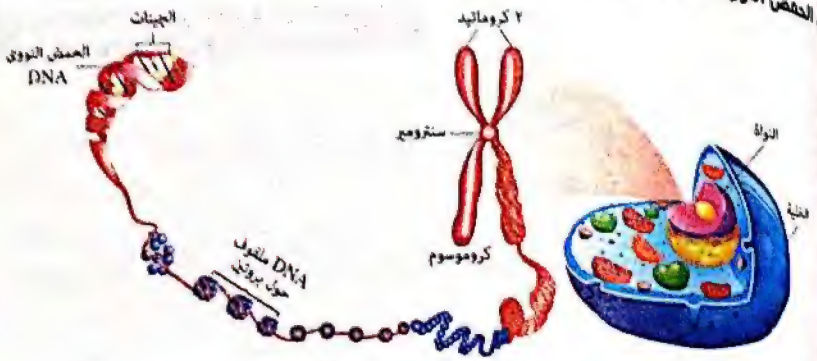

توجد الكروموسومات داخل نواة الخلية

- **وقد توصل العلماء إلى أن** الحمض النووى DNA يتكون من أجزاء صغيرة تسمى **الجينات**، وهى تتكون من وحدات بنائية أصغر تسمى **النيوكليوتيدات**، لذا تعتبر النيوكليوتيدة وحدة بناء الحمض النووى.

الجينات

أجزاء من الحمض النووى DNA موجودة بالكروموسومات ومسئولة عن إظهار الصفات الوراثية للكائن الحى.

؟ اذكر أهمية الجينات.

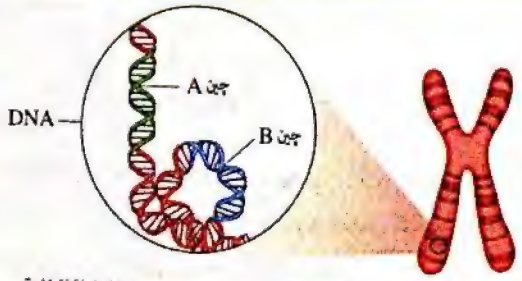

الجينات أجزاء من DNA موجودة بالكروموسوم داخل نواة الخلية

• ويمكن تلخيص ما سبق فى المخطط التالى :

نموذج واطسون و كريك لتركيب DNA

توصل العالمان واطسون و كريك إلى وضع نموذج لجزىء DNA يتركب من شريطين ملتفين حول بعضهما فيما يشبه الحلزون المزدوج.

كيفية أداء الجين لوظيفته

اكتشف العالمان الأمريكيان بيدل و تاتوم كيفية تحكم الجينات فى إظهار الصفات الوراثية المسئولة عنها (آلية عمل الجين) وقد استحقا عن ذلك جائزة نوبل عام ١٩٥٨م

وضح ؟

- آلية عمل الجين.
- كيف تتحكم الجينات فى إظهار الصفات الوراثية.
- كل جين يعطى إنزيمًا خاصًا يكون مسئولًا عن حدوث تفاعل كيميائى معين.
- كل تفاعل كيميائى ينتج بروتين يُظهر صفة وراثية محددة.

المخطط التالى يوضح آلية عمل الجين :

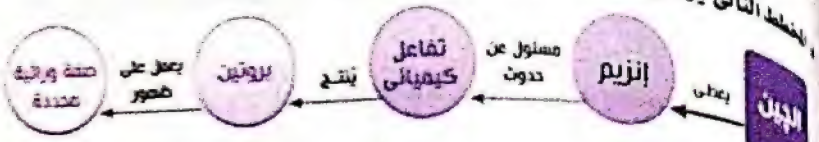

تطبيقات

① وراثة صفة لون العيون البنية «صفة سائدة»	② وراثة صفة لون الشعر الأسود «صفة سائدة»
عندما يرث شخص من أحد أبويه الجين المسئول عن ظهور :	
صفة لون العيون البنية	صفة لون الشعر الأسود
فإن هذا الجين يعطى الإنزيم يكون مسئولاً عن حدوث تفاعل كيميائى ينتج :	
بروتين يعمل على ظهور صفة لون العيون البنية	بروتين يعمل على ظهور صفة لون الشعر الأسود

العلم و التكنولوجيا و المجتمع

تطبيق تكنولوجى هندسة الجينات (التكنولوجيا الحيوية)

- تُعد هندسة الجينات أحد فروع علم الوراثة الحديثة، وأحد أهم تطبيقاتها فى المجال الزراعى الطبى إنتاج أرز معدل جينيًا لمكافحة الأمراض الناشئة عن سوء التغذية.

الأرز المعدل جينيًا

- يصاب فى الدول النامية (دول جنوب شرق آسيا) حوالى ٥٠٠,٠٠٠ شخص سنويًا بفقدان البصر ... **علل؟**

لسوء التغذية الناتج عن نقص فيتامين (أ) وهو أحد العناصر الغذائية المهمة.

- ينتشر نقص فيتامين (أ) بين اللذين يعتمدون على الأرز كغذاء رئيسى لهم ... **علل؟**

لأن الأرز لا يحتوى على مادة البروفيتامين (أ) المعروفة باسم الكاروتين والتى تتحول داخل الجسم إلى فيتامين (أ).

- وقد أمكن حل هذه المشكلة الصحية بإنتاج أرز معدل جينيًا يحتوى على مادة الكاروتين.

الأرز الذهبى معدل وراثيًا

ما الأساس العلمى؟

الذى يعتمد عليه إنتاج الأرز الذى يحتوى على مادة الكاروتين.

تعديل التركيب الوراثى لمحصول الأرز بإدخال الجينات التى تؤدى إلى تخليق هذه المادة داخل النسيج المخزن للنشا فى حبوب الأرز.

تطبيق حياتى مشروع الجينوم البشرى Human Genome Project

الجينوم البشرى: الخريطة الوراثية التى توضح المجموعة الكاملة للجينات الموجودة بالكروموسومات البشرية.

أهداف المشروع

بدأ مشروع الجينوم البشرى فى أكتوبر عام ١٩٩٠م بغرض الحصول على خريطة تفصيلية دقيقة جدًا لتتابع القواعد النيتروجينية للتمكن من :

1. تحديد جميع الموروثات (الجينات) البشرية والتعرف على وظائفها المختلفة.
2. التعرف على الجينات المختصة بالأمراض المختلفة، مثل :
   - الأمراض العقلية.
   - السرطان.
   - أمراض الأوعية الدموية.
   - السكر.
3. تحديد تأثير الطفرات المختلفة على عمل الجينات.
4. فهم بيولوجية الإنسان والتعرف على الاختلافات الفردية فى الجينوم البشرى بين شخص وآخر.

للاطلاع فقط

عند حدوث تغير فى القواعد النيتروجينية للنيوكليوتيدات المكونة للجين يحدث ما يسمى بالطفرة (تغير الصفة الوراثية التى يظهرها الجين)

أزواج الكروموسومات البشرية

نتائج المشروع

أظهر المشروع تشابه البشر فى أكثر من ٩٩٪ من DNA، وبالتالى فإن الاختلافات الفردية لدى البشر، مثل : لون العيون ولون الجلد والطول وغيرها من الصفات تشكل نسبة ضئيلة جدًا.

والرغم من ضآلة نسبة هذه الاختلافات، إلا إنها تؤثر بشكل كبير فى تقبل الفرد للمؤثرات البيئية الضارة، مثل : البكتيريا والفيروسات و السموم و الكيماويات والأدوية و العلاجات المختلفة.

تدريب 2

انظر كراسة الواجب

القانون الثانى لمندل إلى آلية عمل الجين

مراجعة شاملة على الدرس — انظر — مفكرة الامتحان

أولًا أسئلة الكتاب المدرسى مجاب عنها

١ اكتب المصطلح العلمى الدال على كل عبارة مما يأتى :

(١) علم يبحث فى دراسة انتقال الصفات الوراثية من جيل لآخر، وذلك بدراسة أوجه التشابه والاختلاف بين الآباء والأبناء.

(٢) الصفات القابلة للانتقال من جيل لآخر. (محافظة أسيوط ٢٠٢١)

(٣) الصفة التى تظهر فى جميع أفراد الجيل الأول فى تجارب مندل. (البحر الأحمر ٢١)

(٤) ظهور صفة وراثية فى أفراد الجيل الأول عند تزاوج فردين يحمل أحدهما صفة وراثية نقية مضادة للصفة التى يحملها الفرد الآخر. (القاهرة ٢١)

(٥) يتركب كيميائيًا من حمض نووى يسمى DNA مندمجًا مع بروتين. (أسوان ١٩)

(٦) أجزاء من DNA توجد بالكروموسومات وتتحكم فى الصفات الوراثية للفرد. (مطروح ٢١) (المنوفية ٢١)

٢ علل لما يأتى :

(١) اختيار مندل لنبات البازلاء لإجراء تجاربه. (كفر الشيخ ٢١)

(٢) عند تلقيح نبات بازلاء أصفر القرون مع نبات بازلاء أخضر القرون نقى، تنتج نباتات جميعها ذات قرون خضراء. (الشرقية ١٩)

(٣) القدرة على لف اللسان من الصفات السائدة فى الإنسان. (البحيرة ٢١)

٣ الشكل المقابل يوضح تلقيحًا خلطيًا بين نباتى بازلاء أحدهما قصير الساق والآخر طويل الساق نقى :

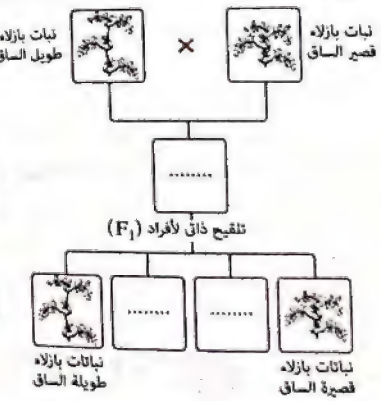

(١) حدد أفراد الجيل الأول. (الفيوم ١٨)

(٢) أكمل الناقص فى أفراد الجيل الثانى، وصفها. (الفيوم ١٨)

(٣) استخدم الرموز فى التعبير عن التجربة السابقة.

٤ عرف كل من :

(١) الجين. (أسيوط ١٨)

(٢) الكروموسوم. (البحيرة ٢١)

(٣) الصفة المتنحية.

٥ ضع علامة (✓) أو علامة (✗) أمام العبارات التالية، مع تصويب الخطأ إن وجد :

(١) الجينات أجزاء من DNA موجودة فى سيتوبلازم الخلية. (مطروح ١٨) ( )

(٢) عند تلقيح نبات بازلاء قصير الساق مع آخر طويل الساق هجين تنتج نباتات جميعها قصيرة الساق. (بورسعيد ٢١) ( )

(٣) من الصفات السائدة فى الإنسان شحمة الأذن المنفصلة. (جنوب سيناء ١٩) ( )

(٤) من الصفات المتنحية فى الإنسان وجود غمازات الوجه. ( )

ثانيًا أسئلة كتاب الامتحان مجاب عنها

تم الإشارة إلى أسئلة دليل تقويم الطالب بالعلامة

١ اختر الإجابة الصحيحة مما بين الإجابات المعطاة :

القانون الأول لمندل

(١) كل مما يأتى من صفات نبات البازلاء التى درسها مندل، عدا .....

(أ) لون البذور. (ب) شكل الأوراق. (ج) شكل القرون. (د) وضع الأزهار.

(٢) أزهار نبات البازلاء تلقح ..... (البحيرة ١١)

(أ) ذاتيًا. (ب) خلطيًا. (ج) صناعيًا. (د) جميع ما سبق.

(٣) ترك مندل نباتات البازلاء تتلقح ..... عدة مرات للتأكد من نقاء الصفة.

(أ) ذاتيًا (ب) خلطيًا (ج) صناعيًا (د) جميع ما سبق

(٤) قام مندل بتغطية ..... أزهار نبات البازلاء حتى لا يحدث تلقيح خلطى. (البحر الأحمر ٢١)

(أ) متوك (ب) مياسم (ج) سبلات (د) بتلات

(٥) عند تلقيح نبات بازلاء ينتج بذور صفراء لعدة أجيال مع آخر ينتج بذور خضراء لعدة أجيال تنتج ..... (بنى سويف ١٦)

(أ) نباتات بذورها خضراء. (ب) نباتات بذورها صفراء.

(ج) ٥٠٪ نباتات بذورها خضراء : ٥٠٪ نباتات بذورها صفراء.

(د) ٧٥٪ نباتات بذورها صفراء : ٢٥٪ نباتات بذورها خضراء.

(٦) عند تزاوج أبوين أحدهما يحمل صفة سائدة نقية والآخر يحمل الصفة المتنحية المقابلة لها تكون نسبة الأفراد التى تحمل الصفة المتنحية فى الجيل الأول .....

(أ) ٧٥٪ (ب) ٥٠٪

(جـ) ٢٥٪ (د) صفر

(٧) عند حدوث تلقيح بين نباتى بسلة كلاهما طويل الساق Tt ، فإن الأفراد الناتجة تكون .....

(أ) جميعها طويلة. (ب) جميعها متوسطة الطول.

(جـ) نبات طويل لكل ٣ نباتات قصيرة. (د) نبات قصير لكل ٣ نباتات طويلة.

(٨) فى تجارب مندل لدراسة وراثة زوج من الصفات المتضادة وجد أنه فى الجيل الثانى تظهر النباتات ذات الصفات ..... بنسبة أكبر.

(أ) السائدة (ب) المتنحية

(جـ) النقية (د) جميع ما سبق

(٩) لاحظ مندل فى تجاربه على نبات البازلاء أن صفة ..... تظهر فى الجيل الثانى بنسبة ٢:١ عند دراسة كل صفة على حدى.

(أ) طول الساق (ب) الأزهار الحمراء

(جـ) القرون المحززة (د) الأزهار الجانبية

(١٠) يكون عاملا الصفة الوراثية متشابهان فى الفرد .....

(أ) النقى. (ب) الهجين.

(جـ) المتنحى. (د) (أ) ، (جـ) معًا.

(١١) تظهر الصفة المتنحية على أحد الأبناء، إذا ورث من الأبوين .....

(أ) جينين سائدين. (ب) جين سائد واحد.

(جـ) جينين متنحيين. (د) جين سائد وآخر متنحى.

(١٢) تبعًا للقانون الأول لمندل، فإن العوامل الوراثية ..... عند تكوين الأمشاج.

(أ) تتضاعف (ب) تندمج

(جـ) تنعزل (د) تختفى

(١٣) الصفة ..... تكون دائمًا نقية.

(أ) الهجينة (ب) الوراثية

(جـ) السائدة (د) المتنحية

(١١) من الشكل المقابل ما التركيب الجينى الصحيح للأبوين ؟

الاختيارات	النمر الأرقط	النمر الأسود
(أ)	HH	hh
(ب)	HH	Hh
(جـ)	Hh	hh
(د)	hh	HH

(١٥) من مخطط التركيب الجينى المقابل : أيًا مما يأتى يعبر عن النباتات التى لها نفس المظهر الخارجى للصفة موضع الدراسة ؟ .....

(أ) (١) ، (٢) ، (٥) .

(ب) (١) ، (٢) ، (٣) ، (٤) .

(جـ) (٣) ، (٥) .

(د) (٣) ، (٤) ، (٥) .

(١٦) من المخطط المقابل : الذى يوضح التركيب الجينى للآباء والنسل الناتج عن تزاوجهما ، ما الأفراد التى تحمل الصفة غير النقية ؟ .....

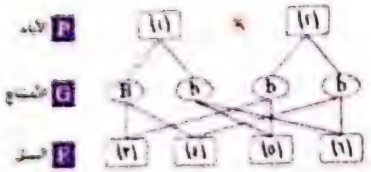

(أ) (١) ، (٣) ، (٤) .

(ب) (١) ، (٥) ، (٦) .

(جـ) (٢) ، (٣) ، (٤) .

(د) (٢) ، (٥) ، (٦) .

(١٧) من المخطط الجينى المقابل : ما التزاوج الذى ينتج عنه أفراد تركيبها الجينى ومظهرها الخارجى يكون بنسبة ١ : ١ ؟ .....

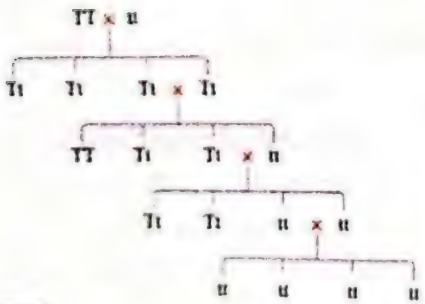

(a) TT × tt

(b) Tt × Tt

(c) tt × tt

(d) Tt × tt

(١٨) الشكل المقابل يوضح ناتج تزاوج أرنب ذو فراء غامق مع أرنب ذو فراء أبيض، فإذا كان رمز چين لون الفراء الغامق R وچين لون الفراء الأبيض r، فما التركيب الچينى للأفراد الناتجة ؟ .....

(a) Rr (b) RR , rr
(c) RR , Rr (d) Rr , rr

(١٩) عند تزاوج ذكر أبيض اللون من خنازير غينيا مع أنثى سوداء اللون من نفس النوع كان الجيل الناتج كله من ذوات اللون الأبيض، فإن صفة اللون التى يحملها الفرد الأصل المذكر ..... وهو يكون .....

(أ) متنحية ، نقى. (ب) سائدة ، هجين.
(ج) سائدة ، نقى. (د) متنحية ، هجين.

(٢٠) عند تزاوج ذكر قصير الجناح من حشرة ذبابة الفاكهة مع أنثى طويلة الجناح كل الجيل الأول كله طويل الجناح، فإذا تزاوج ذكر وأنثى من هذا الجيل، فإن النسبة المتوقعة لظهور حشرات طويلة الجناح فى الجيل الثانى تكون .....

(أ) ٢٥٪ (ب) ٥٠٪ (ج) ٧٥٪ (د) ١٠٠٪

(٢١) عند تزاوج ذكر وأنثى تركيبهما الوراثى (Bb)، فإن التركيب الوراثى (BB) يحتمل أن يظهر فى أبنائهما بنسبة .....

(أ) ٢٥٪ (ب) ٥٠٪ (ج) ٧٥٪ (د) ١٠٠٪

(٢٢) إذا كان التركيب الوراثى لأحد الأبناء (aa)، فإن التركيب الوراثى للأبوين يحتمل أن يكون .....

(a) AA × Aa (b) AA × AA
(c) Aa × aa (d) AA × aa

(٢٣) نسبة الأبناء التى تحمل الصفة المتنحية لأبوين كلاهما هجين هى .....

(أ) صفر. (ب) ٢٥٪ (ج) ٥٠٪ (د) ٧٥٪

من القانون الثانى لمندل إلى آلية عمل الچين

(٢٤) يعرف القانون الثانى لمندل بقانون ..... الوراثية.

(أ) التوزيع الحر للعوامل (ب) انعزال العوامل
(ج) دمج العوامل (د) اختفاء العوامل

(٢٥) وجد مندل من خلال تجاربه أن توارث صفة واحدة ليس له تأثير فى توارث صفة أخرى، فوضع قانون .....

(أ) السيادة التامة. (ب) التنحى.
(ج) انعزال العوامل. (د) التوزيع الحر للعوامل.

(٢٦) طبقًا للقانون الثانى لمندل، فإن الصفات السائدة تظهر فى الجيل الثانى بنسبة .....

(أ) ٢٥٪ (ب) ٥٠٪ (ج) ٧٥٪ (د) ١٠٠٪

(٢٧) التركيب الچينى لنبات بازلاء بذوره مجعدة الشكل صفراء اللون هو .....

(a) RRyy (b) rrYY (c) rryy (d) RRYY

(٢٨) عند تكون الأمشاج فى نبات تركيبه الچينى YyRr فإن الأمشاج التى تركيبها الچينى Yr تكون نسبتها .....

(أ) ٢٥٪ (ب) ٥٠٪ (ج) ٧٥٪ (د) ١٠٠٪

(٢٩) عند تلقيح نبات بسلة قصير الساق أبيض الأزهار مع نبات بسلة طويل الساق أحمر الأزهار نقى، فإن الجيل الأول يحتمل أن تكون جميع أفراده .....

(أ) طويلة الساق حمراء الأزهار. (ب) طويلة الساق بيضاء الأزهار.
(ج) قصيرة الساق بيضاء الأزهار. (د) قصيرة الساق حمراء الأزهار.

(٣٠) من مربع بانيت المقابل، إذا علمت أن رمز چين اللون الأخضر للقرون (G) واللون الأصفر (g) والشكل المنتفخ للقرون (I) والشكل المحزز (i) فإن :

♂ / ♀	GI	Gi	gI	gi
GI				(١)
Gi		(٢)		
gI	(٣)			
gi				(٤)

١- قرون النبات (٣) تكون .....

(أ) خضراء منتفخة.
(ب) صفراء منتفخة.
(ج) خضراء محززة.
(د) صفراء محززة.

٢- التركيب الچينى للنبات (٢) يكون .....

(a) GgIi (b) GGii (c) GgII (d) ggii

٣- قرون النبات (١) تشبه قرون النبات .....

(أ) (٢). (ب) (٣).
(ج) (٤). (د) لا توجد إجابة صحيحة.

(٣١) أى مما يلى من الصفات السائدة فى الإنسان ؟ .....

(أ) الشعر الناعم. (ب) شحمة الأذن المنفصلة. (الصيف ٢٠)

(جـ) العيون الضيقة. (د) وجود النمش بالوجه.

(٣٢) عند تزاوج رجل مجعد الشعر بامرأة ناعمة الشعر كانت الأفراد الناتجة مجعدة الشعر مما يعنى أن جين الشعر المجعد .....

(أ) سائد. (ب) متنحى. (جـ) مستقل. (د) مرتبط بالجنس.

(٣٣) الشكل المقابل يعبر عن توارث إحدى الصفات البشرية. ما الرقم الدال على الطفل الذى يحمل الصفة المتنحية ؟ .....

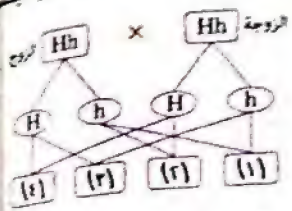

(أ) (١). (ب) (٢).

(جـ) (٣). (د) (٤).

(٣٤) تتحكم الجينات فى إظهار الصفات الوراثية للكائن الحى بإنتاج ..... (أسوان ٢٠)

(أ) هرمونات. (ب) إنزيمات.

(جـ) دهون. (د) فيتامينات.

(٣٥) يحتوى الأرز المعدل جينيًا على ..... (دمياط ١٨)

(أ) فيتامين (أ). (ب) حمض الفوليك.

(جـ) مادة الكاروتين. (د) مادة الميلانين.

(٣٦) قد يؤدى نقص فيتامين (أ) الناتج عن سوء التغذية إلى .....

(أ) مرض السرطان. (ب) فقدان البصر.

(جـ) الصمم. (د) شلل الأطفال.

٢ اكتب المصطلح العلمى الدال على كل عبارة من العبارات الآتية :

القانون الأول لمندل

(١) الصفات التى يرثها الأبناء من الآباء وتنتقل من جيل إلى آخر. (مطروح ١٨)

(٢) الصفات غير القابلة للانتقال من جيل لآخر. (كفر الشيخ ٢١)

(٣) العلم الذى يفسر أوجه التشابه والاختلاف فى الصفات الوراثية بين أفراد النوع الواحد من خلال دراسة كيفية انتقالها من جيل إلى آخر. (الفيوم ١٥)

(٤) الصفة الوراثية التى تختفى فى جميع أفراد الجيل الأول فى تجارب مندل. (بورسعيد ١٩)

(٥) الخلايا التى يتم بواسطتها انتقال العوامل الوراثية من الآباء إلى الأبناء. (مطروح ١٩)

(٦) ظهور صفة وراثية فى أفراد الجيل الأول عند تزاوج فردين يحمل كلاهما صفة وراثية نقية مضادة للصفة التى يحملها الفرد الآخر. (أسوان ١٩)

(٧) إذا تزاوج فردان نقيان مختلفان فى زوج من الصفات المتضادة، فإنهما ينتجان عند تزاوجهما جيل به صفة أحد الفردين فقط، ثم تورث الصفتان معًا فى الجيل الثانى بنسبة ٣ (صفة سائدة) : ١ (صفة متنحية).

(٨) الجين الذى لا يستطيع إظهار صفته إلا إذا تواجد معه جين مثله.

(٩) الفرد الذى يحمل زوجًا متماثلًا من العوامل الوراثية سواء كانا سائدين أو متنحيين. (الفيوم ١٩)

(١٠) الفرد الذى يحمل زوج متباين من الجينات لصفة ما. (الشرقية ٢١)

من القانون الثانى لمندل إلى آلية عمل الجين

(١١) إذا تزاوج فردان نقيان مختلفان فى زوجين أو أكثر من صفاتهما المتضادة، فإن صفتا كل زوج منهما تورث مستقلة عن الأخرى وتظهر فى الجيل الثانى بنسبة ٣ (صفة سائدة) : ١ (صفة متنحية). (أسوان ٢١)

(١٢) تراكيب فى نواة الخلية، تمثل المادة الوراثية للفرد ويتكون كل منها من حمض نووى وبروتين. (الفيوم ١٨)

(١٣) • أجزاء من الحمض النووى DNA الموجود بالكروموسومات تحمل الصفات الوراثية للفرد. (أسوان ١٨)

• تراكيب خاصة تنتقل من خلالها الصفات الوراثية من الآباء إلى الأبناء. (الدقهلية ١٩)

(١٤) الوحدة البنائية للحمض النووى DNA (السويس ١٨)

(١٥) نموذج لجزىء DNA يتكون من شريطين ملتفين حول بعضهما مثل الحلزون المزدوج. (الجيزة ١٦)

(١٦) مادة يكونها الجين تكون مسئولة عن حدوث تفاعل كيميائى معين. (بنى سويف ٢١)

(١٧) الخريطة الوراثية التى توضح المجموعة الكاملة للجينات الموجودة بالكروموسومات البشرية. (البحيرة ٢١)

٣ أكمل العبارات الآتية بما يناسبها :

القانون الأول لمندل

(١) تعلم السباحة من الصفات .....، بينما فصيلة الدم من الصفات ..... (دمياط ١٨)

(٢) اختار مندل نبات البازلاء لسهولة ..... و ..... دورة حياته. (بورسعيد ٢١)

(٣) أطلق العالم مندل على الصفة التى تظهر فى جميع أفراد الجيل الأول الصفة .....، بينما الصفة المضادة التى تختفى فى أفراد الجيل الأول الصفة ..... (الوادى الجديد ١٩)

(٤) وضع الزهرة فى نبات البازلاء إما ..... أو .....

(٥) فى نبات البازلاء تعتبر صفة ..... الساق من الصفات السائدة، بينما صفة الشكل ..... للبذور من الصفات المتنحية.

(٦) فى نبات البازلاء يسود اللون الأصفر للـ ..... على اللون الأخضر لها، بينما يسود اللون الأخضر للـ ..... على اللون الأصفر لها.

(٧) توصل العالم مندل إلى أن الصفات الوراثية تنتقل من الآباء إلى الأبناء عن طريق ..... توجد بالأمشاج، وقد أطلق عليها العلماء فيما بعد اسم ..... (بنى سويف ٢١)

(٨) يتحكم فى كل صفة وراثية ..... ينفصلان أثناء تكوين ..... (البحر الأحمر ١٩)

(٩) لكى تظهر الصفة الوراثية فى الفرد فلابد أن يحمل عدد ..... چين لها، بينما يحمل المشيج عدد ..... چين للصفة الوراثية. (بنى سويف ٢٠)

(١٠) طبقًا للقانون الأول لمندل فإن الصفة ..... تظهر فى الجيل الأول بنسبة ١٠٠٪ وتظهر الصفة ..... فى الجيل الثانى بنسبة ٢٥٪

(١١) إذا حدث تزاوج بين نبات بازلاء طويل الساق نقى ونبات بازلاء قصير الساق تكون أفراد الجيل الأول حاملة لصفة ..... بنسبة .....

من القانون الثانى لمندل إلى آلية عمل الچين

(١٢) عند إجراء عملية تلقيح ذاتى لنباتات بازلاء طويلة الساق حمراء الأزهار هجينة تكون نسبة ظهور النباتات ..... الساق ..... الأزهار أكبر ما يمكن.

(١٣) القدرة على الالتفاف الأنبوبى للسان من الصفات .....، بينما شحمة الأذن المتصلة من الصفات ..... فى الإنسان. (الإسماعيلية ٢١)

(١٤) تعتبر العيون الزرقاء الضيقة من الصفات الوراثية ..... فى الإنسان. (الجيزة ٢١)

(١٥) من الصفات المتنحية ..... غمازات الوجه و ..... العيون.

(١٦) الفكرة العلمية لسيادة صفة الشعر المجعد على صفة الشعر الناعم هى ..... (دمياط ١٩)

(١٧) يتركب الكروموسوم كيميائيًا من حمض نووى يسمى ..... مرتبط مع ..... (بورسعيد ٢١)

(١٨) يعتبر ..... جزء من الحمض النووى DNA الذى يتكون بدوره من وحدات بنائية أصغر تسمى ..... (الدقهلية ١٩)

(١٩) تمكن العالمان ..... ، ..... من اكتشاف الكيفية التى يتحكم بها الچين فى إظهار الصفة الوراثية. (دمياط ٢١)

(٢٠) كل چين يكوِّن ..... خاصًا يكون مسئولًا عن حدوث ..... معين، ينتج عنه ..... يظهر صفة وراثية محددة. (مطروح ٢١)

(٢١) ينتشر نقص ڤيتامين (أ) بين اللذين يعتمدون على ..... كغذاء رئيسى لهم حيث أنه لا يحتوى على مادة ..... المعروفة باسم الكاروتين.

(٢٢) تتحول مادة الكاروتين داخل الجسم إلى ڤيتامين ..... الذى قد يؤدى نقصه فى الجسم إلى .....

(٢٣) يهتم مشروع ..... بتأثير الطفرات المختلفة على عمل الچينات. (البحيرة ١٩)

(٢٤) أظهر مشروع ..... تشابه البشر فى أكثر من ..... ٪ من DNA (البحيرة ١٨)

أكمل المخططات الآتية :

① (الجيزة ١١)

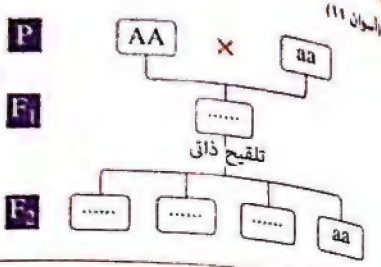

② (سوهاج ٢١)

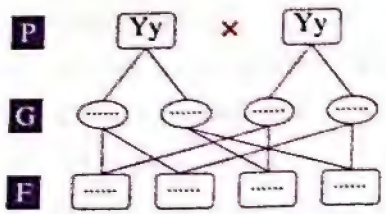

③ (البحر الأحمر ١٩)

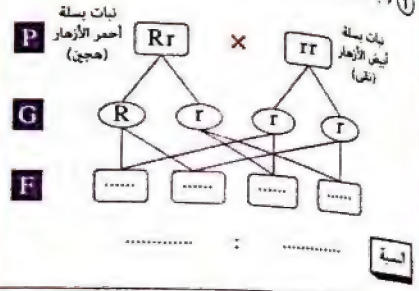

④

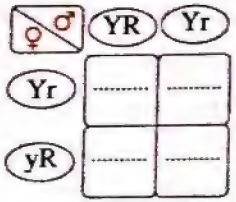

⑤

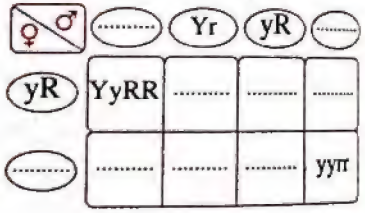

⑥

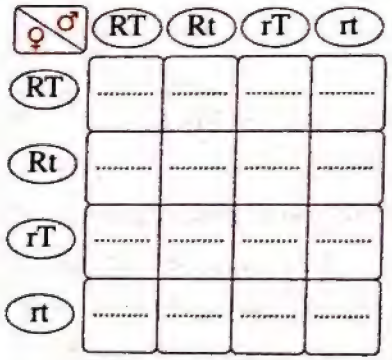

(٧) الجين ← يعطى ← (١) ← مسئول عن حدوث ← تفاعل كيميائى ← يكوّن ← (٢) ← يعمل على ظهور ← صفة وراثية محددة (الإسماعيلية ٢١)

٥ صوب ما تحته خط :

القانون الأول لمندل

(١) الصفات المكتسبة تنتقل من جيل لآخر. (أسوان ١٩)

(٢) لون الجلد صفة مكتسبة. (الأقصر ١٩)

(٣) يعد منديليف مؤسس علم الوراثة. (قنا ٢١)

(٤) اختار مندل نبات الفول لإجراء تجاربه. (الشرقية ١٧)

(٥) اختار مندل عشر صفات وراثية خاصة بنبات البازلاء لإجراء تجاربه. (مطروح ٢١)

(٦) نزع مندل بتلات أزهار نبات البازلاء، حتى لا يحدث تلقيح ذاتى. (الأقصر ١٩)

(٧) من الصفات المتنحية فى نبات البازلاء شكل القرن المنتفخ. (البحيرة ٢١)

(٨) يحمل الفرد النقى جين للصفة السائدة وآخر للصفة المتنحية. (القاهرة ٢١)

(٩) يطلق على القانون الأول لمندل قانون التوزيع الحر للعوامل. (بورسعيد ٢١)

(١٠) عند تلقيح نبات بازلاء أحمر الأزهار نقى مع نبات بازلاء أبيض الأزهار، تنتج نباتات جميعها صفراء الأزهار. (أسوان ١٣)

من القانون الثانى لمندل إلى آلية عمل الجين

(١١) تبعًا للقانون الثانى لمندل إذا تزاوج فردان نقيان مختلفان فى زوجين أو (أكثر) من صفاتهما المتبادلة، فإن صفتا كل زوج منهما تورث مستقلة وتظهر فى الجيل الثانى بنسبة ٤ : ١ (الدقهلية ١٦)

(١٢) عند تكون الأمشاج فى نبات تركيبه الجينى TtRr فإن الأمشاج التى تركيبها الجينى TR تكون نسبتها ٧٥٪ (الشرقية ١٨)

(١٣) صفة لون العيون البنية فى الإنسان صفة محايدة. (مطروح ١٣)

(١٤) تعتبر الجينات أجزاء من DNA موجودة فى غشاء الخلية. (دمياط ٢١)

(١٥) تمكن العالمان بيدل و تاتوم من وضع نموذج لجزىء DNA الذى يتركب من شريطين ملتفين حول بعضهما مثل الحلزون المزدوج. (الغربية ١٥)

(١٦) ينتج كل كروموسوم إنزيمًا خاصًا يكون مسئولًا عن إنتاج نوعًا من البروتين. (الإسكندرية ١٩)

٦ ضع علامة (✓) أمام العبارة الصحيحة، وأعد تصويب العبارة الخطأ :

القانون الأول لمندل

(١) تنتقل الصفات الوراثية من جيل لآخر. (قنا ١٥) ( )

(٢) تعلم المشى لدى الأطفال من الصفات المكتسبة. (قنا ١٣) ( )

(٣) أحد أسباب اختيار مندل لنبات البازلاء لإجراء تجاربه سهولة تلقيحه صناعيًا. (سوهاج ١٩) ( )

(٤) انتزع مندل أسدية أزهار نباتات البازلاء أثناء تجاربه ليمنع تلقيحها خلطيًا. (الأقصر ١٨) ( )

(٥) أطلق مندل مصطلح انعزال العوامل على ظهور الصفة السائدة فى جميع أفراد الجيل الأول. ( )

(٦) عند تزاوج فردان نقيان مختلفان فى زوج واحد من الصفات المتضادة تظهر الصفة السائدة فى أفراد الجيل الأول فقط ولا تظهر فى أفراد الجيل الثانى. (بنى سويف ١٦) ( )

(٧) تبعًا للقانون الأول لمندل فإن الصفات المتقابلة تظهر فى أفراد الجيل الثانى بنسبة ٢ (صفة سائدة) : ١ (صفة متنحية). (قنا ١١) ( )

(٨) يُظهر الجين السائد صفته سواء كان الجين الذى معه سائد أو متنحى. ( )

(٩) عند تزاوج ذكر تركيبه الوراثى (Bb) وأنثى تركيبها (bb) فإن التركيب الوراثى (BB) يحتمل ظهوره فى أبنائهما بنسبة ٢٥٪ (الشرقية ٢١) ( )

(١٠) عند تزاوج نبات بازلاء بذوره مجعدة rr بآخر بذوره ملساء Rr يكون ٥٠٪ من الجيل الأول بذوره مجعدة. ( )

من القانون الثانى لمندل إلى آلية عمل الجين

(١١) النسبة المندلية لكل زوج من زوجى الصفات الموروثة فى أفراد الجيل الثانى، تبعًا للقانون الثانى لمندل هى ١ : ١ (جنوب سيناء ١٩) ( )

(١٢) عند تلقيح نبات بازلاء نقى بذوره صفراء ملساء بآخر بذوره خضراء مجعدة تكون بذور نباتات الجيل الأول جميعها صفراء مجعدة. ( )

(١٣) صفة الشعر المجعد سائدة على صفة الشعر الطويل فى الإنسان. ( )

(١٤) الفرد الذى يرث جين واحد فقط لصفة وجود النمش فى الوجه، لا تظهر عليه هذه الصفة. (الغربية ٢١) ( )

(١٥) البروتين المسئول عن ظهور صفة لون العيون البنية يختلف عن البروتين المسئول عن ظهور صفة لون الشعر الأسود. ( )

(١٦) يستخدم الأرز المعدل جينيًا لحل مشكلة نقص ڤيتامين (أ) الناتج عن سوء التغذية. (المنيا ٢١) ( )

(١٧) يختلف الأشخاص عن بعضهم فى تقبل المؤثرات البيئية الضارة. ( )

٧ اذكر أهمية كل مما يأتى :

(١) الحمض النووى DNA (السويس ٢١) (٢) الجينات. (الشرقية ٢١)

(٣) مشروع الجينوم البشرى. (الغربية ٢١) (٤) الأرز المعدل جينيًا. (الأقصر ١٩)

٨ علل لما يأتى :

القانون الأول لمندل

(١) تعلم المشى عند الأطفال لا يعتبر صفة وراثية. (الأقصر ١٩)

.....

(٢) يعتبر مندل مؤسس علم الوراثة.

.....

(٣) اختيار مندل لنبات البازلاء لإجراء تجاربه. (كفر الشيخ ٢١)

.....

(٤) ترك مندل نباتات البازلاء التى انتقاها تُلقح ذاتيًا لعدة أجيال قبل إجراء تجاربه عليها. (بورسعيد ١٥)

.....

(٥) انتزع مندل أسدية بعض أزهار نباتات البازلاء قبل نضج متوكها أثناء إجراء تجاربه عليها. (الوادى الجديد ٢١)

.....

(٦) غطى مندل مياسم أزهار البازلاء بعد تلقيحها عند دراسته لصفاتها الوراثية. (الغربية ١٩)

.....

(٧) عند تلقيح نبات بازلاء طويل الساق نقى مع نبات بازلاء قصير الساق تنتج نباتات جميعها طويلة الساق. (بنى سويف ١٢)

.....

(٨) اختفاء صفة اللون الأخضر للبذور فى الجيل الأول عند تزاوج نباتى بازلاء أحدهما بذوره خضراء والآخر بذوره صفراء نقية.

.....

(٩) عند تزاوج نبات بسلة بذوره خضراء مع آخر بذوره صفراء ظهرت نباتات بذورها خضراء. (الإسكندرية ١٨)

.....

(١٠) عند تزاوج فرد يحمل صفة متنحية مع فرد يحمل صفة سائدة نقية، تنتج أفراد هجينة.

.....

(١١) يعرف القانون الأول لمندل بقانون انعزال العوامل. (الدقهلية ١٨)

.....

(١٢) الصفة المتنحية تكون نقية دائمًا.

.....

(١٣) لا يختلف لون بذور بازلاء YY عن أخرى Yy بالرغم من اختلاف تركيبهما الجينى.

.....

من القانون الثانى لمندل إلى آلية عمل الجين

(١٤) تسود صفة العيون الواسعة على صفة العيون الضيقة فى الإنسان. (الفيوم ١٨)

.....

(١٥) إذا ورث فرد من أحد أبويه جين يحمل صفة الشعر المجعد، فإن الفرد يكون شعره مجعدًا. (القليوبية ١٦)

.....

(١٦) حمض DNA هو مصدر المعلومات الوراثية الخاصة بالكائن الحى. (المنوفية ١٥)

.....

(١٧) تتحكم الجينات فى ظهور الصفات الوراثية للفرد. (البحر الأحمر ١٩)

.....

(١٨) تلعب الإنزيمات التى تنتجها الجينات دورًا هامًا فى ظهور الصفات الوراثية. (المنوفية ١٦)

.....

(١٩) تعرض حوالى نصف مليون شخص سنويًا فى بعض الدول النامية لفقدان البصر.

.....

(٢٠) يعانى الأشخاص الذين يعتمدون على الأرز كغذاء رئيسى من نقص ڤيتامين (أ). (المنيا ١٨)

.....

(٢١) اهتمام العلماء بتخليق أرز معدل جينيًا.

.....

ما المقصود بكل من:

(١) علم الوراثة.
(٢) الصفات الوراثية.
(٣) الصفات المكتسبة. (بورسعيد ٢١)
(٤) قانون انعزال العوامل.
(٥) الأمشاج. (بورسعيد ٢١)
(٦) الصفة السائدة.
(٧) الصفة المتنحية. (أسيوط ٢١)
(٨) الفرد الهجين.
(٩) الفرد النقي. (الشرقية ١٧)
(١٠) القانون الثاني لمندل.
(١١) الجين. (أسيوط ١٨)
(١٢) الجينوم البشري.

ماذا يحدث إذا:

القانون الأول لمندل

(١) لم تنتزع الأسدية من أزهار نبات البازلاء أثناء إجراء مندل لتجاربه وتم إخصابها. (بني سويف ٢١)

(٢) تركت مياسم أزهار نبات البازلاء دون تغطية أثناء دراسة مندل لصفاته الوراثية. (أسوان ١٩)

(٣) تزاوج فردان نقيان مختلفان في زوج من صفاتهما المتضادة. (البحيرة ٢١)

(٤) حدث تلقيح خلطي بين نباتي بازلاء نقيين، أحدهما أصفر القرون والآخر أخضر القرون. (البحيرة ١٩)

(٥) تزاوج نبات بازلاء بذوره صفراء هجين، مع آخر مماثل له. (الفيوم ١٦)

(٦) تواجد جين سائد لصفة مع جين متنحي لنفس الصفة. (القليوبية ١٨)

(٧) حصل فرد على جين متنحي من كلا الأبوين. (السويس ٢١)

(٨) تزاوج نبات بسلة بذوره ملساء هجين مع آخر مجعد البذور.

ما القانون الثاني لمندل؟ وما آلية عمل الجين

(٩) تزاوج فردان نقيان مختلفان في زوجين أو أكثر من الصفات المتقابلة. (بني سويف ١٩)

(١٠) تزاوج نباتي بازلاء نقيين أحدهما طويل الساق أحمر الأزهار والآخر قصير الساق أبيض الأزهار، من حيث ظهور الصفات في الجيل الثاني. (المنوفية ١٧)

(١١) تزاوج فردان نقيان يحملان صفة القدرة على لف اللسان. (بني سويف ١٧)

(١٢) فشل الجين في إنتاج الإنزيم الخاص به. (القليوبية ١٩)

(١٣) اعتماد بعض الأشخاص على الأرز كغذاء رئيسي.

قارن بين كل من:

(١) الجين السائد و الجين المتنحي. (المنوفية ١٥)
(٢) الصفة السائدة و الصفة المتنحية. (كفر الشيخ ١٩)
(٣) الفرد النقي و الفرد الهجين. (الفيوم ١٨)
(٤) صفة العيون الواسعة و صفة العيون الضيقة «من حيث : نوع الصفة الوراثية». (أسوان ١٩)
(٥) صفة شحمة الأذن المنفصلة و صفة شحمة الأذن المتصلة «من حيث : نوع الصفة الوراثية». (الغربية ١٩)

مسائل متنوعة على الوراثة المندلية:

القانون الأول لمندل

استخدم الرموز في التعبير عن ناتج تزاوج كل من، «رسمًا التركيب الجيني لكل من الآباء و الأمشاج و الجيل الناتج ونسبة الأفراد الناتجة»:

(١) نباتي بازلاء أحدهما قرونه خضراء نقي (GG) و الآخر قرونه صفراء (gg). (الدقهلية ١٥)
(٢) نباتي بازلاء أحدهما قصير الساق (tt) و الآخر طويل الساق (TT). (الوادي الجديد ١٩)
(٣) نباتي بازلاء أحدهما بذوره صفراء هجين و الآخر بذوره خضراء. (سوهاج ١٩)
(٤) رجل ذو شعر أسود (Bb) بامرأة ذات شعر فاتح (bb). (الأقصر ٢١)

٢ ما هى نتائج التلقيح الذاتى لأزهار نبات بسلة طويل الساق هجين ؟ (الإسكندرية ١٩)

٣ تم التهجين بين نبات بازلاء أصفر البذور نقى (YY) مع نبات بازلاء أخضر البذور (yy).
وضح على أسس وراثية التركيب الجينى لكل من الآباء والأمشاج وأفراد الجيل الأول. (القاهرة ٢١)

٤ عند تلقيح نباتى بازلاء مع بعضهما، نتجت نباتات جميع أزهارها حمراء هجينة.
فسر ذلك على أسس وراثية. (الإسماعيلية ١٧)

٥ وضح على أسس وراثية ناتج تزاوج نبات طماطم ثماره حمراء اللون (Rr) مع نبات طماطم ثماره خضراء اللون (rr)، موضحًا صفات الجيل الناتج ونسبة الأفراد الناتجة. (الجيزة ٢١)

٦ إذا تزاوج فأر أسود اللون (BB) مع أنثى بنية اللون (bb)، وضح على أسس وراثية ألوان و نسب أعداد الفئران الناتجة فى :
* الجيل الأول. (مطروح ٢١)
* الجيل الثانى. (الإسماعيلية ١٦)

٧ إذا علمت أن صفة شحمة الأذن المنفصلة (E) تسود على صفة شحمة الأذن الملتحمة (e).
وضح على أسس وراثية التركيب الجينى للأبناء الناتجة عند تزاوج أب وأم كلاهما هجين بالنسبة لهذه الصفة. (الإسكندرية ٢١)

٨ وضح على أسس وراثية ناتج تزاوج رجل عيونه واسعة مع امرأة عيونها واسعة كلاهما هجين.
علمًا بأنه يرمز لعامل صفة العيون الواسعة بالرمز (W)
وعامل صفة العيون الضيقة بالرمز (w). (الإسكندرية ٢١)

القانون الثانى لمندل

٩ استخدم الرموز فى التعبير عن ناتج التزاوج بين نبات بسلة طويل الساق أخضر القرون نقى مع نبات بازلاء قصير الساق أصفر القرون، موضحًا : الآباء – الأمشاج – الجيل الأول. (أسيوط ٢١)

١٠ اشرح على أسس وراثية التركيب الوراثى للأفراد الناتجة عن تزاوج نبات بازلاء قصير الساق أحمر الأزهار هجين، مع آخر طويل الساق هجين أبيض الأزهار، علمًا بأنه يرمز لجين صفة الطول بالرمز (T) وجين صفة اللون الأحمر بالرمز (R). (شمال سيناء ١٩)

١١ استخدم الرموز الآتية TtRr , ttrr فى التعبير عن ناتج التزاوج بين نبات بسلة طويل الساق أحمر الأزهار هجين مع نبات بسلة قصير الساق أبيض الأزهار،
موضحًا التركيب الجينى لكل من الآباء والأمشاج والجيل الأول. (بورسعيد ١٩)

١٢ تزوجت امرأة شعرها ناعم أسود اللون هجين برجل شعره مجعد هجين أصفر اللون،
ما احتمالات ظهور هذه الصفات الأربعة فى جيل الأبناء المكون من ٤ أبناء،
علمًا بأنه يرمز لجين صفة الشعر المجعد بالرمز (H) وجين صفة لون الشعر الأسود بالرمز (B).

ادرس الأشكال التالية، ثم أجب :

١ الشكل المقابل يوضح تلقيحًا خلطيًا بين نبات بازلاء أزهاره حمراء مع نبات بازلاء أزهاره بيضاء : (الإسماعيلية ١٨)

(أ) حدد بالرموز أفراد الجيل الأول.
(ب) أكمل فراغات الجيل الثانى.
(جـ) اذكر سبب عدم ظهور نباتات بيضاء الأزهار فى الجيل الأول. (الوادى الجديد ١٦)
(د) هل النتائج تحقق القانون الأول لمندل ؟ مع ذكر السبب.

٢ الشكل المقابل يوضح عملية تلقيح ذاتى فى نبات بسلة طويل الساق هجين :

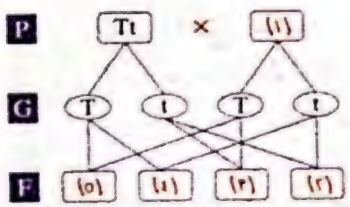

(أ) استبدل الأرقام بالرموز المناسبة.
(ب) هل النتائج تحقق القانون الأول لمندل ؟ مع التفسير. (الإسماعيلية ١٥)
(جـ) لماذا يتماثل النباتين (٤) ، (٥) رغم اختلافهما فى التركيب الوراثى ؟
(د) ما صفات النباتات الناتجة عند حدوث : (القليوبية ١١)
١- تلقيح ذاتى فى النبات (٥).
٢- تلقيح خلطى بين النبات (٢) و النبات (٤).

٣ الشكل التالى يوضح توارث صفة لون القرون فى نبات البازلاء :

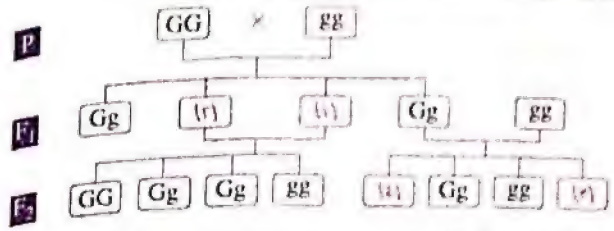

(أ) ما الصفات الظاهرية للآباء ؟

(ب) استبدل الأرقام بالرموز المناسبة.

(جـ) ما نوع التلقيح بين : ١- الآباء. ٢- (١) ، (٢).

٤ من الرسم التخطيطى المقابل :

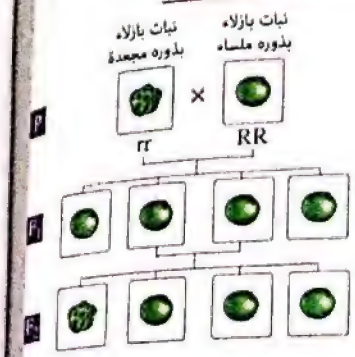

(أ) أى الصفتين سائد و أيهما متنحى ؟

(ب) اذكر التركيب الجينى لأفراد الجيل الأول.

(جـ) ما صفات أفراد الجيل الثانى ؟ مع ذكر نسب الأفراد.

(د) ما نسبة النباتات التى تركيبها الجينى :

١- (rr) فى الجيل الأول.

٢- (RR) فى الجيل الثانى.

٣- (Rr) فى الجيل الثانى.

٥ مربع بانيت المقابل يوضح نتائج التجربة التى قام بها مندل عندما لقح نبات بازلاء بذوره ملساء صفراء مع آخر بذوره مجعدة خضراء :

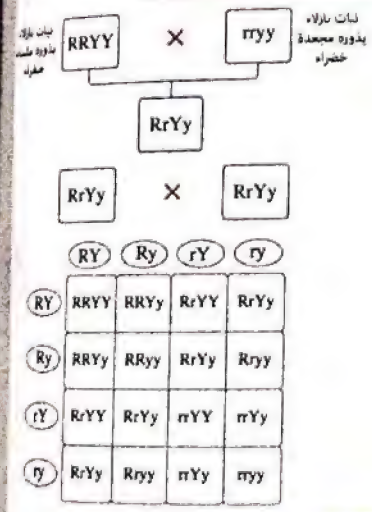

(١) ما صفات الأفراد الناتجة فى كل من الجيل الأول والجيل الثانى ؟ مع ذكر النسبة بين الأفراد.

(ب) ما اسم القانون الذى توصل إليه بعد إجرائه لهذه التجربة ؟ وما نصه ؟

٦ الشكل المقابل يوضح توارث صفة نمش الوجه، فإذا علمت أن جين صفة عدم وجود النمش يرمز له بالرمز (F) وجين صفة وجود النمش يرمز له بالرمز (f) :



(أ) أى الصفتين سائد ؟ وأيهما متنحى ؟

(ب) اذكر التركيب الجينى للأفراد من (١) : (٤).

(جـ) اذكر الرقم الذى يمثل التركيب الجينى لفرد :

١- هجين.

٢- نقى.

٣- تظهر عليه الصفة المتنحية.

(د) ما سبب عدم ظهور النمش فى وجه الأب رغم أنه يحمل أحد جيناته ؟

٧ من الشكل المقابل :



(أ) اكتب ما يدل على كل من الأرقام (١) ، (٢) ، (٣).

(ب) اذكر وحدات بناء ما يشير إليه الرقم (٢).

(جـ) اذكر التركيب الكيميائى لما يشير إليه الرقم (٣).

(البحيرة ١٨)

١٤ أسئلة متنوعة :

١ اذكر أهم جهود العلماء الآتى أسمائهم :

(أ) مندل. (شمال سيناء ١٥)

(ب) واطسون و كريك. (مطروح ١٨)

(جـ) بيدل و تاتوم. (الأقصر ١٨)

٢ وضع مندل مجموعة من الفروض لتفسير ظهور الصفة السائدة واختفاء الصفة المتنحية في الجيل الأول في التجارب التي قام بدراستها على نبات البازلاء. اشرح هذه الفروض. (أسوان ١٩)

٣ متى يحدث كل مما يأتي :

(أ) ينفصل العاملان الوراثيان لكل صفة. (الشرقية ١٩)

(ب) يكون ناتج تزاوج فردين ٥٠٪ أفراد تحمل الصفة السائدة : ٥٠٪ أفراد تحمل الصفة المتنحية. (المنوفية ١٩)

٤ ما تفسير مندل لاختفاء إحدى صفات نبات البازلاء من نباتات الجيل الأول وعودتها للظهور في نباتات الجيل الثاني ؟

٥ في نبات البازلاء إذا كان (T) هو رمز چين صفة طول الساق و (R) هو رمز چين صفة لون الأزهار الحمراء، فما هو التركيب الچيني لكل مما يأتي : (الإسكندرية ١٧)

(أ) نبات طويل الساق أحمر الأزهار هجين.

(ب) نبات قصير الساق أبيض الأزهار.

٦ كيف يمكنك التمييز بين نباتين من بسلة الخضر كلاهما أحمر الأزهار ؟ علمًا بأن أحدهما نقي والآخر هجين باستخدام نبات آخر أبيض الأزهار، موضحًا ذلك على أسس وراثية. (الدقهلية ١٩)

٧ أي الصفات البشرية الآتية سائدة و أيها متنحية : (الأقصر ١٦)

(أ) التحام شحمة الأذن. (ب) العيون الواسعة.

(جـ) تجعد الشعر.

٨ حدث تزاوج بين ذكر طائر نقي ريشه أخضر اللون وريش رأسه أصفر، وأنثى نقية لون ريشها أزرق وريش رأسها أبيض فجاء لون ريش فراخ الجيل الأول أخضر وريش الرأس أصفر :

(أ) ما الصفات السائدة ؟ مع التفسير.

(ب) إذا افترضنا أن رمز عامل لون الريش الأخضر G وعامل لون ريش الرأس الأصفر Y حدد التراكيب الچينية لكل من الآباء وأفراد الجيل الأول والثاني.

٩ اذكر الفكرة العلمية لسيادة صفة وجود الغمازات على الوجه على صفة غياب الغمازات. (بورسعيد ١٦)

١٠ اشرح ما توصل إليه العالمان واطسون و كريك في تركيب جزيء DNA (الوادي الجديد ١٩)

١١ اذكر التركيب الكيميائي لكل من :

(أ) الكروموسوم.

(ب) الحمض النووي DNA

١٢ كيف تؤدي الچينات وظيفتها ؟ مع ذكر مثال توضيحي. (المنيا ١٩)

١٣ ما الأساس العلمي الذي يعتمد عليه إنتاج الأرز الذي يحتوي على مادة الكاروتين ؟ (البحيرة ١٨)

١٤ كان يصاب كل عام حوالي نصف مليون شخص من الدول النامية – غذائهم الرئيسي الأرز – بفقد أبصارهم ... وقد تم حل هذه المشكلة، اذكر :

(أ) سبب فقدهم للبصر.

(ب) طريقة حل المشكلة.

أسئلة تقيس مستويات التفكير العليا — هجاب عنها

١٥ صوب ما تحته خط :

إذا كان ناتج تزاوج فردين هو ٥٠٪ أفراد تحمل الصفة السائدة : ٥٠٪ أفراد تحمل الصفة المتنحية، فإن هذا يعني أن كلا الأبوين يحمل الصفة السائدة نقية. (الإسماعيلية ١٩)

١٦ اختر الإجابة الصحيحة مما بين الإجابات المعطاة :

(١) عند تزاوج نبات طويل الساق مع نبات قصير الساق، كان عدد النسل الناتج ٨٠ نبات طويل الساق و٨٠ نبات قصير الساق، فإن التركيب الوراثي للنباتين يكون .....

(a) tt × tt (b) tt × Tt

(c) tt × TT (d) Tt × Tt

(٢) إذا كانت أسماك الزينة برتقالية اللون أغلى ثمنًا من الأسماك زرقاء اللون، وكان اللون البرتقالي صفة سائدة على صفة اللون الأزرق، فإنه يتم تزاوج الأسماك ..... للحصول على أعلى عائد مادي.

(أ) البرتقالية الهجينة مع الأسماك الزرقاء.

(ب) البرتقالية النقية مع الأسماك الزرقاء.

(ج) البرتقالية الهجينة مع بعضها

(د) الزرقاء مع بعضها

(٣) إذا حدث تلقيح بين فردين كلاهما هجين ونتج عن هذا التلقيح ٢٠٠ فرد، فإن عدد الأفراد الهجينة الناتجة يحتمل أن يكون ..... فردًا. (الشرقية ٢٠٢٠)

(أ) ٥٠ (ب) ١٠٠

(ج) ١٥٠ (د) ٢٠٠

(٤) الشكل المقابل يوضح ناتج تزاوج ثعلبين، فإذا كان جين لون الفراء البني B سائد على جين لون الفراء الأبيض b، والجدول التالي يوضح التراكيب الجينية والمظهرية المحتملة للثعلب W :

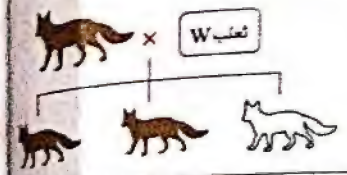

الاحتمالات	(١)	(٢)	(٣)	(٤)
التركيب الجينى	bb	B	Bb	bb
التركيب المظهرى	بنى	بنى	بنى	أبيض

أى الاحتمالات السابقة قد تعبر عن الثعلب W ؟ .....

(أ) (١) ، (٣). (ب) (٢) ، (٤).

(ج) (٣) ، (٤). (د) (٢) ، (٣).

١٧ بم تفسر :

(١) قد ينتج عن تهجين فرد يحمل صفة سائدة مع آخر يحمل صفة متنحية، أفراد بنسبة ١ : ١ (الدقهلية ٢٠٢٠)

(٢) يمكن لأبوين شحمة أذانهم منفصلة إنجاب أبناء شحمة أذانهم ملتحمة.

مسألة متنوعة :

(١) تزوج رجل من امرأة كلاهما قادر على لف اللسان، فأنجبا طفلًا غير قادر على لف اللسان، فإذا علمت أن جين القدرة على لف اللسان يرمز له بالرمز R، اكتب التركيب الجينى للأبوين.

(٢) تنازع محمد (أزرق العينين) وزوجته وفاء (زرقاء العينين) مع سمير (أزرق العينين) وزوجته سعاد (عسلية العينين) على إثبات نسب طفل (عسلى العينين)، وقد أصدر القاضى حكمه العادل، أى الزوجين صدر الحكم لصالحهما ؟ مع التعليل. (البحيرة ١٩)

مسائل متنوعة :

(١) تم التزاوج بين ذكر وأنثى ذبابة الفاكهة كلاهما طويل الجناح وكان الناتج ٢٧ فردًا طويل الجناح و٩ أفراد قصيرة الجناح،

وضح ذلك على أسس وراثية، علمًا بأنه يرمز لجين صفة طول الجناح بالرمز (T) ولجين صفة قصر الجناح بالرمز (t). (الإسماعيلية ١٩)

(٢) عند تزاوج نباتى بازلاء، أحدهما طويل الساق والآخر قصير الساق نتجت أفراد بنسبة ٥٠٪ طويلة الساق : ٥٠٪ قصيرة الساق،

وضح على أسس وراثية التركيب الجينى لكل من الآباء والأفراد الناتجة، علمًا بأنه يرمز للجين السائد بالرمز (T) وللجين المتنحى بالرمز (t). (المنيا ١٦)

(٣) تزاوج رجل وامرأة وأنجبا ولدين وبنتين نصفهم ذو شعر مجعد والنصف الآخر ذو شعر ناعم، فسر ذلك على أسس وراثية.

علمًا بأن صفة الشعر المجعد (H) سائدة على صفة الشعر الناعم (h). (الدقهلية ٢١)

(٤) فسر على أسس وراثية التركيب الوراثى للأفراد الناتجة عن تزاوج رجل ذو شعر ناعم ضيق العينين من امرأة ذات شعر مجعد متسعة العينين (أمها ذات شعر ناعم ضيقة العينين)، مع ذكر نسب الأفراد الناتجة، علمًا بأن عامل صفة العيون المتسعة يرمز له بالرمز (W) وعامل صفة الشعر المجعد يرمز له بالرمز (H).

ادرس الأشكال التالية، ثم أجب :

(١) **الشكل المقابل يوضح الأعداد الناتجة عن تزاوج نباتى بازلاء كلاهما طويل الساق :** (البحيرة ٢٩)



(أ) اذكر التركيب الوراثى للآباء.

(ب) استخدم الرموز فى التعبير عن هذا التزاوج.

(٢) **الشكل المقابل يوضح : عملية توارث لون الفراء (الرمادى ، الأبيض) فى الفئران. فإذا علمت أن جين اللون الرمادى للفراء يرمز له بالرمز (G) وجين اللون الأبيض يرمز له بالرمز (g).**

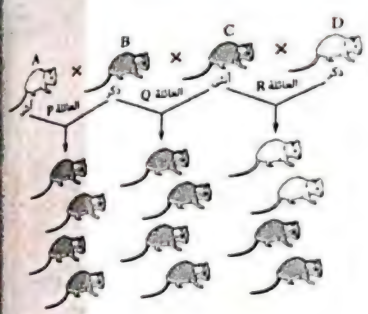

استنتج التركيب الجينى لكل من :

(أ) الفئران (A ، B ، C ، D).

(ب) فئران العائلات (P ، Q ، R).

وراثة X وراثة

يتميز الذكر عن الأنثى فى :

- **الدجاج ..** بالعرف والذيل المقوس.
- **الطاووس ..** بالذيل الطويل الملون.
- **الأوز ..** بكبر الحجم و ثقل الوزن.
- **سمك الفايتر ..** بذيل طويل جميل ملون.
- **الأسد ..** بالشعر الكثيف (اللبده) حول العنق.
- **النحل ..** بعدم مغادرته الخلية، بحثًا عن الرحيق.
- **الضفادع ..** بكيس الهواء الذى يظهر عند النقيق.
- **حصان البحر ..** بكيس البيض المنتفخ أسفل الصدر.

من الكبار تعلمت الكثير و من الصغار تعلمت أكثر

دخل طفل إلى محل الحلاقة، فهمس الحلاق فى أذن الزبون قائلًا : هذا أغبى طفل فى العالم .. وسأثبت لك ذلك.

وضع الحلاق فى يده اليمنى جنيه وفى اليد اليسرى عشرة جنيهات فاختار الطفل الجنيه وانصرف.

قال الحلاق للزبون : إنه لا يتعلم أبدًا .. فى كل مرة يفعل ذلك.

خرج الزبون وراء الطفل وسأله : لماذا لم تختار العشرة جنيهات ؟

أجابه الطفل : اليوم الذى اختار فيه العشرة جنيهات سوف تنتهى اللعبة !

عجائب الأرقام

١ × ٣ × ٣٧ = ١١١

٢ × ٣ × ٣٧ = ٢٢٢

٣ × ٣ × ٣٧ = ٣٣٣

٤ × ٣ × ٣٧ = ٤٤٤

٥ × ٣ × ٣٧ = ٥٥٥

٦ × ٣ × ٣٧ = ٦٦٦

٧ × ٣ × ٣٧ = ٧٧٧

٨ × ٣ × ٣٧ = ٨٨٨

٩ × ٣ × ٣٧ = ٩٩٩

أسئلة لتنمية التفكير الناقد

"بالتمييز بين الحقائق و غير الحقائق"

* العبارات الآتية بعضها يمثل حقائق وبعضها الآخر لا يمثل حقائق.

ضع علامة (✓) أمام العبارات التي تمثل حقائق و علامة (✗) أمام العبارات التي لا تمثل حقائق مع إثبات ذلك بالبرهان العلمي.

١ إحادة أعمال التريكو من الصفات الوراثية. ( )

٢ كل الصفات الوراثية تخضع لقوانين مندل. ( )

٣ كل بذور البازلاء الصفراء تحمل الصفة النقية. ( )

٤ صفة لون قرون البازلاء الصفراء ملازمة لصفة شكل القرن المحزز. ( )

٥ يحدث انعزال العوامل في عملية الانقسام الاختزالي. ( )

٦ صفة طول الساق من الصفات المتنحية في نبات البازلاء. ( )

٧ نمش الوجه من الصفات الوراثية التي تخضع لمبدأ السيادة التامة. ( )

٨ ليس هناك علاقة بين الجينات والإنزيمات. ( )

٩ كل المحاصيل الزراعية قابلة لإجراء تعديلات جينية عليها. ( )

١٠ تشابه البشر في أكثر من ٩٩٪ من DNA ( )

الوحدة 4

الهرمونات

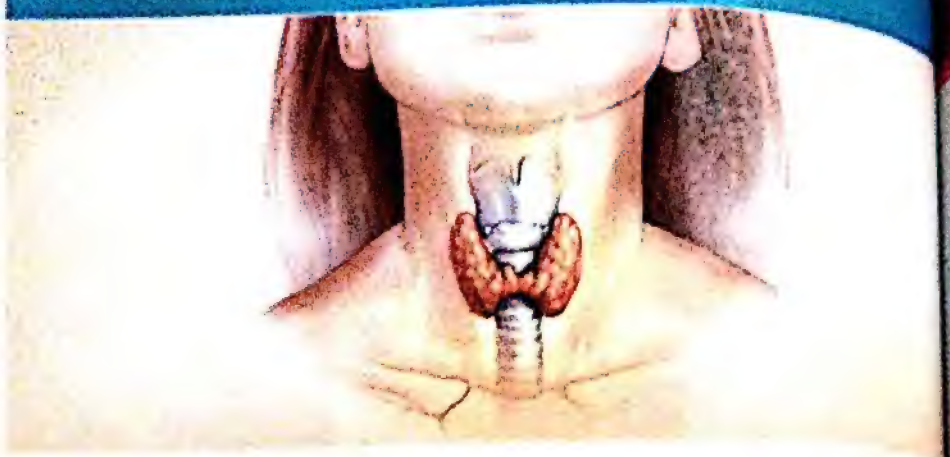

الدرس التنظيم الهرمونى فى الإنسان.

أهداف الوحدة : بعد دراسة هذه الوحدة يجب أن يكون التلميذ قادرا على أن :

- يذكر بعض الهرمونات ووظائفها بجسم الإنسان.
- يحدد دور الهرمونات فى اتزان البيئة الداخلية لجسم الإنسان.
- يعطى أمثلة لبعض الأمراض الناجمة عن الخلل الهرمونى فى جسم الإنسان.

مقدمة الوحدة :

- يوجد داخل جسم الإنسان مجموعة من الأعضاء تعرف بالغدد الصماء، تقوم بإفراز مواد كيميائية تعرف بالهرمونات، تتضافر فى عملها لتحقيق اتزان البيئة الداخلية لجسم الإنسان واختلال نسبة بعض هذه الهرمونات يؤدى إلى ظهور بعض الأمراض، مثل : السكر و الجويتر.

الدرس

التنظيم الهرمونى فى الإنسان

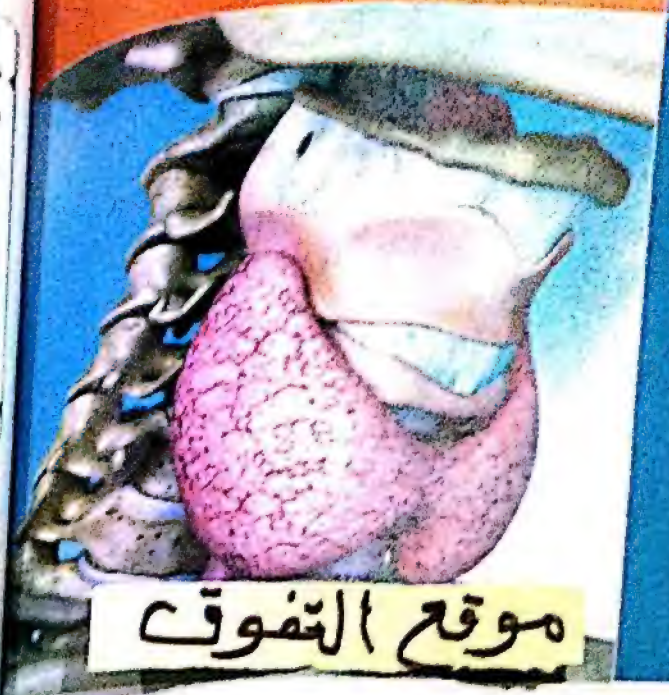

موقع التفوق

عناصر الدرس

- الهرمونات
- الغدد الصماء (اللاقنوية)
- الغدة النخامية
- الغدة الدرقية
- غدة البنكرياس
- الغدتان الكظريتان
- غدتا الخصية
- غدتا المبيض

أهداف الدرس

فى نهاية الدرس يجب أن يكون التلميذ قادرًا على أن:

1. يذكر أسماء بعض الغدد الصماء وإفرازاتها الهرمونية
2. يقارن بين الغدد الصماء فى جسم الرجل والمرأة
3. يصف الغدة النخامية ويحدد أهم إفرازاتها الهرمونية
4. يفسر سمنة الفراخ والخمنة
5. يصف الغدة الدرقية ويحدد أهم إفرازاتها الهرمونية
6. يقارن بين التضخم البسيط والتضخم المتوطن
7. يذكر دور هرمون الدرقين فى الجسم
8. يقارن بين دور هرمونى الإنسولين والجلوكاجون فى الجسم
9. يذكر إفرازات الغدد التناسلية
10. يذكر شخصية عالم الفراخ بهرمونات النمو

أهم المفاهيم

- الهرمونات
- الغدد الصماء (اللاقنوية)
- الخلايا المستهدفة
- الخلل الهرمونى
- البول السكرى

القصة الحياتية المتضمنة

نمو عالم قبل من مرض السكر

الهرمونات

علمت مما سبق دراسته أن الجهاز العصبى يقوم بتنظيم وتنسيق أنشطة ووظائف الأعضاء المختلفة بأجسام الكائنات الحية.

إلا أن تجارب وأبحاث العلماء أثبتت أن هناك مواد كيميائية تقوم بتنظيم وتنسيق هذه الأنشطة والوظائف جنبًا إلى جنب مع الجهاز العصبى.

ونعرف هذه المواد الكيميائية باسم **الهرمونات**.

الهرمونات

مواد (رسائل) كيميائية تنظم وتنسق معظم الأنشطة والوظائف الحيوية فى جسم الكائن الحى.

تفرز الهرمونات من أعضاء خاصة تسمى **الغدد الصماء (اللاقنوية)**.

الغدد الصماء (اللاقنوية)

تسمى الغدد الصماء (اللاقنوية) بهذا الاسم ... **علل؟**

لأنها تصب إفرازاتها (الهرمونات) فى مجرى الدم مباشرةً دون المرور فى قنوات.

الغدد الصماء

غدد لاقنوية، تصب إفرازاتها من الهرمونات فى الدم مباشرةً.

ويعتبر **الدم**:

هو السبيل الوحيد لكى تصل الهرمونات التى تفرزها الغدد الصماء إلى مواقع عملها (الخلايا المستهدفة) ... **علل؟**

لأن الخلايا التى يؤثر عليها الهرمون والتى تعرف بالخلايا المستهدفة تقع بعيدًا عن موقع الغدة الصماء المفرزة للهرمون.

الخلايا المستهدفة

الخلايا التى يؤثر فيها الهرمون - دون غيرها من الخلايا - وتقع غالبًا بعيدًا عن موقع الغدة الصماء المفرزة للهرمون.

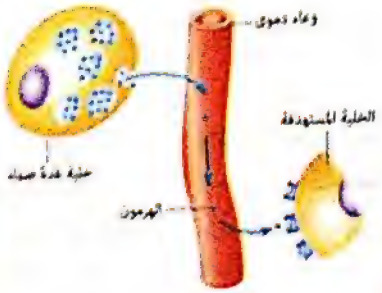

تنتقل الهرمونات من الغدد الصماء إلى الخلايا المستهدفة عبر الدم

أهم الغدد الصماء فى جسم الإنسان

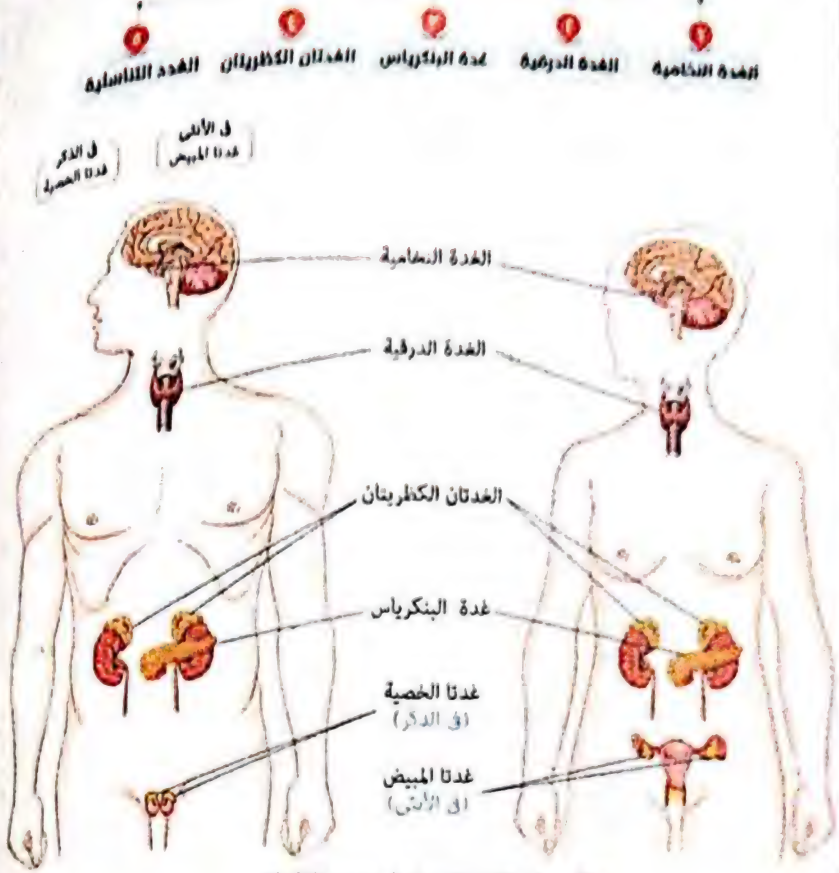

مواقع بعض الغدد الصماء فى جسم الإنسان

إفرازات الغدد الصماء

- تفرز الغدد الصماء ما يزيد عن ٥٠ هرمون فى جسم الإنسان، وذلك بكميات محدودة.
- وعند حدوث خلل فى عمل إحدى الغدد الصماء يؤثر ذلك على نسبة إفرازها (بالزيادة أو النقصان عن المستوى الطبيعى)، مسببًا أعراضًا مرضية، فيما يعرف **بالخلل الهرمونى**.

الخلل الهرمونى

زيادة أو نقص إفراز أحد الهرمونات نتيجة عمل الغدة الصماء المسئولة عنه بشكل غير طبيعى.

أ/ الغدة النخامية Pituitary Gland

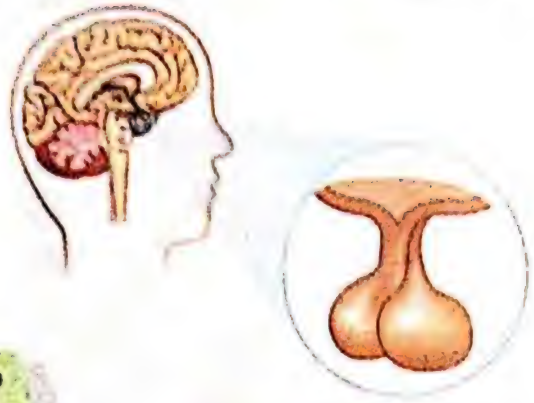

تتكون الغدة النخامية من فصين

موقع المتفوق

الوصف

- غدة صغيرة فى حجم حبة الحمص.
- تتكون من فصين.

الموقع

- توجد أسفل المخ.

الأهمية

- يطلق على الغدة النخامية اسم «سيدة الغدد الصماء» أو «الغدة الرئيسية» بالرغم من صغر حجمها ... **علل؟**

لأنها تفرز هرمونات تنظم أنشطة معظم الغدد الصماء الأخرى.

الإفراز الهرمونى

يفرز كل فص من الغدة النخامية مجموعة من الهرمونات المختلفة،
يوضح بعضها المخطط التالى :

هرمون النمو

أهميته

ينظم النمو العام للجسم، حيث يقوم بضبط معدل نمو :
- العضلات.
- العظام.
- أعضاء الجسم المختلفة.

لذا فهو يحدد الطول الذى سيصل إليه الطفل بعد مرحلة البلوغ.

يلعب هرمون النمو دورًا فى نمو
العظام و العضلات

مظاهر الخلل فى إفراز هرمون النمو

عند حدوث خلل فى إفراز الغدة النخامية لهرمون النمو فى مرحلة الطفولة فإن ذلك يؤدى إلى **حدوث إحدى الحالتين التاليتين :**

١ العملقة

زيادة إفراز الغدة النخامية لهرمون النمو فى مرحلة الطفولة

نمو مستمر فى عظام الأطراف، فيصبح الشخص عملاقًا
(يزيد طوله عن المترين)

٢ القزامة

نقص إفراز الغدة النخامية لهرمون النمو فى مرحلة الطفولة

توقف نمو الجسم، فيصبح الشخص قزمًا
(يقل طوله عن المتر)

(٢٤٦,٥سم) (٧٣سم)
أطول و أقصر رجلين فى العالم

ثانيًا الغدة الدرقية Thyroid Gland

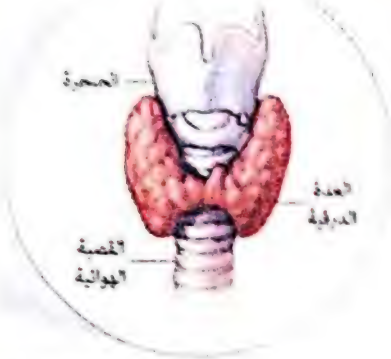

تتكون الغدة الدرقية
من فصين وهى تشبه الفراشة

- **الوصف** تتكون من فصين.
- **الموقع** توجد فى الجزء الأمامى للعنق أسفل الحنجرة على جانبى القصبة الهوائية.
- **الإفراز الهرمونى** تفرز الغدة الدرقية هرمونين، هما :

هرمون الثيروكسين (الدرقين)

يقوم بدور رئيسى فى عمليات التحول الغذائى بالجسم، عن طريق إطلاق الطاقة اللازمة للجسم من المواد الغذائية

أهميته

هرمون الكالسيتونين

ضبط مستوى الكالسيوم فى الدم

علل؟ ضرورة احتواء طعام الإنسان على عنصر اليود.

لأن عنصر اليود يدخل فى تركيب هرمون الثيروكسين الذى يقوم بدور رئيسى فى عمليات التحول الغذائى بالجسم.

مظاهر الخلل فى إفراز هرمون الثيروكسين

عند حدوث خلل فى إفراز الغدة الدرقية لهرمون الثيروكسين، فإن ذلك يؤدى إلى إصابة بمرض الجويتر (التضخم) والذى يتخذ شكلين، هما :

١ الجويتر البسيط	٢ الجويتر الجحوظى
نقص إفراز الغدة الدرقية لهرمون الثيروكسين ... **علل؟** لقلة اليود بالطعام	**زيادة إفراز الغدة الدرقية** لهرمون الثيروكسين بكميات كبيرة
تضخم الغدة الدرقية، وتضخم العنق	تضخم الغدة الدرقية، مصحوبًا بجحوظ العينين ونقص فى الوزن وسرعة الانفعال

الجويتر البسيط

قبل — بعد
الإصابة بالجويتر الجحوظى

للإيضاح فقط

يؤدى النقص فى إفراز الغدة الدرقية إلى تضخمها فى محاولة لتعويض نقص إفرازها

تدريب 1
انظر كراسة الواجب
الهرمونات إلى الغدة الدرقية

اختبر فهمك

١ اكتب المصطلح العلمي الدال على كل عبارة من العبارات الآتية :

(١) زيادة أو نقص إفراز أحد الهرمونات نتيجة عمل الغدة الصماء المسئولة عنه بشكل غير طبيعي. (الفيوم ١٩) (.....)

(٢) غدة تفرز هرمونًا ينظم نمو وتطور الأعضاء التناسلية للإنسان. (الغربية ١٦) (.....)

(٣) الحالة التي تنشأ نتيجة نقص إفراز هرمون النمو في مرحلة الطفولة. (الإسماعيلية ١٩) (.....)

٢ علل : يطلق على الغدد المفرزة للهرمونات اسم الغدد الصماء. (القاهرة ١٩)

- .....

٣ اذكر أهمية الغدة التخامية. (الشرقية ١٩)

- .....

٤ صوب ما تحته خط :

(١) تحدث للإنسان حالة العملقة نتيجة لزيادة إفراز هرمون التستوستيرون في مرحلة الطفولة. (القاهرة ١٧) (.....)

(٢) تقوم الغدة الدرقية بإفراز هرمون الدرقين المسئول عن ضبط مستوى الكالسيوم في الدم. (الدقهلية ١٥) (.....)

٥ من الشكل المقابل، أكمل ما يأتي : (أسوان ٢١)

(١) الغدة (X) تسمى .....

(٢) توجد الغدة (X) في الجزء الأمامي للعنق على جانبي .....

(٣) تفرز الغدة (X) هرمون يسمى ..... والذي يقوم بدور رئيسي في عمليات التحول الغذائي في جسم الإنسان.

(٤) يؤدي الخلل في إفراز الغدة (X) إلى إصابة الإنسان بمرض يعرف باسم .....

ثالثًا غدة البنكرياس Pancreas Gland

- **الموقع**

توجد بين المعدة و الأمعاء الدقيقة.

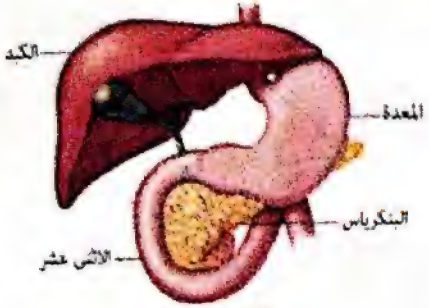

غدة البنكرياس

- **الإفراز الهرموني**

تفرز غدة البنكرياس هرمونين، هما :

هرمون الإنسولين

أهميته

خفض مستوى سكر الجلوكوز في الدم إلى المستوى الطبيعي

عن طريق تحفيز

- خلايا الجسم على امتصاص سكر الجلوكوز الزائد من الدم لاستخدامه في الحصول على الطاقة.
- خلايا الكبد على تخزين سكر الجلوكوز الزائد عن حاجة الجسم في صورة جليكوجين.

هرمون الجلوكاجون

أهميته

رفع مستوى سكر الجلوكوز في الدم إلى المستوى الطبيعي

عن طريق تحفيز

خلايا الكبد على تحويل السكر المختزن بها (الجليكوجين) إلى سكر جلوكوز ليكون متاحًا لخلايا الجسم

ماذا يحدث عند ؟

- **ارتفاع مستوى سكر الجلوكوز في الدم عن المستوى الطبيعي.**

تستجيب غدة البنكرياس بإفراز هرمون الإنسولين.

- **انخفاض مستوى سكر الجلوكوز في الدم عن المستوى الطبيعي.**

تستجيب غدة البنكرياس بإفراز هرمون الجلوكاجون.

• المخطط التالى يوضح دور هرمونى الإنسولين والجلوكاجون فى تنظيم نسبة السكر فى الدم.

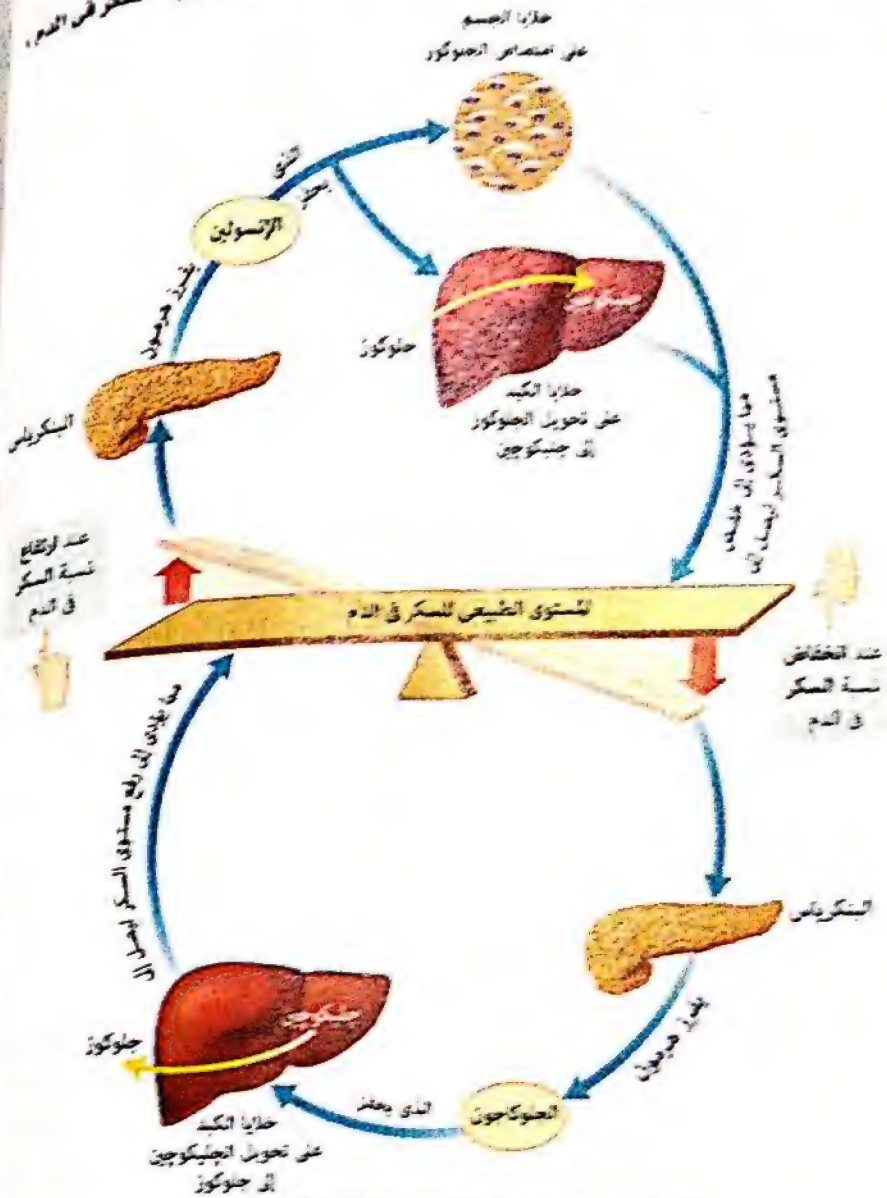

إنه ذاتى

أكمل المخطط التالى الذى يوضح دور هرمونى الإنسولين والجلوكاجون فى تنظيم نسبة السكر فى الدم مستخدمًا العبارات :

(سكر الجلوكوز فى الدم / جليكوجين فى خلايا الكبد)

هرمون الإنسولين ← يحول ← ..... إلى .....

هرمون الجلوكاجون ← يحول ← ..... إلى .....

حلل ؟

(١) البنكرياس غدة مزدوجة الوظيفة.

لأنه يفرز هرمونى الإنسولين و الجلوكاجون ووظيفة كل منهما مضادة (معاكسة) لوظيفة الآخر.

(٢) البنكرياس غدة مختلطة (لاقنوية و قنوية).

لأنه يعمل كغدة صماء (لاقنوية) بإفراز هرمونى الإنسولين والجلوكاجون وصبهما فى الدم مباشرةً بالإضافة إلى عمله كغدة قنوية بإفراز العصارة الهاضمة (البنكرياسية) وصبها فى الاثنى عشر للمساعدة فى عملية هضم الطعام.

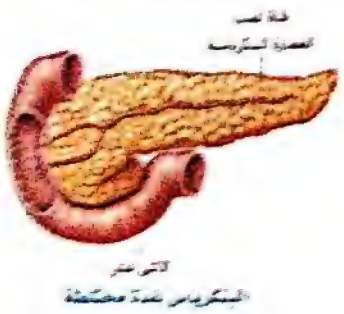

الامتحان

فكر جديد ...

تميز فى مجال التعليم

مظاهر الخلل فى إفراز هرمون الإنسولين

- عند حدوث خلل (نقص) فى إفراز غدة البنكرياس لهرمون الإنسولين، فإن ذلك يؤدى إلى الإصابة بمرض البول السكرى.

مرض البول السكرى

البول السكرى

حالة مرضية تحدث نتيجة نقص إفراز هرمون الإنسولين مما يؤدى إلى ارتفاع نسبة السكر فى الدم وخروجه مع البول.

سبب حدوثه

عدم قدرة خلايا الجسم على الاستفادة من سكر الجلوكوز نتيجة لنقص إفراز غدة البنكرياس لهرمون الإنسولين.

جهاز قياس مستوى السكر فى الدم

أعراض المرض

- الإحساس الدائم بالعطش.
- تعدد مرات التبول.

أداء ذاتى

من الشكل المقابل، أكمل :

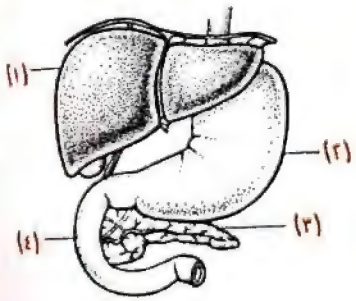

(١) العضو رقم ..... يختزن فى خلاياه سكر الجلوكوز الزائد عن حاجة الجسم فى صورة جليكوجين.

(٢) العضو رقم .....

(أ) يفرز هرمون الجلوكاجون الذى يؤدى إلى ..... مستوى سكر الجلوكوز فى الدم.

(ب) يفرز هرمون الإنسولين الذى يؤدى نقص إفرازه إلى الإصابة بمرض .....

رابعًا الغدتان الكظريتان Adrenal Glands

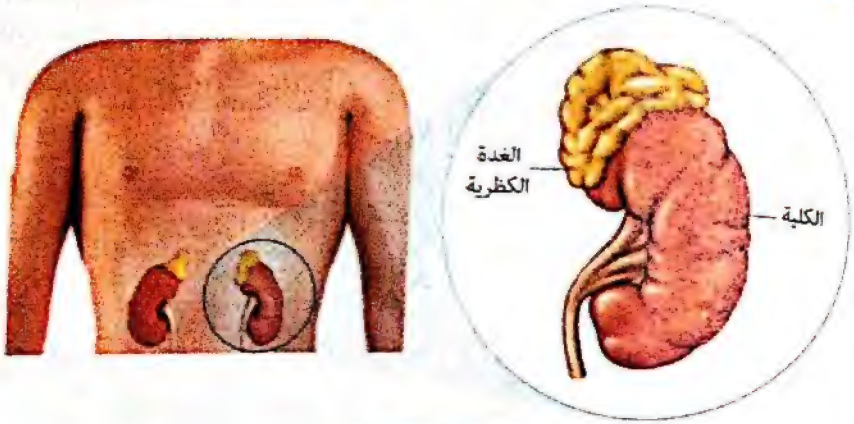

الغدة الكظرية

الموقع

توجدا فوق الكليتين.

الإفراز الهرمونى

تفرز الغدتان الكظريتان هرمون الأدرينالين.

هرمون الأدرينالين — **أهميته**: يحفز أعضاء الجسم المختلفة للاستجابة السريعة فى حالات الطوارئ، مثل : الخوف والغضب والانفعال

ما النتائج المترتبة على ؟

تعرض شخص لموقف مخيف كهجوم كلب مفترس.

تستجيب الغدة النخامية بإفراز الهرمون المنشط للغدتين الكظريتين واللتان تعملان على إفراز هرمون الأدرينالين الذى يحفز أعضاء الجسم المختلفة للاستجابة السريعة لمواجهة هذا الموقف أو الهروب منه.

مثال

في حالات الانفعال يتحول الجليكوجين إلى سكر جلوكوز.

اختر ، أيًا مما يأتي يعبر عن الهرمونات التي يتم إفرازها في حالات الانفعال ؟

الاختيارات	هرمون الأدرينالين	هرمون الجلوكاجون	هرمون الإنسولين
(أ)	✓	✗	✓
(ب)	✓	✓	✗
(جـ)	✗	✓	✗
(د)	✗	✗	✓

فكرة الحل

∵ في حالات الانفعال تستجيب الغدة الكظرية بإفراز هرمون الأدرينالين.

∴ يستبعد الاختيارين (جـ) ، (د)

∵ في حالات الانفعال يتحول الجليكوجين إلى سكر جلوكوز.

∴ يستجيب البنكرياس بإفراز هرمون الإنسولين ليعود السكر لمستواه الطبيعي.

وعليه فإن الاختيار الصحيح : (أ)

◄ **الحـــل :** الاختيار الصحيح : (أ)

خامسًا الغدد التناسلية Reproductive Glands

١ غدة الخصية Testes Glands

* تفرز الخصيتان هرمون الذكورة المعروف باسم **هرمون التستوستيرون.**

هرمون التستوستيرون — أهميته: **مسئول عن** ظهور الصفات الجنسية الثانوية في الذكور.

معلومة إضافية

تسبب الهرمونات الذكرية زيادة سُمك وقصر الأحبال الصوتية لدى المراهق، لذا يكون صوت الذكر غليظ، على العكس من ذلك يكون صوت الأنثى حاد لقلة سُمك وطول أحبالها الصوتية، فهي تهتز بسرعة أكبر من الأحبال الصوتية الغليظة بحنجرة الذكر

٢ غدة المبيض Ovaries Glands

* يفرز المبيضان هرمونى الأنوثة، وهما :

هرمون الإستروجين — أهميته: **مسئول عن** ظهور الصفات الجنسية الثانوية في الإناث

هرمون البروجستيرون — أهميته: **تحفيز** عملية نمو بطانة الرحم

* ويمكن تلخيص أهم إفرازات الغدد الصماء وأهمية كل منها في الجدول التالي :

الغدة الصماء	الإفراز الهرمونى	أهمية الهرمون
الغدة النخامية	هرمون النمو	تنظيم النمو العام للجسم حيث يضبط معدل نمو : • العضلات. • العظام. • أعضاء الجسم المختلفة.
	الهرمون المنشط للغدة الدرقية	تنشيط الغدة الدرقية لإفراز هرمونى الثيروكسين و الكالسيتونين
	الهرمون المنشط للغدتين الكظريتين	تنشيط الغدتين الكظريتين لإفراز هرمون الأدرينالين
	الهرمون المنشط للغدد الثديية	تنشيط الغدد الثديية لإفراز اللبن أثناء عملية الرضاعة
	الهرمون المنشط للغدد التناسلية	• تنظيم نمو وتطور الأعضاء التناسلية. • تنشيط الغدد التناسلية لإفراز هرموناتها قرب سن البلوغ.
	الهرمون المنظم لكمية الماء بالجسم	
	الهرمون الميسر لعملية الولادة	

الغدة الدرقية	هرمون الثيروكسين (الثيرولين)	يقوم بدور رئيسى فى عمليات التحول الغذائى بالجسم عن طريق إطلاق الطاقة اللازمة للجسم من المواد الغذائية
	هرمون الكالسيتونين	ضبط مستوى الكالسيوم فى الدم
الغدتان الكظريتان	هرمون الأدرينالين	تحفيز أعضاء الجسم للاستجابة السريعة فى حالات الطوارئ
غدة البنكرياس	هرمون الإنسولين	خفض مستوى سكر الجلوكوز فى الدم إلى المستوى الطبيعى
	هرمون الجلوكاجون	رفع مستوى سكر الجلوكوز فى الدم إلى المستوى الطبيعى
الغدة النخامية	هرمون التستوستيرون	ظهور الصفات الجنسية الثانوية فى الذكور
	هرمون الإستروجين	ظهور الصفات الجنسية الثانوية فى الإناث
	هرمون البروجستيرون	تحفيز عملية نمو بطانة الرحم

أداء ذاتى

ادرس الشكل المقابل، ثم أجب عما يأتى :

(١) استبدل الأرقام بالبيانات المناسبة.

(٢) اذكر الرقم الدال على الغدة التى :

(أ) تفرز الهرمون المنشط للغدة (٥).

(ب) تفرز هرمون يحفز أعضاء الجسم للاستجابة السريعة فى حالات الطوارئ.

(جـ) تؤثر إفرازاتها على مستوى سكر الجلوكوز فى الدم.

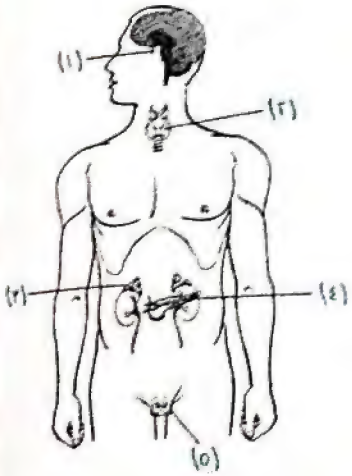

الحل :

(١) (١) : ..... (٢) : .....

(٣) : ..... (٤) : .....

(٥) : .....

(٢) (أ) ..... (ب) ..... (جـ) .....

العلم و التكنولوجيا و المجتمع — تخليق هرمون النمو بالهندسة الوراثية

- اكتشف العلماء أن سبب القزامة يرجع إلى عجز الغدة النخامية لدى هؤلاء الأقزام عن إفراز الكميات المناسبة من هرمون النمو.
- وفى تجربة لعلاج الأطفال الأقزام، تم حقنهم بهرمون النمو المستخلص من جثث الأشخاص حديثى الوفاة فكانت النتيجة استجابة خلاياهم للنمو بشكل طبيعى.
- فبحث العلماء عن مصدر آخر لهرمون النمو لعلاج المصابين بالقزامة بدلًا من المستخلص من الأفراد حديثى الوفاة ... **علل ؟** لضآلة كميات الهرمون المستخلص بهذه الطريقة بالإضافة إلى احتمالية احتوائه على بعض الميكروبات التى قد تتسبب فى الإصابة بأمراض متنوعة.
- وفى عام ١٩٧٩م نجح فريق من العلماء فى إدخال الجين البشرى الذى يحمل تعليمات تخليق هرمون النمو البشرى فى حمض DNA بخلايا بكتيرية باستخدام تقنية الهندسة الوراثية ... **ما النتائج المترتبة على ذلك ؟** تمكن العلماء من تخليق هرمون النمو البشرى معمليًا بكميات وفيرة.
- وبعد الحصول على هذه الكميات من هذا الهرمون، تمت تنقيته وأجريت عليه التجارب والأبحاث التى أثبتت صلاحيته للاستخدام البشرى فى عام ١٩٨٥م.

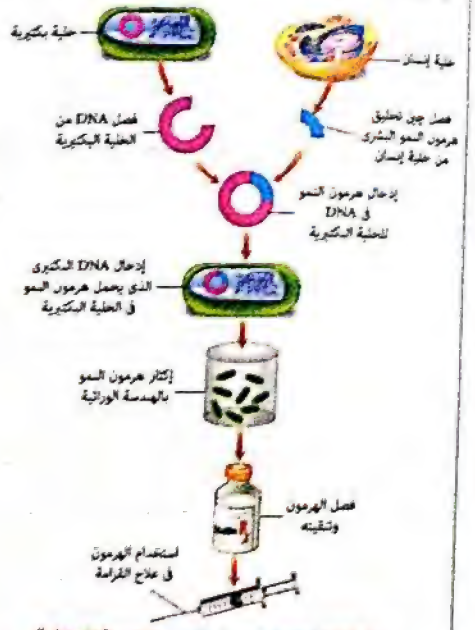

خطوات تخليق هرمون النمو بالهندسة الوراثية

؟ اذكر أهمية هرمون النمو البشرى.

تدريب 2

انظر كراسة الواجب

غدة البنكرياس إلى آخر الدرس

مجاب عنها بكراسة الواجب

أولًا أسئلة الكتاب المدرسي مجاب عنها

١ أكمل العبارات الآتية بما يناسبها :

(١) تُفرز الهرمونات فى الجسم من أعضاء خاصة تسمى ..... (محافظة سوهاج ٢٠١٧)

(٢) المادة الكيميائية التى تعمل على ضبط وتنظيم وظائف معظم أجزاء الجسم تعرف باسم ..... (سوهاج ١٥)

(٣) الثيروكسين عبارة عن ..... ينظم عملية التحول الغذائى بالجسم. (الإسماعيلية ١٩)

(٤) عندما يقل إفراز هرمون النمو فى مرحلة الطفولة يصبح الإنسان ..... (السويس ١٩)

(٥) عندما تنخفض كمية الجلوكوز فى الدم يفرز البنكرياس هرمون ..... (أسوان ١٩)

(٦) عندما تقل كمية اليود بالطعام يقل إفراز هرمون ..... من الغدة ..... (المنيا ١٩)

(٧) يُفرز هرمون ..... عندما ترتفع نسبة سكر الجلوكوز بالدم. (سوهاج ١٦)

٢ اكتب المصطلح العلمى الدال على كل عبارة مما يأتى :

(١) رسائل كيميائية تضبط وتنظم أنشطة ووظائف معظم أعضاء الجسم. (الإسماعيلية ٢١)

(٢) الأعضاء المفرزة للهرمونات بجسم الإنسان. (شمال سيناء ٢١)

(٣) ما ينجم عندما لا تعمل إحدى الغدد الصماء بالشكل الصحيح. (المنوفية ١٧)

(٤) الهرمون المسئول عن ظهور الصفات الجنسية الثانوية فى ذكر الإنسان. (الغربية ٢١)

(٥) الغدة التى تفرز هرمونًا ينظم نمو الأعضاء التناسلية للإنسان. (الغربية ١٦)

٣ ضع علامة (✓) أو علامة (✗) أمام العبارات الآتية، مع تصويب الخطأ إن وجد :

(١) تفرز الغدة الدرقية هرمونًا ينظم نمو وتطور الأعضاء التناسلية فى الإنسان. ( )

(٢) يقوم هرمون الكالسيتونين بضبط مستوى الكالسيوم بجسم الإنسان. ( )

(٣) يفرز هرمون الجلوكاجون من الغدة النخامية. (قنا ١٥) ( )

(٤) تنجم القزامة عن نقص إفراز هرمون الإنسولين بجسم الإنسان. (أسيوط ١١) ( )

(٥) يدخل عنصر الحديد فى تركيب هرمون الثيروكسين. (أسيوط ٢١) ( )

٤ علل لما يأتى :

(١) يتخطى طول بعض الأشخاص المترين. (أسيوط ١٧)

(٢) للغدتين الكظريتين دور هام عند تعرض الإنسان لحالات الطوارئ. (المنوفية ١٧)

(٣) البنكرياس غدة مزدوجة الوظيفة. (قنا ١٩)

(٤) تلعب الغدة الدرقية دورًا هامًا فى ضبط مستوى الكالسيوم فى الدم. (أسيوط ١٧)

(٥) يطلق على الغدة النخامية سيدة الغدد. (كفر الشيخ ١٩)

(٦) يصل طول بعض الأشخاص البالغين إلى أقل من نصف متر. (شمال سيناء ١٧)

٥ اختر الإجابة الصحيحة مما بين القوسين :

(١) يقوم هرمون ..... بإطلاق الطاقة اللازمة للجسم من المواد الغذائية. (بورسعيد ٢١)

(النمو / الإستروجين / الثيروكسين)

(٢) الهرمون المسئول عن ظهور الصفات الجنسية الثانوية الذكرية هو ..... (الغربية ١٩)

(البروجستيرون / التستوستيرون / الأدرينالين)

ثانيًا أسئلة كتاب الامتحان مجاب عنها

تم الإجابة على أسئلة دليل تقويم الطالب بالمعلمة

١ اختر الإجابة الصحيحة مما بين الإجابات المعطاة :

من الهرمونات إلى الغدة الدرقية

(١) أيًا من الأجهزة الآتية تعمل مع الغدد الصماء على تنظيم الأنشطة والوظائف الحيوية بالجسم ؟ .....

(أ) الجهاز المناعى. (ب) الجهاز العصبى.

(جـ) الجهاز التنفسى. (د) الجهاز التناسلى.

(٢) ..... هو السبيل الوحيد لوصول الهرمونات إلى الخلايا المستهدفة. (مطروح ١٧)

(أ) اللعاب (ب) الدم

(جـ) الماء (د) القنوات

(٣) الخلايا المستهدفة هى الخلايا التى ..... (بنى سويف ١٧)

(أ) تفرز الهرمون. (ب) تنقل الهرمون.

(جـ) تتأثر بالهرمون. (د) ترفض استقبال الهرمون.

(٤) تفرز ..... هرمونًا يسهل عملية الولادة. (المنيا ١٦)

(أ) الغدة النخامية (ب) غدة المبيض

(جـ) الغدة الكظرية (د) الغدة الدرقية

(٥) تفرز الغدة ..... هرمون الكالسيتونين.

(أ) الكظرية (ب) الدرقية

(جـ) النخامية (د) البنكرياسية

(٦) يضبط هرمون الكالسيتونين مستوى ..... في الدم.

(أ) البوتاسيوم (ب) الأكسجين

(جـ) الكالسيوم (د) الحديد

(٧) الغدتان ..... تتحكمان في مستوى الثيروكسين في الدم.

(أ) النخامية و الدرقية (ب) النخامية و الكظرية

(جـ) الدرقية و الكظرية (د) النخامية و البنكرياس

(٨) الهرمون الذي يؤدي نقص إفرازه إلى تضخم الغدة الدرقية هو .....

(أ) الثيروكسين (ب) الإنسولين

(جـ) الإستروجين (د) الأدرينالين

(٩) الجويتر البسيط يحدث عندما يقل هرمون الثيروكسين نتيجة نقص ..... في الطعام.

(أ) اليود (ب) الكالسيوم

(جـ) البوتاسيوم (د) الصوديوم

من غدة البنكرياس إلى آخر الدرس

(١٠) يفرز البنكرياس هرمون ..... الذي يعمل على خفض مستوى السكر في الدم.

(أ) الجلوكاجون (ب) البروجستيرون

(جـ) الإنسولين (د) الإستروجين

(١١) يحفز هرمون الجلوكاجون خلايا الكبد على تحويل ..... المخزن فيها إلى سكر جلوكوز.

(أ) الكازوتين (ب) الجليكوجين

(جـ) الجليسرين (د) البروتيناميين

(١٢) عمل هرمون ..... مضاد لعمل هرمون الإنسولين.

(أ) التستوستيرون (ب) الجلوكاجون

(جـ) الأدرينالين (د) النمو

(١٣) ..... غدة مزدوجة الوظيفة.

(أ) الغدة النخامية (ب) الغدة جار الدرقية

(جـ) غدة البنكرياس (د) الغدة الكظرية

(١٤) تقع فوق الكلية.

(أ) الغدة الدرقية (ب) غدة البنكرياس

(جـ) الغدة الكظرية (د) غدة الخصية

(١٥) في حالة الانفعال يزداد إفراز هرمون .....

(أ) الأدرينالين (ب) الثيروكسين

(جـ) النمو (د) البارا ثرمون

(١٦) يفرز هرمون التستوستيرون من .....

(أ) الغدة النخامية (ب) الخصيتين

(جـ) المبيضين (د) الغدة الدرقية

(١٧) يظهر هرمون ..... الصفات الجنسية الثانوية في الذكر.

(أ) الإنسولين (ب) الإستروجين

(جـ) التستوستيرون (د) البروجستيرون

(١٨) أمكن تخليق هرمون ..... بتقنية الهندسة الوراثية لعلاج حالات القزامة.

(أ) البارا ثرمون (ب) التستوستيرون

(جـ) البروجستيرون (د) النمو

٢ اكتب المصطلح العلمي الدال على كل عبارة من العبارات الآتية :

(١) مواد كيميائية تنظم أغلب التفاعلات البيولوجية في جسم الكائن الحي.

(٢) غدد لافنوية، تصب إفرازاتها من الهرمونات في الدم مباشرةً.

(٣) خلايا يؤثر فيها الهرمون وتقع بعيداً عن موقع الغدة الصماء المفرزة له.

(٤) الخلل الناشئ عن عمل إحدى الغدد الصماء بشكل غير طبيعي.

(٥) * غدة تقع أسفل المخ وتتكون من فصين كلاً منهما يفرز العديد من الهرمونات المختلفة.

* الغدة المسئولة عن إفراز هرمون يعمل على توازن كمية الماء بالجسم.

(٦) الحالة التي تنشأ نتيجة زيادة إفراز هرمون النمو في مرحلة الطفولة.

(٧) الحالة المرضية التي تنشأ نتيجة نقص إفراز هرمون الثيروكسين.

(٨) الحالة المرضية التي تنشأ نتيجة زيادة إفراز هرمون الثيروكسين.

(٩) الحالة المرضية التي تنشأ نتيجة نقص إفراز هرمون الإنسولين.

٣ اذكر اسم الهرمون الذى تدل عليه كل عبارة من العبارات الآتية :

(١) الهرمون الذى تفرزه الغدة النخامية ويعمل على ضبط معدل نمو العضلات والعظام. (سوهاج ١٩)

(٢) الهرمون الذى يؤدى نقصه إلى الإصابة بمرض الجويتر البسيط.

(٣) الهرمون الذى يحفز خلايا الكبد على تخزين سكر الجلوكوز الزائد عن حاجة الجسم فيها.

(٤) • الهرمون الذى يفرز عند انخفاض نسبة سكر الجلوكوز فى الدم. (بنى سويف ١١)

• الهرمون الذى يحفز خلايا الكبد على إطلاق السكر المختزن بها. (الجيزة ١٣)

• الهرمون الذى يحفز خلايا الكبد على تحويل الجليكوجين إلى سكر جلوكوز فى الدم. (الإسماعيلية ١٢)

(٥) الهرمون الذى يحفز أعضاء الجسم المختلفة للاستجابة السريعة فى حالات الطوارئ. (بنى سويف ١٩)

(٦) الهرمون المسئول عن ظهور الصفات الجنسية الثانوية فى الذكور. (ج. سيناء ١٢)

(٧) الهرمون المسئول عن ظهور الصفات الجنسية الثانوية فى الإناث. (القاهرة ١٩) (الإسكندرية ١٩)

٤ اذكر الإفرازات الهرمونية للغدد الآتية فى حدود ما درست :

(١) الغدة النخامية. (٢) الغدة الدرقية.

(٣) غدة البنكرياس. (٤) الغدتان الكظريتان.

(٥) الخصيتان. (كفر الشيخ ١٣) (٦) المبيضان. (كفر الشيخ ١٣)

٥ اذكر الهرمون الذى يؤدى حدوث خلل فى إفرازه إلى الحالات الآتية :

(١) القزامة. (القليوبية ١٦) (٢) العملقة.

(٣) التضخم (الجويتر) البسيط. (القليوبية ١٦) (٤) التضخم الجحوظى.

(٥) البول السكرى. (القليوبية ١٦)

٦ أكمل العبارات الآتية بما يناسبها :

من الهرمونات إلى الغدة الدرقية

(١) يعمل كل من ..... و ..... على تنظيم وتنسيق معظم الأنشطة والوظائف الحيوية فى جسم الكائن الحى.

(٢) يوجد أسفل المخ غدة صغيرة جدًا تسمى الغدة ..... وعلى الرغم من صغر حجمها، إلا أنها تعرف باسم ..... (المنيا ١٩)

(٣) تفرز الغدة ..... هرمونًا ينظم النمو العام لجسم الإنسان. (القاهرة ٢١)

(٤) عندما يقل إفراز هرمون ..... فى مرحلة ..... يصبح الإنسان قزمًا. (السويس ١٦)

(٥) تتكون الغدة ..... من فصين يقعان فى الجزء الأمامى للعنق، وتفرز هرمونى ..... و ..... (الدقهلية ١٩)

(٦) يفرز هرمون ..... عندما يزداد مستوى الكالسيوم فى الدم. (الجيزة ١٧)

(٧) من أعراض مرض الجويتر الجحوظى ..... و ..... و .....

من غدة البنكرياس إلى آخر الدرس

(٨) توجد غدة البنكرياس بين ..... و .....

(٩) يفرز ..... هرمون ..... لرفع مستوى سكر الجلوكوز فى الدم. (الشرقية ١٥)

(١٠) عند ارتفاع نسبة سكر الجلوكوز فى الدم عن المعدل الطبيعى يقوم البنكرياس بإفراز هرمون ..... الذى يحفز الجسم على امتصاص ..... من الدم. (كفر الشيخ ١٧)

(١١) نقص إفراز ..... لهرمون الإنسولين يؤدى إلى الإصابة بمرض ..... (الشرقية ١١)

(١٢) تفرز الغدة ..... هرمون الأدرينالين الذى يحفز الجسم للاستجابة السريعة فى حالات ..... (القليوبية ١٣)

(١٣) يفرز ..... هرمون الإستروجين المسئول عن ..... فى الإناث.

(١٤) هرمون ..... يضبط مستوى الكالسيوم بالدم، بينما هرمون ..... يحفز نمو بطانة الرحم. (سوهاج ١٩)

(١٥) نجح العلماء فى علاج قزامة الأطفال باستخدام تقنية ..... عن طريق إدخال ..... الذى يحمل تعليمات تخليق هرمون النمو فى حمض DNA بخلايا بكتيرية.

٧ أكمل الجدول التالى :

	الهرمون	الغدة التى تفرزه	أهمية الهرمون
(١)	الهرمون المنشط للغدد التناسلية	.....	.....
(٢)	.....	.....	تنشيط الغدد الثديية لإفراز اللبن
(٣)	هرمون الدرقين	.....	.....
(٤)	هرمون الإنسولين	.....	.....
(٥)	.....	الغدتان الكظريتان	.....
(٦)	.....	غدتا الخصية	.....
(٧)	.....	.....	مسئول عن ظهور الصفات الجنسية الثانوية فى الإناث

٨ اختر من العمود (B) ما يناسب العمود (A) وأعد كتابة العبارات كاملة :

(A)	(B)
المرض (الحالة)	السبب
(١) البول السكري	(١) زيادة إفراز هرمون النمو بعد مرحلة البلوغ.
(٢) التضخم البسيط	(٢) نقص إفراز هرمون النمو أثناء مرحلة الطفولة.
(٣) التضخم الجحوظي	(٣) زيادة إفراز هرمون النمو أثناء مرحلة الطفولة.
(٤) العملقة	(٤) نقص إفراز هرمون الثيروكسين.
(٥) القزامة	(٥) زيادة إفراز هرمون الثيروكسين.
	(٦) نقص إفراز هرمون الإنسولين.

٩ اختر من العمودين (B) ، (C) ما يناسب العمود (A) وأعد كتابة العبارات كاملة :

(A)	(B)	(C)
الغدة	الهرمون الذي تفرزه	أهمية الهرمون
(١) الغدتان الكظريتان	(١) الكالسيتونين	(١) يحفز عملية نمو بطانة الرحم.
(٢) البنكرياس	(٢) الأدرينالين	(٢) يحفز انطلاق سكر الجلوكوز من خلايا الكبد.
(٣) المبيضان	(٣) التستوستيرون	(٣) ضبط مستوى الكالسيوم في الدم.
(٤) الغدة الدرقية	(٤) البروجستيرون	(٤) يحفز تخزين سكر الجلوكوز في خلايا الكبد.
	(٥) الجلوكاجون	(٥) يظهر الصفات الجنسية الثانوية في الإناث.
		(٦) تحفيز أعضاء الجسم للاستجابة في حالات الطوارئ.

١٠ صوب ما تحته خط من العبارات الآتية :

من الهرمونات إلى الغدة الدرقية

(١) تُفرز الهرمونات في الجسم من أعضاء خاصة تسمى الغدد القنوية.

(٢) توجد الغدة النخامية أسفل البنكرياس.

(٣) تفرز الغدة الدرقية هرمون ينظم نمو الأعضاء التناسلية في الإنسان.

(٤) ينتج مرض الجويتر عن حدوث خلل في إفراز الغدة النخامية.

(٥) زيادة إفراز هرمون الكالسيتونين تؤدي إلى الإصابة بمرض التضخم الجحوظي.

من غدة البنكرياس إلى آخر الدرس

(٦) هرمون الإنسولين يحفز انطلاق سكر الجلوكوز من الكبد.

(٧) عند انخفاض مستوى السكر في الدم يستجيب الكبد بإفراز هرمون الجلوكجون.

(٨) يفرز هرمون الإستروجين عند ارتفاع نسبة سكر الجلوكوز في الدم.

(٩) يصاب الإنسان بمرض البول السكري نتيجة نقص إفراز هرمون الجلوكجون.

(١٠) إزالة الغدة الدرقية من الجسم تؤدي إلى عدم إفراز هرمون الثيروكسين والذي يحفز أعضاء الجسم للاستجابة السريعة في حالات الطوارئ.

(١١) هرمون البروجستيرون مسئول عن ظهور الصفات الجنسية الثانوية في الإناث.

(١٢) هرمون الأدرينالين يحفز نمو بطانة الرحم.

١١ استنتج الكلمة أو العبارة غير المناسبة، ثم اذكر ما يربط بين باقي الكلمات أو العبارات :

(١) الغدة النخامية / الغدة الكظرية / الغدة الدرقية / غدة البنكرياس.

(٢) هرمون النمو / الهرمون المنشط للغدة الدرقية / الهرمون المنشط للغدد التناسلية / هرمون الإنسولين.

(٣) القزامة / العملقة / البول السكري / السرطان.

(٤) التستوستيرون / الكالسيتونين / الإستروجين / البروجستيرون.

١٢ اذكر أهمية (وظيفة) كل من :

من الهرمونات إلى الغدة الدرقية

(١) الغدد الصماء.

(٢) هرمون النمو.

(٣) الهرمونات.

(٤) الهرمون المنشط للغدد الثديية.

(٥) الهرمون المنشط للغدد التناسلية.

(٦) هرمون الكالسيتونين.

من غدة البنكرياس إلى آخر الدرس

(٧) هرمون الجلوكاجون.

(٨) هرمون الإنسولين.

(٩) الغدتان الكظريتان.

(١٠) هرمون الأدرينالين.

(١١) هرمون التستوستيرون.

(١٢) هرمون البروجستيرون.

(١٣) هرمون الإستروجين.

(١٤) تنظيم هرمون النمو البشري.

١٣ علل لما يأتى :

من الهرمونات إلى الغدة الدرقية

(١) تسمية الغدد الصماء بهذا الاسم. (الفيوم ١٥)

(٢) الدم هو السبيل الوحيد لكى يصل الهرمون إلى موقع عمله (الخلايا المستهدفة). (دمياط ٢١)

(٣) يطلق على الغدة النخامية سيدة الغدد الصماء أو الغدة الرئيسية. (القاهرة ١٦)

(٤) تلعب الغدة النخامية دورًا هامًا فى عمليتى الولادة والرضاعة.

(٥) يحدث لبعض الأشخاص نمو مستمر فى عظام أطرافهم مما يجعلهم عمالقة. (الوادى الجديد ١٩)

(٦) قد يحدث توقف لنمو الجسم ويصبح الشخص قزمًا بعد مرحلة البلوغ. (الدقهلية ٢١)

(٧) تلعب الغدة الدرقية دورًا هامًا فى ضبط مستوى الكالسيوم فى الدم. (مطروح ١٧)

(٨) ضرورة احتواء طعام الإنسان على عنصر اليود. (الإسماعيلية ١٦)

(٩) خلل نسبة هرمون الثيروكسين فى الدم لدى بعض الأشخاص.

(١٠) إصابة بعض الأشخاص بحالة الجويتر البسيط. (الفيوم ١٩)

(١١) تضخم الغدة الدرقية عند بعض الأشخاص ونقص وزنهم بشكل ملحوظ. (قنا ١٥)

(١٢) يمكن تشخيص حالة الجويتر الجحوظى من المظهر الخارجى للشخص.

من غدة البنكرياس إلى آخر الدرس

(١٣) انخفاض مستوى سكر الجلوكوز فى الدم بعد إفراز هرمون الإنسولين.

(١٤) يزداد إفراز هرمون الجلوكاجون عند انخفاض نسبة سكر الجلوكوز فى الدم. (المنيا ١٦)

(١٥) تضبط غدة البنكرياس مستوى سكر الجلوكوز فى الدم. (البحيرة ١٥)

(١٦) البنكرياس غدة مزدوجة الوظيفة. (المنيا ١٩)

(١٧) البنكرياس غدة مختلطة.

(١٨) ارتفاع مستوى سكر الجلوكوز فى الدم عند مرضى البول السكرى.

(١٩) يُعالج بعض مرضى البول السكرى بحقن الإنسولين.

(٢٠) يطلق على الغدة الكظرية غدة الانفعال. (الإسماعيلية ٢١)

(٢١) بحث العلماء عن مصدر آخر لهرمون النمو لعلاج المصابين بالقزامة بدلًا من المستخلص من الأفراد حديثى الوفاة.

١٤ ما المقصود بكل من :

(١) الهرمونات. (أسيوط ٢١) (٢) الغدد الصماء (اللاقنوية). (قنا ١٧)

(٣) الخلايا المستهدفة. (٤) الخلل الهرمونى. (المنيا ١٦)

(٥) القزامة. (المنوفية ١٧) (٦) الجويتر البسيط.

(٧) التضخم الجحوظى. (الإسكندرية ١٦) (٨) البول السكرى. (سوهاج ١٧)

١٥ ما النتائج المترتبة على كل مما يأتى :

من الهرمونات إلى الغدة الدرقية

(١) عمل إحدى الغدد الصماء بشكل غير طبيعى. (الفيوم ١٧)

(٢) نقص نشاط الغدة النخامية بالجسم. (الدقهلية ١٩)

.....

(٣) نقص إفراز هرمون النمو أثناء مرحلة الطفولة. (جنوب سيناء ٢١)

.....

(٤) زيادة إفراز هرمون النمو أثناء مرحلة الطفولة. (الوادى الجديد ١٧)

.....

(٥) زيادة إفراز هرمون الثيروكسين بكميات كبيرة. (الدقهلية ١٩)

.....

(٦) نقص أملاح اليود فى مياه وغذاء الإنسان. (الوادى الجديد ٢١)

.....

من غدة البنكرياس إلى آخر الدرس

(٧) توقف البنكرياس عن إفراز هرمون الجلوكاجون «بالنسبة لمستوى السكر فى الدم». (الفيوم ١٩)

.....

(٨) زيادة إفراز البنكرياس لهرمون الإنسولين. (الأقصر ٢١)

.....

(٩) انخفاض مستوى سكر الجلوكوز فى الدم عن المستوى الطبيعى. (القاهرة ٢١)

.....

(١٠) ارتفاع مستوى سكر الجلوكوز فى الدم عن المستوى الطبيعى. (البحيرة ٢١)

.....

(١١) عدم قدرة خلايا الجسم على امتصاص سكر الجلوكوز من الدم. (الأقصر ١٩)

.....

(١٢) تعرض شخص لموقف مخيف كهجوم كلب شرس. (دمياط ١٣)

.....

(١٣) عجز المبيضان فى الأنثى عن إفراز هرمون الإستروجين قرب سن البلوغ.

.....

(١٤) إدخال الجين البشرى الذى يحمل تعليمات تخليق هرمون النمو البشرى فى حمض DNA بالخلايا البكتيرية. (المنوفية ١٧)

.....

١٦ قارن بين كل من :

من الهرمونات إلى الغدة الدرقية

(١) القزامة و العملقة، من حيث :

(أ) السبب. (بورسعيد ٢١)

(ب) مظهر الخلل. (الأقصر ١٩)

(٢) التضخم البسيط و التضخم الجحوظى، من حيث :

(أ) السبب. (بورسعيد ١٧)

(ب) أعراض المرض. (الدقهلية ١٩)

من غدة البنكرياس إلى آخر الدرس

(٣) هرمون الجلوكاجون و هرمون الكالسيتونين «من حيث : الغدة المفرزة لكل منهما». (القليوبية ١٥)

(٤) هرمون الإنسولين و هرمون الجلوكاجون «من حيث : الأهمية». (القليوبية ١٦)

(٥) الخصيتان و المبيضان «من حيث : الإفراز الهرمونى – أهمية الهرمون». (القاهرة ١٧)

(٦) هرمون التستوستيرون و هرمون الإستروجين، من حيث :

(أ) الغدة المفرزة. (الفيوم ١٧)

(ب) الأهمية. (الوادى الجديد ٢١)

١٧ ادرس الأشكال التالية، ثم أجب :

١ الشكل المقابل يعبر عن أحد الغدد الصماء فى جسم الإنسان :

(١) ما اسم الغدة (X) ؟

وما اسم الغدة المنظمة لعملها ؟

(ب) اذكر أهم إفرازات هذه الغدة. (قنا ١٣)

٢ من الشكل المقابل : (البحيرة ١٧)

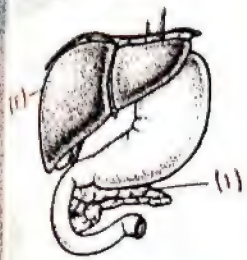

(أ) اكتب اسم كل من العضوين (١) ، (٢).

(ب) اذكر العلاقة بين العضو (١) والعضو (٢) عند انخفاض نسبة سكر الجلوكوز فى الدم عن المستوى الطبيعى.

٣ فى المخطط التالى :



(أ) استبدل الأرقام بما يناسبها من بيانات. (بنى سويف ٢١)

(ب) متى يُفرز الهرمون (٢) ؟ وما اسم الغدة المفرزة له ؟ (البحيرة ١٩)

(جـ) ما هى الخلايا المستهدفة للهرمون (١) ؟ (دمياط ١٦)

٤ من الشكل المقابل :

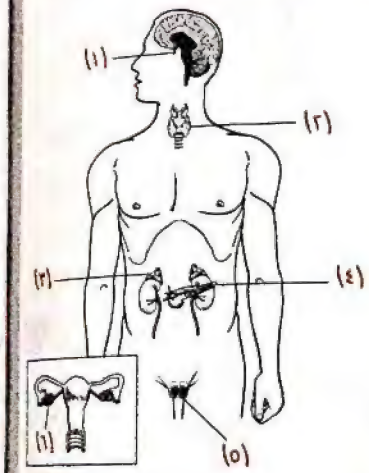

(أ) استبدل الأرقام بالبيانات المناسبة.

(ب) ما الرقم الدال على : (دمياط ١١)

١- الغدة التى توجد فى الإناث فقط.

٢- الغدة التى تؤثر إفرازاتها فى مستوى سكر الجلوكوز فى الدم.

٣- الغدة التى تتحكم فى إفراز الغدة (٥).

(جـ) اذكر إفرازات الغدد (٢) ، (٣) ، (٤).

(د) بماذا تُلقب الغدة (١) ؟ ولماذا ؟

(هـ) ما عدد فصوص الغدة (٢) ؟

(و) حدد موضع الغدة (٤) بالجسم.

٥ من الشكل المقابل : (الإسكندرية ٢١)

(أ) ما اسم الغدة (X) ؟

(ب) اذكر وظيفة الإفراز الهرمونى للغدة (X).

(جـ) ما اسم الغدة التى تؤثر على عمل الغدة (X) ؟

١٨ أسئلة متنوعة :

١ اذكر أهم الغدد الصماء فى جسم الإنسان.

٢ يؤدى تضخم الغدة الدرقية إلى ظهور أعراض مرضية واضحة :

(أ) حدد موقع الغدة الدرقية فى جسم الإنسان.

(ب) اذكر أثر كل من الزيادة والنقص فى إفراز الغدة الدرقية لهرمون الثيروكسين.

٣ يوجد فى جسم الإنسان ضمن الجهاز الهضمى غدة لها دور بارز فى عملية الهضم كما أنها تفرز هرمونين متعاكسين من حيث الوظيفة.

من العبارة السابقة حدد : (المنوفية ٢١)

(أ) اسم الغدة.

(ب) اسم الهرمونين.

٤ توجد غدتان ترتكزان فوق الكليتين يطلق عليهما غدتا الانفعال :

(أ) ما اسم هاتان الغدتان ؟

(ب) ما اسم الغدة التى تتحكم فى إفراز هاتان الغدتان ؟

(جـ) لماذا يطلق عليهما غدتا الانفعال ؟

أسئلة تقيس مستويات التفكير العليا — فجاب عنها

١٩ اختر الإجابة الصحيحة مما بين الإجابات المعطاة :

(١) فى إحدى التجارب قام أحد الباحثين بإزالة البنكرياس من أحد الفئران، أعراض أى من الأمراض الآتية يمكن أن تظهر على الفأر ؟ ..... (المنوفية ١٩)

(أ) الجويتر الجحوظى. (ب) الجويتر البسيط.

(جـ) العملقة. (د) البول السكرى.

(٢) من الشكل البيانى المقابل :
عند أى النقاط يبدأ إفراز الإنسولين ؟ .....

(أ) A
(ب) B
(جـ) C
(د) D

(٣) أيًا من الغدد الآتية لا تبدأ إفرازها للهرمونات إلا بعد فترة زمنية لا تقل عن ١٠ سنوات من ميلاد الشخص ؟ .....
(أ) البنكرياس.
(ب) الغدة الدرقية.
(جـ) المبيض.
(د) الغدة النخامية.

٢٠ أسئلة متنوعة :

(١) علل : لا يصاب سكان المناطق الساحلية بمرض الجويتر البسيط.

(٢) من الشكل البيانى المقابل :
ما الهرمون الذى يسبب التغير فى تركيز السكر فى الدم من X إلى Y ؟
وما الغدة المفرزة له ؟
(البحيرة ١٦)

أسئلة لتنمية التفكير الإبداعى

«تحقيق نتائج إبداعية»

أكمل العبارات الآتية بما يناسبها :

(١) إذا لم يفرز الفص الأمامى من الغدة النخامية الهرمون المنشط للغدد الثديية، فإن .....

(٢) إذا لم يحتوى الطعام على اليود، فإن .....

(٣) إذا زاد إفراز هرمون الإنسولين، فإن ذلك يؤدى إلى .....

(٤) إذا ارتفعت نسبة سكر الجلوكوز فى الدم ولم يستطع الكبد أو العضلات اختزانها، فإن ذلك يؤدى إلى .....

(٥) إذا زاد إفراز هرمون الأدرينالين ولو بنسبة ضئيلة جدًا، فإن ذلك يؤدى إلى .....

(٦) إذا لم يفرز المبيض هرمون البروجستيرون فى الدم طوال فترة الحمل، فإن .....

(٧) إذا لم تكن هناك غدد لعابية على جانبى الفم، فإن .....

(٨) إذا لم تفرز غدة البروستاتا سائل البروستاتا، فإن .....

(٩) إذا لم تكن هناك غدد عرقية، فإن .....

(١٠) إذا تم حقن الأطفال الأقزام بهرمون النمو، فإن .....

الفهـــرس

الموضوع	الصفحة: الشرح	الصفحة: الأسئلة
الوحدة 1 التفاعلات الكيميائية		
درس تمهيدي : نقاط هامة سبق دراستها في الأعوام الماضية.	١٣	-
الدرس الأول : التفاعلات الكيميائية.	١٦	٤٢
الدرس الثاني : سرعة التفاعلات الكيميائية.	٦٥	٨٨
الوحدة 2 الطاقة الكهربية و النشاط الإشعاعي		
الدرس الأول : الخصائص الفيزيائية للتيار الكهربي.	١٠٨	١٣٧
الدرس الثاني : التيار الكهربي و الأعمدة الكهربية.	١٦٠	١٧٦
الدرس الثالث : النشاط الإشعاعي و الطاقة النووية.	١٩٤	٢٠٦
الوحدة 3 الجينات و الوراثة		
الدرس : المبادئ الأساسية للوراثة.	٢١٨	٢٥٢
الوحدة 4 الهرمونات		
الدرس : التنظيم الهرموني في الإنسان.	٢٨٠	٢٩٨

تصريح وزارة التربية والتعليم رقم ٢٠٣ - ٢ - ...

سلسلة

المعتمد

2022

العلوم

إعداد صابر حكيم

كراسة التدريبات اليو
و المراجعة النهائية

الصف الثالث الإعدادى

الفصل الدراسى الثانى

GPS
الدولية للطبع والنشر والتوزيع
الفجالة - القاهرة
تليفون: ٢٥٨٥٥٥٥٥ - ٢٥٩٠٢٢٢٢ - ٠٢٢٢٥٨٨٨٨١
www.alemte7anbooks.com
Email: info@alemte7anbooks.com
الخط الساخن ١٥٠١٤

بسم الله الرحمن الرحيم

مقدمـــة

فى إطار تطوير منظومة التعليم وتحسين جودته،
بنقل المتعلم من إطار التعليم التقليدى إلى التعليم الإيجابى النشط،
يتطلب الأمر تضافر كل الجهود لإنجاح المنظومة
وتحقيق أهدافها المنشودة

ومن هنا :

كان حرص كتاب الامتحان فى مادة العلوم للصف الثالث الإعدادى على المشاركة فى إنجاح تلك النهضة بعرض المادة العلمية وأساليب التقويم بشكل غير تقليدى يناسب كافة المستويات

وللوصول إلى اكتشاف وتنمية جوانب القوة لدى التلميذ وإتاحة الفرصة له لإثبات ذاته فى الإنتاج والإبداع من خلال تشخيص جوانب الضعف وتفعيل برامج علاجها أولًا بأول

وكل ما نتمناه أن يحقق هذا الكتاب الأهداف المرجوة

سياستنا	تحديث، وتطوير مستمر.
هدفنا	تفوق، وليس مجرد نجاح.
شعارنا	معنا دائمًا فى المقدمة.

والله ولىّ التوفيق

أسرة سلسلة الامتحان

محتويات الكتاب

تتضمن كل وحدة

- تدريبات على كل درس.
- اختبارات على الدروس.
- نماذج امتحانات على الوحدة.
- أسئلة الكتاب المدرسى على الوحدة.

تم تقسيم كل درس إلى تدريبين بحيث تغطى أسئلة كل تدريب جزء من الدرس

تدريبات على الفصل الدراسى

- **أولا** اختبارات دليل تقويم الطالب.
- **ثانيا** تدريبات الكتاب المدرسى.
- **ثالثا** نماذج امتحانات الكتاب المدرسى.
- **رابعا** نماذج امتحانات المحافظات.

إجابات تشتمل

- إجابات أسئلة الدروس و الوحدات.
- إجابات تدريبات الكتاب المدرسى على الفصل الدراسى.
- إجابات نماذج امتحانات الكتاب المدرسى على الفصل الدراسى.
- إجابات نماذج امتحانات بعض المحافظات.

الوحدة 1

التفاعلات الكيميائية

تدريبات و اختبارات دورية

الدرس الأول

- تدريب 1 على التفاعلات الكيميائية إلى تفاعلات الإحلال البسيط. — اختبار على الدرس الأول
- تدريب 2 على تفاعلات الإحلال المزدوج و تفاعلات الأكسدة والاختزال.

الدرس الثانى

- تدريب 1 على سرعة التفاعل الكيميائى إلى أثر طبيعة المتفاعلات على سرعة التفاعل الكيميائى. — اختبار تراكمى على الدرس الأول و الثانى
- تدريب 2 على أثر تركيز المتفاعلات إلى أثر الإنزيمات على سرعة التفاعل الكيميائى. — نموذج امتحان على الوحدة

أسئلة الكتاب المدرسى على الوحدة

تدريبات على الدرس الأول وحدة أولى

تدريب 1 على التفاعلات الكيميائية إلى تفاعلات الإحلال البسيط

١ أكمل ما يأتى :

(١) فى تفاعلات ..... يتفكك المركب بالحرارة إلى عناصره الأولية، بينما
فى تفاعلات ..... يتم إحلال عنصر محل عنصر آخر فى محلول أحد أملاحه. (الشرقية ١٩)

(٢) عند تقريب عود ثقاب مشتعل من غاز ..... يشتعل بفرقعة،
بينما عند تقريبه من غاز ..... يزداد توهجه.

٢ أكمل المعادلتين الآتيتين، مع ذكر نوع التفاعل :

(1) ..... $\xrightarrow{\Delta}$ $CuO + H_2O\uparrow$ (تفاعل .....)

(2) $Zn + 2HCl \xrightarrow{\text{مخفف}}$ ..... + ... (تفاعل .....) (كفر الشيخ ٢١)

٣ وضح بالمعادلات الرمزية الموزونة كيفية الحصول على الأكسجين من نترات الصوديوم. (الدقهلية ١٩)

*

٤ ما النتائج المترتبة على إلقاء قطعة صوديوم فى حوض به ماء ؟ مع ذكر احتياط الأمان الواجب مراعاته عند إجراء هذا التفاعل، وكتابة معادلة التفاعل الرمزية الموزونة. (قنا ١٢)

*

٥ علل لما يأتى (مع كتابة المعادلات الرمزية الموزونة) :

(١) تأخر بدء تفاعل الألومنيوم مع حمض الهيدروكلوريك المخفف عمليًا. (الشرقية ٢١)

*

(٢) تكون راسب أحمر عند إضافة قطعة من الماغنسيوم إلى محلول كبريتات النحاس. (الشرقية ١٩)

* .....

.....

٦ فى الشكل المقابل، قام سامى بتسخين كل من الأنبوبتين (١) ، (٢) :

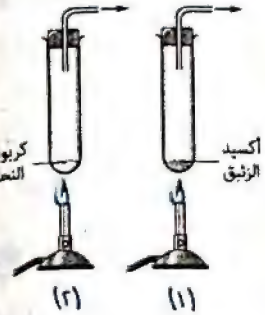

(١) ما لون المادة الموجودة فى كل من الأنبوبتين قبل التسخين ؟

(١) : .....

(٢) : .....

(٢) ما لون واسم المادة المتكونة فى كل من الأنبوبتين بعد التسخين ؟ (الإسماعيلية ٢١)

(١) : ..... / .....

(٢) : ..... / .....

٧ اشرح فكرة عمل الوسادة الهوائية،

مع كتابة المعادلة المعبرة عن التفاعل الحادث بداخلها. (الغربية ١٢)

* .....

.....

.....

.....

تدريب 2 على تفاعلات الإحلال المزدوج و تفاعلات الأكسدة و الاختزال

١ ما المقصود بكل من :

(١) تفاعلات الإحلال المزدوج. (القاهرة ١٤)

* .....

.....

(٢) الاختزال. (الأقصر ١٤)

* .....

* .....

(٣) العامل المختزل. (الإسكندرية ٢١)

* .....

* .....

(٤) العامل المؤكسد. (دمياط ١٤)

* .....

* .....

٢ اختر الإجابة الصحيحة مما بين القوسين :

(١) تفاعلات الإحلال المزدوج بين محاليل الأملاح تكون مصحوبة بتكوين ..... (الجيزة ١٨)

(فلز / راسب / أكسيد / لافلز)

(٢) تفاعل حمض مع قلوى لتكوين ملح وماء يسمى تفاعل ..... (المنيا ١٩)

(التعادل / الأكسدة والاختزال / الانحلال الحرارى / الإحلال البسيط)

(٣) الأكسدة عملية كيميائية تؤدى إلى زيادة نسبة ..... فى المادة. (سوهاج ١٩)

(الهيدروجين / الأكسجين / الهيليوم / الفلور)

(٤) يعبر التفاعل $2Cl^- \longrightarrow Cl_2 + 2e^-$ عن عملية ..... (البحيرة ١٩)

(أكسدة / اختزال / انحلال / إحلال)

٣ علل لما يأتى :

(١) تكون راسب أبيض عند إضافة محلول نترات الفضة إلى محلول كلوريد الصوديوم. (السويس ٢١)

* .....

.....

(٢) الأكسدة والاختزال عمليتان متلازمتان فى التفاعل الكيميائى. (الفيوم ١٤)

* لأن عدد ..... فى عملية الاختزال ..... فى عملية الأكسدة.

٤ في التفاعل : $H_2 + CuO \xrightarrow{\Delta} H_2O + Cu$

(١) ما اسم العملية التي حدثت لكل من :

١- CuO (.....)

٢- H_2 (.....)

(٢) حدد العامل المؤكسد والعامل المختزل، مع ذكر السبب. (قنا ٢١)

* ..... / .....

* ..... / .....

٥ ادرس التفاعل : $2Na + Cl_2 \longrightarrow 2Na^+ + 2Cl^-$ (البحيرة ٢٦)

ثم ضع علامة (✓) أمام العبارة الصحيحة و علامة (✗) أمام العبارة الخطأ :

(١) الصوديوم عامل مؤكسد. ( )

(٢) الكلور عامل مختزل. ( )

(٣) تحول ذرة الصوديوم إلى أيون صوديوم يمثل عملية أكسدة. ( )

(٤) تحول ذرة الكلور إلى أيون كلوريد يمثل عملية اختزال. ( )

٦ من الشكلين المقابلين :

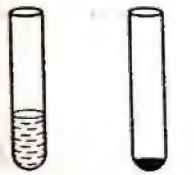

(١) وضح بالمعادلات الرمزية الموزونة ماذا يحدث عند إضافة حمض الهيدروكلوريك المخفف إلى كل من الأنبوبتين.

* .....

* .....

(٢) ما نوع التفاعل الحادث في كل من الأنبوبتين ؟

(١) : .....

(٢) : .....

(٣) كيف يمكنك الكشف عن الغاز المتصاعد من الأنبوبة (١) ؟ (الإسماعيلية ١٥)

* .....

اختبار على الدرس الأول وحدة أولى

١٥

أجب عن جميع الأسئلة الآتية :

السؤال الأول ٥ درجات (أ) ١,٥ درجة (ب) ٢ درجة (جـ) ١,٥ درجة

أ) أكمل ما يأتي :

(١) تتحل معظم كبريتات الفلزات بالحرارة إلى ..... وغاز ثالث أكسيد الكبريت. (الشرقية ١٦)

(٢) المادة التي تعطي الأكسجين أو تنتزع الهيدروجين أثناء التفاعل الكيميائي تسمى ..... (الإسماعيلية ١٩)

(٣) $Na_2CO_3 + \text{.....} \xrightarrow{\text{مخفف}} 2NaCl + H_2O + CO_2\uparrow$ (دمياط ١٩)

ب) ما المقصود بكل من :

(١) التفاعل الكيميائي. (المنيا ١٩)

* .....

(٢) عملية الأكسدة تبعًا للمفهوم الإلكتروني. (البحيرة ٢٦)

* .....

جـ) قام عمرو بوضع قطعة من الخارصين (الزنك) في كأس بها حمض هيدروكلوريك مخفف فلاحظ تصاعد فقاعات غازية حول قطعة الخارصين (الزنك) : (سوهاج ٢٩)

(١) ما اسم الغاز المتصاعد ؟

* .....

(٢) ما نوع التفاعل الحادث ؟

* .....

(٣) ماذا يحدث في حالة استبدال قطعة الخارصين (الزنك) بقطعة من النحاس ؟

* .....

السؤال الثاني ٥ درجات (أ) ١ درجة (ب) ١,٥ درجة (جـ) ٢,٥ درجة

أ) رتب العناصر الآتية تنازليًا حسب درجة نشاطها الكيميائي : (بورسعيد ٢١)

(Pb / Na / Al / Ag / Ca)

* .....

(ب) فى الشكل المقابل، تم إضافة محلول نترات الفضة إلى الأنبوبة (١) وتسخين الأنبوبة (٢) : (بنى سويف ١٨)

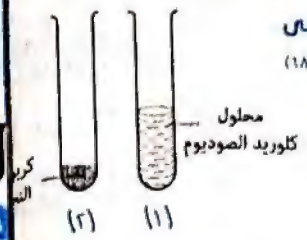

(١) ما لون الراسب المتكون فى الأنبوبة (١) ؟

*

(٢) اكتب المعادلة الرمزية الموزونة المعبرة عن التفاعل الحادث فى الأنبوبة (٢).

(جـ) من المعادلتين التاليتين : (القليوبية)

$2\boxed{A} + 2Na \longrightarrow 2NaOH + \boxed{B}$ (2) $\boxed{B} + CuO \xrightarrow{\Delta} Cu + \boxed{A}$

(١) اكتب الصيغة الكيميائية لكل من المادتين (A) ، (B).

* *

(٢) كيف تكشف عن الناتج (B) ؟

*

(٣) ما نوع كل من التفاعلين (1) ، (2) ؟

* *

السؤال الثالث (٥ درجات) (أ) ٢ درجة (ب) ٢ درجة (جـ) ١ درجة

(أ) عبّر بالمعادلة الرمزية الموزونة عن كل مما يأتى : (المنوفية)

(١) مركب يستخدم فى الوسادة الهوائية بالسيارات الحديثة ينحل بسرعة وينطلق غاز الوسادة لحماية السائق عند الاصطدام.

(٢) مركب كيميائى لونه أبيض عند تسخينه يتحول إلى اللون الأبيض المصفر مع تصاعد ضرورى لتنفس الكائنات الحية.

(ب) حدد العامل المؤكسد و العامل المختزل فى تفاعل الألومنيوم $_{13}Al$ مع الكلور $_{17}Cl$ لتكوين كلوريد الألومنيوم $AlCl_3$، موضحًا إجابتك بالمعادلات. (الدقهلية)

*

*

(جـ) صوب ما تحته خط :

(١) عند إضافة قطعة من الماغنسيوم إلى محلول كبريتات النحاس يتكون راسب أسود. (دمياط ١٩) (.....

(٢) تحل بعض الفلزات محل هيدروجين الماء مكونة كربونات الفلز. (الشرقية ١٨) (.....

تدريبات على الدرس الثانى وحدة أولى

تدريب 1 على سرعة التفاعل الكيميائى إلى أثر طبيعة المتفاعلات على سرعة التفاعل الكيميائى

(١) أكمل ما يأتى :

(١) من التفاعلات الكيميائية البطيئة جدًا والتى تحتاج لعدة شهور تفاعل ..... (الجيزة ١٦)

(٢) من العوامل المؤثرة على سرعة التفاعل الكيميائى ..... و ..... (الأقصر ١٨)

(٣) فى التفاعل الكيميائى يقل تركيز ..... ويزداد تركيز ..... بمرور الزمن. (الأقصر ١٨)

(٢) الشكل البيانى المقابل يمثل معدل الانحلال الحرارى لأكسيد الزئبق، تبعًا للمعادلة : (البحر الأحمر ١٩)

$$2HgO \xrightarrow{\Delta} 2Hg + O_2\uparrow$$

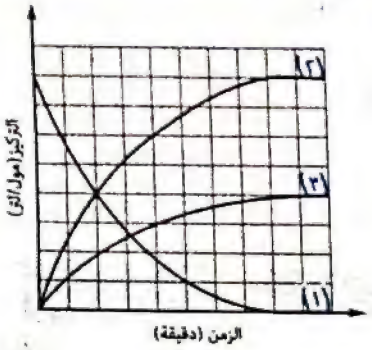

(١) استبدل الأرقام على الشكل بالمواد التى تناسبها من المعادلة، مع التعليل.

(١) : .....

لأن .....

(٢) : ..... (٣) : .....

لأن .....

(٢) اذكر نسبة تركيز المادة (٢) فى نهاية التفاعل.

* .....

(٣) وضح بمعادلة أيونية تفاعل محلول كلوريد الصوديوم مع محلول نترات الفضة. (القليوبية ١٥)

* .....

(٤) فى الشكلين الآتيين، أى التفاعلين يكون معدل حدوثه أسرع ؟ مع التعليل. (الجيزة ١٤)

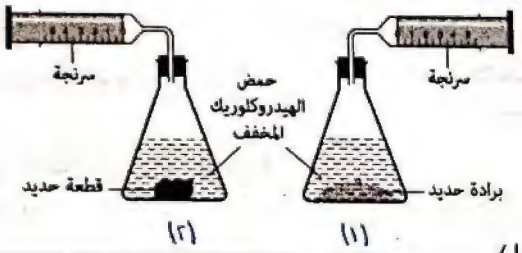

* التفاعل (١) / ..... (٢)

٥ أيهما أسرع فى التفاعل الكيميائى المركبات الأيونية أم المركبات التساهمية ؟ مع التفسير. (الدقهلية)

* ..... / .....

٦ اشرح نشاطًا توضح فيه أثر مساحة سطح المتفاعلات على سرعة التفاعل الكيميائى، مع كتابة معادلة التفاعل. (الدقهلية)

* الخطوات :

١- .....

٢- .....

٣- .....

* معادلة التفاعل : ..... + 2HCl $\xrightarrow{\text{مخفف}}$ $FeCl_2$ + ... ↑

* الملاحظة : .....

* الاستنتاج : .....

تدريب 2 على أثر تركيز المتفاعلات إلى أثر الإنزيمات على سرعة التفاعل الكيميائى

١ علل لما يأتى :

(١) تزداد سرعة التفاعل الكيميائى بزيادة تركيز المواد المتفاعلة. (سوهاج)

* .....

(٢) تبريد الأطعمة يحفظها من التلف لفترة زمنية طويلة. (كفر الشيخ)

* .....

٢ من الشكل المقابل :

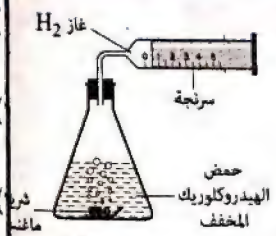

(١) اكتب المعادلة المعبرة عن التفاعل.

* .....

(٢) اذكر اقتراحًا لزيادة كمية غاز الهيدروجين H_2 المتجمعة فى السرنجة. (بنى سويف ٢١)

* .....

٣ ماذا تلاحظ و ماذا تستنتج فى كل من الحالات الآتية :

) وضع قرصان من الفوار أحدهما فى كأس بها ماء ساخن و الآخر فى كأس بها ماء بارد.

* الملاحظة : .....

* الاستنتاج : .....

) إضافة قطعة بطاطا (إنزيم الأوكسيديز) إلى فوق أكسيد الهيدروجين.

* الملاحظة : .....

* الاستنتاج : .....

٤ عرف العامل الحفاز، ثم اذكر أنواعه وأثر كل نوع على سرعة التفاعل الكيميائى. (الدقهلية ١٧)

* .....

* أنواعه :

• ..... / .....

• ..... / .....

٥ اذكر خواص العامل الحفاز. (البحيرة ١٨)

* .....

* .....

* .....

* .....

* .....

٦ ما الدور الذى يقوم به كل من :

) ثانى أكسيد المنجنيز فى التفاعلات الكيميائية. (الإسماعيلية ١٥)

* .....

) الإنزيمات. (جنوب سيناء ١٧)

* .....

) المحول الحفزى فى السيارات. (البحيرة ٢١)

* .....

السؤال الثالث ٥ درجات (أ) ١,٥ درجة (ب) ١ درجة (جـ) ٢,٥ درجة

(أ) اختر الإجابة الصحيحة مما بين الإجابات المعطاة :

(١) فى نهاية التفاعل الكيميائى تكون نسبة تركيز المتفاعلات ..... (الغربية)

(أ) صفر. (ب) ٥٠٪ (جـ) ٧٥٪ (د) ١٠٠٪

(٢) من التفاعلات الكيميائية البطيئة نسبيًا، تفاعل ..... (البحيرة)

(أ) صدأ الحديد. (ب) الزيت مع الصودا الكاوية.

(جـ) الألعاب النارية. (د) تكوين النفط فى باطن الأرض.

(٣) عند إضافة مسحوق ثانى أكسيد المنجنيز إلى محلول فوق أكسيد الهيدروجين فإن كمية ثانى أكسيد المنجنيز ..... (المنيا)

(أ) تزداد. (ب) تقل.

(جـ) تؤثر على بدء التفاعل الكيميائى. (د) لا تتغير.

(ب) ماذا يحدث عند احتراق سلك تنظيف الألومنيوم فى كل من دورق يحتوى على أكسجين نقى وفى الهواء الجوى ؟ (البحيرة)

* .....

(جـ) الشكل البيانى المقابل يوضح معدل التحلل السريع لمادة أزيد الصوديوم الموجودة بالوسادة الهوائية، تبعًا للمعادلة :

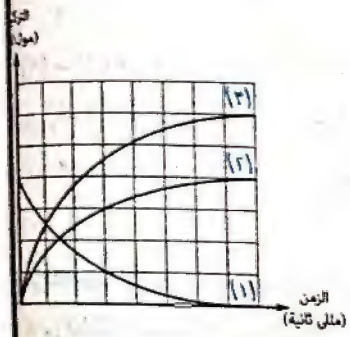

$$2NaN_3 \xrightarrow{\text{شرر كهربى}} 2Na + ...$$

(١) أكمل المعادلة السابقة.

(٢) استبدل الأرقام الموضحة على الشكل بالمواد التى تناسبها من المعادلة.

(١) : .....

(٢) : .....

(٣) : .....

(٣) اذكر أهمية الوسادة الهوائية. (البحيرة)

* .....

* .....

نموذج امتحان على الوحدة الأولى

أجب عن جميع الأسئلة الآتية :

السؤال الأول ٥ درجات (أ) ٢ درجة (ب) ٢ درجة (جـ) ١ درجة

(أ) اختر الإجابة الصحيحة مما بين الإجابات المعطاة : (نموذج ٢٤)

(١) عند تفاعل حمض مع قلوى ينتج .....

(أ) ملح وماء. (ب) ملح وغاز الهيدروجين.

(جـ) ملح وغاز الأكسجين. (د) لا توجد إجابة صحيحة.

(٢) المعادلة التالية توضح تفكك المركب X :

$$2X \xrightarrow{\Delta} 2Y + Z$$



والشكل البيانى المقابل يوضح التغير فى تركيز كل من المتفاعلات والنواتج بمرور الزمن. أى المنحنيات فى الشكل يمثل المتفاعلات ؟

(أ) (١)

(ب) (٢)

(جـ) (٣)

(د) (ب) ، (جـ) معًا. (جنوب سيناء ٢٧)

(٣) التفاعلات المُحفزة التى تحدث فى أجسام الكائنات الحية تتم فى وجود .....

(أ) الكربوهيدرات. (ب) الإنزيمات. (جـ) السكريات. (د) الدهون. (شمال سيناء ٢٩)

(٤) عند إمرار غاز الهيدروجين على أكسيد النحاس الأسود الساخن يحدث ..... لأكسيد النحاس. (الإسماعيلية ٢٨)

(أ) أكسدة (ب) اختزال

(جـ) انحلال حرارى (د) (أ) ، (ب) معًا

(ب) وضع سامى مكعب من الحديد فى كأس، ثم أضاف إليه كمية من حمض الهيدروكلوريك المخفف فتصاعدت فقاعات غازية :

(١) ما نوع التفاعل الحادث ؟ وما نسبة تركيز HCl فى نهاية التفاعل ؟

* .....

(٢) ما سبب تصاعد الفقاعات الغازية ؟

* .....

(جـ) قارن بين المركبات التساهمية و المركبات الأيونية. (الدقهلية ١٩)

السؤال الثانى ٥ درجات (أ) ١ درجة (ب) ٣ درجة (جـ) ١ درجة

(أ) استخرج الكلمة (أو العبارة) غير المناسبة مما يلى : (جنوب سيناء ٢١)

(١) صوديوم / رصاص / نحاس / ألومنيوم.

(٢) طبيعة المتفاعلات / تركيز النواتج / درجة حرارة التفاعل / العوامل الحفازة.

(ب) وضح بالمعادلات الكيميائية الموزونة التفاعلات الآتية : (بورسعيد ١٦)

(١) تسخين هيدروكسيد النحاس الأزرق. (الوادى الجديد ٢١)

* .....

(٢) إضافة قطع الماغنسيوم إلى حمض الهيدروكلوريك المخفف.

* .....

كيف تحصل على النحاس من نواتج التفاعلين (١) ، (٢) ؟

* .....

(جـ) استخدم طالب ٣ جرام من ثانى أكسيد المنجنيز أثناء تفكك فوق أكسيد الهيدروجين : (الشرقية ٢١)

(١) وضح سبب استخدام الطالب لثانى أكسيد المنجنيز.

* .....

(٢) ما كتلة ثانى أكسيد المنجنيز فى نهاية التفاعل ؟

* .....

السؤال الثالث ٥ درجات (أ) ٢ درجة (ب) ٢ درجة (جـ) ١ درجة

(أ) أكمل ما يأتى :

(١) تزداد سرعة تفاعلات طهى الطعام عند ..... (الجيزة ٢١)

(٢) فى بداية التفاعل الكيميائى تكون نسبة تركيز النواتج ..... (بورسعيد ١٦)

(٣) $2Na + 3N_2\uparrow \xrightarrow{\text{شرر كهربى}}$ ..... (الإسماعيلية ١٦)

(٤) $2N_2O_5 \longrightarrow$ ..... $+ O_2$ (مطروح ٢١)

(ب) علل لما يأتى :

(١) تكون راسب أبيض عند إضافة محلول نترات الفضة إلى محلول كلوريد الصوديوم. (الدقهلية ١٩)

* .....

(٢) اختفاء لون محلول كبريتات النحاس الأزرق عند إضافة شريط من الماغنسيوم إليه. (الوادى الجديد ١٩)

* .....

(جـ) قامت مجموعة من طلاب فصلك بعمل التجارب التالية فى المعمل المدرسى :

* إضافة حمض الهيدروكلوريك إلى الملح (س) فتصاعد غاز عكر ماء الجير الرائق.

* تسخين المادة (ص) فتكونت مادة فضية اللون وتصاعد غاز يزيد من توهج عود ثقاب مشتعل.

اكتب الصيغة الكيميائية لكل من الملح (س) و المادة (ص). (بنى سويف ١٥)

* ..... * .....

السؤال الرابع ٥ درجات (أ) ٣ درجة (ب) ٢ درجة

(أ) فى الشكل المقابل، تم إضافة كميات متساوية من حمض الهيدروكلوريك المخفف إلى الأنابيب (١) ، (٢) ، (٣) : (دمياط ٢١)

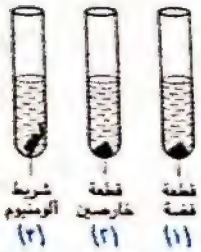

(١) بم تفسر :

١- عدم حدوث تفاعل فى الأنبوبة (١).

* .....

٢- تأخر بدء التفاعل فى الأنبوبة (٣) عن الأنبوبة (٢) عمليًا رغم أن الألومنيوم أنشط من الخارصين.

* .....

(٢) ما اسم الغاز المتصاعد عند حدوث التفاعل ؟ (.....)

(٣) ماذا يحدث لسرعة التفاعل عند استبدال قطعة الخارصين فى الأنبوبة (٢) بمسحوق الخارصين ؟ ولماذا ؟

* ..... / .....

(ب) وضح العامل المؤكسد و العامل المختزل فى التفاعل الآتى، مع ذكر السبب : (كفر الشيخ ١٩)

$2Na + Cl_2 \longrightarrow 2NaCl$ [علمًا بأن العدد الذرى للصوديوم ١١ و للكلور ١٧]

* ..... / .....

* ..... / .....

أسئلة الكتاب المدرسى على الوحدة الأولى

مجاب عنها

١ أكمل العبارات التالية :

(١) كسر الروابط الموجودة فى جزيئات المواد المتفاعلة وتكوين روابط جديدة، يسمى ..... (دمياط ٢١)

(٢) سرعة التفاعلات الكيميائية ..... بارتفاع درجة الحرارة. (سوهاج ١٨)

(٣) عمليتا الأكسدة والاختزال عمليتان ..... (أسيوط ١٦)

٢ أعد كتابة العبارات التالية بعد تصويب ما تحته خط :

(١) زيادة تركيز المواد المتفاعلة يجعل عدد التصادمات بين الجزيئات أكبر فتقل سرعة التفاعل. (الإسكندرية ٢١)

(٢) تنحل معظم كربونات الفلزات عند تسخينها إلى الفلز وثانى أكسيد الكربون. (السويس ٢١)

(٣) المركبات الأيونية تكون تفاعلاتها أبطأ من المركبات التساهمية.

٣ اكتب المصطلح العلمى الدال على كل من العبارات الآتية :

(١) التفاعلات الكيميائية التى يتفكك فيها المركب بالحرارة إلى مكوناته البسيطة. (جنوب سيناء ١٨)

(٢) التغير فى تركيز المواد المتفاعلة والمواد الناتجة من التفاعل فى وحدة الزمن. (بورسعيد ٢١)

(٣) مادة تزيد من سرعة التفاعل الكيميائى دون أن تستهلك. (أسيوط ٢١)

(٤) عملية كيميائية تكتسب فيها ذرة العنصر إلكترونًا أو أكثر. (أسوان ٢١)

٤ وضح بالمعادلات الرمزية الموزونة كل من :

(١) تفاعل الماء مع الصوديوم. (أسيوط ٢١)

(٢) انحلال نترات الصوديوم بالحرارة. (دمياط ١٩)

(٣) أثر وضع شريط ماغنسيوم فى محلول كبريتات النحاس. (القاهرة ٢١)

(٤) تفاعل حمض الهيدروكلوريك مع هيدروكسيد الصوديوم. (سوهاج ٢١)

٥ فسّر ما يأتى :

(١) تصاعد فقاعات غازية عند وضع قطعة ألومنيوم فى حمض الهيدروكلوريك المخفف. (سوهاج ١٥)

(٢) تفاعل حمض الهيدروكلوريك مع برادة الحديد أسرع من تفاعله مع قطعة من الحديد مساوية لها فى الكتلة. (السويس ١٨)

(٣) حفظ الأطعمة فى مجمد الثلاجة. (أسيوط ١٩)

٦ قارن بين : (١) تفاعلات الإحلال البسيط و تفاعلات الإحلال المزدوج. (الجيزة ١٩)

(٢) أكسيد الفلز و هيدروكسيد الفلز.

الوحدة 2
الطاقة الكهربية و النشاط الإشعاعى

تدريبات و اختبارات دورية

الدرس الأول

- تدريب 1 على التيار الكهربى و شدة التيار.
- تدريب 2 على فرق الجهد.
- تدريب 3 على المقاومة الكهربية و قانون أوم.

اختبار على الدرس الأول

الدرس الثانى

- تدريب 1 على مصادر و أنواع التيار الكهربى.
- تدريب 2 على طرق توصيل الأعمدة الكهربية فى الدوائر الكهربية.

اختبار تراكمى على الدرس الأول و الثانى

الدرس الثالث

- تدريب 1 على ظاهرة النشاط الإشعاعى والاستخدامات السلمية للطاقة النووية.
- تدريب 2 على التلوث الإشعاعى و طرق الوقاية منه.

نموذج امتحان على الوحدة الثانية

نموذج تراكمى على الوحدة الأولى و الثانية

أسئلة الكتاب المدرسى على الوحدة

تمرينات على الدرس الأول وحدة ثانية

تدريب 1 على التيار الكهربي و شدة التيار

1 ما المقصود بكل من :

(١) شدة التيار الكهربي :

(الوادي الجديد ١٩)

•

(٢) الأمبير :

(الجيزة ٢٠)

•

2 اذكر أهمية جهاز الأميتر ، موضحاً طريقة توصيله في الدائرة الكهربية

(الدقهلية ٢٠)

•

3 ارسم الشكل التخطيطي للدائرة الكهربية الموضحة بالشكل المقابل

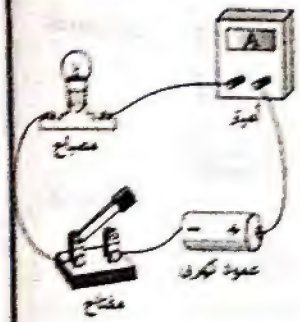

4 ماذا يحدث عند زيادة كمية الشحنة الكهربية المارة عبر مقطع من موصل للضعف مع ثبوت زمن سريان الشحنة الكهربية ؟

(مطروح ١٧)

•

5 احسب شدة التيار الناتج عن مرور كمية من الكهربية مقدارها ٣٦٠ كولوم عبر مقطع من موصل خلال دقيقة.

(بني سويف ٢٠)

◄ الحل :

الزمن بوحدة (ثانية) = ... ÷ ..... = ... ثانية

شدة التيار (سـ) = ... ÷ ..... = ... أمبير

تدريب 2 على فرق الجهد

1 ما المقصود بكل من :

(١) القوة الدافعة الكهربية لبطارية سيارة ١٢ فولت.

(القاهرة ١٧)

•

(٢) الفولت.

(مطروح ١٩)

•

2 ما الذي تدل عليه قراءة الفولتميتر في كل من الدائرتين المقابلتين ؟

(ق ٢١)

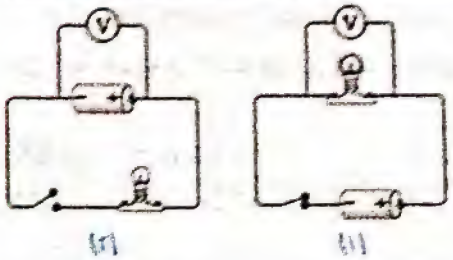

• في الدائرة (١) : .....

• في الدائرة (٢) : .....

3 ماذا يحدث عند تلامس موصلان مشحونان (أ) ، (ب) وكان الجهد الكهربي للموصل (أ) أقل من الجهد الكهربي للموصل (ب) ؟

(الوادي الجديد ٢١)

•

٤ مسائل متنوعة :

(١) إذا كان مقدار الشغل المبذول لنقل شحنة كهربية مقدارها ٣٠ كولوم بين نقطتين يساوى ٣٣٣٠ جول، احسب فرق الجهد بين النقطتين. (دمياط ٢١)

◄ الحـــل :

فرق الجهد (جـ) = ... = ... = ...

(٢) احسب شدة التيار الكهربى المار فى موصل فرق الجهد بين طرفيه يكون ٢٠ فولت عند بذل شغل قدره ٢٠٠ جول لنقل كمية من الكهربية بين طرفيه خلال زمن قدره ٢ ثانية. (المنوفية ٢١)

◄ الحـــل :

كمية الكهربية (ك) = ... = ... = ...

شـــدة التيـــار (ت) = ... = ... = ...

تدريب 3 على المقاومة الكهربية و قانون أوم

١ صوب ما تحته خط فى العبارات الآتية :

(١) وحدة قياس المقاومة الكهربية هى فولت. (القاهرة ١١) (.....)

(٢) مقاومة الموصل الذى يسمح بسريان تيار كهربى شدته ٢ أمبير، عندما يكون فرق الجهد بين طرفيه ٢ فولت تساوى ٤ أوم. (بنى سويف ١٣) (.....)

(٣) كمية الكهربية هى النسبة بين فرق الجهد بين طرفى موصل وشدة التيار المار فيه. (.....)

٢ من الشكل المقابل : (أسيوط ١٩)



(١) ما اسم هذا الجهاز ؟ وفيما يستخدم ؟

* .....
* .....

(٢) اكتب ما تشير إليه الأرقام (١) ، (٢).

(١) : ..... (٢) : .....

٣ ارسم الدائرة الكهربية المستخدمة لتحقيق قانون أوم، ثم أكمل النشاط التالى : (الفيوم ١٥)

الخطوات :

١- غيِّر قيمة ..... عدة مرات،

وعيِّن فى كل مرة قراءتى الفولتميتر و الأميتر.

٢- أوجد خارج قسمة ..... / .....

الملاحظات :

• خارج قسمة ..... / ..... لكل محاولة مقدار ثابت يساوى قيمة .....

• يزداد ..... بزيادة شدة التيار الكهربى والعكس صحيح.

الاستنتاج : شدة التيار الكهربى المار فى الموصل تتناسب ..... مع ..... عند ثبوت درجة الحرارة.

٤ اذكر الكمية الفيزيائية التى تقاس بوحدة جول/كولوم.أمبير

* .....

٥ اذكر أهم أعمال العالم أوم. (الفيوم ١٦)

* .....

٦ أيًا من الدوائر الكهربية الآتية تم توصيل أجزائها بشكل صحيح لقياس شدة التيار المار فى المقاومة الثابتة وفرق الجهد بين طرفيها ؟

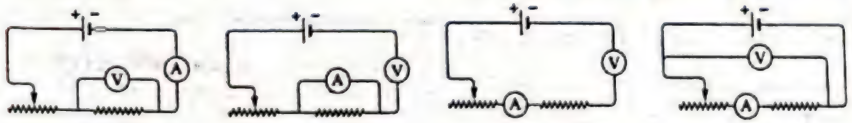

(١) (٢) (٣) (٤)

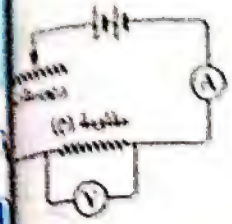

٧ من الدائرة الكهربية الموجودة أمامك، إذا تم تحريك زالق الريوستات لزيادة قراءة الأميتر أكمل ما يأتي مستخدمًا الكلمات (لا تتغير - تقل - تزداد) : (أسوانية ٢١)

(١) مقاومة الريوستات .....

(٢) قراءة الفولتميتر .....

(٣) قيمة المقاومة (م) .....

٨ احسب كمية الكهربية المارة في موصل مقاومته ١٠٠٠ أوم لمدة ٣٠ دقيقة، عندما يكون فرق الجهد بين طرفيه ٢٢٠ فولت.

◄ الحل :

شدة التيار (ت) = ... = ... = ...

الزمن بوحدة (ثانية) = ... × ..... = ... ثانية

كمية الكهربية (ك) = ... × ..... = ... × ..... = ...

٩ في الدائرة الكهربية المقابلة، احسب :

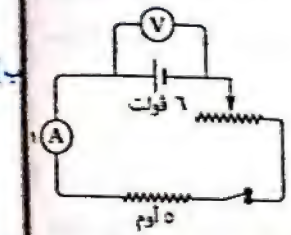

(١) فرق الجهد بين طرفي المقاومة. (الثانوية ١٦)

(٢) قراءة الفولتميتر والمفتاح مفتوح. (الثانوية ٢١)

◄ الحل :

(١) فرق الجهد (جـ) = ... × .....

= ..... × ..... = ...

(٢) قراءة الفولتميتر = ...

اختبار على الدرس الأول وحدة ثانية

١٥

أجب عن جميع الأسئلة الآتية :

السؤال الأول ٥ درجات (أ) ٢ درجة (ب) ٢ درجة (جـ) ١ درجة

(أ) اختر الإجابة الصحيحة مما بين القوسين :

(١) إذا زادت كمية الشحنة الكهربية المارة في سلك للضعف وقل زمن سريانها للنصف فإن شدة التيار ..... (التجريبية ٢١)

(تزداد إلى أربعة أمثالها / تقل إلى الربع / تظل ثابتة / تزداد للضعف)

(٢) يستخدم جهاز الأوميتر لقياس ..... في الدائرة الكهربية. (مطروح ٢١)

(فرق الجهد الكهربي / المقاومة الكهربية / شدة التيار / كمية الكهربية)

(٣) الشكل المقابل يوضح العلاقة بين فرق الجهد وشدة التيار لسلكين معدنيين (P) ، (Q) مصنوعين من مادة واحدة ولهما نفس مساحة المقطع، ومنه يتضح أن طول السلك (P) ..... طول السلك (Q).



(أقل من / يساوي / أكبر من)

(٤) الشحنة المنقولة بتيار ثابت شدته ١ أمبير في الثانية الواحدة هي ..... (الأقصر ٢١)

(الكولوم / الفولت / الجول / الأوم)

(ب) احسب مقدار الشغل المبذول لإمرار شحنة كهربية مقدارها ١٠ كولوم عبر مقطع من موصل مقاومته ١٠٠ أوم، وشدة التيار المار فيه ٢ أمبير. (التجريبية ٢١)

• .....

.....

(جـ) في الشكل المقابل عند فتح الدائرة الكهربية هل ستصبح قراءة الفولتميتر صفرًا؟ مع تفسير إجابتك. (السويس ٢١)

• ..... /

.....

السؤال الثالث ٥ درجات (أ) ١ درجة (ب) ١ درجة (جـ) ٣ درجة

(أ) اكتب المصطلح العلمى الدال على كل عبارة من العبارات الآتية :

(١) كمية فيزيائية وحدة قياسها تكافئ فولت × كولوم (.....) (البحيرة ١٨)

(٢) فيض من الشحنات الكهربية يسرى من طرف سلك معدنى إلى الطرف الآخر فى الدائرة الكهربية المغلقة. (.....) (الشرقية)

(ب) علل : يستلزم شحن الموبايل استخدام محول كهربى.

.....

(جـ) ادرس الشكل المقابل، ثم أجب : (شمال سيناء ١٩)

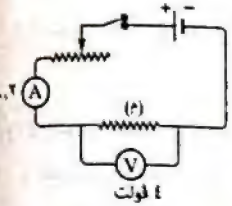

(١) كيف يمكنك تغيير شدة التيار المار خلال الدائرة ؟

.....

(٢) ما طريقة توصيل كل من الأميتر و الفولتميتر فى الدائرة ؟

.....

(٣) احسب قيمة المقاومة (م).

.....

السؤال الثالث ٥ درجات (أ) ٢ درجة (ب) ١ درجة (جـ) ٢ درجة

(أ) ما معنى قولنا أن :

(١) فرق الجهد بين طرفى موصل ٢ فولت.

.....

(٢) النسبة بين فرق الجهد بين طرفى موصل وشدة التيار المار فيه تساوى ٢٠ فولت/أمبير. (البحر)

.....

(ب) ماذا يحدث عند توصيل موصلين مشحونين لهما نفس الجهد الكهربى بسلك موصل للكهرباء ؟ (الدقهلية ١٩)

.....

(جـ) فى الشكل المقابل، إذا مر فى فتيل المصباح شحنة كهربية قدرها ٤٢ كولوم خلال نصف دقيقة، فهل سينصهر فتيل المصباح أم لا ؟ ولماذا ؟

علمًا بأن أقصى تيار كهربى يتحمله فتيل المصباح ١,٥ أمبير. (الدقهلية ١٩)

.....

تدريبات على الدرس الثانى وحدة ثانية

تدريب 1 على مصادر و أنواع التيار الكهربى

١ ما المقصود بكل من :

(١) الخلايا الكهروكيميائية. (الشرقية)

•

(٢) التيار الكهربى المستمر. (البحيرة)

•

٢ اختر الإجابة الصحيحة مما بين القوسين :

(١) يستخدم ..... لتوليد تيار كهربى مستمر. (الدقهلية)

(العمود الجاف / الدينامو / الفولتميتر / الأميتر)

(٢) فى الدينامو تتحول الطاقة ..... إلى طاقة كهربية. (الق

(المغناطيسية / الحركية / الكيميائية / الضوئية)

(٣) يمكن توليد تيار كهربى متردد بواسطة ..... (الدقهلية)

(الدينامو / العمود الجاف / البطارية / جميع ما سبق)

٣ وضح بالرسم التمثيل البيانى لنوعى التيار الكهربى : (مطروح)

(١) التيار المستمر.

(٢) التيار المتردد.

١ اذكر استخدامات التيار الكهربى المستمر. (النصر الأصغر ١٩)

•

•

٢ علل : يفضل استخدام التيار المتردد عن التيار المستمر غالبًا. (الدقهلية ٢٠)

•

تدريب 2 على طرق توصيل الأعمدة الكهربية فى الدوائر الكهربية

١ احسب قيمة ق.د.ك لكل بطارية من البطاريات الآتية :

(١) (الغربية ١٧)	(٢)	(٣) (توافق الحساب ١٨)	(٤) (البحيرة ١٩)
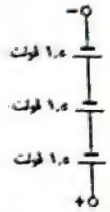		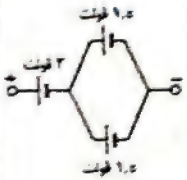	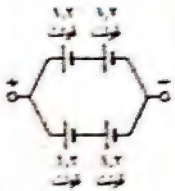
ق.د.ك الكلية = ... فولت	ق.د.ك الكلية = ... فولت	ق.د.ك الكلية = ... فولت	ق.د.ك الكلية = ... فولت

بطارية مكونة من ثلاثة أعمدة متماثلة القوة الدافعة الكهربية لكل منها ٢ فولت.

احسب القوة الدافعة الكهربية الكلية لها إذا وصلت أعمدتها : (سوهاج ١٩)

(١) على التوالى.

(٢) على التوازى.

موضحًا إجابتك بالرسم فى كل حالة.

▸ التفسير :

(١) في البطارية المصنوعة أعمدتها المتصلة على التوالي

.... ، .... فولت

(٢) في البطارية المصنوعة أعمدتها المتصلة على التوازي

.... فولت

لديك أربعة أعمدة كهربية متماثلة القوة الدافعة الكهربية لكل منها ٢ فولت، وضح بالرسم كيف يمكن توصيلها معًا للحصول على بطارية القوة الدافعة الكهربية لها ٤ فولت بثلاث طرق مختلفة.

اشترى محمود لعبة تعمل ببطارية القوة الدافعة الكهربية لها ٦ فولت، فإذا كان لديه خمسة أعمدة كهربية القوة الدافعة الكهربية لكل منها ٢ فولت، اشرح مع التوضيح بالرسم كيف يمكنه توصيل هذه الأعمدة معًا لتشغيل اللعبة

▸ التفسير :

- يتم توصيل عمودين معًا على التوالي فتكون ق.د.ك لهما ....
- يتم توصيل باقي الأعمدة (........) على التوازي فتكون ق.د.ك لها ....
- يتم توصيل المجموعتين معًا على .... فتكون ق.د.ك لهما = ... + ... = ...

أو أي إجابة أخرى صحيحة

من الدائرة الكهربية المقابلة،

أوجد قراءة الأميتر. (أسوان ٢١)

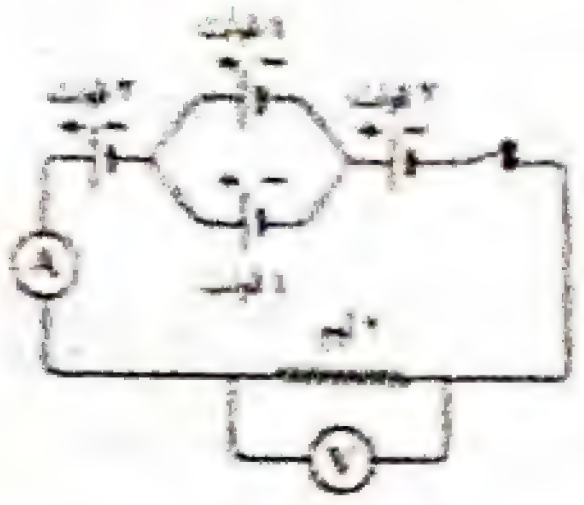

الحـــل :

....

من الشكل المقابل، إذا كانت القوة الدافعة الكهربية لكل عمود ٢ فولت : (الفيوم ٢١)

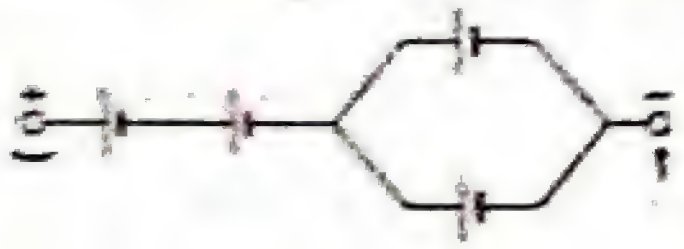

(١) احسب ق.د.ك الكلية بين الطرفين أ ، ب

(٢) وضح بالرسم فقط كيفية توصيل الأعمدة الكهربية الموجودة بالشكل للحصول على :

١- أكبر قوة دافعة كهربية. (بني سويف ٢١)

٢- أقل قوة دافعة كهربية.

الحـــل :

(١) ق.د.ك الكلية = ...

(٢) ١- ٢-

اختبار تراكمى

على الدرس الأول والثانى
وحدة ثانية

١٥

أجب عن جميع الأسئلة الآتية :

السؤال الأول ٥ درجات (أ) ٢,٥ درجة (ب) ١,٥ درجة (جـ) ١ درجة

(أ) أكمل العبارات الآتية :

(١) إذا كان الشغل المبذول لنقل شحنة كهربية مقدارها ٢٠ كولوم بين نقطتين يساوى ٦٠ جو
فإن فرق الجهد بين النقطتين يساوى ..... فولت. (شمال سيناء
(٢) فى المولدات الكهربية يتم تحويل الطاقة ..... إلى طاقة ..... (الشرقية
(٣) من أمثلة الخلايا الكهروكيميائية ..... (الغربية
(٤) الممانعة التى يلقاها التيار الكهربى أثناء سريانه فى الموصل
تعرف باسم ..... (سوهاج

(ب) الشكلان المقابلان يوضحان العلاقة البيانية بين عدد الأعمدة والقوة الدافعة الكهربية الكلية لها عند توصيلها بطريقتين مختلفتين :

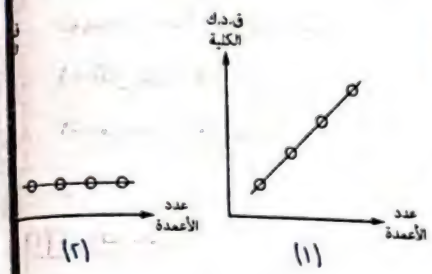

(١) اذكر طريقة التوصيل المعبر عنها فى كل شكل. (شمال سيناء ١٣
(١) : .....
(٢) : .....

(٢) أيًا من الطريقتين ينتج عنها أعلى شدة تيار ؟
• .....

(جـ) فى الشكل المقابل، ما الذى تستنتجه من تغير قراءة الأميتر عند تحريك الزالق من النقطة (أ) إلى النقطة (ب) ؟ (دمياط ١٣)

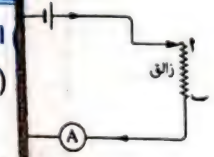

• .....
.....

السؤال الثانى ٥ درجات (أ) ١,٥ درجة (ب) ١,٥ درجة (جـ) ٢ درجة

(أ) ضع علامة (✓) أمام العبارة الصحيحة و علامة (✗) أمام العبارة الخطأ :

(١) فى العمود الجاف تتحول الطاقة المغناطيسية إلى طاقة كهربية. (سوهاج ١٨) ( )
(٢) القوة الدافعة الكهربية لثلاثة أعمدة متماثلة متصلة معًا على التوازى تساوى القوة الدافعة الكهربية للعمود الواحد. (ك ١٨) ( )
(٣) القوة الدافعة الكهربية لمصدر كهربى هى فرق الجهد بين قطبيه عندما يمر بالدائرة تيار شدته ١ أمبير. ( )

(ب) عرف التيار الكهربى المتردد، مع ذكر أهم استخداماته. (القاهرة ١٧)
• .....
.....

(جـ) قام حمادة بتوصيل أميتر بالدائرة الكهربية الموضحة بالشكل لقياس شدة التيار المار بها :

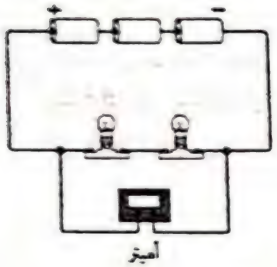

(١) وقع حمادة فى خطأين أثناء توصيل الأميتر بالدائرة، هل يمكنك التعرف عليهما ؟
.....
.....

(٢) ما نوع توصيل الأعمدة الكهربية بالدائرة ؟
.....

(٣) أعد رسم الدائرة الموضحة أمامك بشكل تخطيطى بعد تصحيحها.
.....

السؤال الثالث ٥ درجات (أ) ١ درجة (ب) ٢ درجة (جـ) ٢ درجة

(أ) اكتب المصطلح العلمى الدال على كل عبارة مما يأتى :

(١) حالة الموصل الكهربية التى تحدد انتقال الكهربية منه أو إليه إذا ما وصل بموصل آخر. (شمال سيناء ٢١) (.....)
(٢) كمية الكهربية المنقولة بتيار ثابت شدته ١ أمبير فى زمن قدره ١ ثانية. (الشرقية ١٩) (.....)

(ب) ارسم الدائرة الكهربية المستخدمة لاستنتاج العلاقة بين شدة التيار المار فى مقاومة وفرق الجهد بين طرفيها مستخدمًا هذه المكونات : (الإسكندرية)

(فولتميتر / أميتر / مفتاح كهربى / مقاومة ثابتة / ريوستات / أسلاك توصيل / بطارية مكونة من ثلاثة أعمدة كهربية متصلة معًا على التوالى).

(جـ) قارن بين التيار الكهربى الذى يمثله كل من الشكلين (١) و (٢) «من حيث : النوع – المصدر». (الإسماعيلية ١٨)

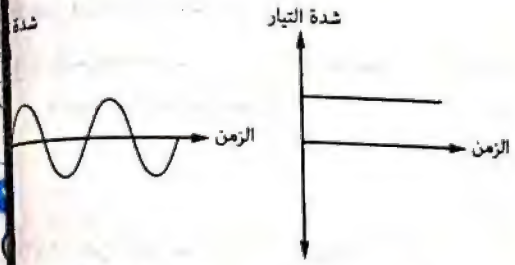

شكل (١) شكل (٢)

	الشكل (١)	الشكل (٢)
النوع	.....	.....
المصدر	.....	.....

تمرينات على الدرس الثالث وحدة ثانية

تدريب 1 على ظاهرة النشاط الإشعاعى و الاستخدامات السلمية للطاقة النووية

اكتب المصطلح العلمى الدال على كل عبارة من العبارات الآتية :

) القوى اللازمة للتغلب على قوى التنافر بين البروتونات موجبة الشحنة وبعضها. (.....)

) التحول التلقائى لأنوية ذرات بعض العناصر المشعة الموجودة فى الطبيعة كمحاولة للوصول إلى تركيب أكثر استقرارًا. (أسوان ٢١) (.....)

أكمل العبارات الآتية :

) العناصر ..... الطبيعية مثل الروبيديوم تحتوى أنوية ذراتها على عدد من ..... يزيد عن العدد اللازم لاستقرارها. (المنيا ١٩)

) التفاعلات النووية الصناعية التى يمكن التحكم فيها تستخدم فى الأغراض ..... ، بينما التى لا يمكن التحكم فيها فتستخدم فى الأغراض .....

) من الاستخدامات السلمية للطاقة النووية فى مجال الزراعة ..... ، بينما من الاستخدامات السلمية للطاقة النووية فى مجال التنقيب .....

صوب ما تحته خط :

) تعتبر الإلكترونات مخزن للطاقة فى الذرة. (شمال سيناء ٢١) (.....)

) تحدث ظاهرة التأين لأنوية ذرات العناصر المشعة. (الفيوم ١٤) (.....)

) من الاستخدامات الحربية للطاقة النووية فى مجال الطب تشخيص وعلاج بعض الأمراض. (بنى سويف ١٩) (.....)

اهتم العلماء بالبحث عن كيفية التحكم فى كمية الطاقة المنطلقة من التفاعلات النووية التى تحدث بالمفاعلات النووية، **تكلم عن الاستخدام السلمى للطاقة النووية فى :** (المنيا ١٩)

(١) مجال الصناعة :

* .....

* .....

(٢) مجال استكشاف الفضاء :

* .....

٥ علل : يعتبر الراديوم من العناصر المشعة الموجودة فى الطبيعة.

•

تدريب 2 على التلوث الإشعاعى و طرق الوقاية منه

١ ما المقصود بكل من :

(١) التلوث الإشعاعى.

•

(٢) السيفرت.

•

٢ أكمل العبارات الآتية :

(١) من أمثلة المصادر الطبيعية للتلوث الإشعاعى ..... ، بينما من أمثلة المصادر الـ[illegible] للتلوث الإشعاعى .....

(٢) يجب ألا يزيد مقدار ما يتعرض له العاملين فى مجال الإشعاع عن ..... مللى سيفرت [illegible] العام الواحد.

(٣) من التأثيرات ..... للإشعاع تغير تركيب الكروموسومات الجنسية للآباء.

(٤) تعرف التغيرات التى تطرأ على جسم الكائن الحى نتيجة التعرض للإشعاعات [illegible] التأثيرات .....

(٥) كان للعالم على مصطفى مشرفة نظريات هامة فى مجال الذرة و ..... على أساسها صناعة .....

٣ اختر الإجابة الصحيحة مما بين القوسين :

(١) يجب ألا يتجاوز مقدار ما يتعرض له الإنسان من إشعاع عن ..... فى العام الواحد.

(٢٠ فولت / ٥ أمبير / 10^{-2} سيفرت / 10^{-3})

(٢) أول ما يتأثر عند تعرض الإنسان لجرعة إشعاعية كبيرة لفترة زمنية قصيرة، [illegible] هو .....

(المعدة / الحنجرة / نخاع العظام / [illegible])

(٣) من التأثيرات الوراثية الناتجة عن تعرض الإنسان لجرعة إشعاعية صغيرة لفترات زمنية طويلة ..... (التجريبية ٢١)

(تدمير الجهاز العصبى المركزى / تدمير الطحال / تغيير تركيب الكروموسومات الجنسية للآباء / تغير التركيب الكيميائى لهيموجلوبين الدم)

(٤) وصف العالم أينشتين العالم ..... بأنه من أعظم علماء الفيزياء فى العالم. (التجريبية ١٩)

(على مصطفى مشرفة / أوم / مندل / هنرى بيكوريل)

٤ ما النتائج المترتبة على كل مما يأتى :

(١) تعرض الجسم لجرعات إشعاعية كبيرة لفترة زمنية قصيرة. (كتاب ٢٢)

•

(٢) نقص عدد كرات الدم الحمراء فى جسم الإنسان نتيجة التعرض للإشعاع النووى. (أمس جديد ١٩)

•

(٣) تغير التركيب الكيميائى لهيموجلوبين الدم. (الإسكندرية ١٩)

•

٥ علل لما يأتى :

(١) اكتشاف نظائر مشعة فى بعض دول أوروبا الشرقية بعد انفجار مفاعل تشيرنوبل.

•

(٢) يجب أن تكون المنطقة المختارة لحفظ النفايات المشعة مستقرة. (دمياط ٢١)

•

٦ اذكر :

(١) ثلاث من طرق الوقاية من التلوث الإشعاعى. (التجريبية ١٩)

•

•

•

(٢) العوامل التى تتوقف عليها حدود الجرعة الفعالة الآمنة للإشعاعات النووية.

•

•

•

نموذج امتحان على الوحدة الثانية

أجب عن جميع الأسئلة الآتية :

السؤال الأول ٥ درجات (أ) ١ درجة (ب) ٢ درجة (جـ) ٢ درجة

(أ) اذكر الكمية الفيزيائية التى تقاس بكل من الوحدات التالية :

(١) جول/أمبير.ثانية (البحيرة ١٥) (.....) (٢) فولت/أمبير (السويس ١٩) (.....)

(ب) (١) ما التأثيرات الضارة الناتجة عن تعرض الإنسان لجرعات إشعاعية صغيرة لفترات زمنية طويلة (الإسكندرية ١٩)

* .....

.....

(٢) ما الشروط اللازم مراعاتها عند دفن النفايات المشعة ؟ (أسيوط ١٩)

* .....

.....

(جـ) احسب قيمة المقاومة (م) فى الدائرة الكهربية الموضحة بالشكل المقابل. (البحر الأحمر ١٦)

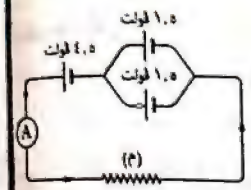

* .....

.....

السؤال الثانى ٥ درجات (أ) ٢ درجة (ب) ١ درجة (جـ) ٢ درجة

(أ) أكمل ما يأتى :

(١) تستخدم الطاقة النووية فى تشخيص وعلاج بعض الأمراض مثل ..... (بنى سويف ١٩)

(٢) تتحول الطاقة الكيميائية إلى طاقة كهربية بواسطة الخلايا ..... (الإسماعيلية ١٩)

(٣) مقاومة الموصل الذى يسرى فيه تيار كهربى شدته ١ أمبير، عندما يكون فرق الجهد بين طرفيه ١ فولت = ... (سوهاج ٢١)

(٤) التيار الكهربى الذى يعبر عنه الشكل المقابل هو تيار ..... (القليوبية ١٦)

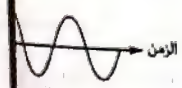

(ب) ما المقصود بالنشاط الإشعاعى الصناعى ؟ (أسيوط ١٩)

* .....

(جـ) من الشكل المقابل : (دمياط ١٣)

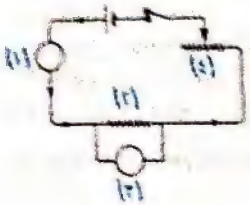

(١) اكتب ما تشير إليه الأرقام من (١) : (٤).

(١) : .....

(٢) : .....

(٣) : .....

(٤) : .....

(٢) ماذا يحدث لقراءة الجهاز (١) عند توصيل عمود كهربى آخر على التوالى فى الدائرة الكهربية ؟

* .....

السؤال الثالث ٥ درجات (أ) ١ درجة (ب) ١ درجة (جـ) ١ درجة (د) ٢ درجة

(أ) اختر الإجابة الصحيحة مما بين الإجابات المعطاة :

(١) عند توصيل أربعة أعمدة كهربية متماثلة القوة الدافعة الكهربية لكل منها ١,٥ فولت على التوالى، فإن القوة الدافعة الكهربية الكلية تساوى ..... فولت. (مطروح ١٩)

(أ) ١,٥ (ب) ٢ (جـ) ٦ (د) ١٢

(٢) اكتشفت ظاهرة النشاط الإشعاعى بواسطة العالم ..... (مطروح ٢١)

(أ) أوم. (ب) أمبير.

(جـ) هنرى بيكوريل. (د) مندل.

(ب) اذكر أهمية كل من :

(١) الريوستات المنزلق فى الدوائر الكهربية. (المنيا ١٩)

* .....

(٢) التيار الكهربى المستمر. (البحر الأحمر ١٩)

* .....

(جـ) وضح كيف تستخدم الطاقة النووية فى توليد الكهرباء. (القليوبية ١٩)

* .....

.....

(د) لديك ثلاثة أعمدة كهربية متماثلة، القوة الدافعة الكهربية لكل منها ٦ فولت وصلت فى دائرة كهربية بطريقة معينة وكانت المقاومة الكلية للدائرة ٤ أوم. وضح بالرسم مع بيان طريقة الحل كيفية توصيل الأعمدة الكهربية الثلاثة فى الدائرة الكهربية للحصول على تيار كهربى شدته ١,٥ أمبير. (القليوبية ١٨)

.....

.....

.....

السؤال الرابع ٥ درجات (أ) ٢ درجة (ب) ٢ درجة (جـ) ١ درجة

(أ) صوب ما تحته خط :

(١) تتغير قيمة مقاومة الموصل تبعًا لتغير فرق الجهد بين طرفيه. (الشرقية ٢١) (.....)

(٢) تحتوى أنوية ذرات العناصر المشعة على عدد من البروتونات يزيد عن العدد اللازم لاستقرارها. (القاهرة ٢١) (.....)

(٣) تتناسب شدة التيار الكهربى المار فى موصل ما تناسبًا عكسيًا مع فرق الجهد بين طرفيه عند ثبوت درجة الحرارة. (أسوان ٢١) (.....)

(٤) فى الدينامو تتحول الطاقة الضوئية إلى طاقة كهربية. (كفر الشيخ ٢١) (.....)

(ب) علل لما يأتى :

(١) لا ينتقل التيار الكهربى من موصل جهده الكهربى ٢٠ فولت إلى موصل آخر جهده ٣٠ فولت. (كفر الشيخ ٢١)

.....

(٢) تُعد النواة مخزنًا للطاقة النووية. (بنى سويف ٢١)

.....

(جـ) احسب شدة التيار المار فى الدائرة الكهربية المقابلة، علمًا بأن الشغل المبذول لنقل الشحنة الكهربية ٢٤٠ جول وزمن سريان الشحنة الكهربية ٢ ثانية. (الشرقية ١٩)

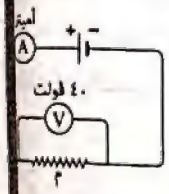

.....

.....

أسئلة الكتاب المدرسى على الوحدة الثانية

مجاب عنها

١ اكتب المصطلح العلمى الدال على كل عبارة مما يأتى :

(١) تدفق الشحنات الكهربية خلال الموصل. (بور سعيد ٢١)

(٢) تيار كهربى ثابت الشدة والاتجاه. (شمال سيناء ٢١)

(٣) مقاومة الموصل الذى يمر خلاله تيار كهربى شدته ١ أمبير عندما يكون فرق الجهد بين طرفيه ١ فولت. (مطروح ٢١)

(٤) شدة التيار الكهربى المتدفق فى الدائرة الكهربية عندما تمر شحنة كهربية مقدارها ١ كولوم خلال مقطع من الموصل فى الثانية الواحدة. (المنيا ٢١)

(٥) الجهاز المستخدم لقياس شدة التيار الكهربى المار فى موصل. (قنا ٢١)

(٦) حالة الموصل الكهربية التى توضح انتقال الكهربية منه أو إليه. (شمال سيناء ٢١)

(٧) وحدة قياس القوة الدافعة الكهربية للعمود الكهربى.

(٨) وحدة قياس الإشعاع الممتص. (بنى سويف ١٩)

(٩) التحول التلقائى لأنوية ذرات بعض العناصر الموجودة بالطبيعة كمحاولة منها للوصول إلى تركيب أكثر استقرارًا. (الجيزة ٢١)

٢ اختر الإجابة الصحيحة مما بين القوسين :

(١) يمكن الحصول على التيار المستمر من ..... (الوادى الجديد ١٩)

(الخلايا الكهروكيميائية / المولدات الكهربية / محطات القوى الكهربية)

(٢) وحدة قياس الشحنة الكهربية هى ..... (الإسماعيلية ١٩)

(كولوم / أمبير / فولت)

(٣) وحدة قياس القوة الدافعة الكهربية هى ..... (القليوبية ٢١)

(كولوم / أمبير / فولت)

(٤) يستخدم ..... لقياس المقاومة الكهربية. (البحر الأحمر ٢١)

(الأميتر / الفولتميتر / الأوميتر)

(٥) وحدة قياس شدة التيار هى ..... (الفيوم ١٧)

(كولوم / أمبير / أوم)

(٦) العلاقة الرياضية لقانون أوم هى م = ... (جـ ÷ ت / جـ × ت / جـ ...

(٧) يجب ألا يزيد مقدار ما يتعرض له المتعاملين مع المواد المشعة من الإشعاع عن ..... سيفرت فى السنة. (٥ / ١٥ / ...

٣ علل لما يأتى :

(١) يفضل استخدام التيار المتردد عن التيار المستمر.

(٢) يوصل طرفى الفولتميتر بكل من قطبى البطارية فى الدائرة الكهربية المفتوحة.

(٣) تستخدم الريوستات فى بعض الدوائر الكهربية.

(٤) توصيل بعض الأعمدة الكهربية على التوالى فى الدائرة الكهربية.

(٥) توصيل بعض الأعمدة الكهربية على التوازى فى الدائرة الكهربية.

(٦) القوة الدافعة الكهربية للبطارية المتصلة أعمدتها المتماثلة على التوالى أكبر من القوة الدافعة الكهربية للبطارية المتصلة أعمدتها على التوازى.

(٧) يطلق على بعض العناصر اسم العناصر المشعة.

(٨) التعرض للإشعاع له تأثيرات وراثية.

٤ احسب فرق الجهد بين طرفى مكنسة كهربائية مقاومتها ٢٢ أوم وشدة التيار المار فيها ١٠ أ...

٥ إذا كان لديك ٤ أعمدة كهربية متماثلة، القوة الدافعة الكهربية لكل منها ١.٥ فو...
وضّح بالرسم كيف يمكن توصيلها معًا للحصول على بطارية القوة الدافعة الكهربية لها :

(١) ٦ فولت.

(٢) ٤.٥ فولت.

(٣) ٣ فولت «بطريقتين».

(٤) ١.٥ فولت.

نموذج تراكمى على الوحدتين الأولى و الثانية

أجب عن جميع الأسئلة الآتية :

السؤال الأول ٥ درجات (أ) ١.٥ درجة (ب) ٢ درجة (جـ) ١.٥ درجة

أ) اختر الإجابة الصحيحة مما بين القوسين :

(١) عند إضافة محلول كلوريد الصوديوم إلى محلول نترات الفضة يتكون راسب أبيض من .....

(كلوريد الصوديوم / نترات الفضة / كلوريد الفضة / نترات الصوديوم)

(٢) من العناصر المشعة ..... (الكالسيوم / الراديوم / الحديد / الباريوم)

(٣) الكمية الفيزيائية التى وحدة قياسها تكافئ جول/فولت.ثانية هى .....

(شدة التيار / فرق الجهد / الشغل المبذول / كمية الكهربية)

ب) علل لما يأتى :

(١) يفضل استخدام التيار الكهربى المتردد عن التيار الكهربى المستمر غالبًا.

•

(٢) معدل احتراق سلك تنظيف الألومنيوم فى مخبار به أكسجين نقى أسرع من معدل احتراقه فى الهواء الجوى.

•

جـ) الشكل البيانى المقابل يوضح سرعة تفكك المركب N_2O_5، تبعًا للمعادلة :

$$2N_2O_5 \longrightarrow 4NO_2 + O_2$$

اكتب مستعينًا بالشكل اسم المركب الذى يشير إليه كل رقم.

(١) : .....

(٢) : .....

(٣) : .....

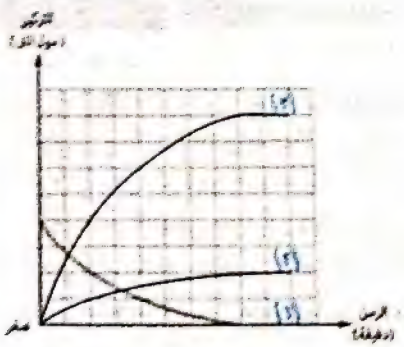

السؤال الثاني ٥ درجات (أ) ٢ درجة (ب) ١,٥ درجة (جـ) ١,٥ درجة

(أ) اكتب المصطلح العلمي الدال على كل مما يأتي :

(١) كسر الروابط الموجودة فى جزيئات المواد المتفاعلة وتكوين روابط جديدة فى جزيئات المواد الناتجة من التفاعل. (أسوان ٢١) (.....)

(٢) المعانقة التى يلقاها التيار الكهربى أثناء سريانه فى الموصل. (البحيرة ٢١) (.....)

(٣) التغير فى تركيز المواد المتفاعلة والمواد الناتجة من التفاعل فى وحدة الزمن. (القليوبية ٢١) (.....)

(٤) الوحدة الدولية لقياس الإشعاع الممتص بواسطة الجسم البشرى. (كفر الشيخ ٢١) (.....)

(ب) اذكر أهمية كل من :

(١) الطاقة النووية فى مجال الطب. (البحر الأحمر ...)

• .....

(٢) العامل الحفاز. (السويس ...)

• .....

(٣) الوسادة الهوائية. (البحيرة ...)

• .....

(جـ) اختر : أيًا من الدوائر الكهربية الآتية تصلح لتحقيق قانون أوم عمليًا، ثم اكتب الصيغة الرياضية لقانون أوم ؟ ..... (القليوبية ...)

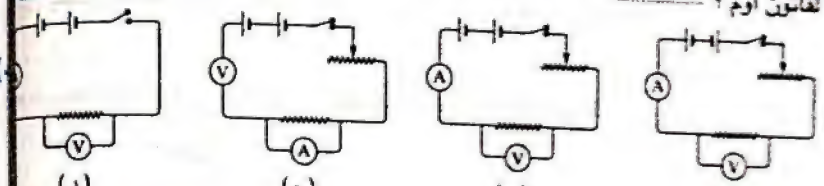

السؤال الثالث ٥ درجات (أ) ٢ درجة (ب) ١ درجة (جـ) ٢ درجة

(أ) أكمل ما يأتي :

(١) $2NaNO_3 \xrightarrow{\Delta}$ ..... $+ O_2\uparrow$ (الوادى الجديد ...)

(٢) تنتج الأعمدة الكهربية تيارًا .....

(٣) تفاعلات المركبات التساهمية ..... تفاعلات المركبات الأيونية. (أسيوط ...)

(٤) التيار الكهربى عبارة عن تدفق ..... فى مادة موصلة. (الجيزة ...)

(ب) فى ضوء التفاعل التالى : $2Na + Cl_2 \longrightarrow 2NaCl$

اكتب مفهوم كل من العامل المؤكسد و العامل المختزل. (الشرقية ...)

• .....

(جـ) فى الشكلين المقابلين، إذا تم إضافة كمية من Na_2CO_3 إلى الكأس (١)، وقطعة صغيرة من Na إلى الكأس (٢) :



(١) اكتب نوع كل من التفاعلين.

(١) : .....

(٢) : .....

(٢) اكتب الصيغة الكيميائية لكل من : (الإسماعيلية ...)

١- محلول الملح الناتج من التفاعل (١).

• .....

٢- الغاز المتصاعد من التفاعل (٢).

• .....

السؤال الرابع ٥ درجات (أ) ١ درجة (ب) ٢ درجة (جـ) ٢ درجة

(أ) صوب ما تحته خط :

(١) يجب ألا يزيد مقدار ما يتعرض له الجمهور من الإشعاع عن ٢٥ مللى سيفرت فى العام الواحد. (.....)

(٢) تتحل كبريتات النحاس بالحرارة وينتج غاز ثانى أكسيد الكبريت. (الفيوم ١٢) (.....)

(ب) احسب كمية الكهربية المارة فى موصل مقاومته ١١٠٠ أوم لمدة ١٠ دقيقة عند توصيله بمصدر كهربى جهده ١١٠ فولت. (كفر الشيخ ١٩)

• .....

.....

.....

(جـ) حدد مع ذكر السبب، أيًا من الأشكال التالية يمثل توصيل الأعمدة الكهربية على التوالى وأى منها يمثل توصيل الأعمدة الكهربية على التوازى ؟ (مطروح ١٢)

• .....

• .....

الوحدة 3

الجينات و الوراثة

تدريبات و اختبارات دورية

اختبار على الدرس

تدريب 1 على القانون الأول لمندل.

نموذج امتحان على الوحدة

تدريب 2 على القانون الثانى لمندل إلى آلية عمل الجين.

أسئلة الكتاب المدرسى على الوحدة

نموذج تراكمى على الوحدات الأولى والثانية والثالثة

تدريبات على درس الوحدة الثالثة

تدريب 1 على القانون الأول لمندل

١ أكمل العبارات الآتية بما يناسبها :

(١) يفسر علم ..... كيفية انتقال الصفات الوراثية من ..... إلى الأبناء. (الكتيب ٣٠)

(٢) قام مندل بتغطية ..... نبات البازلاء أثناء إجراء تجاربه لمنع حدوث تلقيح خلطى. (التجربة ٣١)

(٣) استخدم العالم ..... مصطلح ..... بدلًا من العامل الوراثى. (الكتيب ٣٥)

٢ ما المقصود بالقانون الأول لمندل ؟ (سوبر سعيد ٢٩)

- .....

.....

٣ علل : اختيار مندل لنبات البازلاء لإجراء تجاربه. (الكتاب الشيخ ٣١)

- للأسباب التالية :
  - سهولة .....
  - .....
  - أزهار النبات .....
  - .....
  - .....
  - تعدد .....

٤ أكمل المخطط المقابل، ثم أجب :

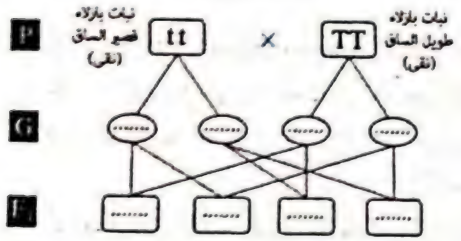

تكون أفراد الجيل الأول حاملة

لصفة .....

بنسبة .....

(دمياط ١٥)

٥ قارن بين الصفة السائدة و الصفة المتنحية. (الإسماعيلية)

	الصفة السائدة	الصفة المتنحية
التعريف	الصفة التى	الصفة التى .....
نسبة الظهور تبعًا للقانون الأول لمندل	تظهر فى الجيل الأول بنسبة	.....
نقاء الصفة	قد تكون	دائمًا .....
مثال	*	* .....

٦ اختر الإجابة الصحيحة مما بين القوسين :

(١) مربع بانيت المقابل، يوضح عملية تزاوج نباتى بازلاء كلاهما بذوره صفراء :

♂ \ ♀	Y	y
Y	(٢)	(١)
y	(٤)	(٣)

١- النبات (٢) .....

(بذوره صفراء هجين / بذوره صفراء نقى / بذوره خضراء)

٢- التركيب الجينى للنبات (٣) هو .....

(yy / YY / Yy)

٣- نسبة النباتات الناتجة ذات البذور الخضراء : ذات البذور الصفراء ..... على الترتيب.

(٣ : ١ / ٢ : ١ / ٢ : ٢ / ١ : ١)

(٢) إذا تزاوج فأر أبيض مع فأر رمادى وأنجبا أربعة فئران لها التركيب الجينى Gg ، Gg ، gg ، gg، أيًا مما يأتى يعبر عن التركيب الجينى للأبوين، علمًا بأن جين لون الفراء الرمادى G سائد على جين لون الفراء الأبيض g ؟ .....

(كلاهما هجين / كلاهما يحمل الصفة السائدة نقية / أحدهما هجين والآخر يحمل الصفة السائدة نقية / أحدهما هجين والآخر يحمل الصفة المتنحية)

٧ عند تزاوج نباتى طماطم، أحدهما ثماره حمراء والآخر ثماره خضراء نتجت أفراد بنسبة ٥٠٪ نباتات ثمارها حمراء : ٥٠٪ نباتات ثمارها خضراء.

وضح على أسس وراثية التركيب الجينى لكل من الآباء والأفراد الناتجة، علمًا بأنه يرمز لجين صفة لون الثمار الحمراء بالرمز R ولجين صفة لون الثمار الخضراء بالرمز r (البحيرة ١٧)

الحل :

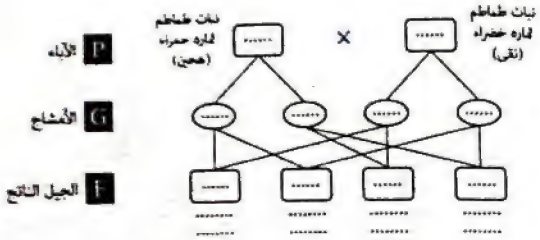

تدريب 2 على القانون الثانى لمندل إلى آلية عمل الجين

١ اكتب نص قانون التوزيع الحر للعوامل الوراثية. (الشيخ ١٩)

* .....

.....

٢ صوب ما تحته خط :

١) النسبة المندلية لكل زوج من زوجى الصفات الموروثة فى أفراد الجيل الثانى، تبعًا للقانون الثانى لمندل هى ١ : ١ (الإسماعيلية ١٥) (.....)

٢) التركيب الجينى لنبات بازلاء بذوره مجعدة الشكل خضراء اللون هو RrYy (بنى سويف ١٧) (.....)

٣) الجينات أجزاء من DNA موجودة فى سيتوبلازم الخلية. (دمياط ١٩) (.....)

٤) تمكن العالمان واطسون و كريك من اكتشاف الكيفية التى يتحكم بها الجين فى إظهار الصفات الوراثية. (الدقهلية ١٧) (.....)

3

[illegible]

[illegible]

[illegible]

صفات الجراد الجيل الثاني	طويلة الساق حمراء الأزهار	طويلة الساق بيضاء الأزهار	قصيرة الساق حمراء الأزهار	قصيرة الساق بيضاء الأزهار
النسبة				

[illegible]

[illegible]

[illegible]

[illegible]

[illegible]

[illegible]

(١) ما المقصود بالجينات ؟

(٢) اشرح آلية عمل الجينات

3 الوحدة الثالثة

٥ ذكر الأمثلة العلمية لكل من :

(١) سيادة صفة الذكر المتحد على صفة الذكر الشاذ.

.....

(٢) إنتاج كرز يحتوى على مادة الكاروتين.

.....

٦ ادرس الشكل المقابل ثم أكمل ما يأتى :

(١) رقم (٢) يمثل ..... وهو يتركب كيميائيًا من حمض نووى DNA مرتبطًا مع بروتين.

عند رقم (٣) والذى يسمى .....

ويكون مرتبطًا مع بروتين.

(٢) رقم (٤) يحدد يمثل ..... لمكان الشعر.

(٣) رقم (١) يمثل ..... وهو يقوم بنقل الصفات الوراثية من الآباء إلى الأبناء.

اختبار على الوحدة الثالثة

أجب عن مجموعة الأسئلة الآتية :

السؤال الأول (٥ درجات) (أ) ٥,٠ درجة (ب) ٢ درجة (جـ) ٢,٥ درجة

(أ) اكتب المصطلح العلمى الدال على كل عبارة من العبارات الآتية :

(١) الفرد الذى يحمل عاملين ورثهما أحدهما الصفة السائدة والآخر الصفة المتنحية. (الإجابة) (.....)

(٢) يتركب كيميائيًا من حمض نووى DNA مرتبطًا مع بروتين. (الإجابة) (.....)

(٣) ظهور الصفة الوراثية السائدة فى أفراد الجيل الأول عند تزاوج فردين يحمل كلاهما صفة وراثية نقية مضادة للصفة التى يحملها الفرد الآخر. (الإجابة) (.....)

(ب) ماذا يحدث عندما يحمل فرد على جين متنحى من كلا الأبوين. (التوضيح)

.....

(جـ) الشكل المقابل يوضح عملية تلقيح ذاتى لنبات بازلاء أحمر الأزهار نقى.

ادرس الشكل ثم أجب عن الأسئلة التى تليه :

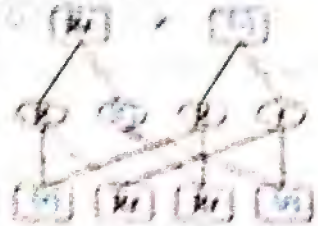

(١) استبدل الأرقام بالرموز المناسبة. (الإجابة) ٢

(١) ..... (٢) .....

(٣) ..... (٤) ١

(٢) هل النتائج تحقق القانون الأول لمندل ؟ مع التفسير. (الإجابة) ٢

.....

السؤال الثانى (٥ درجات) (أ) ١,٥ درجة (ب) ١ درجة (جـ) ٢,٥ درجة

(أ) صوب ما تحته خط :

(١) طبقًا للقانون الثانى لمندل، فإن الصفات المتنحية تظهر فى الجيل الثانى بنسبة ٥٠٪ (الإجابة) (.....)

(٢) تتحكم الجينات فى إظهار الصفات الوراثية للكائن الحى بإنتاج فيتامينات. (الوادى الجديد ٢١) (.....

(٣) تمكن العالمان بيدل وتاتوم من وضع نموذج لجزىء DNA (مطروح ٢١) (.....

(ب) علل : القدرة على لف اللسان من الصفات السائدة فى الإنسان. (البحيرة ٢١)

* .....

(جـ) تزوج رجل ذو شحمة أذن منفصلة نقى من امرأة ذات شحمة أذن ملتحمة : (المنوفية ١٩)

(١) وضح على أسس وراثية صفات الأفراد الناتجة، علمًا بأنه يرمز للجين السائد بالرمز (E) وللجين المتنحى بالرمز (e).

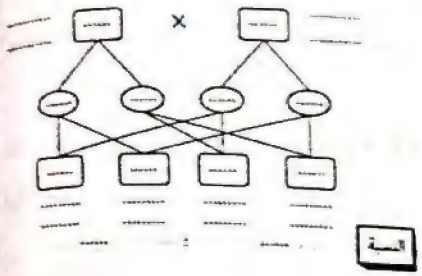

(٢) إلى أى مبدأ من مبادئ الوراثة تتبع هذه الصفة ؟

* .....

السؤال الثالث (٥ درجات) (أ) ٢ درجة (ب) ٣ درجة

(أ) أكمل العبارات الآتية بما يناسبها :

(١) أظهر مشروع ..... تشابه البشر فى أكثر من ..... ٪ من DNA (البحيرة ٢١)

(٢) إذا كان التركيب الجينى لأحد الأبوين AA وللآخر aa فإن نسبة ظهور التركيب الجينى Aa فى الأبناء تكون ..... ٪

(٣) يتحكم فى كل صفة وراثية عاملان وراثيان ينفصلان عند تكوين ..... (المنوفية ٢١)

(ب) الشكل المقابل يوضح عملية تزاوج بين نباتى بازلاء :

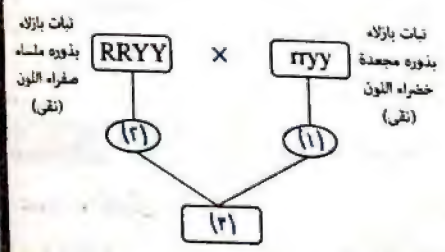

(١) استبدل الأرقام بما يناسبها.

(١) : .....

(٢) : .....

(٣) : .....

(٢) وضح على أسس وراثية ناتج التلقيح الذاتى لنباتات الجيل الأول.

نموذج امتحان على الوحدة الثالثة

أجب عن جميع الأسئلة الآتية :

السؤال الأول (٥ درجات) (أ) ٢ درجة (ب) ٢ درجة (جـ) ١ درجة

(أ) اختر الإجابة الصحيحة مما بين القوسين :

(١) أزهار نبات البازلاء تلقح ..... (البحيرة ٢١)

(ذاتيًا فقط / خلطيًا فقط / صناعيًا فقط / جميع ما سبق)

(٢) كل مما يأتى من أهداف مشروع الجينوم البشرى، عدا ..... (المنوفية ٢٧)

(الحصول على صفات مرغوب فيها / فهم بيولوجية الإنسان / تحديد جميع الجينات البشرية / التعرف على الاختلافات الفردية)

(٣) من الصفات السائدة فى الإنسان ..... (الوادى الجديد ٢١)

(الشعر الناعم / غياب الغمازات / وجود النمش / العيون الواسعة)

(٤) عند تزاوج نباتى بازلاء كلاهما طويل الساق، كان النسل الناتج $\frac{3}{4}$ عدده نباتات طويلة الساق و $\frac{1}{4}$ عدده نباتات قصيرة الساق،

فإن التركيب الوراثى للآباء يكون ..... (الأقصر ١١) (Tt × Tt / tt × Tt / Tt × TT / tt × tt)

(ب) الشكل المقابل يوضح عملية تزاوج بين أنثى أرنب سوداء الفراء وذكر أرنب بنى الفراء، فإذا علمت أن جين اللون الأسود للفراء يُرمز له بالرمز (B) وجين اللون البنى بالرمز (b) ، اذكر :



(١) التركيب الجينى للأبوين.

* .....

(٢) ناتج تزاوج الأرنب (٢) مع الأرنب (٤).

* .....

(جـ) ماذا يحدث إذا تركت مياسم أزهار نبات البازلاء دون تغطية أثناء دراسة منذل لصفاته الوراثية ؟ (أسوان ١٩)

* .....

السؤال الثانى ٥ درجات (أ) ١,٥ درجة (ب) ٢ درجة (جـ) ١,٥ درجة

(أ) اكتب المصطلح العلمى الدال على كل عبارة من العبارات الآتية :

(١) الصفة الوراثية التى تظهر فى جميع أفراد الجيل الأول فى تجارب مندل. (دمياط ٢١) (.....)

(٢) الخلايا التى يتم بواسطتها انتقال العوامل الوراثية من الآباء إلى الأبناء. (البحيرة ١٩) (.....)

(٣) الوحدة البنائية التى يتكون منها الجين. (.....)

(ب) اذكر أهم جهود العلماء الآتى أسمائهم : (شمال سيناء)

(١) مندل.

.....

(٢) بيدل و تاتوم. (الأقصر)

.....

(جـ) استخدم الرموز الآتية (TtRr) ، (ttrr) فى التعبير عن ناتج التزاوج بين نبات بازلاء طويل الساق أحمر الأزهار هجين مع آخر قصير الساق أبيض الأزهار موضحًا التركيب الجينى لكل من الآباء - الأمشاج - الجيل الأول. (بورسعيد ٢١)

السؤال الثالث ٥ درجات (أ) ١ درجة (ب) ٢ درجة (جـ) ٢ درجة

(أ) صوب ما تحته خط :

(١) إذا تزاوج فردان نقيان مختلفان فى زوجين أو أكثر من صفاتهما المتضادة، فإن صفة زوج منهما تورثا معًا، ثم تظهر فى الجيل الثانى بنسبة ٣ (صفة سائدة) : ١ (صفة متنحية) (الغربية ١٧) (.....)

(٢) الهرمونات هى أجزاء من الحمض النووى DNA توجد فى نواة الخلية. (البحر الأحمر ١١) (.....)

(ب) علل لما يأتى :

(١) انتزاع مندل لأسدية بعض أزهار نباتات البازلاء قبل نضج متوكها، أثناء إجراء تجاربه عليها. (الدقهلية ٢١)

.....

(٢) يعانى الأشخاص الذين يعتمدون على الأرز كغذاء رئيسى من نقص فيتامين (أ). (المنيا ١٨)

.....

(جـ) وضح على أسس وراثية ناتج تزاوج نباتى بازلاء أحدهما بذوره صفراء نقى والآخر بذوره خضراء، مبينًا التركيب الوراثى لكل من الآباء و الأفراد الناتجة. (القاهرة ٢١)

السؤال الرابع ٥ درجات (أ) ٣ درجة (ب) ١ درجة (جـ) ١ درجة

(أ) أكمل العبارات الآتية بما يناسبها :

(١) يعرف القانون الأول لمندل بقانون ..... (القاهرة ٢١)

(٢) الصفات التى تنتقل من جيل إلى آخر تسمى بالصفات ..... ، بينما الصفات غير القابلة للانتقال من جيل إلى آخر تسمى بالصفات ..... (سوهاج ١٩)

(٣) كل جين يعطى ..... يكون مسئولًا عن حدوث تفاعل كيميائى معين، ينتج عنه ..... يظهر صفة وراثية محددة. (مطروح ١٨)

(٤) يسمى الفرد الذى يحمل صفة غير نقية بالفرد ..... (سوهاج ٢١)

(ب) قارن بين صفة العيون السوداء و صفة العيون الضيقة «من حيث : نوع الصفة الوراثية». (المنيا ١٨)

.....

.....

(جـ) الشكل المقابل يعبر عن توارث إحدى الصفات البشرية :

(١) ما الرقم الدال على الطفل الذى يحمل الصفة المتنحية ؟

(٢) ما نسبة ظهور الصفة المتنحية فى الجيل الناتج ؟ (الإسماعيلية ٢١)

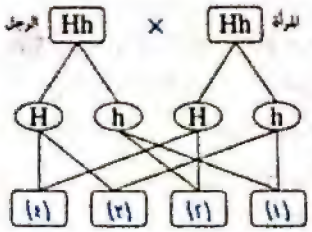

أسئلة الكتاب المدرسى على الوحدة الثالثة

مجاب عنها

❶ ضع علامة (✓) أو (✗) أمام العبارة الآتية، مع تصويب الخطأ إن وجد :

الصفات المكتسبة تنتقل من جيل لآخر. (المنيا ٢١) ( )

❷ اكتب المصطلح العلمى الدال على كل من العبارات الآتية :

(١) ظهور الصفة الوراثية السائدة فى جميع أفراد الجيل الأول عند تزاوج فردين يحمل كلا صفة وراثية نقية مضادة للصفة التى يحملها الفرد الآخر. (أسوان)

(٢) الصفات غير القابلة للانتقال من جيل إلى آخر. (البحيرة)

(٣) أجزاء من DNA الموجود بالكروموسومات، تحمل الصفات الوراثية للفرد. (البحر الأحمر)

❸ وضع مندل مجموعة من الفروض لتفسير ظهور الصفة السائدة واختفاء الصفة المتنحية فى الجيل الأول فى التجارب التى قام بدراستها على نبات البازلاء .. اشرح هذه الفروض. (أسوان)

❹ اشرح : (١) تجربة لتوضيح قانون التوزيع الحر للعوامل الوراثية. (المنيا)

(٢) كيف تؤدى الجينات وظائفها ؟

❺ قارن بين الصفة السائدة و الصفة المتنحية، مع ذكر أمثلة. (الغربية)

❻ فسر كل مما يأتى :

(١) اختيار مندل لنبات البازلاء لإجراء تجاربه. (كفر الشيخ)

(٢) عند تلقيح نبات بازلاء طويل الساق نقى مع نبات بازلاء قصير الساق تنتج نباتات جميعها طويلة الساق. (بنى سويف)

(٣) صفة شحمة الأذن المنفصلة تسود على صفة شحمة الأذن المتصلة. (سوهاج)

❼ استخدم الرموز فى التعبير عن نتائج التزاوج بين كل من : (الوادى الجديد)

(١) نبات بازلاء أبيض الأزهار مع نبات بازلاء أحمر الأزهار نقى.

(٢) نبات بازلاء طويل الساق أخضر القرون نقى مع نبات بازلاء قصير الساق أصفر القرون.

موضحًا التركيب الجينى لكل من :

الآباء - الأمشاج - الجيل الأول - الجيل الثانى.

نموذج تراكمى على الوحدات الأولى و الثانية و الثالثة

أجب عن جميع الأسئلة الآتية :

السؤال الأول ٥ درجات (أ) ٢,٥ درجة (ب) ١ درجة (جـ) ١,٥ درجة

(أ) اكتب المصطلح العلمى الدال على كل عبارة من العبارات الآتية :

(١) يتركب كيميائيًا من حمض نووى يسمى DNA مندمجًا مع بروتين. (القاهرة ٢١) ( )

(٢) ترتيب العناصر الفلزية ترتيبًا تنازليًا حسب درجة نشاطها الكيميائى. (القليوبية ٢١) ( )

(٣) الإشعاع أو الطاقة النووية المنطلقة أثناء التفاعلات النووية التى يمكن التحكم فيها وتُجرى بالمفاعلات النووية. (أسوان ٢٦) ( )

(٤) علم يبحث فى تفسير أوجه التشابه والاختلاف فى الصفات الوراثية بين أفراد النوع الواحد. (بنى سويف ٢٩) ( )

(٥) فرق الجهد بين قطبى المصدر الكهربى فى الدائرة الكهربية المفتوحة. (سوهاج ٢٩) ( )

(ب) حدد العامل المؤكسد فى التفاعل التالى، مع ذكر السبب : (شمال سيناء ١٤)

$$Mg + Cl_2 \longrightarrow Mg^{+2} + 2Cl^-$$

* ..... / .....

.....

(جـ) من الدائرة الكهربية المقابلة : (بنى سويف ١٧)

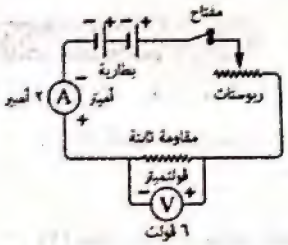

(١) أكمل :

١- قيمة المقاومة الثابتة = ... أوم

٢- كمية الكهربية المارة فى المقاومة الثابتة خلال نصف دقيقة = ... كولوم

(٢) إذكر استخدام الريوستات «المقاومة المتغيرة» فى الدائرة الكهربية.

* .....

.....

السؤال الثانى ٥ درجات

(أ) ٢ درجة (ب) ٢ درجة (جـ) ١ درجة

(أ) أكمل المخطط المقابل، ثم أجب عما يلى :

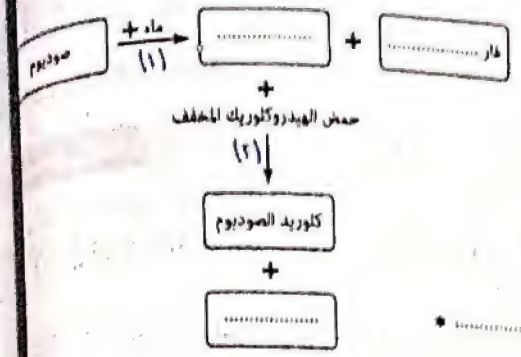

(١) ما نوع التفاعل (١) ؟

* .....

(٢) اكتب المعادلة الرمزية الموزونة للتفاعل (٢).

* .....

(ب) علل لما يأتى :

(١) تعلم المشى عند الأطفال لا يعتبر صفة وراثية. (الفلبين)

* .....

(٢) يعتبر عنصر البولونيوم من العناصر المشعة. (كفر الشيخ)

* .....

(جـ) قارن بين التيار الكهربى المتردد و التيار الكهربى المستمر، «من حيث : التمثيل البيانى لكل منهما». (الجيزة ١٩)

السؤال الثالث ٥ درجات

(أ) ٢ درجة (ب) ٢ درجة (جـ) ١ درجة

(أ) اختر الإجابة الصحيحة مما بين القوسين :

(١) التركيب الجينى لنبات بازلاء قصير الساق أبيض الأزهار هو ..... (دمياط)

(RR / TTrr / ttrr / TTRR)

(٢) عند تسخين كربونات النحاس فإنها تتحلل إلى ..... (الإسكندرية)

(نحاس وبخار ماء / نحاس وغاز ثانى أكسيد الكربون / أكسيد نحاس وغاز ثانى أكسيد الكربون / أكسيد نحاس وبخار ماء)

(٣) الشكل المقابل يوضح نسل تزاوج فردين من ذبابة الفاكهة، فإذا علمت أن صفة طول الجناح تكون سائدة على صفة اختزال الجناح، فما التركيب الجينى لفردى الذباب الآباء ؟ .....

(a) FF × FF
(b) FF × ff
(c) Ff × Ff
(d) Ff × ff

(٤) لديك ٤ كؤوس زجاجية بكل منها تفاعل ٢ سم من شريط الماغنسيوم مع ١٠٠ مللى لتر من محلول حمض الهيدروكلوريك تحت الشروط المدونة على كل كأس، أى الكؤوس يكون بها أسرع معدل للتفاعل ؟ الكأس .....

(ب) ما النتائج المترتبة على :

(١) تزاوج فردان نقيان مختلفان فى زوجين من الصفات المتقابلة. (الإسماعيلية ١٩)

* .....

(٢) إضافة شريط من الماغنسيوم إلى محلول كبريتات النحاس. (القليوبية ٢١)

* .....

(جـ) وضح بالرسم فقط كيفية توصيل ٣ أعمدة كهربية ق.د.ك لكل منها ٢ فولت للحصول على بطارية القوة الدافعة الكهربية لها :

(١) ٢ فولت. (الفيوم ٢١) (٢) ٤ فولت. (أسيوط ١٩)

(١)	(٢)

السؤال الرابع ٥ درجات (أ) ١,٥ درجة (ب) ٢ درجة (جـ) ١,٥ درجة

(أ) اذكر أهمية كل من :

(١) الطاقة النووية فى مجال الزراعة. (الوادى الجديد)

*

(٢) الأرز المعدل جينيًا. (الأقصر)

*

(٣) الوسادة الهوائية فى السيارات. (أكثر الشبا

*

(ب) الشكل المقابل يوضح كأسان بهما كميتان متساويتان من فوق أكسيد الهيدروجين تحتوى إحداهما على قطعة بطاطا : (البحيرة ١٦)

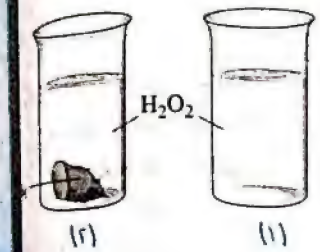

(١) ما اسم الغاز الناتج من تفكك فوق أكسيد الهيدروجين ؟ (جنوب سيناء ٢١)

*

(٢) كيف تكشف عن الغاز الناتج ؟

*

(٣) فى أى الكأسين تتصاعد فقاعات غاز أكثر ؟ مع تفسير إجابتك.

* ..... / .....

(جـ) عند تلقيح نبات بازلاء أصفر البذور مع نبات بازلاء أخضر البذور نتجت أفراد بن ٥٠٪ أصفر البذور : ٥٠٪ أخضر البذور، وضح على أسس وراثية التركيب الجينى لكل الآباء والأمشاج المكونة لهم والأفراد الناتجة. (القليو

الوحدة 4

الهرمونات

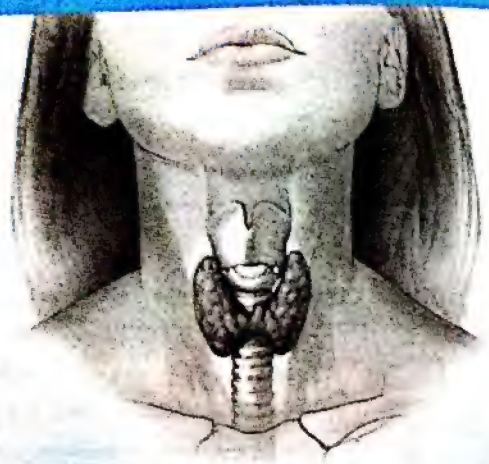

تدريبات و اختبارات دورية

الدرس

تدريب 1 على الهرمونات إلى الغدة الدرقية.

تدريب 2 على غدة البنكرياس إلى آخر الدرس.

نموذج امتحان على الوحدة الرابعة

تدريبات على درس الوحدة الرابعة

تدريب 1 على الهرمونات إلى الغدة الدرقية

١ اكتب المصطلح العلمى الدال على كل عبارة من العبارات الآتية :

(١) أعضاء خاصة تقوم بإفراز الهرمونات فى مجرى الدم مباشرةً فى جسم الإنسان. (القاهرة ٢١) (.....)

(٢) مواد (رسائل) كيميائية تنظم وتنسق معظم الأنشطة والوظائف الحيوية فى جسم الكائن الحى. (الإسكندرية ١٩) (.....)

(٣) ما ينجم عن عدم عمل إحدى الغدد الصماء بالشكل الصحيح. (الشرقية ١٧) (.....)

٢ من الشكلين المقابلين :

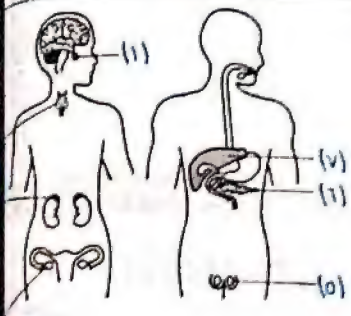

(١) استبدل الأرقام من (١) : (٧) بالبيانات المناسبة.

(١) : .....

(٢) : .....

(٣) : .....

(٤) : .....

(٥) : .....

(٦) : .....

(٧) : .....

(٢) اذكر الأرقام الدالة على الغدتين اللتين تتكون كلاً منهما من فصين. (..... ، .....)

(٣) حدد الإفرازات الهرمونية لكل من الغدتين (١) ، (٢).

(١) : * .....

*

*

*

*

*

*

(٢) : * .....

٣ صوب ما تحته خط :

(١) توجد الغدة الدرقية أسفل المخ وتعرف بسيدة الغدد الصماء. (الدقهلية ١٦) (.....)

(٢) يدخل عنصر الحديد فى تركيب هرمون الثيروكسين. (الفيوم ٢١) (.....)

(٣) يقوم هرمون الإستروجين بإطلاق الطاقة اللازمة للجسم من المواد الغذائية. (الشرقية ١٣) (.....)

٤ علل لما يأتى :

(١) تسمية الغدد الصماء بالغدد اللاقنوية. (الإسماعيلية ١٧)

* .....

(٢) يتخطى طول بعض الأشخاص المترين. (أسيوط ١٧)

* .....

٥ اذكر أهمية هرمون النمو. (دمياط ١٧)

* .....

.....

٦ قارن بين الجويتر البسيط و الجويتر الجحوظى (دمياط ١١)

«من حيث : السبب – أعراض المرض».

	الجويتر البسيط	الجويتر الجحوظى
السبب	*	* .....
أعراض المرض	*	* .....

تدريب 2 على غدة البنكرياس إلى آخر الدرس

١ اذكر أهمية كل من :

(١) هرمون الإنسولين.

•

(٢) هرمون البروجستيرون.

•

(٣) تخليق هرمون النمو البشرى.

•

٢ علل لما يأتى :

(١) للغدتين الكظريتين دور هام عند تعرض الإنسان لحالات الطوارئ.

•

(٢) البنكرياس غدة مزدوجة الوظيفة.

•

٣ قارن بين هرمون الإستروجين و هرمون التستوستيرون، من حيث :

(١) الغدة المفرزة.

(٢) الأهمية.

	هرمون الإستروجين	هرمون التستوستيرون
(١) الغدة المفرزة	•	•
(٢) الأهمية	• مسئول من ظهور	• مسئول من ظهور

٤ اذكر سبب حدوث مرض البول السكرى، وما أعراضه ؟ (الدقهلية ٢٠١٧)

•

٥ من الشكل المقابل :

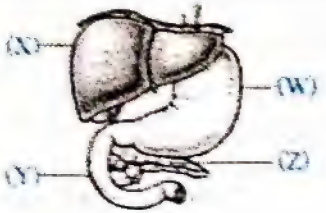

(١) اذكر رمز العضو الذى :

(أ) يُفرز هرمون يحفز خلايا الجسم لامتصاص سكر الجلوكوز الزائد عن المستوى الطبيعى من الدم. (.....)

(ب) يُخزن فيه سكر الجلوكوز الزائد عن حاجة الجسم. (.....)

(٢) اذكر اسم الهرمون الذى :

(أ) يفرزه العضو (Z). (..... ، .....)

(ب) يحفز خلايا العضو (X) لتحويل الجليكوجين المختزن بها إلى سكر جلوكوز. (.....)

نموذج امتحان على الوحدة الرابعة

أجب عن جميع الأسئلة الآتية :

السؤال الأول ٥ درجات (أ) ٢ درجة (ب) ٢ درجة (جـ) ١ درجة

(أ) أكمل العبارات الآتية بما يناسبها :

(١) عندما تقل كمية اليود بالطعام يقل إفراز الغدة ..... لهرمون ..... (الشرق)

(٢) تفرز الهرمونات من أعضاء خاصة تسمى ..... (سوهاج)

(٣) تفرز الغدة الدرقية هرمون ..... المسئول عن ضبط مستوى الكالسيوم فى الدم. (البحيرة)

(ب) من الشكل المقابل :

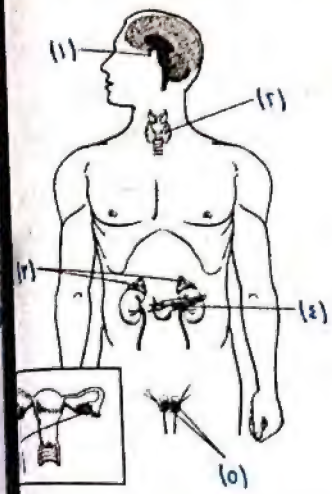

(١) بماذا تُلقب الغدة (١) ؟ ولماذا ؟

* ..... / .....

.....

.....

(٢) اكتب الرقمان الدالان على الغدتين اللتين لا تتواجدان معًا فى جسم شخص واحد، مع ذكر اسم كل منهما. (دمياط ١١)

* (١) / .....

* (٢) / .....

(جـ) ما النتائج المترتبة على إدخال الجين البشرى الذى يحمل تعليمات تخليق هرمون النمو البشرى فى حمض DNA بالخلايا البكتيرية ؟ (المنوفية)

* .....

.....

السؤال الثانى ٥ درجات (أ) ١,٥ درجة (ب) ٢ درجة (جـ) ١,٥ درجة

(أ) اذكر اسم الهرمون الذى تدل عليه كل عبارة من العبارات الآتية :

(١) الهرمون الذى يحفز عملية نمو بطانة الرحم. (الإسكندرية ٢١) (.....)

(٢) الهرمون الذى يقوم بدور رئيسى فى عمليات التحول الغذائى بالجسم. (.....)

(٣) الهرمون الذى يضبط معدل نمو العضلات والعظام. (الإسكندرية ١٧) (.....)

(ب) أكمل الجدول التالى : (السويس ١٣)

	الحالة (المرض)	الوصف	السبب
(١)	القزامة	.....	.....
(٢)	.....	الإحساس الدائم بالعطش وتعدد مرات التبول	.....

(جـ) من الشكل المقابل،

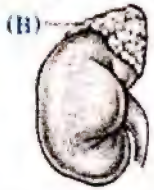

متى يزداد الإفراز الهرمونى للغدة (B) ؟

وما اسم الغدة التى تؤثر على عملها ؟

* .....

..... / .....

السؤال الثالث ٥ درجات (أ) ١,٥ درجة (ب) ٢ درجة (جـ) ١,٥ درجة

(أ) اختر الإجابة الصحيحة مما بين القوسين :

(١) هرمون ..... يحفز إطلاق سكر الجلوكوز المختزن فى خلايا الكبد. (الوادى الجديد ٢١)

(الإستروجين / الإنسولين / الكالسيتونين / الجلوكاجون)

(٢) هرمون ..... مسئول عن ظهور الصفات الجنسية الثانوية الأنثوية. (السويس ٢١)

(الإستروجين / التستوستيرون / الأدرينالين / الثيروكسين)

(٣) يفرز هرمون التستوستيرون من ..... (أسوان ١١)

(الغدة النخامية / الغدة الدرقية / المبيضان / الخصيتان)

(ب) ما المقصود بكل من :

(١) الهرمون. (سوهاج ١٩)

* .....

.....

(٢) الخلل الهرمونى. (المنيا ١٦)

* .....

.....

(جـ) من الشكل المقابل، اذكر : (قنا ١٣)

(١) اسم الغدة (X).

(٢) أهم إفرازات الغدة (X).

السؤال الرابع ٥ درجات (أ) ١ درجة (ب) ٢ درجة (جـ) ٢ درجة

(أ) صوب ما تحته خط :

(١) هرمون الأدرينالين مسئول عن ظهور الصفات الجنسية الثانوية فى ذكر الإنسان. (بورسعيد ١٦)

(٢) تفرز الغدة الدرقية هرمون النمو. (جنوب سيناء ١٧)

(ب) علل لما يأتى :

(١) الدم هو السبيل الوحيد لكى يصل الهرمون إلى موقع عمله.

(٢) تضخم الغدة الدرقية عند بعض الأشخاص ونقص وزنهم بشكل ملحوظ.

(جـ) الشكل البيانى المقابل، يوضح بعض التغيرات المحتمل حدوثها لمعدل سكر الجلوكوز فى دم الإنسان :

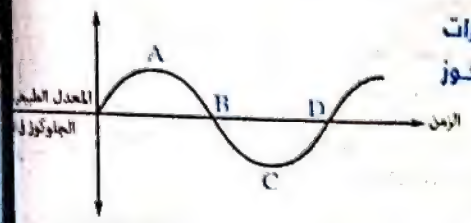

(١) حدد اسم الهرمون الذى يعدل مستوى سكر الجلوكوز من الوضع :

١- (A) إلى (B).

٢- (C) إلى (D).

(٢) ما الغدة الصماء التى تضبط تركيز سكر الجلوكوز فى دم الإنسان ؟ وأين تقع ؟

/

تدريبات على الفصل الدراسى



- **أولا** اختبارات دليل تقويم الطالب.
- **ثانيا** تدريبات الكتاب المدرسى. (مجاب عنها)
- **ثالثا** نماذج امتحانات الكتاب المدرسى. (مجاب عنها)
- **رابعا** نماذج امتحانات المحافظات لعام ٢٠٢١ (مجاب عن بعضها)

أولًا اختبارات دليل تقويم الطالب

الاختبار الأول على الوحدة 1

١ (أ) اختر الإجابة الصحيحة مما بين القوسين :

(١) عند تسخين كربونات الفلز يتصاعد غاز ..... (يساعد على الاشتعال / يزيد من اشتعال شظية مشتعلة / يعكر ماء الجير الرائق / جميع ما

(٢) زيادة تركيز المواد المتفاعلة يسبب ..... سرعة التفاعل. (نقص / ثبات / زيادة / تغ

(ب) حدد العامل المختزل و العامل المؤكسد فى التفاعل التالى :

$$2Mg + CO_2 \xrightarrow{\Delta} 2MgO + C$$

٢ أكمل العبارات الآتية :

(١) عند إضافة محلول هيدروكسيد الصوديوم إلى محلول كبريتات النحاس (يتكون محلول ..... عديم اللون وراسب أزرق من .....

(٢) تقاس سرعة التفاعل بمعدل ..... أو .....

(٣) فى التفاعل الآتى : $H_2 + CuO \xrightarrow{\Delta} H_2O + Cu$ يحدث لأكسيد النحاس عملية ..... ، بينما يحدث للهيدروجين عملية .....

(٤) تتكون مادة ذات لون ..... عند تسخين هيدروكسيد النحاس بشدة، بينما تتكو ذات لون ..... عند تسخين أكسيد الزئبق بشدة.

٣ (أ) ضع علامة (✓) أمام العبارة الصحيحة وأعد تصويب العبارة الخطأ :

(١) الأكسدة عملية كيميائية تكتسب فيها ذرة العنصر إلكترون أو أكثر.

(٢) عند إحلال الخارصين محل النحاس فى محلول أحد أملاحه يتكون راسب أبيض.

(٣) العامل الحفاز يمكن أن يقلل من الطاقة اللازمة لحدوث التفاعل الكيميائى.

(ب) اذكر اسم الغاز المتصاعد فى كل تفاعل مما يأتى، وكيف يمكن الكشف عنه :

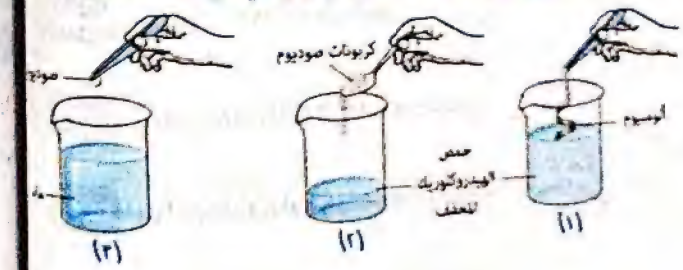

١ (أ) علل : (١) يزول لون كربونات النحاس الخضراء عند تسخينها.

(٢) يؤدى زيادة تركيز المواد المتفاعلة إلى زيادة سرعة التفاعل. (القاهرة ٢٩)

(ب) من التفاعلات المقابلة :

(1) $AgNO_3 + NaCl \longrightarrow$ راسب + $\boxed{B}$

(2) $2\boxed{B} \xrightarrow{\Delta}$ ملح + $\boxed{D}$

(١) اكتب الصيغة الكيميائية لكل من (B) ، (D). (الإسكندرية ٣٢)

(٢) ما اسم كل من الراسب والملح الناتجين ؟ (الفيوم ١١)

الاختبار الثانى على الوحدة 1

١ (أ) اختر : تحل الفلزات النشطة محل هيدروجين الماء وينتج ..... ويتصاعد غاز الهيدروجين. (أكسيد الفلز / نترات الفلز / هيدروكسيد الفلز)

(ب) لديك : (كبريتات النحاس / هيدروكسيد النحاس / لهب).

وضح كيف تحصل على مادة سوداء اللون.

٢ أكمل العبارات الآتية :

(١) تنقسم تفاعلات الحفز إلى نوعين، تفاعلات حفز ..... وتفاعلات حفز .....

(٢) تتفاوت سرعة التفاعلات الكيميائية من تفاعل إلى آخر فمنها ما يحدث بسرعة كبيرة جدًا، مثل ..... ومنها ما يحتاج لوقت طويل (عدة شهور)، مثل .....

(٣) يتلف الطعام غير المجمد سريعًا بسبب .....

(٤) المركبات التساهمية ..... فى تفاعلاتها لأنها ..... حيث يكون التفاعل بين الجزيئات.

(٥) تتم عملية الأكسدة عن طريق ..... الإلكترونات، بينما تتم عملية الاختزال عن طريق ..... الإلكترونات. (البحر الأحمر ١٢)

٣ (أ) ضع علامة (✓) أمام العبارة الصحيحة، وأعد تصويب العبارة الخطأ :

(١) تتحول ذرة الصوديوم إلى أيون صوديوم موجب عندما تفقد إلكترون. ( )

(٢) تحل بعض الفلزات محل هيدروجين الماء و ينتج أكسيد الفلز وغاز الأكسجين. ( )

(٣) فى نهاية التفاعل الكيميائى تكون نسبة المتفاعلات أقل من نسبة النواتج. ( )

(ب) حدد العامل المختزل و العامل المؤكسد فى كل من التفاعلات الآتية :

(1) $2H_2S + SO_2 \longrightarrow 3S + 2H_2O$

(2) $2Al + 3Cl_2 \longrightarrow 2AlCl_3$ (الدقهلية ١٤)

٤ (أ) اكتب المصطلح العلمى الدال على كل مما يأتى :

(١) ترتيب العناصر الفلزية ترتيبًا تنازليًا حسب درجة نشاطها الكيميائى.

(٢) تفاعل حمض مع قلوى لتكوين ملح وماء.

(٣) إنزيم يوجد فى البطاطا ويعمل على سرعة تفكك محلول فوق أكسيد الهيدروجين.

(ب) علل : عند إمرار الغاز الناتج من تسخين كربونات النحاس الخضراء، خلال محلول ماء الجير الرائق، فإنه يتعكر.

الاختبار الثالث على الوحدة 1

١ (أ) اختر الإجابة الصحيحة مما بين القوسين :

(١) المادة الصلبة الناتجة عن تسخين نترات الصوديوم هى .....
(أكسيد الصوديوم / هيدروكسيد الصوديوم / نيتريت الصوديوم)

(٢) يتفاعل حمض الهيدروكلوريك مع هيدروكسيد الصوديوم وينتج .....
(حمض و هيدروجين / ماء و قلوى / ملح الحمض و ماء)

(٣) تحتوى المحاليل المائية للقلويات على أيونات ..... (CO_3^{-2} / OH^- / H^+ / H_2)

(ب) وضح كيف تحصل على فلز النحاس من كبريتات النحاس بطريقتين مختلفتين، مع كتابة معادلات التفاعل الرمزية الموزونة.

٢ أكمل العبارات الآتية :

(١) يوجد بالمعدة ..... يساعد فى هضم البروتينات.

(٢) طبيعة المواد الداخلة فى التفاعل يقصد بها عاملان، هما ..... و .....

(٣) يفسد الطعام غير المجمد سريعًا بسبب .....

(٤) العامل المساعد لا يحدث له أى تغير ..... أو نقص فى ..... بعد انتهاء التفاعل.

(٥) المركبات التساهمية تكون تفاعلاتها ..... بينما المركبات الأيونية تفاعلاتها .....

٣ (أ) اكتب المصطلح العلمى الدال على كل مما يأتى :

(١) عملية يحدث فيها زيادة نسبة الأكسجين فى المادة. (جنوب ...)

(٢) كسر الروابط الموجودة فى جزيئات المتفاعلات وتكوين روابط جديدة فى جزيئات النواتج.

(ب) ماذا يحدث عند :

(١) إمرار غاز الهيدروجين على أكسيد النحاس الأسود الساخن.

(٢) إضافة عامل حفاز سالب لتفاعل كيميائى.

٤ (أ) علل : (١) خطورة التعامل مع كميات كبيرة من فلز الصوديوم.

(٢) لا تحل الفضة محل هيدروجين الحمض أو محل الحديد فى محاليل أملاحه.

(ب) إذا كانت الرموز (X ، Y ، Z) لثلاثة مركبات مختلفة يمثلها التفاعل الآتى :

$$X \xrightarrow{\Delta} Y + Z$$

- (Y) : أكسيد أسود.
- (Z) : غاز يعكر ماء الجير الرائق.

(١) استنتج الصيغ الكيميائية للمركبات الثلاثة.

(٢) وضح كيف تحصل على فلز من المركب (Y).

الاختبار الأول على الوحدة 2

١ (أ) أكمل العبارات الآتية :

(١) تقاس شدة التيار بجهاز ..... ووحدة قياسها ..... (قنا ١٧)

(٢) يستخدم جهاز ..... فى قياس المقاومة. (الشرقية ٢١)

(٣) تتناسب مقاومة سلك تناسبًا ..... مع طوله وتناسبًا ..... مع شدة التيار المار فيه عند ثبوت فرق الجهد.

(٤) وحدة قياس كمية الكهربية هى ..... ، بينما وحدة قياس القوة الدافعة الكهربية هى ..... (كفر الشيخ ١٨)

(٥) تستخدم الطاقة النووية فى مجال الطب فى ..... و ..... بعض الأمراض. (بورسعيد ١٧)

(ب) احسب شدة التيار الكهربى الناتج عن مرور كمية من الكهربية مقدارها ٦٠٠٠ كولوم عبر مقطع من موصل لمدة ١٠ دقائق.

(جـ) ماذا يحدث فى كل من الحالات التالية :

(١) تلامس موصلان لهما نفس الجهد الكهربى. (الغربية ٢١)

(٢) قل طول سلك الريوستات المدمج فى الدائرة «بالنسبة لشدة التيار». (أسيوط ١٧)

(٣) زيادة زمن سريان الشحنة الكهربية للضعف مع ثبوت كمية الشحنة «بالنسبة لشدة التيار الكهربى». (الأقصر ١٥)

٢ (أ) ضع علامة (✓) أمام العبارة الصحيحة و علامة (✗) أمام العبارة الخطأ، مع التصويب :

(١) يستخدم جهاز الأميتر فى قياس فرق الجهد. (بنى سويف ١٥) ( )

(٢) يمكن الحصول على التيار المتردد من الأعمدة الكهربية الجافة. ( )

(٣) عندما تمر كمية من الكهربية مقدارها ١٠٠ كولوم عبر موصل فى زمن قدره ٢٠ ثانية، فإن شدة التيار المار فيه تساوى ٥ أمبير. ( )

(ب) احسب فرق الجهد بين طرفى ملف موتور مكنسة كهربية مقاومته ٢٢ أوم وكمية الكهر
المارة فيه خلال ١٠ ثوانى مقدارها ١٠٠ كولوم.

(جـ) وضح بالرسم الدائرة الكهربية لقانون أوم، مع ذكر نص القانون.

٣ (أ) فى الدائرة التى أمامك، ما قيمة كل من :

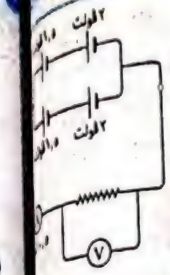

(١) قراءة الفولتميتر.
(٢) قراءة الأميتر.
(٣) قيمة المقاومة.

(ب) اذكر السبب العلمى لكل مما يأتى :
(١) يفضل استخدام التيار المتردد عن التيار المستمر. (مطروح ٢١)
(٢) استخدام مقاومة متغيرة فى بعض الدوائر الكهربية. (دمياط ٢١)
(٣) يجب أن تكون المنطقة المختارة لحفظ النفايات المُشعة بعيدة تمامًا عن مجرى المياه الجوفية. (الغربية ١٩)

٤ (أ) اختر الإجابة الصحيحة مما بين القوسين :
(١) يستخدم جهاز ..... لقياس فرق الجهد الكهربى.
(الأميتر / الفولتميتر / الأوميتر / الريوستا
(٢) عند توصيل عدة أعمدة كهربية على التوالى تكون ق.د.ك للبطارية .....
(أكبر ما يمكن / أقل ما يمكن / مساوية لقيمة ق.د.ك للعمود الوا
(٣) يتحرك الزالق المعدنى للريوستات على .....
(أسطوانة معزولة / سلك معزول ملفوف حول أسطوانة من مادة موصلة
أسطوانة من الجرافيت / سلك معدنى ملفوف حول أسطوانة معز

(ب) ما معنى قولنا أن :
(١) مقاومة موصل ١٠ أوم.
(٢) القوة الدافعة الكهربية لخلية كهروكيميائية ٦ فولت.
(٣) شدة التيار الكهربى المار فى موصل ١٠ أمبير.

(جـ) لدى يوسف ثلاثة أعمدة كهربية، القوة الدافعة الكهربية لكل منها ٣ فولت، وضح بالرسم كيف يمكن ليوسف توصيل تلك الأعمدة معًا للحصول على بطارية القوة الدافعة الكهربية لها : (الإسماعيلية)
(١) ٣ فولت. (٢) ٦ فولت. (٣) ٩ فولت.

الاختبار الثانى على الوحدة 2

١ (أ) اختر الإجابة الصحيحة مما بين القوسين :
(١) مقاومة موصل فرق الجهد بين طرفيه ١٠ فولت وكمية الشحنة الكهربية المارة به ١٠ كولوم خلال ٢ ثانية هى ..... أوم. (١ / ٢ / ٥)
(٢) وحدة قياس ..... تكافئ كولوم/ث (المقاومة / الشغل المبذول / شدة التيار)
(٣) من أمثلة العناصر المشعة ..... (الحديد / البوتاسيوم / اليورانيوم / الفوسفور)
(٤) يستخدم الريوستات المنزلق لتغيير ..... وبالتالى ..... بالدائرة الكهربية.
(شدة التيار ، فرق الجهد / فرق الجهد ، المقاومة / شدة التيار ، المقاومة)

(ب) علل : (١) التعرض للإشعاع يحدث تأثيرات وراثية. (أسيوط ١٩)
(٢) لا ينتقل التيار الكهربى من موصل جهده ٢٠ فولت إلى موصل جهده ٢٥ فولت.

٢ (أ) ضع علامة (✓) أمام العبارة الصحيحة و علامة (✗) أمام العبارة الخطأ :
(١) وحدة قياس القوة الدافعة الكهربية هى الكولوم. ( )
(٢) وحدة القياس المستخدمة فى تقدير الإشعاع الممتص هى الرونتيجن. ( )

(ب) ما أهمية كلٍّ من :
(١) الفولتميتر. (كفر الشيخ ٢١) (٢) الأوميتر. (كفر الشيخ ١٩)
(٣) التيار الكهربى المستمر. (البحر الأحمر ١٩) (٤) الطاقة النووية فى التنقيب. (أسوان ١٨)

(جـ) لديك أربعة أعمدة كهربية قيمة القوة الدافعة الكهربية لكل عمود منهم ٣ فولت وضح بالرسم كيفية توصيلهم للحصول على بطارية ق.د.ك لها :
(١) أقل قوة دافعة كهربية. (٢) أكبر قوة دافعة كهربية.
(٣) ٦ فولت «بطريقتين». (٤) ٩ فولت. (الأزهر ١٦)

٣ (أ) اكتب المصطلح العلمى الدال على كل عبارة من العبارات الآتية :
(١) ارتفاع كمية الإشعاعات النووية وزيادة نوعيتها فى البيئة المحيطة بنا. (جنوب سيناء ٢١)
(٢) فرق الجهد بين طرفى البطارية فى حالة عدم مرور تيار كهربى.
(٣) مقاومة موصل يسرى به تيار شدته ١ أمبير، عندما يكون الفرق فى الجهد ١ فولت. (أسيوط ١٩)
(٤) فيض من الشحنات الكهربية يسرى من طرف سلك إلى الطرف الآخر.

(ب) موصل مقاومته ٢٢ أوم وكمية الكهربية المتدفقة خلاله فى الثانية الواحدة ١٠ كولوم.
احسب فرق الجهد بين طرفى الموصل. (مطروح ١٥)

(جـ) ما معنى قولنا أن :

(١) القوة الدافعة الكهربية لمصدر تيار كهربى ٢ فولت.

(٢) فرق الجهد بين طرفى موصل مقاومته ٢ أوم يساوى ٦ فولت. (بنى سويف)

(٣) شدة التيار الكهربى المار فى موصل ٢ أمبير. (البحر الأحمر)

٤ (أ) أكمل ما يأتى :

(١) وحدة قياس المقاومة هى .....

(٢) يتولد التيار الكهربى المتردد من ..... نتيجة تحويل الطاقة ..... إلى طاقة ..... (البحيرة)

(٣) عند توصيل موصلين مشحونين مختلفين فى الجهد الكهربى، فإن التيار الكهربى يمر من الموصل ..... جهدًا إلى الموصل ..... جهدًا. (البحر الأحمر)

(٤) يلزم عدم التعرض للإشعاعات غير المرئية فترات طويلة لتجنب .....

(٥) توصل بعض الأعمدة الكهربية على ..... فى الدائرة الكهربية للحصول على أكبر قوة دافعة كهربية.

(ب) قارن بين : (١) الأميتر و الڤولتميتر «من حيث : وحدة القياس – طريقة التوصيل». (البحر الأحمر)

(٢) تيار موحد الشدة و تيار متغير الشدة «من حيث : المصدر – الأهمية».

الاختبار الثالث على الوحدة 2

١ (أ) أكمل العبارات الآتية :

(١) مقاومة السلك المعدنى لمرور التيار الكهربى تتناسب ..... مع شدة التيار و ..... مع فرق الجهد.

(٢) يتناسب فرق الجهد بين طرفى موصل ..... مع شدة التيار المار فيه عند ثبوت .....

(٣) تنتج الأعمدة الكهربية تيارًا ..... أما المولدات الكهربية فتنتج تيارًا ..... (الإسماعيلية)

(٤) طرق الوقاية من التلوث الإشعاعى ..... و .....

(ب) علل : (١) القوة الدافعة الكهربية للبطارية المتصلة أعمدتها على التوالى أكبر من القوة الدافعة الكهربية لتلك المتصلة أعمدتها على التوازى. (كفر الشيخ)

(٢) للنشاط الإشعاعى مصادر طبيعية وصناعية.

(٣) قد لا ينتقل التيار الكهربى بين موصلين عند توصيلهم بسلك.

(جـ) إذا كان مقدار الشغل المبذول لنقل شحنة كهربية مقدارها ٢٠ كولوم بين نقطتين يساوى ٥٠٠ جول، احسب فرق الجهد بين النقطتين.

٢ اختر الإجابة الصحيحة مما بين القوسين :

(١) يستخدم جهاز الأوميتر لقياس ..... بالدائرة الكهربية. (مطروح ٢١)

(فرق الجهد / شدة التيار / المقاومة)

(٢) العلاقة الرياضية لقانون أوم هى ..... (أسيوط ١٩)

(م = جـ / ت ، م = جـ × ت ، م = جـ − ت)

(٣) يستخدم التيار المستمر فى ..... (الإنارة / الطلاء الكهربى / تشغيل الثلاجات)

(٤) فى العمود الكهربى تتحول الطاقة ..... إلى طاقة كهربية. (الغربية ٢١)

(الحركية / المغناطيسية / الكيميائية)

(٥) للنشاط الإشعاعى تأثيرات وراثية تؤدى إلى التغير فى تركيب .....

(الكروموسومات / نخاع العظام / هيموجلوبين الدم)

٣ (أ) اكتب المصطلح العلمى الدال على كل عبارة مما يأتى :

(١) تدفق الشحنات الكهربية السالبة خلال مادة موصلة (سلك معدنى). (بورسعيد ٢١)

(٢) كمية الشحنات الكهربية المتدفقة خلال مقطع من موصل فى فترة زمنية محددة. (الإسماعيلية ٢١)

(٣) شدة التيار الكهربى المتدفق فى الدائرة الكهربية عندما تمر شحنة كهربية مقدارها ١ كولوم خلال مقطع من موصل فى الثانية الواحدة. (المنيا ٢١)

(٤) تحول تلقائى لأنوية ذرات العناصر المشعة كمحاولة منها للوصول إلى تركيب أكثر استقرارًا. (سوهاج ٢١)

(ب) لديك ٤ أعمدة كهربية متماثلة، القوة الدافعة الكهربية لكل منها ١,٥ فولت، وضح بالرسم كيفية توصيلها للحصول على بطارية القوة الدافعة الكهربية لها :

(١) ٦ فولت. (المنيا ٢١) (٢) ٤,٥ فولت. (المنيا ٢١)

(٣) ٣ فولت «بطريقتين». (السويس ٢١) (٤) ١,٥ فولت. (مطروح ٢١)

٤ (أ) طلب أحد زملائك مساعدته فى توصيل راديو جديد بكهرباء منزله، فإذا علمت أن جهد تيار المنزل ٢٢٠ فولت، بينما جهاز الراديو يعمل على جهد قدره ١١٠ فولت، فماذا تقترح عليه لتشغيل الراديو دون أن يتلف ؟

(ب) ضع علامة (✓) أمام العبارة الصحيحة وأعد تصويب العبارة الخطأ :

(١) يفضل استخدام التيار المتردد عن التيار المستمر. ( )

(٢) تستخدم الطاقة النووية فى القضاء على الآفات وتحسين سلالات بعض النباتات. ( )

(جـ) ارسم الدائرة الكهربية المستخدمة لاستنتاج العلاقة بين شدة التيار الكهربى المار في مقاومة ما و فرق الجهد بين طرفيها.

(د) قارن بين التأثيرات البيئية و التأثيرات الوراثية و التأثيرات الخلوية للإشعاعات النووية.

الاختبار الأول على الوحدة 3

(١) أكمل العبارات التالية :

(١) تمكن العالمان ..... و ..... من اكتشاف كيفية إظهار الجين للصفة الوراثية.

(٢) عند تزاوج نبات بسلة طويل الساق نقى مع آخر قصير الساق، فإن احتمال نواتج نباتات قصيرة الساق فى أفراد الجيل الناتج يكون .....

(ب) اذكر التجربة العلمية لسيادة صفة الشعر المجعد على صفة الشعر الناعم.

(جـ) اذكر الدور الذى قام به مندل.

(٢) اختر الإجابة الصحيحة مما بين القوسين :

(١) ..... أجزاء من DNA موجودة بالكروموسومات فى النواة. (الجين / الأمشاج / السيتوبلازم / لا توجد إجابة صحيحة)

(٢) من الصفات السائدة فى الإنسان ..... (الشعر الناعم / العيون الزرقاء / عدم وجود النمش)

(ب) علل: عند تلقيح نبات بسلة قرمزى (أحمر) الأزهار نقى مع نبات بسلة أبيض الأزهار تنتج نباتات جميعها قرمزية الأزهار.

(٣) اكتب المفهوم العلمى الدال على كل عبارة من العبارات التالية :

(١) الفرد الذى يحمل زوجًا متماثلًا من الجينات للصفة الواحدة سواء كانا سائدين أو متنحيين.

(٢) الصفات التى يكتسبها الإنسان من البيئة المحيطة والتى لا تنتقل من جيل إلى آخر.

(ب) وضح على أساس وراثية ناتج تلقيح نبات بسلة طويل الساق هجين (Tt) مع آخر قصير الساق نقى (tt).

(جـ) ما المقصود بكل من :

(١) الصفات المكتسبة.

(٢) مبدأ السيادة التامة.

(٣) القانون الأول لمندل.

(١) ضع علامة (✓) أمام العبارة الصحيحة و علامة (✗) أمام العبارة الخطأ :

(١) الكروموسوم (الصبغى) يتركب كيميائيًا من حمض نووى مرتبط مع بروتين. ( )

(٢) عند تزاوج نبات بسلة بذوره مجعدة tt بآخر بذوره ملساء Rr يكون ٥٠٪ من أفراد الجيل الأول بذوره مجعدة. ( )

(٣) الفرد الهجين يحمل جينين أحدهما للصفة السائدة والآخر للصفة المتنحية. ( )

(٤) صفة الشعر المجعد سائدة على صفة الشعر الطويل فى الإنسان. ( )

(ب) اذكر فرقًا واحدًا بين الصفة السائدة و الصفة المتنحية.

الاختبار الثانى على الوحدة 3

(١) أكمل العبارات التالية :

(١) تعد كرة القدم من الصفات ..... بينما صفة العين الملونة من الصفات .....

(٢) مؤسس علم الوراثة هو ..... وقد استخدم ..... فى تجاربه.

(٣) إذا تواجد عاملان وراثيان أحدهما للصفة السائدة والآخر للصفة المتنحية يظهر على الفرد الصفة ..... ويسمى .....

(٤) عند تزاوج نبات بسلة طويل الساق هجين مع آخر قصير الساق، فإن احتمال تواجد النباتات قصيرة الساق إلى النباتات طويلة الساق فى الأبناء : .....

(ب) علل : (١) عند تلقيح نبات بسلة أصفر القرون مع نبات بسلة أخضر القرون نقى تنتج نباتات جميعها ذات قرون خضراء.

(٢) القدرة على لف اللسان من الصفات السائدة فى الإنسان.

(٣) غطى مثل ميلاسم أزهار نبات البازلاء بعد تلقيحها عند إجراء تجاربه.

(٢) ماذا يحدث عند : (١) تزاوج فردان نقيان مختلفان فى زوج من صفاتهما المتقابلة.

(٢) تلقيح نبات بسلة طويل الساق هجين مع آخر مماثل له.

(٣) تلقيح نبات بسلة بذوره ملساء هجين مع آخر مجعد البذور.

(ب) ضع علامة (✓) أمام العبارة الصحيحة، وأكد تصويب العبارة الخطأ :

(١) صفة شحمة الأذن الملتحمة من الصفات الوراثية السائدة فى الإنسان. ( )

(٢) عند تلقيح نبات بسلة قرمزى الأزهار نقى مع نبات بسلة أبيض الأزهار تنتج نباتات جميعها قرمزية الأزهار. ( )

(٣) يسمى القانون الأول لمندل بقانون انعزال العوامل. ( )

(جـ) وضح على أسس وراثية ناتج التلقيح الذاتى لنبات بسلة بذوره صفراء هجين (Yy).

(الصف تاسع)

٣ (أ) اكتب المفهوم العلمى لكل مما يأتى :

(١) الصفة الوراثية التى لا تظهر إلا فى نباتات الجيل الثانى فى تجارب مندل وتكون نقية دائمًا.

(٢) إذا اختلف فردان نقيان فى زوج من صفاتهما المتقابلة، فإنهما ينتجان بعد تزاوجهما جيلًا به صفة أحد الأبوين فقط، ثم تورث الصفتان معًا فى الجيل الثانى بنسبة ٣ : ١.

(٣) الجين الذى لا يستطيع إظهار صفته إلا إذا تواجد معه جين مثله.

(٤) الفرد الذى يحمل زوج متباين من الجينات لصفة ما. (الشرقية)

(ب) صوب ما تحته خط فى العبارات الآتية :

(١) الجينات أجزاء من DNA توجد فى سيتوبلازم الخلية. (دمياط)

(٢) الصفة المتنحية تظهر فى جميع نباتات الجيل الأول فى تجارب مندل.

٤ (أ) تزوج رجل من امرأة كلاهما قادرين على لف اللسان فأنجبا طفلًا غير قادر على لف اللسان، فإذا علمت أن جين القدرة على لف اللسان يرمز له بالرمز R وهو سائد على جين عدم القدرة على لف اللسان، اكتب التركيب الجينى للأبوين.

(ب) ما صفة الأبناء الناتجة عن تزاوج :

(١) رجل له القدرة على لف اللسان من امرأة لها القدرة على لف اللسان.

(٢) رجل مجعد الشعر من امرأة ناعمة الشعر.

الاختبار الثالث على الوحدة 3

١ (أ) أكمل ما يأتى :

(١) تتحول مادة الكاروتين فى الجسم إلى فيتامين ..... الذى يؤدى نقصه إلى .....

(٢) الصفات غير القابلة للانتقال من جيل لآخر تسمى الصفات ..... (المنوفية)

(ب) ما المقصود بـ :

(١) علم الوراثة.

(٢) الصفة المتنحية. (بنى سويف)

٢ (أ) اختر الإجابة الصحيحة مما بين القوسين :

(١) كل مما يأتى من خصائص بذور نبات البسلة، عدا أنها .....

(خضراء اللون / مجعدة الشكل / ملساء الشكل / بيضاء اللون)

(٢) تتحكم الجينات فى ظهور الصفات الوراثية للكائن الحى بإنتاج ..... (الجيزة)

(هرمونات / إنزيمات / دهون / فيتامينات)

(٣) تحمل نواة كل خلية مجموعة كاملة من ..... المسئولة عن إظهار الصفات الوراثية للكائن الحى. (الشرقية)

(الإنزيمات / الطفرات / الجينات / الهرمونات)

(ب) علل : (١) انتزع مندل أسدية بعض أزهار نباتات البازلاء قبل نضج متوكها عند إجراء تجاربه عليها. (الوادى الجديد)

(٢) تلعب الإنزيمات دورًا هامًا فى ظهور الصفات الوراثية. (الشرقية)

٣ (أ) اكتب المصطلح العلمى الدال على العبارة التالية : (أسيوط)

أجزاء من الحمض النووى DNA الموجود بالكروموسومات تحمل الصفات الوراثية.

(ب) اذكر أهم جهود العالمان واطسون و كريك. (مطروح)

٤ (أ) ضع علامة (✓) أمام العبارة الصحيحة و علامة (✗) أمام العبارة الخطأ :

(١) البروتين المكون لصبغة لون العيون البنية يختلف عن البروتين المكون لصبغة لون العيون السوداء. ( )

(٢) القدرة على لعب رياضة التنس من الصفات الوراثية. ( )

(ب) قارن بين الجين و الكروموسوم «من حيث : التركيب». (بنى سويف)

الاختبار الأول على الوحدة 4

١ (أ) أكمل العبارات الآتية :

(١) تتركب كل من الغدة ..... والغدة ..... من فصين.

(٢) يقع البنكرياس بين ..... و .....

(ب) فى المخطط التالى ما اسم كل من العضوين (١)، (٢) : (بنى سويف)

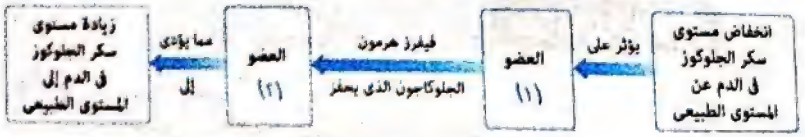

٢ (أ) اكتب المفهوم العلمى الدال على كل مما يأتى : (بنى سويف)

(١) رسائل كيميائية تفرزها الغدد الصماء وينقلها الدم للخلايا المستهدفة.

(٢) النتيجة التى تحدث عندما لا تعمل الغدة الصماء بكفاءة.

(٣) هرمون يعطى أثر للغدة الثديية لإفراز اللبن.

(٤) الغدة الدرقية تفرز إفرازها من الهرمونات في الدم مباشرة.

(ب) اذكر مرضاً:

(١) الغدة النخامية. (٢) الغدتان الكظريتان.

---

(١) اختر الإجابة الصحيحة مما بين القوسين:

(١) الجويتر البسيط يحدث عندما يقل هرمون الثيروكسين نتيجة نقص ..... في الغذاء. (اليود / الكالسيوم / الفوسفوريوم / الصوديوم)

(٢) تفرز مخلوق هرمون ..... بكمية المنشطة الدرقية لإفراز الهرمونات. (الباراثرمون / التستوستيرون / البروجستيرون / الثيروكسين)

(٣) هرمون ..... المسئول عن ظهور الصفات الجنسية الثانوية في الأنثى. (الإستروجين / التستوستيرون / البروجستيرون / الثيروكسين)

(٤) يفرز ..... هرموناً يسهل عملية الولادة. (الغدة النخامية / غدة المبيض / الغدة الكظرية / الغدة الدرقية)

(ب) علل لما يأتي: (١) حدوث الصلعة.

(٢) قلة نسبة الثيروكسين في الدم لدى بعض الأشخاص.

---

(٢) ضع علامة (✓) أمام العبارة الصحيحة و علامة (✗) أمام العبارة الخاطئة:

(١) يفرز هرمون الأدرينالين من الغدة الكظرية. ( )

(٢) يزيد عدد الهرمونات المفرزة بالجسم عن ٥٠ هرمون. ( )

(٣) يزيد إفراز هرمون الباراثرمون عند الخوف والغضب والانفعال. ( )

(٤) فقد الوزن والعصبية من أعراض مرض الجويتر البسيط. ( )

(ب) ما المقصود بالإنسولين؟

الاختبار الثاني على الوحدة 4

(١) أكمل ما يأتي:

(١) الغدة ..... تسمى الغدة الرئيسية.

(٢) يحدث أحياناً اضطراب في واحد أو أكثر من الغدد الصماء مسبباً .....

(٣) يفرز هرمون ..... نمو بطانة الرحم.

(ب) قارن بين هرمون الكالسيتونين و هرمون البارثرمون.

---

(١) اختر الإجابة الصحيحة مما بين القوسين:

(١) يعد هرمون ..... بمثابة المنبه لجميع الغدد الصماء. (الثيروكسين / الأدرينالين / الإنسولين / الأدرينالين)

(٢) هرمون يتحكم في معدل نمو عظام وعضلات الجسم وأعضائه. (الثيروكسين / الإنسولين / الأدرينالين / الأدرينالين)

(٣) الهرمون الذي يؤدي نقصه إلى مرض البول السكري. (الثيروكسين / الإنسولين / الأدرينالين / الأدرينالين)

(ب) اذكر سببين لكل مما يأتي:

(١) قد يصل طول الفرد إلى أكثر من ٢ متر.

(٢) يعاني بعض الأفراد من مرض الجويتر البسيط.

---

(٢) اختر الإجابة الصحيحة مما بين القوسين:

(١) ..... يقع بين الغدة والأعضاء المختلفة. (الغدة الدرقية / غدة البنكرياس / غدة النخامية)

(٢) الغدتان ..... يتحكمان في مستوى الثيروكسين في الدم. (النخامية و الدرقية / النخامية و الكظرية / الدرقية و الكظرية / النخامية و البنكرياس)

(٣) تسمى الغدد الصماء بهذا الاسم لأنها تصب إفرازاتها في ..... مباشرة. (الدم / الغدة / الأنبوب عصير / الأنبوب)

(٤) يعتمد على حدوث نمو مستمر في عظام الأطراف للشخص ما، حالة ..... (القزامة / الجويتر البسيط / الجويتر البيضوي / الصلعة)

(ب) علل لما يأتي:

(١) البنكرياس غدة مزدوجة الوظيفة.

(٢) يعتمد على الغدة النخامية سيدة الغدد.

---

(١) صوب ما تحته خط:

(١) يدخل عنصر الحديد في تركيب هرمون الثيروكسين.

(٢) نقص إفراز هرمون الباراثرمون يسبب مرض البول السكري.

(ب) قارن بين هرمون التستوستيرون و هرمون البروجستيرون، من حيث:

- الغدة المفرزة لكل منهما.
- الأهمية.

الاختبار الثالث على الوحدة 4

١ (أ) أكمل ما يأتي:

(١) الهرمونات تفرز من أعضاء تسمى .....

(٢) الغدة ..... تقع أسفل المخ وتتكون من فصين.

(٣) يفرز هرمون ..... من الغدة الكظرية ويعمل هرمون ..... على ضبط مستوى الكالسيوم في الدم.

(٤) توجد الغدة الدرقية ..... بينما توجد غدة البنكرياس بين ..... و .....

(ب) أكمل المخطط التالي:

هرمونات الغدة النخامية

(١) ..... (٢) ..... (٣) ..... (٤) ..... (٥) ..... (٦) ..... (٧) .....

٢ (أ) اكتب المصطلح العلمي الدال على كل من العبارات الآتية:

(١) زيادة أو نقص إفراز أحد الهرمونات نتيجة عمل الغدة الصماء بشكل غير طبيعي.

(٢) هرمون يحفز خلايا الكبد على تحويل سكر الجلوكوز إلى جليكوجين.

(٣) الهرمون الذي يؤدي نقصه إلى الحالة المرضية الجويتر البسيط.

(٤) تقنية حديثة تمكنت من علاج قزامة الأطفال.

(ب) ما المقصود بالغدد اللاقنوية؟

٣ (أ) اختر الإجابة الصحيحة مما بين القوسين:

(١) يقلل الإنسولين نسبة السكر في الدم ويخزنه في خلايا .....

(الكبد / المعدة / الكلية / البنكرياس)

(٢) توجد الغدة الكظرية .....

(أسفل المخ / فوق الكلية / أسفل الحنجرة / بين المعدة والأمعاء)

(٣) هرمون ..... مسئول عن ظهور الصفات الجنسية الثانوية في الذكر.

(الإستروجين / البروجستيرون / الثيروكسين / التستوستيرون)

(٤) هرمون ..... يحفز أعضاء الجسم للاستجابة السريعة في حالة الطوارئ.

(الإنسولين / الإستروجين / الكالسيتونين / الثيروكسين)

(ب) علل: إصابة بعض الأفراد بمرض البول السكري.

٤ (أ) ضع علامة (✓) أمام العبارة الصحيحة وعلامة (✗) أمام العبارة الخطأ:

(١) تضخم الغدة الدرقية وتضخم العنق يحدث نتيجة لمرض البول السكري. ( )

(٢) تقع الخلايا المستهدفة غالباً بالقرب من الغدد المفرزة للهرمون المؤثر عليها. ( )

(٣) القزامة هي النمو المستمر لعظام الأطراف. ( )

(٤) هرمون الجلوكاجون يُفرز من البنكرياس. ( )

(ب) اذكر أهمية: (١) الهرمون المنشط للغدد التناسلية.

(٢) هرمون الكالسيتونين.

ثانيًا تدريبات الكتاب المدرسى

تدريب ١

أجب عن جميع الأسئلة الآتية :

١ اختر الإجابة الصحيحة مما بين الإجابات المعطاة :

(١) عند تسخين هيدروكسيد النحاس نحصل على .....
(أ) كربونات نحاس وماء. (ب) أكسيد نحاس وبخار ماء.
(جـ) نحاس وهيدروجين. (د) أكسيد نحاس وهيدروجين.

(٢) تحدث تفاعلات الإحلال عندما يحل .....
(أ) عنصر أقل فاعلية محل عنصر آخر أكثر منه فاعلية.
(ب) مركب أقل فاعلية محل عنصر آخر أكثر منه فاعلية.
(جـ) عنصر أكثر فاعلية محل عنصر آخر أقل منه فاعلية.
(د) مركب أكثر فاعلية محل عنصر آخر أقل منه فاعلية.

(٣) لقياس شدة التيار الكهربى المار فى دائرة كهربية ما يستخدم جهاز .....
(أ) البيروميتر. (ب) الباروميتر. (جـ) الفولتميتر. (د) الأميتر.

(٤) تتغير قيمة مقاومة موصل كهربى ما فى دائرة كهربية عندما تغير .....
(أ) أبعاد هذا الموصل. (ب) شدة التيار المار فيه.
(جـ) فرق الجهد بين طرفيه. (د) المكونات الأخرى بالدائرة.

٢ علل : غطى مندل أزهار البازلاء عند دراسته لصفة لون بذورها.

٣ قارن بين كل مما يأتى :
(١) الأكسدة و العامل المؤكسد «من حيث : مفهوم كل منهما».
(٢) الخصيتان و المبيضان «من حيث : الوظيفة».
(٣) الصفة السائدة و الصفة المتنحية «من حيث : الجينات الوراثية التى تؤدى إلى ظهورها».

٤ أكمل العبارات الآتية بما يناسبها :
(١) عند إمرار غاز الهيدروجين على أكسيد نحاس ساخن يتحول أكسيد النحاس إلى مادة .....
(٢) عند إضافة محلول نترات الفضة إلى محلول كلوريد الصوديوم يتكون راسب أبيض من مادة .....

٥ اكتب نوع التفاعل المناسب لكل معادلة مما يأتى :

(1) $H_2 + CuO \xrightarrow{\Delta} Cu + H_2O$
(2) $KOH + HCl \xrightarrow{\text{مخفف}} KCl + H_2O$
(3) $2Na + 2HCl \xrightarrow{\text{مخفف}} 2NaCl + H_2\uparrow$

٦ عرف كل مما يلى :
(١) شدة التيار الكهربى. (٢) الأميتر. (٣) الجهد الكهربى. (٤) الفولت.
(٥) المقاومة الكهربية. (٦) الأوم. (٧) الصفات المكتسبة. (٨) الهرمون.

٧ اذكر : (١) ثلاث طرق للوقاية من التلوث الإشعاعى.
(٢) نص قانون انعزال العوامل.
(٣) اسم المرض الناجم عن نقص إفراز هرمون الإنسولين.

٨ مسائل متنوعة :
(١) إذا كان فرق الجهد بين طرفى موصل ٦ فولت، وشدة التيار المار خلال الموصل ٠,٥ أمبير، فكم تكون شدة التيار المار فى هذا الموصل إذا وصل بطرفى مصدر كهربى جهده ١٢ فولت ؟

(٢) احسب كمية الكهربية المارة فى موصل ما مقاومته ١٠٠٠ أوم لمدة ٣٠ دقيقة، إذا كان فرق الجهد بين طرفيه يساوى ٢٢٠ فولت.

(٣) إذا كان لديك أربعة أعمدة كهربية متماثلة، القوة الدافعة الكهربية لكل منها ١,٢ فولت، وضح بالرسم التخطيطى طريقة توصيلها معًا للحصول على بطارية القوة الدافعة الكهربية لها :
(أ) ١,٢ فولت. (ب) ٤,٨ فولت. (جـ) ٢,٤ فولت.

٩ اختر من العمودين (B) ، (C) ما يناسب العمود (A) :

(A)	(B)	(C)
الكمية الفيزيائية	وحدة القياس	الجهاز المستخدم
(١) شدة التيار الكهربى	(١) الأوم	(١) الفولتميتر
(٢) فرق الجهد	(٢) الكولوم	(٢) الأميتر
(٣) المقاومة	(٣) الفولت	(٣) الواتميتر
	(٤) الأمبير	(٤) الأوميتر
	(٥) الجول	

١٠ تستخدم الطاقة النووية فى كثير من الأغراض السلمية ..
اذكر أهم استخداماتها فى كل مجال مما يلى :
(١) الطب. (٢) الزراعة. (٣) الصناعة. (٤) توليد الكهرباء.

١١ ارسم شكلًا تخطيطيًا يمثل دورات التيار المتردد.

١٢ عبر بمعادلة رمزية موزونة عن كل تفاعل كيميائى مما يلى :
(١) إحلال فلز محل هيدروجين الحمض المخفف.
(٢) إحلال فلز محل آخر فى محاليل أحد أملاحه.
(٣) الإحلال المزدوج. (٤) التعادل.

١٣ أكمل المعادلات الكيميائية التالية بما يناسبها بحيث تصبح موزونة :

$$\xrightarrow{\Delta} 2Hg + O_2\uparrow$$

$$NaOH + \ldots\ldots \xrightarrow{\text{مخفف}} NaCl + H_2O$$

١٤ فسر كل مما يلى تفسيرًا علميًا صحيحًا :
(١) تفاعلات المركبات الأيونية سريعة، بينما تفاعلات المركبات التساهمية بطيئة.
(٢) تزداد سرعة التفاعل الكيميائى بزيادة درجة الحرارة.

تدريب ٢

١ أكمل ما يأتى :
(١) تتحلل نترات الأمونيوم بالحرارة إلى ..... ، .....
(٢) $CuCO_3 \xrightarrow{\Delta}$ ..... + ...
(٣) $Cu(OH)_2 \xrightarrow{\Delta}$ ..... + ...
(٤) $2Al + \ldots\ldots \xrightarrow{\text{مخفف}} 2AlCl_3 + \ldots\ldots$

٢ ضع علامة (✓) أمام العبارة الصحيحة، وعلامة (✗) أمام العبارة الخطأ :
(١) الكولوم وحدة قياس فرق الجهد. ( )
(٢) نقص إفراز هرمون الثيروكسين يسبب التضخم الجحوظى. ( )
(٣) تتحول الطاقة المغناطيسية إلى طاقة كهربية فى العمود الجاف. ( )
(٤) تفاعلات الأكسدة والاختزال تحدث كل منها منفردة. ( )
(٥) الأكسدة والاختزال عمليتان متلازمتان وتحدثان فى وقت واحد. ( )

٣ عرف كل مما يأتى :
(١) تفاعلات الإحلال البسيط. (٢) الاختزال. (٣) العامل المختزل.
(٤) سرعة التفاعل. (٥) العوامل المعززة. (٦) الكولوم.
(٧) قانون أوم. (٨) القانون الثانى لمندل. (٩) الأمشاج.
(١٠) الجين.

٤ ماذا يحدث عند :
(١) تلقيح نبات بازلاء بذوره صفراء هجين مع آخر مثله.
(٢) تعرض جسم الإنسان إلى جرعات إشعاعية كبيرة خلال فترة زمنية قصيرة.
(٣) تسخين كمية من أكسيد الزئبق الأحمر.
(٤) تسخين كمية من كبريتات النحاس.

٥ علل لما يأتى :
(١) لا يتفاعل الذهب مع الأحماض.
(٢) استخدام العوامل المساعدة فى بعض التفاعلات الكيميائية.
(٣) يعتبر عنصر اليورانيوم من العناصر المشعة.
(٤) اختيار مندل لنبات البازلاء لإجراء تجاربه.
(٥) يعالج مرضى البول السكرى بحقن الإنسولين.
(٦) تسمى الغدة النخامية بالغدة الرئيسية.

تدريب ٣

١ أكمل ما يأتى :
(١) العملية التى يتم فيها فقد إلكترون أو أكثر تسمى .....
(٢) فى تفاعلات ..... يتفكك المركب إلى عناصره الأولية بالحرارة.
(٣) المركبات التساهمية تكون ..... فى تفاعلاتها من المركبات الأيونية.
(٤) معدل التفاعل الكيميائى ..... بارتفاع درجة الحرارة.
(٥) يستخدم جهاز ..... لقياس المقاومة فى الدائرة الكهربية.
(٦) الكروموسوم يتركب كيميائيًا من حمض نووى يسمى ..... مرتبط مع .....
(٧) يُفرز هرمون ..... عندما ترتفع نسبة سكر الجلوكوز فى الدم.
(٨) يتوقف معدل التفاعل الكيميائى على ..... ، ..... ، .....
(٩) زيادة إفراز هرمون النمو فى مرحلة الطفولة يؤدى إلى الإصابة بـ .....

(١٠) نقص إفراز هرمون الإنسولين يؤدى إلى الإصابة بـ .....

(١١) تنتج الأعمدة الكهربية تيارًا ..... ، بينما المولدات الكهربية تنتج تيارًا .....

(١٢) يتولد التيار الكهربى من الدينامو نتيجة تحويل الطاقة ..... إلى .....

(١٣) ينحل هيدروكسيد النحاس بالحرارة إلى ..... ، .....

(١٤) نقص إفراز هرمون ..... فى مرحلة ..... يسبب القزامة.

(١٥) التفاعل الكيميائى هو ..... فى جزيئات المواد المتفاعلة و ..... فى جزيئات المواد الناتجة من التفاعل.

٢ اختر الإجابة الصحيحة مما بين الإجابات المعطاة :

(١) فى تفاعلات الانحلال الحرارى يتفكك المركب إلى .....

(أ) مكوناته البسيطة. (ب) عناصره الأولية.

(جـ) مركبات أخرى. (د) جميع ما سبق.

(٢) عند تسخين أكسيد الزئبق الأحمر فإنه يتفكك إلى .....

(أ) أكسجين. (ب) زئبق.

(جـ) (أ) ، (ب) معًا. (د) لا توجد إجابة صحيحة.

(٣) عند تسخين هيدروكسيد الفلز فإنه ينحل إلى .....

(أ) أكسيد الفلز فقط. (ب) أكسيد الفلز وغاز CO_2

(جـ) غاز CO_2 فقط. (د) لا توجد إجابة صحيحة.

(٤) تنحل كبريتات النحاس بالتسخين إلى .....

(أ) أكسيد النحاس الأسود فقط. (ب) غاز ثالث أكسيد الكبريت فقط.

(جـ) غاز ثانى أكسيد الكبريت وأكسيد النحاس الأسود.

(د) أكسيد النحاس الأسود وغاز ثالث أكسيد الكبريت.

(٥) تنحل بعض نترات الفلزات بالتسخين إلى .....

(أ) نيتريت الفلز وغاز الأكسجين. (ب) نترات الفلز وغاز الأكسجين.

(جـ) غاز أكسيد النيتروجين وغاز الأكسجين. (د) لا توجد إجابة صحيحة.

(٦) ترتيب العناصر الفلزية تنازليًا حسب درجة نشاطها الكيميائى يسمى بـ .....

(أ) متسلسلة النشاط الكيميائى. (ب) الأيونات الموجبة.

(جـ) الذرات الحرة. (د) الأيونات السالبة.

(٧) تحل الفلزات النشطة محل هيدروجين الماء وينتج ..... ويتصاعد غاز الهيدروجين.

(أ) هيدروكسيد الفلز (ب) أكسيد الفلز

(جـ) كربونات الفلز (د) كبريتات الفلز

(٨) تحل الفلزات النشطة محل هيدروجين الحمض ويتصاعد غاز .....

(أ) أكسيد النيتروجين. (ب) ثانى أكسيد الكربون.

(جـ) الهيدروجين. (د) الأكسجين.

(٩) يتفاعل الخارصين مع حمض الهيدروكلوريك المخفف ويتكون ملح .....

(أ) كلوريد الخارصين. (ب) كبريتات الخارصين.

(جـ) نترات الخارصين. (د) لا توجد إجابة صحيحة.

(١٠) يتفاعل البوتاسيوم مع حمض الهيدروكلوريك المخفف ويتكون ملح .....

(أ) نترات البوتاسيوم. (ب) كبريتات البوتاسيوم.

(جـ) كلوريد البوتاسيوم. (د) لا توجد إجابة صحيحة.

(١١) عند إضافة خراطة النحاس إلى حمض الهيدروكلوريك المخفف .....

(أ) يتكون هيدروكسيد النحاس. (ب) تتكون كربونات النحاس.

(جـ) يتكون كلوريد النحاس. (د) لا يحدث تفاعل.

(١٢) بعض الفلزات يمكن أن تحل محل فلزات أخرى ..... فى محاليل أحد أملاحها.

(أ) تليها فى متسلسلة النشاط الكيميائى

(ب) تسبقها فى متسلسلة النشاط الكيميائى

(جـ) (أ) ، (ب) معًا (د) لا توجد إجابة صحيحة

(١٣) عند إحلال الماغنسيوم محل النحاس فى محاليل أحد أملاحه يتكون راسب .....

(أ) أسود. (ب) أحمر.

(جـ) بنى محمر. (د) لا توجد إجابة صحيحة.

(١٤) تنقسم تفاعلات الإحلال المزدوج إلى .....

(أ) تفاعل حمض مع قلوى. (ب) تفاعل حمض مع ملح.

(جـ) تفاعل محلول ملح مع محلول ملح آخر. (د) جميع ما سبق.

(١٥) عند تفاعل حمض مع قلوى .....

(أ) يتكون ملح و ماء. (ب) يتكون ملح و غاز الهيدروجين.

(جـ) يتكون ملح و غاز الأكسجين. (د) لا توجد إجابة صحيحة.

(١٦) عند تفاعل هيدروكسيد البوتاسيوم مع حمض الهيدروكلوريك يتكون .....

(أ) كلوريد البوتاسيوم و ماء. (ب) كبريتات البوتاسيوم و ماء.

(جـ) أكسيد البوتاسيوم و ماء. (د) جميع ما سبق.

(١٧) يتفاعل حمض الهيدروكلوريك مع مسحوق كربونات الصوديوم مكونًا .....

(أ) كلوريد الصوديوم و غاز الأكسجين. (ب) كلوريد الصوديوم و ماء وغاز CO_2

(جـ) أكسيد الصوديوم و ماء. (د) جميع ما سبق.

(١٨) يتعكر محلول ماء الجير الرائق عند إمرار غاز .....
(أ) ثاني أكسيد النيتروجين. (ب) ثاني أكسيد الكبريت.
(جـ) ثاني أكسيد الكربون. (د) (أ) ، (ب) معًا.

(١٩) $2NaNO_3 \xrightarrow{\Delta}$ .....
(أ) $NaNO_3$ (ب) $2NaNO_2 + O_2$
(جـ) $2NaNO_3 + O_2$ (د) جميع ما سبق.

(٢٠) ..... $\xrightarrow{\Delta} CuO + CO_2$
(أ) $CuCO_3$ (ب) $CuSO_2$ (جـ) $CuSO_4$ (د) جميع ما سبق.

(٢١) $2Na + 2H_2O \longrightarrow 2NaOH +$ ..... $\uparrow + Heat$
(أ) N_2 (ب) Cl_2 (جـ) H_2 (د) O_2

(٢٢) ..... $+ 2HCl \xrightarrow{\text{محفز}} ZnCl_2 + H_2\uparrow$
(أ) Zn (ب) Mg (جـ) N_2 (د) O_2

(٢٣) عند تفاعل محلول كلوريد الصوديوم مع محلول نترات الفضة يتكون راسب ..... كلوريد الفضة.
(أ) أحمر (ب) أبيض (جـ) بنى محمر (د) أزرق

(٢٤) عند إمرار غاز الهيدروجين على أكسيد النحاس الساخن يتكون راسب أحمر من .....
(أ) عنصر النحاس. (ب) أكسيد النحاس.
(جـ) (أ) ، (ب) معًا. (د) لا توجد إجابة صحيحة.

(٢٥) عند تفاعل الهيدروجين مع أكسيد النحاس الأسود يحدث ..... لأكسيد النحاس.
(أ) أكسدة (ب) اختزال
(جـ) أكسدة واختزال (د) لا توجد إجابة صحيحة

(٢٦) العامل المؤكسد هو مادة .....
(أ) تعطى أكسجين. (ب) تنتزع هيدروجين.
(جـ) (أ) ، (ب) معًا. (د) لا توجد إجابة صحيحة.

(٢٧) العامل المختزل هو مادة .....
(أ) تعطى أكسجين. (ب) تنتزع أكسجين.
(جـ) تعطى هيدروجين. (د) (ب) ، (جـ) معًا.

(٢٨) الاختزال هو عملية كيميائية ينتج عنها نقص نسبة .....
(أ) الهيدروجين. (ب) الأكسجين.
(جـ) الكلور. (د) ثانى أكسيد الكربون.

(٢٩) الأكسدة هى عملية كيميائية ينتج عنها زيادة نسبة .....
(أ) الهيليوم. (ب) الهيدروجين. (جـ) الأكسجين. (د) الفلور.

(٣٠) عندما تفقد ذرة الصوديوم إلكترون مستوى طاقتها الخارجى فإنها .....
(أ) تتأكسد. (ب) تصبح عامل مختزل.
(جـ) تختزل. (د) (أ) ، (ب) معًا.

(٣١) تفاعل برادة الحديد مع حمض الهيدروكلوريك أسرع من تفاعل قطعة حديد مساوية لها فى الكتلة مع نفس كمية الحمض وذلك .....
(أ) لزيادة التركيز. (ب) لوجود عامل حفاز.
(جـ) لزيادة مساحة السطح المعرض للتفاعل. (د) لا توجد إجابة صحيحة.

(٣٢) عندما ترتفع درجة الحرارة يزداد معدل التفاعل .....
(أ) لزيادة عدد التصادمات بين الجزيئات المتفاعلة. (ب) لوجود روابط تساهمية.
(جـ) لزيادة مساحة سطح المواد المتفاعلة. (د) لا توجد إجابة صحيحة.

(٣٣) العامل الحفاز مادة تزيد من سرعة التفاعل، لأنه .....
(أ) يقلل من الطاقة اللازمة للتفاعل.
(ب) يرتبط بالمتفاعلات ثم ينفصل عنها لتكوين النواتج.
(جـ) لا يحدث له أى تغير كيميائى أثناء التفاعل. (د) جميع ما سبق.

(٣٤) فى بداية التفاعل تكون نسبة تركيز المتفاعلات .....
(أ) ١٠٠٪ (ب) صفر. (جـ) ٥٠٪ (د) لا توجد إجابة صحيحة.

(٣٥) تقاس القوة الدافعة الكهربية بوحدة .....
(أ) الأوم. (ب) الأمبير. (جـ) الفولت. (د) الجول.

(٣٦) تقاس شدة التيار بوحدة .....
(أ) الكولوم. (ب) الأمبير. (جـ) الفولت. (د) الجول.

(٣٧) لقياس المقاومة الكهربية يستخدم جهاز .....
(أ) الريوستات. (ب) الأميتر. (جـ) الفولتميتر. (د) الأوميتر.

(٣٨) للتحكم فى قيمة المقاومة الكهربية بالدائرة الكهربية يستخدم جهاز .....
(أ) الأميتر. (ب) الفولتميتر. (جـ) الأوميتر. (د) الريوستات.

(٣٩) الصيغة الرياضية لقانون أوم .....
(أ) $م = \frac{جـ}{ت}$ (ب) $ت = \frac{م}{جـ}$
(جـ) $م = ت \times جـ$ (د) لا توجد إجابة صحيحة.

(٤٠) تقاس كمية الكهربية المارة في الدائرة بوحدة .....

(أ) الفولت. (ب) الأمبير. (ج) الأوم. (د) الكولوم.

(٤١) توليد تيار كهربي متردد يستخدم جهاز .....

(أ) الريوستات. (ب) الدينامو. (ج) الأميتر. (د) الأوميتر.

(٤٢) توليد تيار كهربي مستمر يستخدم .....

(أ) العمود الجاف. (ب) الدينامو. (ج) الفولتميتر. (د) الأميتر.

(٤٣) من خصائص التيار المتردد أنه .....

(أ) ثابت الشدة. (ب) متغير الاتجاه.

(ج) متغير الشدة والاتجاه. (د) متغير الشدة.

(٤٤) في العمود الكهربي تتحول الطاقة ..... إلى طاقة كهربية.

(أ) المغناطيسية (ب) الحركية (ج) الكيميائية (د) الضوئية

(٤٥) أربعة أعمدة كهربية متماثلة القوة الدافعة الكهربية لكل منها ١.٥ فولت مو

على التوالي، تكون القوة الدافعة الكهربية الكلية لها ..... فولت.

(أ) ٣ (ب) ٦ (ج) ١.٥ (د) ١٢

(٤٦) اكتشف ظاهرة النشاط الإشعاعي بواسطة العالم .....

(أ) أوم. (ب) بيكريل. (ج) أمبير. (د) مندل.

(٤٧) ..... جزء من DNA الموجود في نواة الخلية.

(أ) الجين (ب) المشيج (ج) السيتوبلازم (د) لا توجد إجابة صحيحة

(٤٨) ..... يتركب كيميائياً من حمض نووي يسمى DNA مندمج مع بروتين.

(أ) السيتوبلازم (ب) الكروموسوم (ج) الجين (د) لا توجد إجابة صحيحة

(٤٩) عاملا الصفة الوراثية يكونا متشابهين في الفرد .....

(أ) النقي. (ب) الهجين. (ج) المتنحي. (د) (أ) ، (ج) معًا.

(٥٠) الهرمون الذي يحفز أعضاء الجسم للاستجابة في حالات الطوارئ .....

(أ) الإنسولين. (ب) الجلوكاجون. (ج) الإستروجين. (د) الأدرينالين.

(٥١) الهرمون المسئول عن ظهور الصفات الجنسية الثانوية في الأنثى .....

(أ) الإستروجين. (ب) التستوستيرون. (ج) البارا ثرمون. (د) الإنسولين.

(٥٢) الهرمون الذي يسبب نقصه تضخم الغدة الدرقية .....

(أ) الإستروجين. (ب) الإنسولين. (ج) الثيروكسين. (د) الجلوكاجون.

(٥٣) الهرمون الذي يحفز تخزين سكر الجلوكوز في خلايا الكبد .....

(أ) الإنسولين. (ب) الإستروجين. (ج) البارا ثرمون. (د) الثيروكسين.

[illegible] وظيفة واحدة لكل مما يأتي:

(١) الثلاجة. (٢) الريوستات الدرني.

(٣) العناصر المشعة في مجال الطب. (٤) جهاز القياس.

(٥) هرمون الثيروكسين في جسم الإنسان.

[illegible] المصطلح العلمي الدال على كل من العبارات التالية:

(١) المدة التي تفقد إلكترون أو أكثر أثناء التفاعل الكيميائي.

(٢) عملية كسر الروابط الموجودة في جزيئات المتفاعلات وتكوين روابط بين جزيئات النواتج.

(٣) تفاعل المعدن مع القلوي لتكوين ملح وماء.

(٤) تفاعل يتم فيه إحلال فلز محل فلز آخر في محاليل أحد أملاحه.

(٥) التغير في تركيز المواد المتفاعلة والمواد الناتجة في وحدة الزمن.

(٦) مادة تزيد من سرعة التفاعل الكيميائي دون أن تشترك فيه.

(٧) تناسب شدة التيار الكهربي المار في موصل ما تناسباً طردياً مع فرق الجهد بين طرفيه عند ثبات درجة الحرارة.

(٨) جهاز يستخدم لقياس القوة الدافعة الكهربية.

(٩) الطاقة التي يفقدها التيار الكهربي أثناء مروره في موصل.

(١٠) وحدة قياس الإشعاع المختص.

(١١) التحول التلقائي لأنوية ذرات بعض العناصر المشعة الموجودة في الطبيعة لدراسة الوصول إلى تركيب أكثر استقراراً.

(١٢) تنقل الشحنات الكهربية خلال موصل معدني.

(١٣) انتقال عن طريقها العوامل الوراثية من الآباء للأبناء.

(١٤) إذا اختلف فردان نقيان في زوج من الصفات الوراثية المتضادة فإنهما يتحدان بعد تزاوجهما جيلاً به صفة أحد الفردين فقط وهي السائدة ثم تورث الصفتان معاً في الجيل الثاني بنسبة ٣ : ١

(١٥) أعضاء تفرز الهرمونات وتصبها في مجرى الدم مباشرة.

[illegible] بالمعادلات الكيميائية الموزونة أثر التبريد على:

(١) أكسيد الزئبق الأحمر. (٢) نترات الصوديوم.

(٣) أيدروكسيد النحاس.

٦ أعد كتابة العبارات الآتية، بعد تصويب ما تحته خط :

(١) تزداد سرعة التفاعل الكيميائى بانخفاض درجة الحرارة.

(٢) تنحل معظم كربونات الفلزات إلى الفلز وثانى أكسيد الكربون.

(٣) تتناسب شدة التيار الكهربى المار فى موصل ما تناسبًا عكسيًا مع فرق الجهد بين طرفيه عند ثبوت درجة الحرارة.

(٤) مقاومة الموصل الذى يسرى فيه تيار كهربى شدته ١ أمبير عندما يكون فرق الجهد بين طرفيه ١ فولت تكون ١٠ أوم.

(٥) إذا تزاوج فردان مختلفان فى زوجين أو أكثر من الصفات المتضادة تورث صفتا كل زوج معًا وتظهر فى الجيل الثانى بنسبة ٣ : ١

(٦) الصفات المكتسبة تنتقل من جيل لآخر.

(٧) هرمون الإنسولين مسئول عن ظهور الصفات الجنسية الثانوية الذكرية فى جسم الإنسان.

(٨) الغدة الدرقية تفرز هرمون ينظم نمو الأعضاء التناسلية للإنسان.

(٩) يدخل عنصر الحديد فى تركيب هرمون الثيروكسين.

٧ قارن بين المركبات الأيونية و المركبات التساهمية «من حيث : سرعة التفاعل».

٨ ماذا يحدث عند :

(١) تسخين نترات الصوديوم.

(٢) وضع قطعة صغيرة جدًا من الصوديوم فى الماء.

(٣) وضع قطعة من الماغنسيوم فى محلول كبريتات النحاس.

(٤) نقص إفراز هرمون النمو فى مرحلة الطفولة.

(٥) نقص إفراز هرمون الثيروكسين.

(٦) تسخين هيدروكسيد النحاس الأزرق.

٩ علل لما يأتى :

(١) يحل الصوديوم محل هيدروجين الأحماض المخففة.

(٢) تفاعل حمض الهيدروكلوريك مع برادة الحديد أسرع من تفاعله مع قطعة من الحديد مساوية لها فى الكتلة مع نفس كمية الحمض.

(٣) كلما زاد تركيز المتفاعلات زاد معدل التفاعل الكيميائى.

(٤) التعرض للإشعاع له تأثيرات وراثية.

(٥) يستخدم الريوستات فى بعض الدوائر الكهربية.

(٦) لا يتفاعل النحاس مع حمض الهيدروكلوريك المخفف.

(٧) يجب أن تكون المنطقة المختارة لحفظ النفايات المشعة مستقرة.

(٨) البنكرياس غدة مزدوجة الوظيفة.

١٠ اذكر أهم جهود العلماء الآتى أسمائهم :

(١) أوم. (٢) مندل. (٣) واطسون و كريك.

(٤) هنرى بيكوريل. (٥) بيدل و تاتوم.

١١ ما المقصود بكل من :

(١) التفاعل الكيميائى. (٢) تفاعل التعادل. (٣) معدل التفاعل الكيميائى.

(٤) الفولتميتر. (٥) السيفرت. (٦) القانون الأول لمندل.

(٧) الغدد الصماء (اللاقنوية). (٨) الأمشاج المذكرة. (٩) الأمشاج المؤنثة.

١٢ مسائل متنوعة :

(١) احسب كمية الشحنة الكهربية بالكولوم الناتجة عن مرور تيار شدته ١٨ أمبير لمدة ٧ دقيقة.

(٢) احسب شدة التيار الكهربى الناتج عن مرور كمية من الكهربية مقدارها ٦٠٠ كولوم لمدة ٣ دقيقة.

(٣) احسب فرق الجهد بين نقطتين، إذا كان مقدار الشغل المبذول لنقل شحنة كهربية مقدارها ٦٠٠ كولوم يساوى ١٦٦٠٠ جول.

(٤) احسب القوة الدافعة الكهربية لبطارية مكونة من ٣ أعمدة كهربية القوة الدافعة لكل منها ١,٥ فولت عند توصيلهم :

(أ) على التوالى. (ب) على التوازى.

(٥) احسب فرق الجهد بين طرفى جهاز كهربى، مقاومة سلكه ٣٠ أوم يمر فيه تيار شدته ١٠ أمبير.

(٦) استخدم الرموز الآتية فى التعبير عن ناتج التزاوج بين نبات بسلة قصير الساق (tt) مع نبات بسلة طويل الساق نقى (TT).

١٣ ضع علامة (✓) أو علامة (✗) أمام العبارة التالية :

ينتج الدينامو تيار كهربى متردد. ( )

١٤ اذكر أهمية كل من :

(١) التيار الكهربى المستمر. (٢) الأوميتر.

(٣) التيار الكهربى المتردد. (٤) الريوستات المنزلق.

(٥) العمود الجاف (البطارية الجافة). (٦) الدينامو.

(٧) الطاقة النووية فى مجال استكشاف الفضاء.

(٨) الطاقة النووية فى مجال التنقيب. (٩) هرمون الإنسولين.

ثالثًا ؟ نماذج امتحانات الكتاب المدرسى

النمـــوذج الأول

أجب عن جميع الأسئلة الآتية :

١ (أ) أكمل العبارات التالية :

(١) تُفرز الغدة ..... هرمونًا ينظم النمو العام للجسم.

(٢) يُستخدم ..... فى قياس شدة التيار، بينما يُستخدم ..... فى قياس فرق الجهد.

(ب) صوب ما تحته خط فى العبارات التالية :

(١) شحمة الأذن الملتحمة من الصفات الوراثية السائدة.

(٢) وحدة قياس القوة الدافعة الكهربية هى الكولوم.

٢ (أ) اكتب المصطلح العلمى الدال على كل عبارة من العبارات الآتية :

(١) مواد (رسائل) كيميائية تضبط وتنظم معظم وظائف أعضاء الجسم.

(٢) المادة التى تعطى الأكسجين أو تنتزع الهيدروجين أثناء التفاعل الكيميائى.

(٣) حالة الموصل الكهربية التى تبين انتقال الكهربية منه أو إليه إذا ما وصل بموصل آخر.

(ب) فسّر كل مما يأتى :

(١) يُطلق على الغدة النخامية سيدة الغدد الصماء.

(٢) عند تلقيح نبات بسلة أحمر الأزهار مع نبات بسلة أبيض الأزهار تنتج نباتات جميعها حمراء الأزهار.

٣ (أ) اختر الإجابة الصحيحة مما بين القوسين :

(١) يُفرز هرمون الكالسيتونين من .....

(البنكرياس / الغدة الدرقية / الغدة النخامية / الغدة الكظرية)

(٢) أىٌّ مما يلى من الصفات السائدة فى الإنسان ؟ .....

(الشعر الناعم / العيون الزرقاء / العيون الواسعة / عدم وجود الغمازات)

(ب) ماذا يحدث عند :

(١) توقف البنكرياس عن إفراز هرمون الجلوكاجون «بالنسبة لمستوى السكر فى الدم».

(٢) زيادة طول سلك الريوستات المتزلق فى دائرة «بالنسبة لشدة التيار».

٤ ما المقصود بالسيادة التامة ؟ مع ذكر أمثلة.

النمـــوذج الثانى

أجب عن جميع الأسئلة الآتية :

١ (أ) اختر الإجابة الصحيحة مما بين الإجابات المعطاة :

(١) عند تسخين كربونات الكالسيوم نحصل على .....

(أ) بيكربونات الكالسيوم وثانى أكسيد الكربون.

(ب) هيدروكسيد الكالسيوم وثانى أكسيد الكربون.

(جـ) أكسيد الكالسيوم وأول أكسيد الكربون.

(د) أكسيد الكالسيوم وثانى أكسيد الكربون.

(٢) تقاس المقاومة الكهربية بوحدة .....

(أ) أمبير. (ب) أوم. (جـ) فولت. (د) كولوم.

(ب) علل لما يأتى :

(١) احتراق سلك تنظيف الألومنيوم داخل مخبار مملوء بالأكسجين النقى أسرع من احتراقه فى الهواء الجوى.

(٢) يحدث لبعض الأشخاص نمو مستمر فى عظام أطرافهم مما يجعلهم عمالقة.

(جـ) عرف كل مما يأتى :

(١) البول السكرى. (٢) النشاط الإشعاعى الطبيعى.

٢ قارن بين التغيرات البدنية و التغيرات الوراثية و التغيرات الطفرية الناتجة عن الإشعاعات النووية.

٣ (أ) اكتب المعادلة الرمزية الموزونة المعبرة عن تفاعل إضافة الخارصين إلى حمض الهيدروكلوريك المخفف.

(ب) اذكر نص القانون :

(١) الأول لمندل.

(٢) الذى يتم بواسطته تعيين قيمة مقاومة مجهولة بدلالة القياسات الكهربية.

(جـ) إذا كان لديك أربعة أعمدة متماثلة، القوة الدافعة الكهربية لكل منها ١,٥ فولت.

وضح بالرسم التخطيطى طريقة توصيلها معًا للحصول على مطاريف القوة الدافعة الكهربية لها :

(١) ١,٥ فولت. (٢) ٣ فولت. (٣) ٦ فولت.

٤ (أ) احسب كمية الكهربية المارة فى موصل مقاومته ٢٢٠٠ أوم لمدة ٣ دقيقة عند توصيله بمصدر جهده الكهربى ٢٢٠ فولت.

(ب) ما الفكرة العلمية لسيادة صفة وجود غمازات الوجه على صفة غياب الغمازات ؟

(جـ) ما الاحتياطات اللازمة عند التعامل مع النفايات المشعة ؟

النمـــوذج الثالث

أجب عن جميع الأسئلة الآتية :

١ (أ) اختر الإجابة الصحيحة مما بين الإجابات المعطاة :

(١) الهرمون الذى يضبط مستوى الكالسيوم فى الدم، هرمون .....

(أ) الكالسيتونين. (ب) الثيروكسين.

(جـ) الإنسولين. (د) الأدرينالين.

(٢) يقاس فرق الجهد الكهربى بجهاز .....

(أ) الأميتر. (ب) الأوميتر.

(جـ) الڤولتميتر. (د) الواتميتر.

(٣) المادة التى تغير سرعة التفاعل ولا تتغير تسمى العامل .....

(أ) المؤكسد. (ب) المختزل.

(جـ) النشط. (د) المساعد.

(ب) علل : توقف نمو الجسم مما يجعل الشخص قزمًا.

٢ قارن بين طريقة توصيل الأعمدة الكهربية على التوالى و طريقة توصيلها على التوازى «من حيث : قيمة القوة الدافعة الكهربية الناتجة».

٣ (أ) اكتب المعادلة الرمزية الموزونة المعبرة عن التفاعلات التالية :

(١) اختزال أكسيد النحاس الساخن بإمرار غاز الهيدروچين عليه.

(٢) إضافة محلول هيدروكسيد الكالسيوم إلى حمض الهيدروكلوريك المخفف.

(٣) إضافة خراطة ألومنيوم إلى حمض الهيدروكلوريك المخفف.

(ب) اذكر : (١) نص القانون الثانى لمندل. (٢) نوعىّ المقاومة الكهربية.

٤ (أ) فى الشكل المقابل،

احسب :

القوة الدافعة الكهربية بين الطرفين (أ) ، (ب).

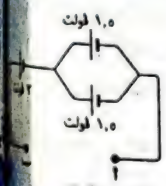

(ب) وضح بالرسم الدائرة الكهربية المستخدمة لاستنتاج العلاقة بين شدة التيار المار فى موصل ما و فرق الجهد بين طرفيه.

النمـــوذج الرابع

أجب عن جميع الأسئلة الآتية :

١ (أ) أكمل العبارات الآتية :

(١) عندما يرتفع مستوى سكر الجلوكوز فى الدم يقوم البنكرياس بإفراز هرمون ..... الذى يحفز الجسم لامتصاص ..... من الدم.

(٢) تقاس شدة التيار الكهربى بجهاز .....، ووحدة قياسها .....

(ب) علل : يمكن للماغنسيوم أن يحل محل النحاس فى محاليل أملاحه، بينما لا يحدث العكس.

٢ (أ) قارن بين الأكسدة و الاختزال «من حيث : المفهوم».

(ب) وضح بالرسم طريقة توصيل الأعمدة الكهربية :

(١) على التوالى. (٢) على التوازى.

(جـ) موصل مقاومته ٢٢ أوم وكمية الكهربية المتدفقة خلاله فى الثانية الواحدة ١٠ كولوم، احسب فرق الجهد بين طرفيه.

٣ (أ) وضح بالرسم الدائرة الكهربية المستخدمة لتحقيق قانون أوم، ثم اذكر نص القانون و المعادلة الرياضية الخاصة به.

(ب) اكتب المعادلة الرمزية المعبرة عن كل من التفاعلات التالية :

(١) تفاعل الصوديوم مع الماء، ثم اذكر الاحتياطات الواجب اتخاذها عند إجراء هذا التفاعل.

(٢) تفاعل حمض الهيدروكلوريك مع هيدروكسيد الصوديوم، ثم اذكر نوع التفاعل.

(جـ) اذكر العوامل المؤثرة على سرعة التفاعل الكيميائى.

٤ (أ) وضع مندل مجموعة من الفروض لتفسير ظهور الصفة السائدة واختفاء الصفة المتنحية فى الجيل الأول فى التجارب التى قام بدراستها على نبات البسلة، اشرح هذه الفروض.

(ب) اذكر الفكرة العلمية لسيادة صفة الشعر المجعد على صفة الشعر الناعم.

(جـ) اشرح ما توصل إليه العالمان واطسون و كريك فى تركيب جزىء DNA

النمـــوذج الخامس

أجب عن جميع الأسئلة الآتية :

١ أكمل ما يأتى :

(١) ينحل أكسيد الزئبق الأحمر بالحرارة إلى ..... ، .....

(٢) ..... + ... $\xrightarrow{\text{مخفف}}$ $Zn + 2HCl$

٢ (أ) قارن بين: (١) العامل المؤكسد و العامل المختزل.
(٢) التيار الكهربى المتردد و التيار الكهربى المستمر.

(ب) ضع علامة (✓) أمام العبارة الصحيحة و علامة (✗) أمام العبارة الخطأ:
(١) القزامة نمو مستمر فى عظام الأطراف فيصبح الشخص عملاقًا.
(٢) القدرة على الالتفاف الأنبوبى للسان من الصفات السائدة فى الإنسان.

٣ اشرح نشاطًا توضح به:
(١) تأثير درجة الحرارة على سرعة التفاعل الكيميائى.
(٢) كيفية تعيين قيمة مقاومة مجهولة.

٤ (أ) وضح بالرسم فقط طريقة قياس فرق الجهد الكهربى بين طرفى مصباح كهربى.

(ب) علل: (١) تعلم المشى عند الأطفال لا يعتبر صفة وراثية.
(٢) يتكون راسب أحمر عند إضافة فلز الماغنسيوم إلى محلول كبريتات النحاس.

النمـــوذج السادس

أجب عن جميع الأسئلة الآتية:

١ (أ) أكمل: (١) $CuSO_4 \xrightarrow{\Delta}$ ..... + ...
(٢) $H_2 + CuO \xrightarrow{\Delta}$ ..... + ...

(ب) علل: (١) تستخدم الثلاجة فى حفظ الأطعمة.
(٢) يفضل استخدام التيار المتردد عن التيار المستمر.

٢ قارن بين الأميتر و الفولتميتر.

٣ (أ) ضع علامة (✓) أو علامة (✗) أمام العبارة الآتية:
تفرز الهرمونات من الغدد القنوية. ( )

(ب) احسب شدة التيار الكهربى الناتج عن مرور كمية من الكهربية مقدارها ٦٠٠٠ كولوم فى مقطع من موصل لمدة ١٠ دقائق.

٤ (أ) اشرح نشاطًا يوضح كل من:
(١) تأثير مساحة السطح على سرعة التفاعل الكيميائى.
(٢) تحقيق قانون أوم عمليًا.

(ب) عرف فرق الجهد.

محافظة القاهرة

الفصل الدراسى الثانى

أجب عن جميع الأسئلة الآتية:

١ (أ) أكمل ما يأتى:
(١) التعادل هو تفاعل حمض مع قلوى لتكوين ..... وماء.
(٢) تعتبر صفة العيون الواسعة من الصفات ..... فى الإنسان.
(٣) تفرز الغدة ..... هرمونًا ينظم النمو العام لجسم الإنسان.
(٤) ..... + ... $\xrightarrow{\text{مخفف}}$ $Fe + 2HCl$
(٥) يسمى القانون الأول لمندل بقانون .....

(ب) ما المقصود بكل من:
(١) الجهد الكهربى لموصل. (٢) متسلسلة النشاط الكيميائى.

(جـ) احسب شدة التيار الناتج عن مرور كمية من الكهربية مقدارها ٢٤٠٠ كولوم عبر مقطع من موصل خلال ٤ دقيقة.

١ (أ) اختر الإجابة الصحيحة مما بين القوسين:
(١) الهرمون المسئول عن ظهور الصفات الجنسية الثانوية الذكرية هو .....
(البروجستيرون / التستوستيرون / الإستروجين / الجلوكاجون)
(٢) فى بداية التفاعل الكيميائى تكون نسبة تركيز المتفاعلات .....
(صفر / ٢٥٪ / ٥٠٪ / ١٠٠٪)
(٣) يستخدم ..... للتحكم فى قيمة المقاومة بالدائرة الكهربية.
(الأميتر / الفولتميتر / الأوميتر / الريوستات)
(٤) يتصاعد غاز الأكسجين عند الانحلال الحرارى لمركب .....
($CuCO_3$ / $CuSO_4$ / $Cu(OH)_2$ / $NaNO_3$)
(٥) شدة التيار الناتج عن مرور كمية من الكهربية مقدارها واحد كولوم عبر مقطع من موصل فى الثانية الواحدة تسمى ..... (الفولت / الأمبير / الكولوم / الأوم)

(ب) علل : (١) تزداد سرعة التفاعل الكيميائي بزيادة درجة الحرارة.

(٢) يفضل استخدام التيار الكهربي المتردد عن التيار الكهربي المستمر.

(جـ) وضح على أساس وراثة صفات الجيل الناتج من تلقيح نبات بسلة بذوره صفراء نقية (YY) مع نبات بسلة بذوره خضراء نقية (yy)، علمًا بأنه يرمز للجين السائد بالرمز (Y) وللجين المتنحي بالرمز (y).

---

٣ (أ) اكتب المفهوم العلمي الدال على كل عبارة من العبارات الآتية :

(١) مادة تغير من معدل التفاعل الكيميائي دون أن تتغير.

(٢) يتركب كيميائيًا من حمض نووي يسمى DNA مرتبطًا مع بروتين.

(٣) الوحدة الدولية لقياس الإشعاع الممتص بواسطة الجسم البشري.

(٤) أعضاء خاصة تكون وتفرز الهرمونات في مجرى الدم مباشرةً في جسم الإنسان.

(٥) عملية كيميائية ينتج عنها نقص نسبة الأكسجين في المادة.

(٦) الصفة التي تظهر في جميع أفراد الجيل الأول في تجارب مندل.

(ب) ماذا يحدث في الحالات الآتية :

(١) إضافة محلول نترات الفضة إلى محلول كلوريد الصوديوم.

(٢) نقص مستوى سكر الجلوكوز في الدم.

(جـ) بطارية مكونة من ثلاثة أعمدة كهربية، القوة الدافعة الكهربية لكل منها ١,٥ فولت.

احسب القوة الدافعة الكهربية للبطارية إذا وُصلت هذه الأعمدة :

(١) على التوالي. (٢) على التوازي.

---

٤ (أ) أكمل الجمل الآتية بما تصوب ما تحته خط :

(١) يستخدم جهاز الأميتر لقياس القوة الدافعة الكهربية.

(٢) زيادة إفراز هرمون الكالسيتونين يؤدي إلى الإصابة بمرض التضخم الجحوظي.

(٣) مستوى نوية العناصر المشعة على عدد من البروتونات يزيد عن العدد اللازم لاستقرارها.

(٤) الصفات غير القابلة للانتقال من جيل إلى آخر تسمى الصفات الوراثية.

(٥) يسمى الفرد النقي جين للصفة السائدة وآخر للصفة المتنحية.

(٦) العامل المختزل هو المادة التي تكتسب إلكترونًا أو أكثر أثناء التفاعل الكيميائي.

(ب) وضح بالمعادلات الرمزية الموزونة لكل مما يأتي :

(١) إضافة فلز الماغنسيوم إلى محلول كبريتات النحاس.

(٢) تفاعل فلز الصوديوم مع الماء.

(جـ) قارن بين العمود الجاف والبطارية من حيث : شحنات الطاقة في كل منهما.

أجب عن خمسة أسئلة الآتية :

١ (أ) أكمل الكلمات الآتية في أماكنها المناسبة : [٩ – DNA – المتحية – الجول – ١٢]

(١) يقاس الشغل المبذول بوحدة .....

(٢) تعتبر العيون الزرقاء الضيقة من الصفات الوراثية ..... في الإنسان.

(٣) يتركب الكروموسوم كيميائيًا من حمض نووي يسمى ..... مرتبط مع بروتين.

(٤) في الشكل المقابل، قراءة الفولتميتر = ... فولت

(ب) ضع علامة (✓) أو علامة (✗) أمام العبارات الآتية :

(١) تعتبر غدة البنكرياس غدة مزدوجة الوظيفة. ( )

(٢) يعبر التفاعل $Cl_2 + 2e^- \longrightarrow 2Cl^-$ عن عملية الأكسدة. ( )

(٣) يضبط هرمون الكالسيتونين مستوى الكالسيوم في الدم. ( )

(٤) المركبات التساهمية تكون بطيئة في تفاعلاتها. ( )

(جـ) ما معنى قولنا أن القوة الدافعة الكهربية لعمود كهربي تساوي ١,٥ فولت ؟

---

٢ (أ) اكتب المفهوم العلمي الدال على كل عبارة من العبارات الآتية :

(١) العامل المحفز الذي يقوم بخفض سرعة التفاعل الكيميائي.

(٢) تحول تلقائي لأنوية ذرات بعض العناصر المشعة الموجودة في الطبيعة كمحاولة للوصول إلى تركيب أكثر استقرارًا.

(٣) الطريقة المستخدمة في توصيل الأعمدة الكهربية للحصول على أكبر قوة دافعة كهربية.

(٤) عملية كيميائية تؤدي إلى نقص نسبة الأكسجين في المادة أو زيادة نسبة الهيدروجين فيها.

(ب) اذكر الدلالة العلمية مما بين القوسين :

(١) عند تزاوج ذكر وأنثى تركيبهما الوراثي (Bb) فإن التركيب الوراثي (bb) يحتمل أن يظهر في أبنائهما بنسبة ..... (١/٤ / ١/٢ / ٣/٤ / ١٠٠٪)

(٢) تحلل كربونات النحاس بالحرارة إلى أكسيد نحاس ويتصاعد غاز .....
(ثاني أكسيد الكربون / ثاني أكسيد الكبريت / ثالث أكسيد الكبريت / الهيدروجين)

(٣) تبعًا لتسلسلة النشاط الكيميائي يعتبر الألومنيوم أنشط من .....
(الصوديوم / البوتاسيوم / المغنسيوم / الكالسيوم)

(٤) تبعًا للقانون الأول لمندل فإن العوامل الوراثية ..... عند تكوين الأمشاج.
(تتضاعف / تندمج / تنعزل / تختلف)

(جـ) فـى الشكـل المقابـل، مـا النتيجـة المترتبـة علـى تساوى الجهد الكهربى للموصل (A) مع الجهد الكهربى للموصل (B) «بالنسبة لمرور التيار الكهربى» ؟

٣ (أ) أعد كتابة العبارات الآتية بعد تصويب ما تحته خط :

(١) يزداد إفراز هرمون الدرقين عند الخوف والغضب والانفعال.

(٢) وحدة قياس الإشعاع الممتص هى الرونتيجن.

(٣) المسئول عن إفراز هرمون التستوستيرون الغدة النخامية.

(٤) شدة التيار الناتج عن مرور كمية من الكهربية مقدارها ٤٥٠٠ كولوم عبر مقطع موصل فى زمن قدره ٥ دقيقة تساوى ٢٠ أمبير.

(ب) أكمل ما يأتى :

(١) تظهر الصفة السائدة فى الجيل الثانى لقانون التوزيع الحر للعوامل الوراثية بنسبة .....

(٢) $NaCl + AgNO_3 \longrightarrow$ ..... $\downarrow + NaNO_3$

(٣) نزع مندل ..... أزهار نبات البازلاء أثناء إجراء تجاربه حتى لا يحدث تلقيح ذاتى.

(٤) تزداد سرعة تفاعلات طهى الطعام بـ .....

(جـ) ماذا يحدث عند وضع قطع من الماغنسيوم فى كأس بها محلول كبريتات النحاس الأزرق مع كتابة معادلة التفاعل الموزونة.

٤ (أ) اختر من العمود (B) ما يناسبه من العمود (A) :

(A)	(B)
(١) التعادل	(١) عملية تتحول فيها مادة كيميائية إلى مادة أخرى.
(٢) الأعمدة الجافة	(٢) تيار متغير الشدة والاتجاه.
(٣) التفاعل الكيميائى	(٣) تفاعل حمض مع قلوى لتكوين ملح وماء.
(٤) التيار الكهربى المتردد	(٤) تحول الطاقة الكيميائية إلى طاقة كهربية.

(ب) أجب عما يلى (فى ضوء ما درست) :

(١) الشكل المقابل يعبر عن توارث إحدى الصفات البشرية، ما الرقم الدال على الطفل الذى يحمل الصفة المتنحية ؟

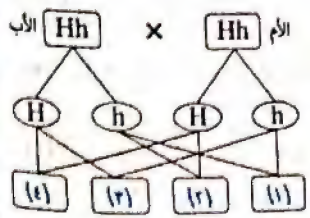

(٢) أكمل ما يأتى :

١- فرق الجهد بين طرفى جهاز كهربى مقاومته ٢٢ أوم وشدة التيار المار فيه ١٠ أمبير يساوى ..... فولت.

٢- الجهاز المستخدم فى قياس المقاومة فى الدوائر الكهربية يسمى .....

٣- عند تزاوج نبات بسلة بذوره ملساء هجين مع آخر بذوره مجعدة تنتج نباتات .....

(جـ) فسر : ظهور لون فضى عند تسخين أكسيد الزئبق الأحمر، مع كتابة معادلة التفاعل.

٢ أجب عن جميع الأسئلة الآتية :

(أ) أكمل العبارات الآتية :

(١) عملية التحول التلقائى فى ..... ذرات بعض العناصر المشعة للوصول إلى تركيب أكثر استقرارًا تُعرف بظاهرة .....

(٢) تعتبر سرعة التفاعل الكيميائى هى التغير فى ..... المواد المتفاعلة والمواد الناتجة من التفاعل فى وحدة الزمن.

(٣) يحكم الصفة الوراثية المندلية فى الكائن الحى زوج واحد من .....

(ب) ما النتائج المترتبة على :

(١) إضافة حمض الهيدروكلوريك المخفف لملح كربونات الصوديوم «موضحًا إجابتك بالمعادلة الرمزية فقط».

(٢) عدم قدرة خلايا الجسم على امتصاص سكر الجلوكوز الزائد من الدم.

(جـ) اختر من العمود (B) ما يناسبه من العمود (A) :

(A)	(B)
(١) الريوستات المنزلق	(١) تدفق الشحنات الكهربية السالبة فى مادة موصلة.
(٢) إنزيم الأوكسيديز	(٢) التحكم فى المقاومة التى يلاقيها التيار الكهربى أثناء مروره فى السلك.
(٣) التفاعل الكيميائى	(٣) كمية الشحنة الكهربية المتدفقة خلال مقطع من موصل فى زمن قدره ثانية واحدة.
(٤) شدة التيار الكهربى	(٤) يزيد من معدل تفكك محلول فوق أكسيد الهيدروجين.
	(٥) كسر الروابط الموجودة فى جزيئات المواد المتفاعلة وتكوين روابط جديدة فى جزيئات المواد الناتجة من التفاعل.

٢ (أ) اكتب المصطلح العلمى الدال على كل عبارة من العبارات الآتية :

(١) ترتيب العناصر الفلزية ترتيبًا تنازليًا حسب درجة نشاطها الكيميائى.

(٢) الهرمون المسئول عن تحفيز عملية نمو بطانة الرحم.

(٣) مقدار الشغل المبذول لنقل كمية من الكهربية مقدارها ١ كولوم بين طرفى موصل.

(٤) مركبات تفاعلاتها الكيميائية بطيئة حيث تتم بين الجزيئات وبعضها.

(ب) إذا علمت أن صفة شحمة الأذن المنفصلة (E) تسود على صفة شحمة الأذن الملتحمة (e) وضح على أسس وراثية التركيب الجينى للأبناء الناتجة عن تزاوج أب و أم كلاهما هجين بالنسبة لهذه الصفة.

(جـ) من الشكل المقابل، احسب :

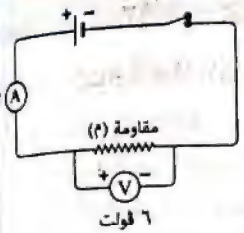

(١) قيمة المقاومة (م) بوحدة أوم.

(٢) كمية الكهربية التى تمر فى الدائرة الكهربية خلال نصف دقيقة.

٣ (أ) اختر الإجابة الصحيحة مما بين الإجابات المعطاة :

(١) يستخدم ..... لتوليد التيار الكهربى المستمر.

(أ) العمود الجاف (ب) الأوميتر

(جـ) الفولتميتر (د) الأميتر

(٢) اختار مندل نبات البسلة لإجراء تجاربه عليه للأسباب التالية، عدا .....

(أ) سهولة تلقيح النبات صناعيًا.

(ب) قصر دورة حياة النبات.

(جـ) كبر حجم النبات.

(د) أزهار النبات خنثى.

(٣) من خصائص التيار المتردد أنه .....

(أ) ثابت الشدة. (ب) ثابت الاتجاه.

(جـ) لا يمكن نقله لمسافات بعيدة. (د) متغير الشدة والاتجاه.

(٤) يتركب الكروموسوم كيميائيًا من حمض نووى DNA مرتبط مع .....

(أ) فيتامين. (ب) بروتين.

(جـ) دهون. (د) كربوهيدرات.

(ب) ادرس المعادلتين الآتيتين معًا، ثم أجب عما يأتى :

(1) $NaCl + AgNO_3 \longrightarrow$ [X] + راسب أبيض

(2) [X] $\xrightarrow{\Delta}$ ملح + [Y]

(١) اكتب الصيغة الكيميائية لكل من [X] ، [Y].

(٢) اذكر نوع كل من التفاعلين الممثلين بالمعادلتين (1) ، (2).

(جـ) من الشكل الذى أمامك :

(١) ما اسم الغدة (أ) ؟

(٢) اذكر وظيفة الهرمون الذى يُفرز من الغدة (أ).

٤ (أ) أعد كتابة العبارات الآتية بعد تصويب ما تحته خط :

(١) يستخدم الدينامو لتحويل الطاقة الكيميائية إلى طاقة كهربية.

(٢) تنحل معظم كربونات الفلزات بالحرارة إلى الفلز وثانى أكسيد الكربون.

(٣) تتواجد العوامل الوراثية داخل سيتوبلازم خلية الكائن الحى.

(٤) يعتبر الإشعاع الكونى من المصادر الصناعية للتلوث الإشعاعى.

(ب) علل : (١) تستخدم الثلاجة فى حفظ الأطعمة.

(٢) توصيل بعض الأعمدة الكهربية على التوازى فى الدائرة الكهربية.

(جـ) ما المقصود بكل من :

(١) العامل المختزل. (٢) الصفات المكتسبة.

٤ محافظة القليوبية

الفصل الدراسى الثانى

مجاب عنه

أجب عن جميع الأسئلة الآتية :

١ (أ) اختر الإجابة الصحيحة مما بين القوسين :

(١) وحدة قياس القوة الدافعة الكهربية هى ..... (أمبير / أوم / كولوم / فولت)

(٢) الفرد الذى يحمل زوج متباين من الجينات لصفة وراثية معينة هو فرد .....
(نقى / متنحى / هجين / سائد)

(٣) مقاومة الموصل الذى يسرى فيه تيار شدته ٣ أمبير عندما يكون فرق الجهد بين طرفيه ١٢ فولت تساوى ..... أوم. (٤ / ٦ / ٩ / ١٢)

(٤) من الصفات الوراثية السائدة فى الإنسان .....
(وجود الغمازات / الشعر الناعم / العيون الضيقة / وجود النمش)

(ب) صوب ما تحته خط :

(١) الأكسدة عملية كيميائية تفقد فيها ذرة العنصر بروتونًا أو أكثر أثناء التفاعلات الكيميائية.

(٢) الغدة الكظرية تقوم بإفراز هرمون الإنسولين.

(٣) تفاعل نترات الفضة مع كلوريد الصوديوم من التفاعلات البطيئة جدًا.

(٤) الجويتر البسيط ينتج عن نقص إفراز هرمون النمو.

(جـ) فى الدائرة الكهربية المقابلة،
احسب قراءة الفولتميتر عندما
يكون المفتاح الكهربى مفتوح.

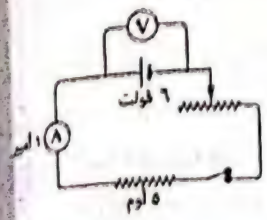

(١) اختر الاجابة الصحيحة مما بين القوسين، وضعها فى مكانها المناسب فى العبارات الآتية :

[كولوم - الصناعى - أكسيد الزئبق - الأكسجين - الطبيعى - كربونات النحاس - أوم - الهيدروجين]

(١) تعتبر الأشعة الكونية من مصادر التلوث الإشعاعى .....

(٢) من أمثلة المركبات التى تنحل بالحرارة إلى فلز وأكسجين .....

(٣) تقاس كمية الكهربية بوحدة .....

(٤) تنحل بعض نترات الفلزات إلى نيتريت الفلز ويتصاعد غاز .....

(ب) ضع علامة (✓) أمام العبارة الصحيحة، وعلامة (✗) أمام العبارة الخطأ :

(١) التعادل هو تفاعل بين ملح وماء لتكوين حمض وقاعدة. ( )

(٢) غطى مندل مياسم الأزهار أثناء إجراء تجاربه حتى لا يحدث تلقيح خلطى. ( )

(٣) كلما زادت مساحة سطح المواد المتفاعلة المعرض للتفاعل يتوقف التفاعل الكيميائى. ( )

(٤) عند تلقيح نبات بسلة أحمر الأزهار هجين مع نبات بسلة أبيض الأزهار تكون الأفراد الناتجة كلها حمراء الأزهار. ( )

(جـ) ماذا يحدث عند تدفق الشحنات الكهربية السالبة (الإلكترونات) فى اتجاه واحد فقط خلال سلك معدنى فى دائرة كهربية.

(١) أكمل الجداول التالية :

(١) اسم الهرمون	الغدة المفرزة	الوظيفة
هرمون النمو	(١)	تنظيم النمو العام للجسم
الجلوكاجون	(٢)	(٣) .....
(٤)	المبيض	يحفز عملية نمو بطانة الرحم

(٢) طريقة توصيل الأعمدة		
		
ق.د.ك للبطارية	(١)	(٢) .....

(ب) اختر من العمود (B) ما يناسبه من العمود (A)، ثم اكتب العبارة كاملة :

(A)	(B)
(١) مادة تغير من معدل سرعة التفاعل الكيميائى دون أن تتغير	(١) المكتسبة.
(٢) قانون انعزال العوامل الوراثية هو القانون	(٢) O_2
(٣) عند تسخين كربونات النحاس يتصاعد غاز	(٣) الثانى لمندل.
(٤) تعلم المشى عند الأطفال من الصفات	(٤) الإنزيمات.
	(٥) الوراثية.
	(٦) العامل الحفاز.
	(٧) الأول لمندل.
	(٨) CO_2

(جـ) ماذا يحدث عند :

وضع شريط من الماغنسيوم داخل أنبوبة اختبار بها محلول كبريتات النحاس الأزرق، مع كتابة المعادلة الرمزية الموزونة.

(١) اكتب المصطلح العلمى الدال على كل عبارة من العبارات الآتية :

(١) التغير فى تركيز المواد المتفاعلة والمواد الناتجة من التفاعل فى وحدة الزمن.

(٢) العناصر التى تحتوى أنوية ذراتها على عدد من النيوترونات يزيد عن العدد اللازم لاستقرارها.

(٣) ترتيب العناصر الفلزية ترتيبًا تنازليًا حسب درجة نشاطها الكيميائى.

(٤) كمية الكهربية بالكولوم المتدفقة خلال مقطع من موصل فى زمن قدره واحد ثانية.

(ب) ادرس الشكل الذى أمامك، ثم أكمل الفراغات التالية :

(١) رقم (٣) يمثل ..... وهو يتركب كيميائيًا من رقم (٢) ويسمى ..... ويكون مرتبطًا مع بروتين.

(٢) رقم (٢) يقوم بحمل ..... للكائن الحى.

(٣) رقم (١) يمثل ..... وهو يقوم بنقل الصفات من الآباء إلى الأبناء.

(جـ) (١) اختر : أيًا من الدوائر الكهربية الآتية تصلح لتحقيق قانون أوم عمليًا ؟ .....
ثم اكتب الصيغة الرياضية لقانون أوم.

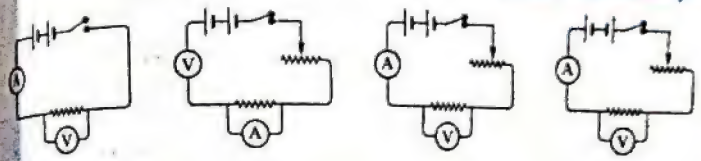

(أ) (ب) (جـ) (د)

(٢) من الشكل المقابل،
ما اسم الغاز الناتج من التفاعل،
ثم عبِّر عن هذا التفاعل بمعادلة كيميائية موزونة.

٥ محافظة المنوفية — الفصل الدراسى الثانى

مجاب عنه

أجب عن جميع الأسئلة الآتية :

١ (أ) اكتب المصطلح العلمى الدال على كل عبارة من العبارات الآتية :

(١) حالة الموصل الكهربية التى تبين انتقال الكهربية منه أو إليه إذا ما وصل بموصل آخر.

(٢) أجزاء من DNA موجودة بالكروموسومات تحمل الصفات الوراثية للفرد.

(٣) الشحنة المنقولة بتيار كهربى ثابت شدته واحد أمبير فى الثانية الواحدة.

(٤) فرد يحمل عاملين وراثيين أحدهما للصفة السائدة والآخر للصفة المتنحية.

(ب) أولًا : الشكل المقابل يوضح التغير فى تركيز المتفاعلات والنواتج عند الانحلال الحرارى لمركب نترات الصوديوم مع الزمن،

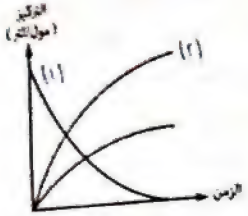

أكمل ما يلى :

(١) المنحنى (١) يعبر عن مركب .....
والمعروف بلونه .....

(٢) المنحنى (٢) يعبر عن مركب .....
والمعروف بلونه .....

ثانيًا : يوجد فى جسم الإنسان ضمن الجهاز الهضمى غدة لها دور بارز فى عملية الهضم كما أنها تفرز هرمونين متعاكسين من حيث الوظيفة، من العبارة السابقة حدد :

(١) اسم الغدة. (٢) اسم الهرمونين.

(جـ) احسب شدة التيار المار فى موصل فرق الجهد بين طرفيه ٢٠ فولت عندما يبذل شغل قدره ٢٠٠ جول لنقل كمية من الكهربية بين طرفيه خلال زمن قدره ٢ ثانية.

٢ (أ) اختر من العمود (B) ما يناسبه من العمود (A)، ثم اكتب العبارة كاملة :

(A)	(B)
(١) المولد الكهربى	(١) تكون مستقرة.
(٢) المركبات التساهمية	(٢) تفاعلاتها سريعة.
(٣) المنطقة المختارة لحفظ النفايات المشعة	(٣) ينتج تيار مستمر.
(٤) المركبات الأيونية	(٤) تفاعلاتها بطيئة.
	(٥) ينتج تيار متردد.
	(٦) تكون غير مستقرة.

(ب) أكمل ما يأتى :

(١) يُعرف القانون الثانى لمندل بقانون .....

(٢) زمن احتراق سلك تنظيف الألومنيوم فى دورق صغير به أكسجين ..... زمن احتراقه فى أكسجين الهواء الجوى.

(٣) زمن ذوبان قرص من الفوار فى حجم معين من الماء البارد ..... زمن ذوبان قرص مماثل له فى نفس الحجم من الماء الساخن.

(٤) الصفات غير القابلة للانتقال من جيل إلى آخر تسمى .....

(جـ) فى الدائرة الكهربية الموجودة أمامك إذا تم تحريك زلق الريوستات لزيادة قراءة الأميتر، أكمل ما يأتى مستخدمًا الكلمات [لا تتغير – تقل – تزداد] :

(١) مقاومة الريوستات .....

(٢) قراءة الفولتميتر .....

(٣) قيمة المقاومة (م) .....

٣ (أ) صوب ما تحته خط :

(١) إزالة الغدة الدرقية من الجسم تؤدى إلى عدم إفراز هرمون الأدرينالين والذى يحفز أعضاء الجسم للاستجابة السريعة فى حالات الطوارئ.

(٢) تتحول الطاقة الحركية إلى طاقة كهربية فى الأعمدة الجافة والبطاريات.

(٣) يصاب الإنسان بمرض البول السكرى نتيجة نقص إفراز هرمون النمو فى مرحلة الطفولة.

(٤) فى الشكل المقابل عند غلق المفتاح فإن شدة التيار المار فى المقاومة (م) تزداد.

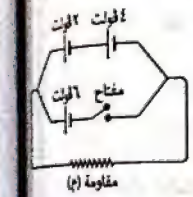

(ب) أولًا : أكمل الجدول التالى، محددًا نوع كل تفاعل أو عملية :

التفاعل	نوع التفاعل أو العملية
(1) $A \longrightarrow A^{+} + e^{-}$ (إلكترون)	.....
(2) (محلول) $BC + A \longrightarrow AC + B$	.....

ثانيًا : من الشكل المقابل استبدل الأرقام برموز أفراد الجيل الناتج.

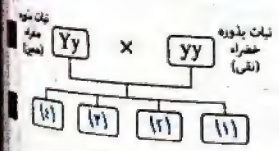

(جـ) فسر ما يلى :

(١) إضافة قطعة بطاطا إلى كأس بها محلول فوق أكسيد الهيدروجين يزيد من معدل تفكك المحلول.

(٢) تأخر بدء تفاعل الألومنيوم مع حمض الهيدروكلوريك المخفف عمليًا.

١ (أ) ضع علامة (✓) أمام العبارة الصحيحة وعلامة (✗) أمام العبارة الخطأ :

(١) تفاعل حمض الهيدروكلوريك مع كربونات الصوديوم تفاعل تعادل. ( )

(٢) يسبب الزئبق تآكل للذهب عند تلامسهما، لأنه أنشط منه كيميائيًا. ( )

(٣) يمكن تحويل التيار الكهربى المتردد إلى تيار كهربى مستمر. ( )

(٤) يستخدم الريوستات المنزلق فى قياس المقاومة الكهربية. ( )

(ب) اختر الإجابة الصحيحة مما بين الإجابات المعطاة :

(١) أيًا من الصفات الآتية تكون سائدة فى الإنسان ؟ .....

(أ) وجود النمش فى الوجه. (ب) العيون الضيقة.

(جـ) الشعر الناعم. (د) شحمة الأذن المنفصلة.

(٢) يشترك كل من فرق الجهد والقوة الدافعة الكهربية فى وحدة القياس، وهى تعادل .....

(أ) $\frac{\text{أوم}}{\text{أمبير}}$ (ب) $\frac{\text{أمبير}}{\text{أوم}}$ (جـ) $\frac{\text{كولوم}}{\text{جول}}$ (د) $\frac{\text{جول}}{\text{أمبير} \times \text{ثانية}}$

(٣) العالمان اللذان تمكنا من وضع نموذج لجزىء DNA، هما .....

(أ) بيدل وتاتوم. (ب) بيدل ومندل.

(جـ) كريك وواطسون. (د) مندل وتاتوم.

(٤) من التأثيرات الوراثية الناتجة عن تعرض الإنسان لجرعة إشعاعية صغيرة لفترات زمنية طويلة .....

(أ) تدمير الجهاز العصبى المركزى.

(ب) تدمير الطحال.

(جـ) تغيير فى تركيب الكروموسومات الجنسية.

(د) تغيير فى تركيب هيموجلوبين الدم.

(جـ) من المعادلتين (1) ، (2)، أجب عما يلى :

(1) $\boxed{A}$ (مادة خضراء) $\xrightarrow{\Delta} \boxed{B} + CO_2 \uparrow$

(2) $\boxed{B} + H_2 \xrightarrow{\Delta} \boxed{D} + H_2O$

(١) اكتب الصيغة الكيميائية لكل من $\boxed{A}$ ، $\boxed{B}$ ، $\boxed{D}$ على الترتيب.

(٢) ما اسم العملية الحادثة للمادة $\boxed{B}$ فى التفاعل (2) والتى أدت إلى تحولها إلى المادة $\boxed{D}$.

أجب عن جميع الأسئلة الآتية :

١ (أ) أكمل العبارات الآتية بما يناسبها :

(١) يُستخدم جهاز ..... فى قياس شدة التيار الكهربى، بينما يُقاس ..... باستخدام جهاز الفولتميتر.

(٢) تنتج الأعمدة الكهربية تيارًا ..... ، بينما تنتج المولدات الكهربية تيارًا .....

(٣) يتحكم فى كل صفة وراثية ..... ينفصلان أثناء تكوين .....

(٤) القدرة على لف اللسان من الصفات ..... ، بينما شحمة الأذن المتصلة من الصفات ..... فى الإنسان.

(ب) ١- من العمودين (B) ، (C) ما يناسبهما من العمود (A)، وأعد كتابة العبارة كاملة :

① (A)	(B)	(C)
التفاعل الحادث	الغاز الناتج	الكشف عن الغاز
(١) الصوديوم مع الماء	(١) SO_3	(١) يزيد من اشتعال الشظية.
(٢) تسخين نترات الصوديوم	(٢) H_2	(٢) يشتعل بفرقعة.
	(٣) O_2	(٣) يعكر ماء الجير الرائق.

② (A)	(B)	(C)
الغدة	الهرمون	الوظيفة
(١) البنكرياس	(١) الأدرينالين	(١) يحفز عملية نمو بطانة الرحم.
(٢) الغدة الدرقية	(٢) الجلوكاجون	(٢) ضبط مستوى الكالسيوم فى الدم.
	(٣) الكالسيتونين	(٣) يحفز انطلاق سكر الجلوكوز من خلايا الكبد.

(جـ) فى الدائرة الموضحة بالشكل المقابل،
إذا كان فرق الجهد بين طرفى المقاومة ١٨ فولت،
احسب قراءة الأميتر.

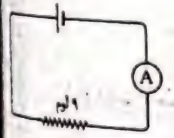

(أ) صوب ما تحته خط :

(١) فى تفاعلات الحفز الموجب يقوم العامل الحفاز بخفض سرعة التفاعل الكيميائى.

(٢) $2N_2O_5 \longrightarrow 4NO_2 + N_2$

(٣) يعتمد انتقال الشحنة الكهربية بين موصلين على شدة تيار الموصلين.

(٤) وحدة قياس الإشعاع الممتص هى الرونتيجن.

(ب) قارن بين كل من :

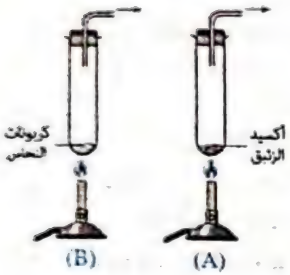

(١) المادة المتكونة فى كل من الأنبوبتين (A) و (B) الموضحتين بالشكل المقابل
«من حيث : اللون بعد التسخين».

(٢) العامل المؤكسد و العامل المختزل
«من حيث : فقد واكتساب الإلكترونات».

(٣) الصفة الوراثية و الصفة المكتسبة
«من حيث : الانتقال عبر الأجيال».

(٤) القانون الأول لمندل و القانون الثانى لمندل «من حيث : الاسم».

(جـ) وضح بالرسم فقط كيفية توصيل ثلاثة أعمدة كهربية، ق.د.ك لكل منها ٣ فولت للحصول على بطارية القوة الدافعة الكهربية لها :

(١) ٦ فولت. (٢) ٣ فولت.

٢ (أ) اكتب المصطلح العلمى الدال على كل عبارة من العبارات الآتية :

(١) مقدار الشحنة الكهربية بالكولوم المتدفقة خلال مقطع من موصل فى زمن قدره ثانية واحدة.

(٢) خلايا تتحول فيها الطاقة الكيميائية إلى طاقة كهربية.

(٣) رسائل كيميائية تضبط وتنظم معظم أنشطة ووظائف جسم الإنسان.

(٤) حالة مرضية تنشأ نتيجة نقص إفراز هرمون الإنسولين.

(ب) (١) ادرس الأشكال المقابلة، ثم أجب :

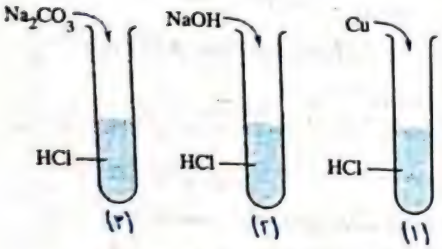

١- ما رقم الأنبوبة التى تتكون فيها فقاعات غازية عند إضافة المسحوق إلى الحمض ؟

٢- ما نوع التفاعل الحادث فى الأنبوبة (٢) ؟

(٢) الشكل المقابل يعبر عن توارث إحدى الصفات البشرية :

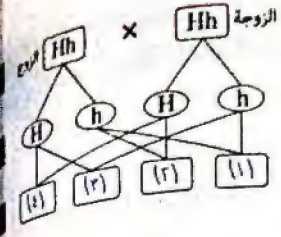

١- ما الرقم الدال على الطفل الذى يحمل الصفة المتنحية ؟

٢- ما نسبة ظهور الصفة المتنحية فى الجيل الناتج ؟

(جـ) تُرك سلك من الحديد كتلته 10 g وكذلك برادة حديد لها نفس الكتلة فى مكان رطب. أيهما يصدأ أسرع من الآخر ؟ مع التعليل.

---

٤ (أ) اختر الإجابة الصحيحة مما بين القوسين :

(١) عند حدوث انخفاض سريع ومفاجئ فى سرعة السيارة تنحل مادة أزيد الصوديوم ويتصاعد غاز ..... (CO_2 / O_2 / H_2 / N_2)

(٢) عند رفع درجة حرارة تفاعل كيميائى يزداد معدل التفاعل لزيادة .....
(مساحة السطح المعرض للتفاعل / عدد الجزيئات المتفاعلة / عدد التصادمات المحتملة بين الجزيئات المتفاعلة / تركيز المتفاعلات)

(٣) فى الدائرة الكهربية يستخدم الريوستات المنزلق فى .....
(قياس شدة التيار / قياس فرق الجهد / تغيير قيمة المقاومة / فتح وغلق الدائرة)

(٤) من استخدامات الطاقة النووية فى مجال ..... تحسين سلالات بعض النباتات.
(الطب / التنقيب / الصناعة / الزراعة)

(ب) (١) أيًا من الشكلين المقابلين :

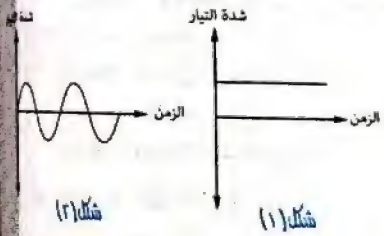

١- يُمثل التيار الكهربى الذى يمكن نقله لمسافات بعيدة.

٢- يُستخدم فى عمليات الطلاء الكهربى.

(٢) أكمل المخطط التالى :

الجين ← يعطى ← ....(١).... ← مسئول عن حدوث ← تفاعل كيميائى ← يكوّن ← ....(٢).... ← يعمل على ظهور ← صفة وراثية محددة

(جـ) علل لما يأتى :

(١) تستخدم الثلاجة فى حفظ الأطعمة.

(٢) عدم حفظ محلول نترات الفضة فى أوانى من الألومنيوم.

٧ أجب عن جميع الأسئلة الآتية :

١ (أ) اكتب المصطلح العلمى الدال على كل عبارة من العبارات الآتية :

(١) عملية تحول تلقائى لأنوية ذرات بعض العناصر المشعة الموجودة فى الطبيعة كمحاولة للوصول إلى تركيب أكثر استقرارًا.

(٢) تيار كهربى ثابت الشدة يسرى فى اتجاه واحد فقط فى الدائرة الكهربية.

(٣) الصفة الوراثية التى تظهر فى جميع أفراد الجيل الأول فى تجارب مندل.

(٤) يتركب كيميائيًا من حمض نووى DNA مرتبطًا مع بروتين.

(ب) ضع علامة (✓) أمام العبارة الصحيحة، وعلامة (✗) أمام العبارة الخطأ :

(١) تقل سرعة التفاعل الكيميائى بزيادة عدد التصادمات بين جزيئات المواد المتفاعلة. ( )

(٢) تفرز الهرمونات فى الجسم من أعضاء خاصة تسمى الغدد اللاقنوية (الصماء). ( )

(٣) يتفكك غاز خامس أكسيد النيتروجين إلى غاز ثانى أكسيد النيتروجين وغاز النيتروجين. ( )

(٤) هرمون الإستروجين يحفز عملية نمو بطانة الرحم. ( )

(جـ) إذا كان مقدار الشغل المبذول لنقل شحنة كهربية مقدارها ٣٠٠ كولوم بين نقطتين يساوى ٦٦٠٠٠ جول، احسب فرق الجهد بين النقطتين.

---

٢ (أ) اختر الإجابة الصحيحة مما بين القوسين :

(١) يعبر التفاعل $Cl_2 + 2e^- \longrightarrow 2Cl^-$ عن عملية .....
(أكسدة / اختزال / انحلال / إحلال)

(٢) تدفق الشحنات الكهربية خلال سلك معدنى فى الدائرة الكهربية المغلقة يمثل .....
(المقاومة / شدة التيار الكهربى / التيار الكهربى / فرق الجهد)

(٣) يتصاعد غاز الأكسجين O_2 عند انحلال مركب ..... بالحرارة.
($Cu(OH)_2$ / $CuCO_3$ / $CuSO_4$ / HgO)

(٤) يستخدم ..... لتوليد تيار كهربى مستمر.
(الدينامو / الأميتر / العمود الجاف / الفولتميتر)

(ب) أعد كتابة العبارات الآتية بعد تصويب ما تحته خط :

(١) تنحل معظم كربونات الفلز عند تسخينها إلى الفلز ويتصاعد غاز ثانى أكسيد الكربون.

(٢) اختار مندل عشر صفات وراثية خاصة بنبات البازلاء لإجراء تجاربه.

(٣) يُختزل أكسيد النحاس الساخن بإمرار غاز الهيليوم عليه.

(٤) الجينات أجزاء من DNA موجودة على غشاء الخلية.

(جـ) لديك ثلاثة أعمدة كهربية متماثلة القوة الدافعة الكهربية لكل منها ٢ فولت، وضح بالرسم فقط كيف يمكن توصيلها معًا للحصول على :

(١) أقل قوة دافعة كهربية ممكنة.

(٢) أكبر قوة دافعة كهربية ممكنة.

٢ (أ) علل لما يأتي :

(١) يعتبر الدم هو السبيل الوحيد لكي يصل الهرمون إلى موقع عمله (الخلايا المستهدفة).

(٢) يجب أن تكون المنطقة المختارة لحقن النفايات المشعة مستقرة.

(٣) توقف نمو الجسم بما يجعل الشخص قزمًا.

(٤) يستخدم الريوستات المنزلق في بعض الدوائر الكهربية.

(ب) أكمل ما يأتي :

(١) $Mg + 2HCl \xrightarrow{\text{مخفف}} \dots\dots + H_2$

(٢) عند تزاوج ذكر وأنثى التركيب الوراثي لكل منهما Bb فإن التركيب الوراثي bb يحتمل ظهوره في أبنائهما بنسبة .....

(٣) ..... هو كسر الروابط الموجودة في جزيئات المواد المتفاعلة وتكوين روابط جديدة في جزيئات المواد الناتجة من التفاعل.

(٤) تمكن العالمان ..... من اكتشاف الكيفية التي يتحكم بها الجين في إظهار الصفة الوراثية.

(جـ) ماذا يحدث عند إضافة محلول نترات الفضة إلى محلول كلوريد الصوديوم مع كتابة المعادلة الرمزية الموزونة المعبرة عن التفاعل.

٣ (أ) اختر من العمود (B) ما يناسبه من العمود (A) :

(A)	(B)
(١) عند تفاعل كربونات الصوديوم مع حمض الهيدروكلوريك المخفف يتصاعد	(١) غاز O_2
(٢) عند تفاعل الصوديوم مع الماء يتصاعد	(٢) غاز CO_2
(٣) وحدة قياس القوة الدافعة الكهربية	(٣) العامل المؤكسد
(٤) المادة التي تعطي الأكسجين أو تنتزع الهيدروجين أثناء التفاعل الكيميائي	(٤) الأوم.
	(٥) غاز H_2
	(٦) الفولت.

(ب) في الشكل المقابل تم إضافة كميات متساوية من حمض الهيدروكلوريك المخفف إلى الأنابيب الثلاثة :

(١) بما تفسر :

١- عدم حدوث تفاعل في الأنبوبة (١).

٢- تأخر بدء التفاعل في الأنبوبة (٣) عن الأنبوبة (٢) رغم أن الألومنيوم أنشط من الخارصين.

(٢) ما اسم الغاز المتصاعد عند حدوث التفاعل ؟

(جـ) من الشكل المقابل، احسب قيمة القوة الدافعة الكهربية للعمود (X)، علمًا بأن قراءة الأميتر ٢ أمبير وقيمة المقاومة (م) ٣ أوم.



أجب عن جميع الأسئلة الآتية :

١ (أ) اختر الإجابة الصحيحة مما بين الإجابات المعطاة :

(١) عند تزاوج ذكر وأنثى التركيب الوراثي لكل منهما BB، فإن التركيب الوراثي bb يحتمل ظهوره في أبنائهما بنسبة .....

(أ) صفر (ب) ٢٥٪ (جـ) ٥٠٪ (د) ٧٥٪

(٢) أي الأشكال التالية يحقق قانون أوم ؟ .....

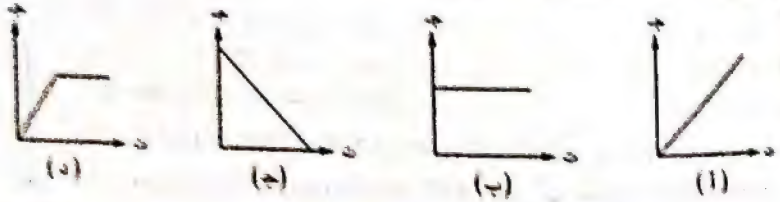

(٣) من استخدامات الطاقة النووية فى مجال ..... تحسين سلالات بعض النباتات.

(أ) الطب (ب) التنقيب (جـ) الصناعة (د) الزراعة

(٤) نزع العالم ..... أسدية بعض أزهار نباتات البازلاء لمنع حدوث التلقيح الذاتى.

(أ) أوم (ب) بيكوريل (جـ) مندل (د) بيل

(ب) أولاً : إذا أضيفت كميات متساوية من حمض الهيدروكلوريك المخفف إلى ثلاثة أنابيب اختبار بها العناصر الآتية (الخارصين - الألومنيوم - النحاس) فإن :

(١) عنصر ..... لا يتفاعل مع حمض الهيدروكلوريك لأنه يلى الهيدروجين فى متسلسلة النشاط الكيميائى.

(٢) عنصر ..... يتأخر عمليًا فى تفاعله مع الحمض لوجود طبقة من الأكسيد عليه.

ثانيًا : المخطط المقابل يوضح هرمونين متعاكسين فى الوظيفة، ما اسم الهرمونين ؟



(جـ) احسب شدة التيار الكهربى الناتج عن مرور كمية من الكهربية مقدارها ٣٦٠ كولوم عبر مقطع من موصل خلال دقيقة، مستخدمًا القانون (شدة التيار = كمية الكهربية/الزمن بالثانية).

---

(١) أكمل العبارات الآتية بما يناسبها :

(١) تعتبر الغدة ..... سيدة الغدد الصماء (الغدة الرئيسية).

(٢) تنتج حالة ..... عند نقص إفراز هرمون النمو فى مرحلة الطفولة.

(٣) التعرض لجرعات إشعاعية صغيرة خلال فترات زمنية ..... يؤدى لحدوث تأثيرات وراثية وبدنية وخلوية.

(٤) القوة الدافعة الكهربية هى فرق الجهد بين قطبى المصدر الكهربى فى الدائرة الكهربية .....

(ب) اذكر ما يلى :

(١) عامل حفاز موجب.

(٢) صفة وراثية تنتقل من جيل لآخر.

(٣) مادة يكونها الجين مسئولة عن حدوث تفاعل كيميائى معين.

(٤) لون الراسب المتكون عند إضافة الماغنسيوم إلى محلول كبريتات النحاس.

(جـ) الشكل البيانى المقابل يوضح معدل انحلال أكسيد الزئبق، تبعًا للمعادلة :

$$2HgO \xrightarrow{\Delta} 2Hg + O_2 \uparrow$$

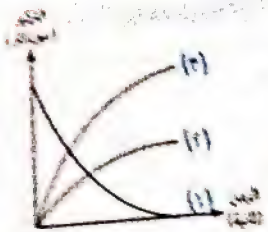

ما الرقم الدال على :

(١) المادة حمراء اللون.

(٢) المادة فضية اللون.

---

(١) صوب ما تحته خط فى العبارات الآتية :

(١) يتم توصيل الفولتميتر فى الدوائر الكهربية على التوالى.

(٢) عدد جزيئات الحمض فى المحلول المركز أقل من عددها فى المحلول المخفف منه.

(٣) التفاعلات التى تحدث فى باطن الأرض لتكوين صدأ الحديد تحتاج لملايين السنين.

(٤) العناصر المشعة هى عناصر تحتوى أنوية ذراتها على عدد من البروتونات يزيد عن العدد اللازم لاستقرارها.

(ب) اختر من العمود (B) ما يناسبه من العمود (A) :

(A)	(B)
(١) تفاعل الصوديوم مع الماء يعد تفاعل	(١) من الصفات المكسبة.
(٢) صفة طول الساق فى النبات	(٢) إحلال بسيط.
(٣) إمرار غاز الهيدروجين على أكسيد النحاس الساخن يعد تفاعل	(٣) من الصفات السائدة.
(٤) شحمة الأذن المتصلة فى الإنسان	(٤) أكسدة واختزال.
	(٥) من الصفات المتنحية.

(جـ) اختر: بطارية مكونة من عدة أعمدة كهربية متصلة معًا على التوالى القوة الدافعة الكهربية لها ٩ فولت، فإذا علمت أن القوة الدافعة الكهربية للعمود الواحد = ١,٥ فولت، فإن عدد الأعمدة المكونة لهذه البطارية ..... عمود. (٤ / ٦ / ٩ / ١٥)

---

(١) ضع علامة (✓) أمام العبارة الصحيحة، وعلامة (✗) أمام العبارة الخطأ :

(١) الجينات أجزاء من الحمض النووى توجد بالكروموسومات. ( )

(٢) وحدة قياس الإشعاع الممتص بواسطة الجسم البشرى فى الأوج. ( )

(٣) تفاعل حمض مع قلوى لتكوين ملح وماء يعرف بتفاعل التعادل. ( )

(٤) العامل المختزل هو المادة التى تفقد إلكترون أو أكثر أثناء التفاعل الكيميائى. ( )

(ب) أدرس الأشكال التالية، ثم أجب عن المطلوب أسفل كل منها :

(١)



أيًا من الموصلين A ، B أعلى جهدًا ؟

(٢)

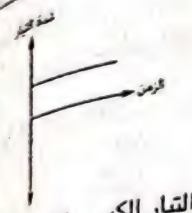

ما نوع التيار الكهربى الذى يمثله الشكل

(٣)

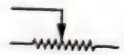

اذكر استخدام الجهاز المعبر عنه بالشكل فى الدوائر الكهربية

(٤)

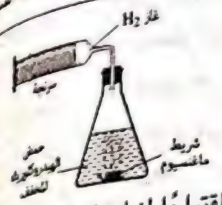

اذكر اقتراحًا لزيادة كمية غاز الهيدروجين المتجمعة فى السرنجة

(جـ) (١) اذكر نص القانون الأول لمندل.

(٢) اكتب المعادلة الرمزية الموزونة المعبرة عن تفاعل حمض الهيدروكلوريك المخفف مع كربونات الصوديوم.

٩ محافظة أسيوط — الفصل الدراسى الثانى

مجاب عنه

أجب عن جميع الأسئلة الآتية :

١ (أ) اختر الإجابة الصحيحة مما بين القوسين :

(١) عند الانحلال الحرارى لملح نترات الصوديوم يتصاعد غاز .....

($NO/O_2/H_2/CO_2$)

(٢) هرمون ..... ينظم نسبة الكالسيوم فى الدم.

(الكالسيتونين / الثيروكسين / الأدرينالين / البروجسترون)

(٣) الأشكال التالية توضح ثلاث طرق لتوصيل بطاريتين داخل ثلاثة كشافات ضوئية :

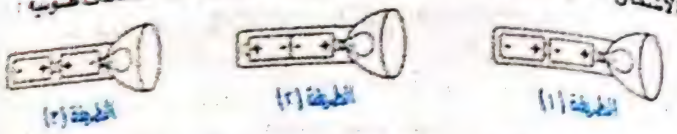

فى أيًا من الطرق الثلاث يضىء الكشاف ؟ .....

(الطريقة (١) / الطريقة (٢) / الطريقة (٣) / لا يضىء الكشاف بأيًا من هذه الطرق)

(٤) وحدة قياس الإشعاع الممتص بواسطة الجسم البشرى هى .....

(الرونتيجن / الكورى / السيفرت / الكولوم)

(٥) من الصفات المتنحية فى الإنسان .....

(الشعر المجعد / العيون الواسعة / الشعر الناعم / شحمة الأذن المنفصلة)

(ب) ماذا يحدث فى كل من الحالات الآتية :

(١) إضافة قطعة من النحاس إلى حمض الهيدروكلوريك المخفف.

(٢) تعرض جسم الإنسان لجرعة إشعاعية كبيرة خلال فترة زمنية قصيرة.

(٣) زيادة مساحة السطح المعرض للتفاعل «بالنسبة لسرعة التفاعل الكيميائى».

(جـ) مستعينًا بالجدول المقابل، أجب عما يلى :

(١) اكتب معادلة تفاعل الصوديوم مع الكلور لتكوين كلوريد الصوديوم.

(٢) حدد العامل المؤكسد والعامل المختزل، مع ذكر السبب.

العنصر	العدد الذرى	التوزيع الإلكترونى		
		K	L	M
Na	١١	٢	٨	١
Cl	١٧	٢	٨	٧

٢ (أ) أكمل العبارات الآتية :

(١) يعرف القانون الأول لمندل بقانون .....

(٢) المركبات التساهمية تكون تفاعلاتها ..... من تفاعلات المركبات الأيونية.

(٣) تستخدم الطاقة النووية فى مجال الطب فى .....

(٤) يقاس الشغل المبذول بوحدة .....

(٥) فى نهاية التفاعل الكيميائى التام تكون نسبة تركيز المتفاعلات .....

(ب) اختر من العمودين (B) ، (C) ما يناسبهما من العمود (A) :

(A)	(B)	(C)
(١) فرق الجهد الكهربى	(١) متغير الشدة والاتجاه	(١) يقاس باستخدام جهاز الأميتر
(٢) البيرانيوم	(٢) وحدة قياسه كولوم/ثانية	(٢) عنصر مشع
(٣) التيار الكهربى المتردد	(٣) غير مستقر	(٣) يقاس باستخدام جهاز الفولتميتر
	(٤) وحدة قياسه جول/كولوم	(٤) يستخدم فى إنارة معظم الأجهزة الكهربية
	(٥) ثابت الشدة والاتجاه	

(جـ) استخدم الرموز فى التعبير عن ناتج التزاوج بين نبات بسلة طويل الساق أخضر القرون مع نبات بسلة قصير الساق أصفر القرون، موضحًا التراكيب الجينية لكل من : الآباء – الأمشاج – الجيل الأول.

٣ (أ) اكتب المفهوم العلمى الدال على كل عبارة من العبارات الآتية :

(١) مادة تزيد من سرعة التفاعل الكيميائى دون أن تستهلك.

(٢) علم يبحث فى انتقال الصفات الوراثية من جيل لآخر وذلك بدراسة أوجه الشبه والاختلاف بين الآباء والأبناء.

(٣) الممانعة التى يلقاها التيار الكهربى أثناء مروره فى الموصل.

(٤) أجزاء من الحمض النووى DNA موجودة على الكروموسومات وتتحكم فى الصفات الوراثية للفرد.

(٥) تفاعل حمض مع قلوى لتكوين ملح وماء.

(ب) وضح بالمعادلات الكيميائية الموزونة ما يلى :

(١) تفاعل الصوديوم مع الماء.

(٢) تسخين أكسيد الزئبق الأحمر.

(٣) إضافة ملح كربونات الصوديوم إلى حمض الهيدروكلوريك المخفف.

(جـ) اشترى محمود لعبة تعمل بقوة دافعة كهربية مقدارها ٦ فولت، فإذا كان لديه خمسة أعمدة كهربية القوة الدافعة الكهربية لكل منها ٢ فولت،

اشرح كيف يتم توصيل هذه الأعمدة معًا لتشغيل اللعبة ؟ مع التوضيح بالرسم.

٤ (أ) ضع علامة (✓) أمام العبارة الصحيحة، وعلامة (✗) أمام العبارة الخطأ :

(١) فى متسلسلة النشاط الكيميائى ترتب العناصر الفلزية ترتيبًا تنازليًا حسب أوزانها الذرية. ( )

(٢) جزء مثل البتلات من أزهار نباتات البازلاء حتى لا يحدث تلقيح ذاتى. ( )

(٣) تتحول الطاقة الكيميائية إلى طاقة كهربية فى الأعمدة الجافة والبطاريات. ( )

(٤) يدخل عنصر الحديد فى تركيب هرمون الثيروكسين. ( )

(ب) علل لما يأتى :

(١) تعرض أحمد عندما وجد أحد زملائه يحتفظ بمحلول شرات الفضة فى أوانى من الألومنيوم.

(٢) يضع مقاومة متغيرة (الريوستات) فى بعض الدوائر الكهربية.

(٣) تعتبر النواة مخزنًا للطاقة.

(جـ) عرف كل من :

(١) القانون الثانى لمندل. (٢) الهرمونات. (٣) التفاعل الكيميائى.

محافظة أسوان

الفصل الدراسى الثانى

أجب عن جميع الأسئلة الآتية :

١ (أ) أكمل ما يأتى :

(١) يستخدم ..... لتوليد تيار كهربى متردد.

(٢) $NaOH + \text{.....} \longrightarrow NaCl + H_2O$

(٣) وجود غمازات بالوجه فى الإنسان من الصفات الوراثية .....

(٤) تفاعل مسحوق كلوريد الصوديوم ..... من تفاعل مكعب منه مساوٍ له فى الكتلة.

(ب) اختر من العمود (B) ما يناسبه من العمود (A) :

(A)	(B)
الكمية الفيزيائية	وحدة القياس
(١) المقاومة	(١) الجول.
(٢) القوة الدافعة الكهربية	(٢) الأمبير.
(٣) كمية الكهربية	(٣) الكولوم.
(٤) الشغل المبذول	(٤) الأوم.
	(٥) الفولت.

(جـ) ماذا يحدث عند تسخين كربونات النحاس خضراء اللون ؟ (مع كتابة معادلة التفاعل).

٢ (أ) اكتب المصطلح العلمى الدال على كل عبارة من العبارات الآتية :

(١) إذا تزاوج فردان نقيان مختلفان فى زوجين أو أكثر من الصفات المتبادلة، تورث صفتا كل زوج منهما مستقلة وتظهر فى الجيل الثانى بنسبة ٣ : ١

(٢) عملية كيميائية تكتسب فيها ذرة العنصر إلكترونًا أو أكثر.

(٣) عملية التحول التلقائى لأنوية ذرات بعض العناصر الموجودة فى الطبيعة كمصدر للوصول إلى تركيب أكثر استقرارًا.

(٤) كسر للروابط الموجودة فى جزيئات المواد المتفاعلة وتكوين روابط جديدة فى جزيئات المواد الناتجة من التفاعل.

(ب) الشكل المقابل يوضح عملية تلقيح ذاتى فى نبات بازلاء أحمر الأزهار هجين.

استبدل الأرقام على الشكل بالرموز المناسبة لها.

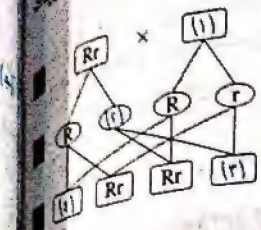

(جـ) فى الدائرة الكهربية المقابلة،

احسب قراءة الأميتر.

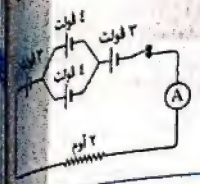

٣ (أ) اختر الإجابة الصحيحة مما بين الإجابات المعطاة :

(١) عند إضافة محلول كلوريد الصوديوم إلى محلول نترات الفضة يتكون راسب .....

(أ) أسود. (ب) أحمر. (جـ) أزرق. (د) أبيض.

(٢) الفولت يعادل .....

(أ) $\frac{\text{كولوم}}{\text{أمبير}}$ (ب) أمبير × ثانية (جـ) $\frac{\text{جول}}{\text{كولوم}}$ (د) $\frac{\text{كولوم}}{\text{ثانية}}$

(٣) تتحكم الجينات فى إظهار الصفات الوراثية للكائن الحى بإنتاج .....

(أ) هرمونات. (ب) إنزيمات. (جـ) دهون. (د) فيتامينات.

(٤) عند تفاعل شريط من الماغنسيوم مع حمض الهيدروكلوريك المخفف فإن الشكل ..... يعبر عن التغير الحادث فى تركيز حمض الهيدروكلوريك بمرور الزمن.

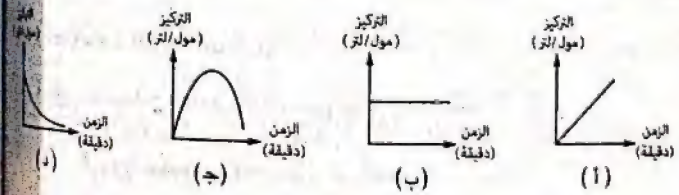

(ب) استبعد الكلمة غير المناسبة :

(١) الصوديوم / البوتاسيوم / الفضة / الألومنيوم.

(٢) الفولتميتر / الأميتر / الأوميتر / الباروميتر.

(٣) الراديوم / الحديد / اليورانيوم / الروبيديوم.

(٤) الفزامة / العملقة / البول السكرى / السرطان.

(جـ) من الشكل المقابل :

(١) ما اسم الغاز المتصاعد من التفاعل ؟

(٢) اذكر نوع التفاعل.

٤ (أ) صوب ما تحته خط :

(١) تستخدم بعض المواد المشعة كوقود حفرى لصواريخ الفضاء.

(٢) العامل الحفاز هو المادة التى تمنح الأكسجين أو تنتزع الهيدروجين أثناء التفاعل الكيميائى.

(٣) تتناسب شدة التيار الكهربى المار فى موصل ما تناسبًا عكسيًا مع فرق الجهد بين طرفيه عند ثبوت درجة الحرارة.

(٤) تتحول الطاقة الحركية إلى طاقة كهربية فى الأعمدة الجافة والبطاريات.

(ب) من الشكل المقابل، أكمل ما يأتى :

(١) الغدة (X) تسمى .....

(٢) تقع الغدة (X) فى السطح الأمامى للعنق على جانبى .....

(٣) تفرز الغدة (X) هرمون يُسمى ..... والذى يقوم بدور رئيسى فى عمليات التحول الغذائى فى جسم الإنسان.

(٤) يؤدى الخلل فى إفراز هرمون الغدة (X) إلى إصابة الإنسان بمرض يُعرف بـ .....

(جـ) ما الدور الذى يقوم به إنزيم الأوكسيديز الموجود فى البطاطا فى تفاعل تفكك محلول فوق أكسيد الهيدروچين ؟

أجب عن جميع الأسئلة الآتية :

١ (أ) اكتب المفهوم العلمى الدال على كل عبارة من العبارات الآتية :

(١) حالة الموصل الكهربية التى تبين انتقال الكهربية منه أو إليه إذا ما وصل بموصل آخر.

(٢) يتركب كيميائيًا من حمض نووى يسمى DNA مرتبطًا مع بروتين.

(٣) النسبة بين الشغل المبذول وكمية الكهربية المارة بين نقطتين.

(٤) الفرد الذى يحمل زوج متباين من الجينات لصفة ما.

(ب) صوب ما تحته خط :

(١) $Fe + 2HCl \xrightarrow{\text{مخفف}} FeCl_3 + H_2 \uparrow$

(٢) تفرز الغدة الدرقية هرمون الكالسيتونين الذى ينظم نمو الأعضاء التناسلية للإنسان.

(٣) $2Na + 2H_2O \longrightarrow 2NaOH + O_2 + Heat$

(٤) هرمون الأوكسيتوسين يحفز عملية نمو بطانة الرحم.

(جـ) احسب فرق الجهد بين طرفى موصل شدة التيار المار به ٥ أمبير فى زمن قدره ١٠ ثانية إذا كان الشغل المبذول ٢٠٠ جول.

---

٢ (أ) انتقِ الإجابة الصحيحة مما بين القوسين :

(١) ينطلق غاز الأكسجين عند انحلال مركب ..... بالحرارة.

($Cu(OH)_2$ / $CuSO_4$ / $CuCO_3$ / HgO)

(٢) تدفق الشحنات الكهربية فى سلك معدنى يمثل .....

(المقاومة / شدة التيار الكهربى / التيار الكهربى / فرق الجهد)

(٣) معدل تفاعل حمض الهيدروكلوريك مع برادة حديد أسرع منه مع قطعة حديد سليمة لها فى الكتلة. ما العامل المؤثر على هذا التفاعل ؟ .....

(طبيعة المتفاعلات / تركيز المتفاعلات / درجة حرارة التفاعل / العامل الحفاز)

(٤) إذا زادت كمية الشحنة الكهربية المارة فى سلك إلى الضعف وقل زمن سريانها إلى النصف فإن شدة التيار .....

(تزداد إلى أربعة أمثالها / تقل إلى الربع / تظل ثابتة / تزداد إلى الضعف)

(ب) ضع علامة (✓) أمام العبارة الصحيحة، وعلامة (✗) أمام العبارة الخطأ :

(١) التعادل هو تفاعل حمض مع قلوى لتكوين ملح وماء. ( )

(٢) اختار مندل عشر صفات وراثية خاصة بنبات البازلاء لإجراء تجاربه. ( )

(٣) تفاعل الألعاب النارية سريع، بينما تفاعل صدأ الحديد يحتاج ملايين السنين. ( )

(٤) عند تزاوج ذكر تركيبه الوراثى (Bb) وأنثى تركيبها الوراثى (bb) فإن التركيب الوراثى (BB) يحتمل ظهوره فى أبنائهما بنسبة ٢٥٪ ( )

(جـ) ضع بالرسم فقط كيفية توصيل الفولتميتر فى الدائرة الكهربية لقياس :

(١) فرق الجهد بين طرفى مصباح.

(٢) القوة الدافعة الكهربية بين قطبى بطارية.

---

٣ (أ) أكمل العبارات الآتية :

(١) التيار الناتج عن الخلايا الكهروكيميائية تيارًا .....

(٢) عندما تقل كمية اليود بالطعام يقل إفراز هرمون .....

(٣) يجب ألا يزيد مقدار ما يتعرض له العاملين فى مجال الإشعاع عن ..... ملى سيفرت فى العام الواحد.

(٤) تفرز الغدة النخامية ما يعرف باسم هرمون ..... الذى يضبط معدل نمو العضلات.

(ب) انتقِ الإجابة الصحيحة مما بين القوسين :

(١) عند إضافة خراطة النحاس إلى حمض الهيدروكلوريك المخفف .....

(يتكون هيدروكسيد النحاس / تتكون كربونات النحاس / يتكون كلوريد النحاس / لا يحدث تفاعل)

(٢) عادة الصفة الوراثية يكونا متشابهين فى الفرد .....

(النقى / الهجين / المتنحى / النقى والمتنحى معًا)

(٣) العامل المؤكسد هو المادة التى ..... (تمنح الأكسجين / تنتزع الأكسجين / تمنح أو تنتزع الأكسجين / لا توجد إجابة صحيحة)

(٤) طبقًا لقانون الثانى لمندل فإن صفتا كل زوج من الصفات المتضادة تورث مستقلة وتظهر فى الجيل الثانى بنسبة ..... (١ : ١ / ١ : ٢ / ١ : ٣ / ١ : ٤)

(جـ) كيف يمكنك الحصول على فلز النحاس من كبريتات النحاس وبطريقتين مختلفتين مع كتابة المعادلات الكيميائية الرمزية الموزونة.

(أ) أجب عن ما تدله خط :

(١) يتساوى التركيب الأنزيمي بعد تحويله إلى مادة بلازمية تكون جزءًا من الغشاء الخلوي.

(٢) يعبر عن مقاومة الموصل بدلالة فرق الجهد وزمن طرفيه.

(٣) يتحول غاز ثاني أكسيد الكبريت المنبعث إلى غاز ثاني أكسيد الكبريت وغاز الهيدروجين.

(٤) وحدة قياس المقاومة تساوي فولت أمبير واحد.

(ب) أكمل العبارات الآتية :

(١) يستخدم جهاز ..... لقياس المقاومة في الدائرة الكهربية.

(٢) قانون أوم ينطبق على ..... لا يستوفي بالضبط قانون أوم.

(٣) عندما تمر التيار الكهربي في جهاز كهربي مقاومته ٥ أوم عندما يكون فرق الجهد بين طرفيه ٢٠ فولت فإن شدة التيار تساوي ..... أمبير.

(٤) تتحكم الجينات في الصفات الوراثية للكائن الحي بإنتاج .....

(جـ) استخدم خاصية ٢ جرام من ثاني أكسيد المنجنيز أثناء تفكك فوق أكسيد الهيدروجين وضح تجربة لاستخدام الثاني لثاني أكسيد المنجنيز، وما كتلة ثاني أكسيد المنجنيز في نهاية التفاعل ؟

مراجعة الوحدة — الفصل الدراسي الثاني

أجب عن جميع الأسئلة الآتية :

(أ) أكمل العبارات الآتية :

(١) القدرة على الاتحاد الأنبوبي للسائل من الصفات ..... في الإنسان.

(٢) يستخدم جهاز ..... لقياس القوة الدافعة الكهربية.

(٣) يتحكم في كل صفة وراثية عاملان وراثيان ينفصلان أثناء تكوين .....

(٤) من التأثيرات ..... للإشعاع النووي تغير تركيب الكروموسومات الجنسية للأفراد.

(ب) اكتب المصطلح العلمي الدال على كل عبارة من العبارات الآتية :

(١) التعبير عن تركيز المواد المتفاعلة والمواد الناتجة من التفاعل في وحدة الزمن.

(٢) الهرمون المسئول عن ظهور الصفات الجنسية الثانوية في الذكور.

(٣) ترتيب العناصر الفلزية ترتيبًا تنازليًا حسب درجة نشاطها الكيميائي.

(٤) غدد لا قنوية تصب إفرازاتها من الهرمونات في الدم مباشرة.

(جـ) احسب القوة الدافعة الكهربية المارة في موصل مقاومته ٢٢ أوم لمدة دقيقتين إذا كان فرق الجهد بين طرفيه ٢٢ فولت.

(د) اذكر الوجه المشترك بين الإنسان والحصان :

(١) عند إصدار الأمر يوم فصل الصباح في معاكيل أحد أصلاح الحصان يتكون من :

(أ) أمونيا (ب) أحمض (جـ) أزوت (د) أمونيا

(٢) في العمود الكهربي يتحول الطاقة ..... إلى طاقة كهربية.

(أ) الميكانيكية (ب) الحرارية (جـ) الكيميائية (د) الضوئية

(٣) في نهاية التفاعل الكيميائي تكون نسبة تركيز المتفاعلات .....

(أ) أصغر (ب) ٥٠٪ (جـ) ٧٥٪ (د) ١٠٠٪

(٤) تستخدم الطاقة النووية سلميًا في مجال الصناعة لتحويل الرمال إلى تستخدم في تصنيع بعض أجزاء الكمبيوتر.

(أ) طاقة كهربية (ب) شرائح سيليكون

(جـ) وقود نووي (د) قنبلة ذرية

(ر) ضع علامة (✓) أمام العبارة الصحيحة، وعلامة (✗) أمام العبارة الخطأ :

(١) في تفاعلات الشفرة الوجهية يستخدم العامل الحفاز ليخفض من سرعة التفاعل الكيميائي. ( )

(٢) الفرد الذي يرث جينًا واحدًا فقط لصفة وجود نمش الوجه لا تظهر عليه هذه الصفة. ( )

(٣) التفاعل الكيميائي هو عملية كسر الروابط في جزيئات المواد المتفاعلة وتكوين روابط جديدة في جزيئات المواد الناتجة. ( )

(٤) عادة الصفة الوراثية يكونا متشابهين في الفرد الهجين. ( )

(هـ) بطارية مكونة من ثلاثة أعمدة كهربية متماثلة، القوة الدافعة الكهربية لكل منها ٢ فولت. احسب القوة الدافعة الكهربية الكلية للبطارية، مع ذكر القانون المستخدم إذا وصلت أعمدتها :

(١) على التوالي. (٢) على التوازي.

(أ) صوب ما تدله خط :

(١) توجد الغدة النخامية أسفل الهيبوثيلاموس.

(٢) يوصل جهاز الأميتر في الدائرة الكهربية على التوازي.

(٣) يفرز هرمون الإنسولين عند ارتفاع نسبة سكر الجلوكوز في الدم.
(٤) في دائرة التيار الكهربي المستمر تنساب الجزيئات من أحد قطبي الخلية الكهربية
لتمر خلال مكونات الدائرة ثم تعود للقطب الآخر.

(ب) اذكر أهمية كل من :
(١) الجينات.
(٢) إنزيم الأوكسيديز الموجود في البطاطا.
(٣) مشروع الجينوم البشري.
(٤) الحمل الحفزي في السيارات الحديثة.

(جـ) قارن بين العامل المؤكسد و العامل المختزل من حيث : المفهوم الإلكتروني.

(١) اختر من العمود (B) ما يناسبه من العمود (A) :

(A)	(B)
(١) تسخين كبريتات النحاس من تفاعلات	(١) فلزات أساسية
(٢) الأسير يكافئ	(٢) جوال كولوم
(٣) الأيون يكافئ	(٣) كولوم ثانية
(٤) تفاعل التأرسن مع حمض الهيدروكلوريك المخفف من تفاعلات	(٤) الإحلال الحراري
	(٥) الإحلال المزدوج
	(٦) الإحلال البسيط

(ب) ما النتائج المترتبة على كل من :
(١) تلامس موصلان مشحونان لهما نفس الجهد الكهربي بواسطة ساق موصلة للكهرباء.
(٢) ترك مياسم أزهار نبات البازلاء دون تغطية أثناء دراسة منزل لصفاته الوراثية.
(٣) انعدام أو ضعف قوى التجاذب في الذرة بين النواة والإلكترونات مستوى الطاقة الخارجي.
(٤) فشل الجين في إنتاج الإنزيم الخاص به.

(جـ) إذا كان لديك المواد الآتية :
[حمض الهيدروكلوريك – نترات الفضة – كربونات الصوديوم – كلوريد الصوديوم]
وضح بالمعادلات الرمزية الموزونة فقط كيف يمكن الحصول على :
(١) راسب أبيض.
(٢) غاز يعكر ماء الجير الرائق.

أجب عن جميع الأسئلة الآتية :

(أ) اختر الإجابة الصحيحة مما بين القوسين :
(١) عند تسخين كبريتات النحاس بالحرارة تتكون مادة لونها .....
(أصفر / أزرق / أحمر / أسود)
(٢) تتحكم الجينات في إظهار الصفات الوراثية للكائن بإنتاج .....
(هرمونات / إنزيمات / مركبات كيميائية / فيتامينات)
(٣) الكمية الكهربية التي تمر خلال مقطع من موصل في الثانية الواحدة بوحدة .....
(الكولوم / الأمبير / الفولت / الأوم)
(٤) هرمون ..... يحفز تخزين سكر الجلوكوز في خلايا الكبد.
(الكالسيتونين / الثيروكسين / الأدرينالين / الإنسولين)

(ب) وضح بالمعادلات الرمزية الموزونة (بدون شرح) كل من :
(١) إضافة محلول نترات الفضة إلى محلول كلوريد الصوديوم.
(٢) إمرار غاز الهيدروجين على أكسيد النحاس مع التسخين.
(٣) وضع قطعة صغيرة من الصوديوم في الماء.
(٤) تفاعل ملح كربونات الصوديوم مع حمض الهيدروكلوريك المخفف.

(جـ) تزوج رجل وامرأة وأنجبا ولدين وبنتين نصفهم ذو شعر مجعد والنصف الآخر ذو شعر ناعم فسر ذلك على أساس وراثية. علمًا بأن صفة الشعر المجعد (G) سائدة على صفة الشعر الناعم (g).

(أ) أكمل العبارات الآتية بما يناسبها :
(١) أول ما يتأثر من أنسجة جسم الإنسان بالإشعاع هو .....
(٢) يطلق على المادة التي تقلل من الطاقة اللازمة لحدوث التفاعل .....
(٣) من الصفات الوراثية السائدة التي تظهر في الإنسان .....
(٤) يتسبب ..... بإفراز هرمون الجلوكاجون عند انخفاض مستوى السكر في الدم.

(ب) الشكل البيانى المقابل يوضح التغير فى تركيز المتفاعلات والنواتج للتفاعل المعبر عنه بالمعادلة الآتية :

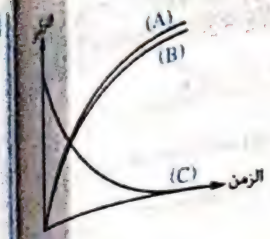

$$CuSO_4 \xrightarrow{\Delta} CuO + SO_3 \uparrow$$

(١) حدد أى المنحنيات (A)، (B)، (C) يعبر عن :

١- أكسيد النحاس. ٢- كبريتات النحاس.

٣- غاز ثالث أكسيد الكبريت.

(٢) ما نوع هذا التفاعل ؟

(جـ) عرف كلًا من :

(١) قانون أوم. (٢) سرعة التفاعل الكيميائى.

٣ (أ) صوب ما تحته خط :

(١) تزداد سرعة التفاعل الكيميائى بزيادة تركيز المتفاعلات حيث يقلل من مساحة السطح بين الجزيئات.

(٢) يصل الهرمون من موضع إفرازه إلى الخلايا المستهدفة عن طريق الجلد.

(٣) تكافؤ الصوديوم أحادى حيث يكتسب أيون واحد مكونًا أيون صوديوم موجب.

(٤) يمكن التحكم فى قيمة شدة التيار وفرق الجهد المار فى الدائرة باستخدام الفولتميتر.

(ب) اكتب المصطلح العلمى الدال على كل عبارة من العبارات الآتية :

(١) تفاعل حمض مع قلوى لتكوين ملح وماء.

(٢) عملية التحول التلقائى (الطبيعى) لأنوية ذرات بعض العناصر المشعة كمحاولة للوصول إلى تركيب أكثر استقرارًا.

(٣) حالة الموصل الكهربية التى تبين انتقال الكهربية منه أو إليه إذا ما وصل بموصل آخر.

(٤) تركيب حيوى يتكون من الحمض النووى الذى يحمل المعلومات الوراثية للكائن الحى وبروتين.

(جـ) قارن بين التيار الكهربى المتردد و التيار الكهربى المستمر «من حيث : مصدر كل منهما»

٤ (أ) علل لما يأتى :

(١) المركبات الأيونية تكون سريعة فى تفاعلاتها.

(٢) يُفضل استخدام التيار الكهربى المتردد عن التيار الكهربى المستمر غالبًا.

(٣) قام مندل بزراعة نباتات بازلاء تنتج بذور صفراء لعدة أجيال وذلك بالتلقيح الذاتى لها.

(٤) قد يحدث توقف لنمو الجسم ويصبح الشخص قزمًا بعد البلوغ.

(ب) فى الدائرة الموضحة بالشكل المقابل، إذا كانت كمية الكهربية التى تمر فى الدائرة خلال ٢٠ ثانية هى ١٠ كولوم :

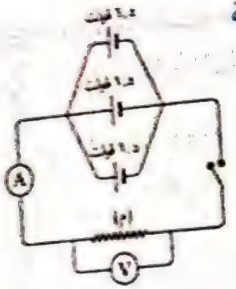

(١) اختر : الإجراء اللازم اتخاذه لكى يعطى الأميتر قراءة هو .....

(غلق المفتاح / تغيير المقاومة / تعديل البطارية)

(٢) أوجد : ١- قراءة الأميتر. ٢- قراءة الفولتميتر.

٣- قيمة المقاومة (م).

(جـ) اكتب الصيغة الكيميائية لكلٍّ من :

(١) غاز خامس أكسيد النيتروجين. (٢) غاز كلوريد الهيدروجين.

١٤ محافظة السويس — الفصل الدراسى الثانى

أجب عن جميع الأسئلة الآتية :

(أ) أكمل العبارات الآتية بما يناسبها :

(١) تحل بعض الفلزات محل ..... الماء وينتج هيدروكسيد الفلز.

(٢) تنقسم مصادر التلوث الإشعاعى إلى نوعين هما : ..... و .....

(٣) الصفة التى تظهر فى جميع أفراد الجيل الأول فى تجارب مندل هى .....

(ب) (١) ماذا يحدث فى الحالات التالية :

١- تسخين كمية من كبريتات النحاس الزرقاء.

٢- حصل فرد على جين متنحى من كلا الأبوين.

(٢) ما أهمية : ١- الحمض النووى DNA ٢- الغدد الصماء.

(جـ) إذا تم بذل شغل قدره ٣٦٠٠ جول لنقل شحنة كهربية مقدارها ٦٠٠ كولوم بين نقطتين فى زمن قدره ٥ دقيقة، احسب :

(١) شدة التيار. (٢) فرق الجهد بين النقطتين.

(أ) صوب ما تحته خط :

(١) تحل نترات الصوديوم عند تسخينها إلى نيتريت الصوديوم ويتصاعد غاز النيتروجين.

(٢) الفرد النقى يحمل زوج من العوامل الوراثية غير المتشابهة للصفة.

(٣) يفرز البنكرياس هرمون **الإنسولين** عندما ينخفض مستوى السكر فى الدم.

(٤) تفاعلات المركبات الأيونية تكون **أبطأ** من تفاعلات المركبات التساهمية.

(ب) (١) علل لما يأتى :

١- يتكون راسب أبيض عند إضافة محلول نترات الفضة إلى محلول كلوريد الصوديوم.

٢- اختيار مندل لنبات البازلاء لإجراء تجاربه. (بكتفى بنقطتين)

(٢) من الأشكال التالية، أجب عما يأتى :

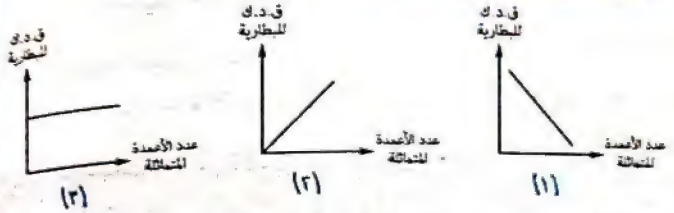

١- الشكل ..... يمثل توصيل أعمدة متماثلة على التوالى.

٢- الشكل ..... يمثل توصيل أعمدة متماثلة على التوازى.

(جـ) من الشكلين المقابلين، أجب عما يأتى :

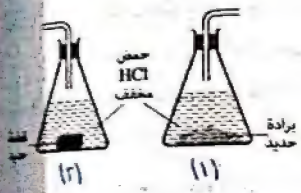

(١) أيهما أسرع ... التفاعل فى الشكل (١)

أم التفاعل فى الشكل (٢) ؟

(٢) ماذا يحدث عند استبدال الحديد بالنحاس ؟

(أ) اختر الإجابة الصحيحة مما بين القوسين :

(١) أيًا من العناصر الآتية هو الأكثر نشاطًا فى متسلسلة النشاط الكيميائى ؟ .....

(الذهب / الهيدروجين / الصوديوم / الألومنيوم)

(٢) شدة التيار الكهربى المار فى موصل مقاومته ١ أوم عندما يكون فرق الجهد بين طرفيه ١ فولت هو ..... (الأوم / الأمبير / الكولوم / الفولت)

(٣) هرمون ..... مسئول عن ظهور الصفات الجنسية الثانوية الأنثوية.

(الإستروجين / التستوستيرون / الأدرينالين / الثيروكسين)

(٤) فى بداية التفاعل الكيميائى تكون نسبة تركيز المتفاعلات .....

(صفر / ٢٥٪ / ٥٠٪ / ١٠٠٪)

(ب) (١) عند تلقيح نبات بازلاء طويل الساق نقى مع نبات بازلاء قصير الساق نتجت نباتات جميعها طويلة الساق. **استخدم الرموز فى التعبير عن ناتج هذا التلقيح**

(٢) أكمل المعادلات الآتية :

$$(1)\ H_2 + CuO \xrightarrow{\Delta} \ldots\ldots + H_2O$$

$$(2)\ Na_2CO_3 + 2HCl \xrightarrow{\text{مخفف}} \ldots\ldots + H_2O + \ldots\ldots$$

(جـ) ما المقصود بكل من :

(١) العامل الحفاز. (٢) ظاهرة النشاط الإشعاعى.

(أ) اكتب المصطلح العلمى الدال على كل عبارة من العبارات الآتية :

(١) عملية كيميائية تكتسب فيها ذرة العنصر إلكترونًا أو أكثر.

(٢) تدفق الشحنات الكهربية السالبة (الإلكترونات) فى مادة موصل (سلك معدنى).

(٣) تفاعل حمض مع قلوى لتكوين ملح و ماء.

(٤) غدة تفرز هرمون الكالسيتونين.

(ب) قارن بين كل من :

(١) التيار الكهربى المتردد و التيار الكهربى المستمر. (بكتفى بنقطتين)

(٢) الصفات الوراثية و الصفات المكتسبة.

(جـ) من الدائرة الكهربية المقابلة،

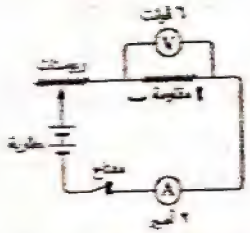

أكمل ما يأتى :

(١) نوع المقاومة أ ب .....

(٢) قيمة المقاومة أ ب

= ..... أوم.

محافظة بورسعيد — الفصل الدراسى الثانى

أجب عن جميع الأسئلة الآتية :

(أ) أكمل العبارات الآتية :

(١) يقاس ..... باستخدام جهاز الفولتميتر ويقدر بوحدة .....

(٢) يتركب الكروموسوم كيميائيًا من حمض نووى يسمى ..... مرتبط مع .....

(٣) يتولد تيار كهربى من الدينامو نتيجة تحويل الطاقة ..... إلى طاقة .....

(٤) اختار مندل نبات البسلة لإجراء تجاربه لسهولة ..... و ..... دورة حياته.

(ب) قارن بين كل من :
(١) المركبات الأيونية و المركبات التساهمية «من حيث : سرعة التفاعل».
(٢) القزامة و العملقة «من حيث : سبب الحدوث».

(جـ) احسب فرق الجهد بين طرفى مكنسة كهربائية مقاومتها ٢٢ أوم وشدة التيار المار فيها ١٠ أمبير.

٢ (أ) اكتب المصطلح العلمى الدال على كل عبارة من العبارات الآتية :
(١) التغير فى تركيز المواد المتفاعلة والمواد الناتجة من التفاعل فى وحدة الزمن.
(٢) تفاعل يحدث فيه إحلال فلز محل آخر فى محلول أحد أملاحه.
(٣) تدفق شحنات كهربية سالبة فى موصل معدنى.
(٤) التحول التلقائى لأنوية ذرات بعض العناصر المشعة الموجودة فى الطبيعة كمحاولة للوصول إلى تركيب أكثر استقرارًا.

(ب) ضع علامة (✓) أمام العبارة الصحيحة، وعلامة (✗) أمام العبارة الخطأ :
(١) عند تلقيح نبات بازلاء قصير الساق نقى مع آخر طويل الساق هجين تنتج نباتات جميعها قصيرة الساق. ( )
(٢) تفاعلات الأكسدة والاختزال تحدث كل منها منفردة. ( )
(٣) تحتوى البطاطا على إنزيم الأوكسيديز الذى يعمل كعامل حفاز. ( )
(٤) من الصفات السائدة فى الإنسان شحمة الأذن المنفصلة. ( )

(جـ) لديك ٤ أعمدة كهربية متماثلة القوة الدافعة الكهربية لكل منها ١,٥ فولت. وضح بالرسم كيفية توصيلها معًا للحصول على بطارية القوة الدافعة الكهربية لها ٣ فولت بطريقتين مختلفتين.

٣ (أ) اختر الإجابة الصحيحة مما بين القوسين :
(١) يقوم هرمون ..... بإطلاق الطاقة اللازمة للجسم من المواد الغذائية.
(النمو / الإستروجين / الثيروكسين / الأدرينالين)
(٢) اكتشفت ظاهرة النشاط الإشعاعى بواسطة العالم .....
(أوم / بيكوريل / أمبير / مندل)
(٣) يفرز هرمون الإنسولين من .....
(الكبد / البنكرياس / الغدة الدرقية / الغدة النخامية)
(٤) من خصائص التيار الكهربى المتردد إنه .....
(ثابت الشدة / متغير الاتجاه فقط / متغير الشدة والاتجاه / متغير الشدة فقط)

(ب) عرف : (١) الصفات المكتسبة. (٢) الأمشاج.
(٣) تفاعل التعادل. (٤) الاختزال.

(جـ) اكتب المعادلات الرمزية الموزونة التى تعبر عن تسخين كبريتات النحاس ثم إمرار غاز الهيدروجين على الناتج.

٤ (أ) اختر من العمود (B) ما يناسبه من العمود (A) :

(A)	(B)
(١) يستخدم للتحكم فى المقاومة الكهربية فى الدائرة	(١) يتكون راسب أحمر.
(٢) عند إضافة خراطة النحاس إلى حمض الهيدروكلوريك المخفف	(٢) يتكون راسب أبيض.
(٣) جهاز يستخدم لقياس شدة التيار الكهربى	(٣) الريوستات.
(٤) عند إحلال الماغنسيوم محل النحاس فى محلول أحد أملاحه	(٤) لا يحدث تفاعل.
	(٥) الأميتر.

(ب) صوب ما تحته خط :
(١) وحدة قياس القوة الدافعة الكهربية هى الكولوم.
(٢) مقاومة الموصل الذى يسرى فيه تيار كهربى شدته ١ أمبير عندما يكون فرق الجهد بين طرفيه ١ فولت تكون ١٠ أوم.
(٣) يسمى القانون الأول لمندل بقانون التوزيع الحر للعوامل.
(٤) انتزع مندل الأسدية من أزهار نباتات البازلاء قبل نضج متوكها حتى لا يحدث تلقيح خلطى.

(جـ) كيف يمكن التمييز بين محلول كبريتات النحاس و محلول كبريتات الماغنسيوم، باستخدام قطعة من الخارصين ؟

١٦ محافظة كفر الشيخ — الفصل الدراسى الثانى

أجب عن جميع الأسئلة الآتية :

١ (أ) أكمل ما يأتى :
(١) يتحول لون كربونات النحاس الأخضر إلى اللون ..... بالتسخين.
(٢) توصل العلماء إلى أن ..... هى أجزاء من DNA موجودة بالكروموسومات.
(٣) تتكون الغدة ..... من فصين وتتواجد فى الجزء الأمامى للعنق.
(٤) $Zn + 2HCl \longrightarrow ZnCl_2 +$ .....

(ب) علل لما يأتي:

(١) يتأثر الأوسميوم عملياً في تفاعله مع حمض الهيدروكلوريك المخفف.

(٢) تزيد الأمصاص يحتفظها لمدة زمنية طويلة.

(٣) اختيار معدل لثبات البلاتا لإجراء تجاربه.

(٤) تكون التفاعلات بين المركبات الأيونية سريعة.

(جـ) اذكر الاكتشاف الذي اكتشفه العالم الفرنسي هنري بيكوريل وبه عُرف النشاط الإشعاعي للمرة الأولى.

---

٢ (أ) اختر الإجابة الصحيحة مما بين القوسين:

(١) تكون نسبة الصفات المتنحية في الجيل الأول الناتج من تزاوج أبوين أحدهما يحمل صفة سائدة نقية و الآخر يحمل صفة متنحية .....

(٢٥٪ / ٥٠٪ / ٧٥٪ / صفر)

(٢) في الدائرة الكهربية يمكن استخدام الريوستات المتزلق في كل مما يلي، عدا ..... قيمة المقاومة. (تغيير / قياس / تكبير / تقليل)

(٣) عنصر الزنك أنشط كيميائياً من عنصر .....

(البوتاسيوم / الهيدروجين / الصوديوم / الماغنسيوم)

(٤) لا يمكن السيطرة على التفاعلات النووية في .....

(التفاعلات النووية / المعامل الطبية / التوربينات / القنابل الذرية)

(ب) اذكر مثال واحد لكل من:

(١) مركب كيميائي ينحل بالحرارة.

(٢) مصدر للتيار الكهربي.

(٣) استخدام سلمي للطاقة النووية.

(٤) صفة وراثية سائدة.

(جـ) اذكر اسم الغدة التي تُعرف باسم سيدة الغدد الصماء في جسم الإنسان. ثم اذكر أهميتها.

---

٣ (أ) اكتب المصطلح العلمي الدال على كل عبارة من العبارات الآتية:

(١) الوحدة الدولية لقياس الإشعاع الممتص بواسطة الجسم البشري.

(٢) مادة تغير من سرعة التفاعل الكيميائي دون أن تتغير.

(٣) جهاز يستخدم في قياس شدة التيار المار في الدائرة الكهربية.

(٤) صفات غير قابلة للانتقال من جيل إلى آخر.

(ب) اذكر فائدة واحدة أو استخدام واحد فقط لكل من:

(١) التيار الكهربي المتردد. (٢) الفوتسيتر.

(٣) الوسادة الهوائية في السيارات. (٤) الصمام الكثوديشن.

(جـ) اكتب المعادلة الكيميائية التي تعبر عن تفاعل حمض الهيدروكلوريك مع هيدروكسيد الصوديوم.

---

٤ (أ) صوب ما تحته خط في العبارات الآتية:

(١) هرمون التستوستيرون هو المسئول عن ظهور الصفات الجنسية الثانوية في الأنثى.

(٢) اكسيد الزنك أيون فضي.

(٣) تتوقف سرعة التفاعل الكيميائي على تركيز المواد الناتجة من التفاعل.

(٤) يحول الديناموا الطاقة الضوئية إلى طاقة كهربية.

(ب) الشكلان المقابلان يوضحان التمثيل البياني لنوعي التيار الكهربي:

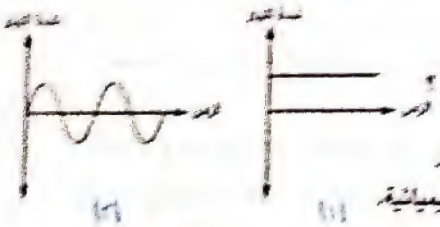

(١) ما نوع التيار في كلا من الشكلين؟

(٢) حدد أي من الشكلين يمثل:

١- تيار يمكن نقله لمسافات بعيدة.

٢- تيار ينتج من الخلايا الكهروكيميائية.

(جـ) اذكر اسم المرض الذي يصيب الإنسان نتيجة نقص إفراز هرمون الإنسولين.

١٧ محافظة البحيرة — الفصل الدراسي الثاني

أجب عن جميع الأسئلة الآتية:

١ (أ) اختر الإجابة الصحيحة مما بين القوسين:

(١) أيًا من المواد التالية لا تعطي ناتج أسود عند تسخينها؟ .....

($CuCO_3$ / $CuSO_4$ / $Cu(OH)_2$ / HgO)

(٢) جميع العناصر التالية تحل محل هيدروجين الحمض المخفف، عدا .....

(Al / Zn / Au / Pb)

(٣) جميع الوحدات التالية تستخدم لقياس شدة التيار الكهربي، عدا .....

(أمبير / جول/كولوم / كولوم/ثانية / فولت/أوم)

(٤) تفرز الغدة النخامية هرمون ..... الذي يعمل على ضبط معدل نمو العضلات والعظام. (النمو / الكالسيتونين / الأدرينالين / الإنسولين)

(ب) اذكر أهمية (أو استخدام) لكل من :

(١) المحولات الحفزية فى السيارات الحديثة.

(٢) القفازات والملابس التى يرتديها أخصائى الأشعة بالمستشفيات.

(٣) التيار الكهربى المتردد.

(٤) الجينات.

(جـ) إذا لزم بذل شغل قدره ٢٠ جول لنقل كمية من الكهربية مقدارها ٤٠ كولوم خلال سلك مقاومته ١٠ أوم، احسب شدة التيار الكهربى المار فى السلك.

٢ (أ) ما المقصود بكل من :

(١) الكروموسوم. (٢) الأمبير.

(٣) التيار الكهربى المستمر. (٤) المفهوم الإلكترونى لعملية الأكسدة.

(ب) ماذا يحدث عند :

(١) تلامس موصلان مشحونان وكان الجهد الكهربى لأحدهما أكبر من الجهد الكهربى للآخر.

(٢) ارتفاع مستوى سكر الجلوكوز فى الدم عن المستوى الطبيعى.

(٣) وضع قطعة صغيرة من الصوديوم فى كأس بها ماء.

(٤) تزاوج فردان نقيان مختلفان فى زوج من صفاتهما المتضادة.

(جـ) فى الدائرة الكهربية الموضحة بالشكل المقابل،

إذا كان فرق الجهد بين طرفى المقاومة يساوى القوة الدافعة الكهربية الكلية للأعمدة،

احسب شدة التيار الكهربى المار بالأميتر،

علمًا بأن القوة الدافعة الكهربية لكل عمود ١,٥ فولت والمقاومة الكهربية ٣ أوم.

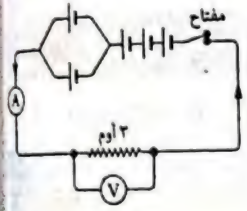

٣ (أ) اكتب المصطلح العلمى الدال على كل عبارة من العبارات الآتية :

(١) الخريطة الوراثية للجينات الموجودة بالكروموسومات البشرية.

(٢) الممانعة التى يلقاها التيار الكهربى أثناء مروره فى موصل.

(٣) الصفات غير القابلة للانتقال من جيل لآخر.

(٤) مواد كيميائية ينتجها جسم الكائن الحى تعمل كعوامل حفازة تزيد من سرعة التفاعلات البيولوجية (الحيوية).

(ب) صوب ما تحته خط فى العبارات الآتية :

(١) المركبات الأيونية تفاعلاتها سريعة لأنها تتفكك إلى جزيئات يسهل اشتراكها فى التفاعل.

(٢) وحدة قياس الشحنة الكهربية هى الفولت.

(٣) من الصفات المتنحية فى نبات البازلاء شكل القرن المنتفخ.

(٤) فى نهاية التفاعل الكيميائى تكون نسبة تركيز المتفاعلات ١٠٠ ٪

(جـ) قارن بين : تفاعلات الحفز الموجب و تفاعلات الحفز السالب.

٤ (أ) أكمل ما يأتى :

(١) ..... + ... $\xrightarrow{\Delta}$ $2NaNO_3$

(٢) تفرز الغدة الدرقية هرمون ..... المسئول عن ضبط مستوى الكالسيوم فى الدم.

(٣) ..... + ... $\longrightarrow$ $Mg + CuSO_4$

(٤) ..... معدل معظم التفاعلات الكيميائية بارتفاع درجة الحرارة.

(ب) علل لما يأتى :

(١) القدرة على لف اللسان من الصفات السائدة فى الإنسان.

(٢) تزداد مقاومة الموصل الكهربى بزيادة طوله.

(٣) ظهور لون فضى عند تسخين أكسيد الزئبق الأحمر.

(٤) تتكون مادة سوداء عند تسخين هيدروكسيد النحاس الأزرق.

(جـ) وضح على أسس وراثية ناتج تزاوج نبات طماطم ثماره حمراء اللون (Rr) مع نبات طماطم ثماره خضراء اللون (rr)، موضحًا صفات الجيل الناتج ونسبة الأفراد الناتجة.

١٨ محافظة الفيوم — الفصل الدراسى الثانى

أجب عن جميع الأسئلة الآتية :

١ (أ) أكمل العبارات الآتية بما يناسبها :

(١) يستخدم جهاز ..... لقياس شدة التيار الكهربى، بينما يستخدم جهاز ..... لقياس فرق الجهد الكهربى.

(٢) تنقسم مصادر التلوث الإشعاعى إلى مصادر ..... وأخرى .....

(٣) فى الوراثة المندلية يعتبر الشعر الناعم من الصفات ..... ، بينما غمازات الوجه من الصفات .....

(٤) يُفسر علم ..... كيفية انتقال الصفات الوراثية من ..... إلى الأبناء.

(ب) أعد كتابة العبارات الآتية بعد تصويب ما تحته خط :

(١) يُعرف تفاعل الحمض مع القلوى لتكوين ملح وماء بتفاعل الأكسدة.

(٢) تتحلل معظم كربونات الفلزات إلى الفلز وثانى أكسيد الكربون.

(٣) يدخل عنصر الحديد فى تركيب هرمون الثيروكسين.

(٤) تُفرز الهرمونات من الغدد القنوية.

(جـ) احسب كمية الكهربية المارة فى موصل مقاومته ١٠٠٠ أوم لمدة ٢٠ دقيقة إذا كان فرق الجهد بين طرفى الموصل يساوى ٢٢٠ فولت.

٣ (أ) اختر الإجابة الصحيحة مما بين القوسين :

(١) الكمية الفيزيائية التى تقاس بوحدة فولت/أمبير هى .....

(شدة التيار / المقاومة الكهربية / فرق الجهد / كمية الكهربية)

(٢) عند رفع درجة حرارة تفاعل كيميائى يزداد معدل التفاعل لزيادة .....

(مساحة السطح المعرض للتفاعل / عدد الجزيئات المتفاعلة / عدد التصادمات المحتملة بين الجزيئات المتفاعلة / لا يوجد إجابة صحيحة)

(٣) يتصاعد غاز الأكسجين عند انحلال مركب ..... بالحرارة.

($Cu(OH)_2$ / $CaSO_4$ / $CuCO_3$ / $NaNO_3$)

(٤) من خصائص التيار المستمر أنه .....

(ثابت الشدة فقط / متغير الاتجاه فقط / متغير الشدة والاتجاه / ثابت الشدة والاتجاه)

(ب) اكتب المصطلح العلمى الدال على كل عبارة من العبارات الآتية :

(١) المادة التى تفقد إلكترونًا أو أكثر أثناء التفاعل الكيميائى.

(٢) التغير فى تركيز المواد المتفاعلة والمواد الناتجة من التفاعل فى وحدة الزمن.

(٣) النبات الذى استخدمه مندل فى تجاربه.

(٤) يتركب كيميائيًا من حمض نووى يسمى DNA مندمجًا مع بروتين.

(جـ) لديك ثلاثة أعمدة كهربية متماثلة، ق.د.ك لكل منها ٢ فولت،
وضح بالرسم فقط طريقة توصيلها معًا للحصول على بطارية ق.د.ك لها تساوى :

(١) ٦ فولت. (٢) ٢ فولت.

٤ (أ) استبدل الكلمة (أو العبارة) غير المناسبة، ثم اربط بين باقى الكلمات (أو العبارات) :

(١) الغدة النخامية / الغدة اللعابية / الغدة الدرقية / غدة البنكرياس.

(٢) سيدة الغدد الصماء / تتكون من فصين / الغدة النخامية / الغدة الدرقية.

(٣) الضغط / فرق الجهد / المقاومة الكهربية / شدة التيار.

(٤) الراديوم / اليورانيوم / الصوديوم / الزركونيوم.

(ب) اختر من العمود (B) ما يناسبه من العمود (A) :

(A)	(B)
(١) ثانى أكسيد المنجنيز	(١) تكون نقية دائمًا.
(٢) تفاعل الصوديوم مع الماء	(٢) غير قابلة للانتقال من جيل إلى آخر.
(٣) الصفة المكتسبة	(٣) عامل حفاز.
(٤) الصفة المتنحية	(٤) إحلال بسيط.
	(٥) ترسيب.

(جـ) وضح بمعادلات رمزية موزونة فقط :

(١) تفاعل محلول كلوريد الصوديوم مع محلول نترات الفضة.

(٢) أثر الحرارة على كبريتات النحاس.

٥ (أ) اذكر مثالًا واحدًا لكل مما يأتى :

(١) كمية فيزيائية تقاس بوحدة الأمبير.

(٢) استخدام غير سلمى للطاقة النووية.

(٣) تفاعل كيميائى بطىء جدًا.

(٤) تفاعل كيميائى سريع جدًا.

(ب) ضع علامة (✓) أمام العبارة الصحيحة، وعلامة (✗) أمام العبارة الخطأ، مع تصويب الخطأ :

(١) المقاومة الثابتة لا يمكن التحكم فيها على عكس الريوستات. ( )

(٢) يُقدر الإشعاع الممتص بواسطة الجسم البشرى بوحدة الكورى. ( )

(٣) يعرف القانون الثانى لمندل بقانون التوزيع الحر للعوامل. ( )

(٤) تعتبر العيون الواسعة والعيون الضيقة من الصفات الوراثية فى الإنسان. ( )

(جـ) ماذا يحدث فى الحالات الآتية :

(١) تقريب عود ثقاب مشتعل من فوهة أنبوبة بها أكسيد الزئبق الأحمر أثناء التسخين.

(٢) زيادة تركيز المواد المتفاعلة فى تفاعل ما.

أجب عن جميع الأسئلة الآتية :

١ (أ) أكمل ما يأتى بما يناسبه من الكلمات الموجودة بين القوسين :

[الإشعاع – الأمشاج – H_2O – الدينامو]

(١) يتحكم فى كل صفة وراثية عاملان وراثيان ينفصلان أثناء تكوين .....

(٢) السيفرت (Sv) هى الوحدة الدولية لقياس ..... الممتص بواسطة الجسم البشرى.

(٣) ..... يحول الطاقة الحركية إلى طاقة كهربية.

(٤) $NaOH + HCl \longrightarrow NaCl +$ .....

(ب) ضع علامة (✓) أمام العبارة الصحيحة، وعلامة (✗) أمام العبارة الخطأ :

(١) تحتوى البطاطا على إنزيم الأوكسيديز الذى يعمل كعامل حفاز. ( )

(٢) العامل المختزل هو المادة التى تكتسب إلكترونًا أو أكثر أثناء التفاعل الكيميائى. ( )

(٣) تنتقل الصفات المكتسبة من جيل لآخر. ( )

(٤) يستخدم الأرز المعدل جينيًا لحل مشكلة نقص ڤيتامين (أ) الناتج عن سوء التغذية. ( )

(جـ) إذا كان لديك أربعة أعمدة كهربية القوة الدافعة الكهربية لكل منها ١,٥ ڤولت، وضح بالرسم فقط كيف يمكنك توصيلها معًا للحصول على بطارية القوة الدافعة الكهربية لها:

(١) ٤,٥ ڤولت. (٢) ٦ ڤولت.

٢ (أ) اكتب المفهوم العلمى الدال على كل عبارة من العبارات الآتية :

(١) التغير فى تركيز المواد المتفاعلة والمواد الناتجة من التفاعل فى وحدة الزمن.

(٢) علبة معدنية توجد فى السيارات الحديثة لمعالجة الغازات الضارة الناتجة من احتراق الوقود قبل طردها.

(٣) شدة التيار الناتج عن مرور كمية من الكهرباء مقدارها واحد كولوم عبر مقطع من موصل فى زمن قدره واحد ثانية.

(٤) مقاومة الموصل الكهربى الذى يسرى فيه تيار كهربى شدته ١ أمبير عندما يكون فرق الجهد بين طرفيه ١ ڤولت.

(ب) صوب ما تحته خط فى العبارات الآتية :

(١) يتحكم بكل صفة وراثية فى الكائن الحى عاملان وراثيان يكونان متشابهان فى الفرد الهجين.

(٢) يعرف القانون الثانى لمندل بقانون انعزال العوامل.

(٣) تفاعل حمض الهيدروكلوريك مع برادة الحديد أسرع من تفاعله مع قطعة حديد مساوية لها فى الكتلة لزيادة التركيز.

(٤) التفاعلات التى تحدث فى باطن الأرض لتكوين البترول تحتاج لعدة شهور.

(جـ) إذا كان مقدار الشغل المبذول لنقل شحنة كهربية مقدارها ٣٠ كولوم بين نقطتين يساوى ٣٣٣٠ جول، احسب فرق الجهد بين النقطتين.

٣ (أ) اذكر أهمية واحدة لكل من :

(١) الريوستات المنزلق. (٢) المفاعلات النووية.

(٣) هرمون الأدرينالين. (٤) هرمون الجلوكاجون.

(ب) اختر الإجابة الصحيحة مما بين القوسين :

(١) عند إضافة مسحوق ثانى أكسيد المنجنيز إلى محلول فوق أكسيد الهيدروجين فإن كمية ثانى أكسيد المنجنيز .....

(تزداد / تقل / تؤثر على بدء التفاعل الكيميائى / لا تتغير)

(٢) ..... يتركب كيميائيًا من حمض نووى يسمى DNA مرتبطًا مع بروتين.

(السيتوبلازم / الجين / الكروموسوم / لا توجد إجابة صحيحة)

(٣) من الصفات المتنحية فى الإنسان .....

(وجود الغمازات / العيون الضيقة / العيون الواسعة / الشعر المجعد)

(٤) عند حدوث انخفاض سريع ومفاجئ فى سرعة السيارة تنحل مادة أزيد الصوديوم ويتصاعد غاز ..... (CO_2 / O_2 / H_2 / N_2)

(جـ) علل: المركبات الأيونية أسرع فى تفاعلاتها من المركبات التساهمية.

٤ (أ) ماذا يحدث عند :

(١) تسخين أكسيد الزئبق «مع كتابة معادلة التفاعل الرمزية الموزونة».

(٢) توصيل موصلين مشحونين ومختلفين فى الجهد الكهربى.

(٣) تعرض الإنسان لجرعة إشعاعية كبيرة خلال فترة زمنية قصيرة.

(٤) وضع قطعة صغيرة جدًا من الصوديوم فى الماء.

(ب) اختر من العمود (B) ما يناسبه من العمود (A)، وأعد كتابة العبارة كاملة :

(A)	(B)
(١) تنحل نترات الصوديوم بالحرارة	(١) د. على مصطفى مشرفة.
(٢) يحل الألومنيوم محل هيدروجين الحمض المخفف	(٢) وتنتج مادة لونها أبيض مصفر ويتصاعد غاز الأكسجين.
(٣) عالم مصرى له نظريات فى مجال الذرة والإشعاع	(٣) العالم مندل.
(٤) يرجع اكتشاف ظاهرة النشاط الإشعاعى إلى	(٤) ويتكون ملح الحمض ويتصاعد غاز الهيدروجين.
	(٥) العالم هنرى بيكوريل.

(جـ) ادرس الشكلين المقابلين، ثم أجب عما يلى :

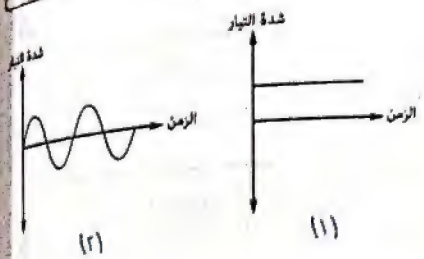

(١) ما نوع التيار الذى يمثله الشكل (١) ؟

(٢) أيًا من الشكلين يمثل تيار يمكن نقله لمسافات بعيدة ؟

٢٠ محافظة سوهاج — الفصل الدراسى الثانى

أجب عن جميع الأسئلة الآتية :

١ (أ) أكمل العبارات الآتية :

(١) يستخدم جهاز ..... لقياس شدة التيار الكهربى.

(٢) ..... هى الممانعة التى يلقاها التيار الكهربى أثناء مروره فى موصل.

(٣) ..... أجزاء من DNA موجودة بالكروموسومات وتتحكم فى الصفات الوراثية للفرد.

(٤) ..... صفات غير قابلة للانتقال من جيل لآخر.

(ب) اختر من العمود (B) ما يناسبه من العمود (A) :

(A)	(B)
(١) العامل الحفاز	(١) كسر الروابط الموجودة فى جزيئات المواد المتفاعلة وتكوين روابط جديدة فى جزيئات المواد الناتجة من التفاعل.
(٢) التفاعل الكيميائى	(٢) الهرمون المسئول عن ظهور الصفات الجنسية الثانوية الذكرية.
(٣) الهرمون	(٣) مادة تغير من معدل التفاعل الكيميائى دون أن تتغير.
(٤) التستوستيرون	(٤) مادة كيميائية تضبط وتنظم معظم الأنشطة والوظائف الحيوية فى أجسام الكائنات الحية.
	(٥) تفاعل يتم فيه إحلال عنصر محل عنصر آخر فى محلول أحد مركباته.

(جـ) بطارية مكونة من ثلاثة أعمدة القوة الدافعة الكهربية لكل عمود ٢ فولت، احسب القوة الدافعة الكهربية إذا وصلت أعمدتها على التوازى ؟

٢ (أ) اكتب المصطلح العلمى الدال على كل عبارة من العبارات الآتية :

(١) ترتيب العناصر الفلزية ترتيبًا تنازليًا حسب درجة نشاطها الكيميائى.

(٢) التغير فى تركيز المواد الناتجة من التفاعل فى وحدة الزمن.

(٣) تتناسب شدة التيار الكهربى المار فى موصل ما تناسبًا طرديًا مع فرق الجهد بين طرفيه عند ثبوت درجة الحرارة.

(٤) عملية التحول التلقائى لأنوية ذرات بعض العناصر المشعة الموجودة فى الطبيعة كمحاولة منها للوصول إلى تركيب أكثر استقرارًا.

(ب) اختر الإجابة الصحيحة مما بين القوسين :

(١) عملية كيميائية ينتج عنها زيادة نسبة الأكسجين فى المادة أو نقص نسبة الهيدروجين فيها ..... (العامل المؤكسد / الأكسدة / الاختزال)

(٢) عند تفكك غاز خامس أكسيد النيتروجين يتصاعد غاز .....
(النيتروجين / ثانى أكسيد الكربون / الأكسجين)

(٣) يسمى القانون الثانى لمندل بقانون .....
(انعزال العوامل / كولوم / التوزيع الحر للعوامل الوراثية)

(٤) من الصفات السائدة فى الإنسان .....
(الشعر المجعد / العيون الضيقة / شحمة الأذن المتصلة)

(جـ) قارن بين التيار الكهربى المستمر و التيار الكهربى المتردد «من حيث : الاستخدام فقط».

٣ (أ) ضع علامة (✓) أمام العبارة الصحيحة، وعلامة (✗) أمام العبارة الخطأ :

(١) من أمثلة العناصر المشعة الطبيعية الراديوم واليورانيوم.

(٢) تتحول الطاقة الكيميائية إلى طاقة كهربية بواسطة الدينامو. ( )

(٣) الجويتر البسيط مرض يسببه نقص إفراز هرمون الثيروكسين. ( )

(٤) يُفرز البنكرياس هرمون الجلوكاجون لخفض مستوى السكر فى الدم. ( )

(ب) (١) استخرج الكلمة غير المناسبة من الكلمات الآتية : ( )

طبيعة المتفاعلات / تركيز المتفاعلات / تفاعلات التعادل / درجة حرارة التفاعل.

(٢) حدد فقط نوع العملية التى تحدث فى التفاعل التالى :

$$Cl_2 + 2e^- \longrightarrow 2Cl^-$$

(٣) أكمل المخطط المقابل الذى يوضح التلقيح بين نباتى بازلاء كلاهما بذوره صفراء هجين.

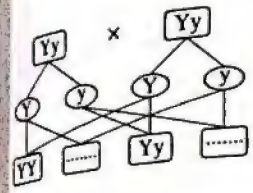

(جـ) وضح بمعادلة رمزية موزونة

تفاعل حمض الهيدروكلوريك مع هيدروكسيد الصوديوم.

---

٤ (أ) صوب ما تحته خط فى العبارات الآتية :

(١) الأشعة الكونية من المصادر الصناعية للتلوث الإشعاعى.

(٢) يوصل جهاز الڤولتميتر فى الدائرة الكهربية على التوالى.

(٣) تتحلل معظم كربونات الفلز عند تسخينها إلى الفلز ويتصاعد غاز ثانى أكسيد الكربون.

(٤) عند إضافة محلول نترات الفضة إلى محلول كلوريد الصوديوم يتكون راسب أزرق.

(ب) ضع الكلمات الموجودة بين القوسين فى أماكنها المناسبة فى العبارات الآتية :

[السيفرت Sv – الأوم – الفرد الهجين – مبدأ السيادة التامة – الڤولت]

(١) ..... هو مقاومة موصل يمر به تيار كهربى شدته ١ أمبير عندما يكون فرق الجهد بين طرفيه ١ ڤولت.

(٢) ..... هى الوحدة الدولية لقياس الإشعاع الممتص بواسطة الجسم البشرى.

(٣) ظهور صفة وراثية سائدة فى أفراد الجيل الأول عند تزاوج فردين يحمل كلاهما صفة وراثية نقية مضادة للصفة التى يحملها الفرد الآخر يسمى .....

(٤) ..... هو كائن حى يحمل صفة وراثية غير نقية.

(جـ) بم تفسر : المركبات التساهمية تكون بطيئة فى تفاعلاتها.

١ أجب عن جميع الأسئلة الآتية :

١ (أ) أكمل العبارات الآتية :

(١) يعرف القانون الأول لمندل بقانون .....

(٢) يتناسب فرق الجهد بين طرفى موصل تناسبًا ..... مع شدة التيار الكهربى المار فيه عند ثبوت درجة الحرارة.

(٣) يتركب الكروموسوم كيميائيًا من حمض نووى يسمى DNA مرتبط مع .....

(٤) تستخدم الطاقة ..... فى التنقيب عن البترول والمياه الجوفية.

(ب) ضع علامة (✓) أمام العبارة الصحيحة، وعلامة (✗) أمام العبارة الخطأ :

(١) يفرز المبيض هرمون البروجستيرون. ( )

(٢) الأكسدة والاختزال عمليتان منفصلتان. ( )

(٣) عندما تنخفض كمية الجلوكوز فى الدم يفرز البنكرياس هرمون الجلوكاجون. ( )

(٤) تفاعلات المركبات الأيونية سريعة. ( )

(جـ) لديك ثلاثة أعمدة كهربية متماثلة، القوة الدافعة الكهربية لكل منها ٢ ڤولت، وضح بالرسم فقط كيفية توصيلها معًا للحصول على بطارية القوة الدافعة الكهربية لها ٦ ڤولت.

---

٢ (أ) اكتب المصطلح العلمى الدال على كل عبارة من العبارات الآتية :

(١) كسر الروابط فى جزيئات المواد المتفاعلة وتكوين روابط جديدة فى جزيئات المواد الناتجة من التفاعل.

(٢) الممانعة التى يلقاها التيار الكهربى أثناء مروره فى موصل.

(٣) مادة كيميائية تغير من سرعة التفاعل الكيميائى دون أن تتغير.

(٤) جهاز يستخدم لقياس شدة التيار الكهربى المار فى الدائرة الكهربية.

(ب) صوب ما تحته خط فى العبارات الآتية :

(١) فى متسلسلة النشاط الكيميائى ترتب العناصر الفلزية ترتيبًا تنازليًا حسب أوزانها الذرية.

(٢) تعلم المشى لدى الأطفال من الصفات الوراثية.

(٣) يعد العالم مندليف مؤسس علم الوراثة.

(٤) الصيغة الكيميائية لغاز خامس أكسيد النيتروجين هى NO_2

(جـ) علل : تستخدم الثلاجة لحفظ الطعام.

٣ (أ) ادرس الشكلين الآتيين، ثم أجب عن المطلوب أسفل كل منهما :

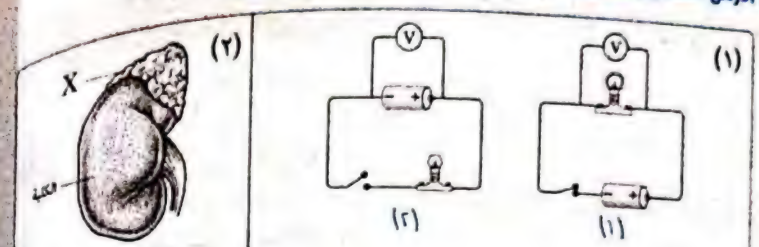

* فى الشكل (١) :
يستخدم الفولتميتر لقياس .....
* فى الشكل (٢) :
يستخدم الفولتميتر لقياس .....

* تسمى الغدة (X) بالغدة .....
* تفرز الغدة (X) هرمون .....

(ب) استخرج الكلمة (أو العبارة) غير المناسبة :

(١) الراديوم / الزركونيوم / الحديد / اليورانيوم.

(٢) شحمة الأذن المنفصلة / العيون الواسعة / وجود نمش بالوجه / وجود غمازات بالوجه.

(٣) تيار ينتج من المولدات الكهربية / تيار ثابت الشدة / تيار ثابت الاتجاه / تيار يستخدم فى عمليات الطلاء الكهربى.

(٤) الجينات أجزاء من DNA / توجد الجينات بالسيتوبلازم / كل جين يعطى إنزيم / الجينات تتحكم فى الصفات الوراثية.

(جـ) من التفاعل : $H_2 + CuO \xrightarrow{\Delta} Cu + H_2O$

حدد العامل المؤكسد و العامل المختزل.

٤ (أ) اختر من العمود (B) ما يناسبه من العمود (A) :

(A)	(B)
(١) يعتبر تفاعل الخارصين مع حمض الهيدروكلوريك المخفف	(١) السيفرت.
(٢) وحدة قياس الإشعاع الممتص بواسطة الجسم البشرى	(٢) الأوم.
(٣) من العوامل المؤثرة على سرعة التفاعل الكيميائى	(٣) تركيز المتفاعلات.
(٤) وحدة قياس المقاومة الكهربية	(٤) تفاعل إحلال بسيط.
	(٥) تفاعل تعادل.

(ب) اختر الإجابة الصحيحة مما بين الإجابات المعطاة :

(١) إذا مرت كمية من الكهربية مقدارها ٢٠ كولوم عبر مقطع من موصل فى زمن قدره ١٠ ثانية، فإن شدة التيار الكهربى تساوى ..... أمبير.

(أ) ٢٠٠ (ب) ٣٠ (جـ) ١٠ (د) ٢

(٢) طبقًا للقانون الثانى لمندل، فإن الصفات السائدة تظهر فى الجيل الثانى بنسبة ..... ٪

(أ) ١٠٠ (ب) ٧٥ (جـ) ٥٠ (د) ٢٥

(٣) ترجع التأثيرات ..... للإشعاع إلى تغير تركيب الكروموسومات الجنسية بالخلايا.

(أ) البدنية (ب) الوراثية
(جـ) الخلوية (د) جميع ما سبق

(٤) اكتشفا العالمان ..... كيفية تحكم الجينات فى إظهار الصفات الوراثية.

(أ) بيدل وتاتوم (ب) واطسون وكريك
(جـ) بيدل وكريك (د) واطسون وبيدل

(جـ) وضح بالمعادلة الرمزية الموزونة أثر الحرارة على نترات الصوديوم.

٢٢ محافظة الأقصر — الفصل الدراسى الثانى

أجب عن جميع الأسئلة الآتية :

١ (أ) أكمل ما يأتى :

(١) من استخدامات الطاقة النووية فى مجال ..... تحويل الرمال إلى شرائح سيليكون.

(٢) شحمة الأذن المنفصلة من الصفات ..... فى الإنسان.

(٣) يستخدم جهاز ..... لقياس المقاومة الكهربية.

(٤) يطلق على القانون الأول لمندل قانون .....

(ب) ما النتائج المترتبة على :

(١) تفاعل حمض الهيدروكلوريك مع هيدروكسيد الصوديوم.

(٢) نقص إفراز هرمون النمو أثناء مرحلة الطفولة.

(٣) إضافة عامل حفز سالب لتفاعل سريع.

(٤) إفراز البنكرياس لهرمون الإنسولين.

(جـ) لديك تيارين كهربيين أحدهما ناتج من خلية كهروكيميائية والآخر ناتج من مولد كهربى، أى التيارين أفضل ؟ ولماذا ؟

١ (أ) اختر الإجابة الصحيحة مما بين القوسين :

(١) يتصاعد غاز الأكسجين عند انحلال مركب ..... بالحرارة.
($CaOH_2$ / HgO / $CuCO_3$ / $CaSO_4$)

(٢) ..... هو الشحنة المنقولة بتيار كهربى ثابت شدته ١ أمبير فى الثانية الواحدة.
(الكولوم / الفولت / الجول / الفيم)

(٣) تفاعل حمض الهيدروكلوريك مع برادة حديد أسرع من تفاعله مع قطعة حديد مساوية لها فى الكتلة ويرجع ذلك إلى .....
(زيادة تركيز المتفاعلات / وجود عامل حفز / زيادة مساحة السطح المعرض للتفاعل / تساوى كل المتفاعلات)

(٤) يستخدم الريوستات المنزلق فى ..... بالدائرة الكهربية.
(قياس فرق الجهد / تغيير قيمة المقاومة / قياس شدة التيار / قياس القوة الدافعة الكهربية)

(ب) صوب ما تحته خط :

(١) يعتبر الهيدروجين عاملاً مؤكسداً فى التفاعل الآتى : $H_2 + CuO \xrightarrow{\Delta} Cu + H_2O$

(٢) النسبة المئوية لكل زوج من زوجى الصفات الموروثة فى أفراد الجيل الثانى تبعًا للقانون الأول لمندل هى ١ : ١

(٣) عند إضافة محلول نترات الفضة إلى محلول كلوريد الصوديوم يتكون راسب بنى.

(٤) يكون عاملا الصفة الوراثية مختلفين فى الفرد النقى.

(جـ) اشرح العلاقة بين التأثيرات الخلوية للإشعاعات النووية و هيموجلوبين الدم.

---

٢ (أ) اكتب المصطلح العلمى الدال على كل عبارة من العبارات الآتية :

(١) الوحدة الدولية لقياس الإشعاع الممتص بواسطة الجسم البشرى.

(٢) غدد لاقنوية تفرز الهرمونات فى مجرى الدم مباشرةً.

(٣) شدة التيار الكهربى المار فى موصل مقاومته ١ أوم عندما يكون فرق الجهد بين طرفيه ١ فولت.

(٤) حالة مرضية تنشأ نتيجة زيادة إفراز هرمون الثيروكسين.

(ب) (١) من المعادلة الكيميائية المقابلة، أجب عما يلى : $2\boxed{A} \xrightarrow{\Delta} 2NaNO_2 + \boxed{B}$

١- اكتب الصيغة الكيميائية للمادة $\boxed{A}$

٢- ما اسم الغاز $\boxed{B}$ ؟

(٢) استخدم الرموز فى التعبير عن ناتج التلقيح الذاتى لنبات بازلاء بشيره صفراء عجين، موضحًا التركيب الجينى لكل من: الآباء - الأمشاج - الجيل الأول - نسبة الأفراد الناتجة.

(جـ) أعطيتى الأكسدة و الاختزال عمليتان متلازمتان تحدثان فى وقت واحد. ناقش هذه العبارة.

---

٣ (أ) اذكر أهمية (أو استخدام) واحدة لكل من :

(١) التفاعلات الكيميائية. (٢) الوسادة الهوائية فى السيارات.

(٣) الاستخدام السلمى للطاقة النووية فى مجال الطب.

(٤) الأميتر.

(ب) (١) إذا كان لديك ثلاثة أعمدة كهربية القوة الدافعة الكهربية لكل منها ١,٥ فولت، وضح مع الرسم قيمة القوة الدافعة الكهربية الكلية للبطارية، إذا وصلت أعمدتها معًا :

١- على التوالى. ٢- على التوازى.

(٢) استخدم الرموز فى التعبير عن ناتج تزاوج رجل ذو شعر أسود (Bb) وامرأة ذات شعر فاتح (bb)، موضحًا التركيب الجينى لكل من : الآباء - الأمشاج - الجيل الأول.

(جـ) علل : إضافة مسحوق ثانى أكسيد المنجنيز إلى محلول فوق أكسيد الهيدروجين.

٤ محافظة مطروح — الفصل الدراسى الثانى

أجب عن جميع الأسئلة الآتية :

١ (أ) اختر الإجابة الصحيحة مما بين الإجابات المعطاة :

(١) تتحد كبريتات النحاس إلى أكسيد النحاس و .....
(أ) ثانى أكسيد الكبريت. (ب) ثالث أكسيد الكبريت.
(جـ) الأكسجين. (د) الكبريت.

(٢) تبعًا للقانون الثانى لمندل فإن الصفات الوراثية تورث .....
(أ) مستقلة. (ب) غير مستقلة. (جـ) مترابطة. (د) مجمعة.

(٣) عندما تفقد ذرة الصوديوم إلكترون مستوى طاقتها الخارجى، فإنها .....
(أ) تتأكسد فقط. (ب) تعتبر عامل مختزل فقط.
(جـ) تتأكسد وتعتبر عامل مختزل. (د) تختزل فقط.

(٤) اكتشف العالم ..... ظاهرة النشاط الإشعاعى.
(أ) أوم (ب) أمبير (جـ) بيكوريل (د) مندل

(٥) يستخدم جهاز الأوميتر فى قياس .....

(أ) الجهد الكهربى. (ب) شدة التيار الكهربى.

(جـ) كمية الكهربية. (د) المقاومة الكهربية.

(ب) علل لما يأتى :

(١) رغم أن الألومنيوم يسبق الخارصين فى متسلسلة النشاط الكيميائى إلا أنه يتأخر عنه عمليًا فى التفاعل مع حمض الهيدروكلوريك المخفف.

(٢) يفضل استخدام التيار الكهربى المتردد عن التيار الكهربى المستمر.

(٣) يطلق على بعض العناصر اسم العناصر المشعة.

(جـ) فى الشكل المقابل، إذا كانت كمية الكهربية المارة خلال زمن قدره ٦٠ ثانية هى ٣٠ كولوم، احسب :

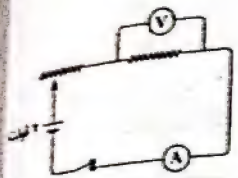

(١) قراءة الأميتر (A).

(٢) مقاومة السلك (م).

---

٣ (أ) أكمل ما يأتى :

(١) يتفاعل فلز الصوديوم مع الماء وينتج هيدروكسيد صوديوم ويتصاعد غاز .....

(٢) كل جين يعطى ..... خاصًا يكون مسئولًا عن حدوث تفاعل كيميائى معين.

(٣) التفاعل بين المركبات الأيونية ..... من التفاعل بين المركبات التساهمية.

(٤) الصفات ..... غير قابلة للانتقال من جيل إلى آخر.

(٥) $2N_2O_5 \longrightarrow$ ..... $+ O_2$

(ب) اذكر استخدامًا (أو أهمية) واحدًا لكل من :

(١) المقاومة المتغيرة (الريوستات).

(٢) الطاقة النووية فى مجال الصناعة.

(٣) إنزيم الأوكسيديز فى البطاطا.

(جـ) من الشكلين المقابلين :

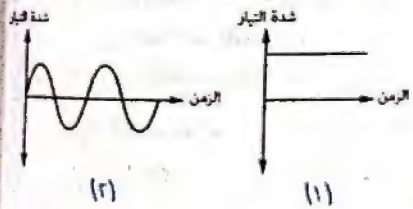

(١) ما نوع التيار الكهربى الذى يمثله كل شكل بيانى ؟

(٢) اذكر مصدر كل من التيارين.

(أ) اكتب المصطلح العلمى الدال على كل عبارة من العبارات الآتية :

(١) تفاعل حمض مع قلوى لتكوين ملح وماء.

(٢) مقاومة موصل كهربى يمر خلاله تيار كهربى شدته ١ أمبير عندما يكون فرق الجهد بين طرفيه ١ فولت.

(٣) تكون كيميائيًا من حمض نووى DNA مرتبطًا مع بروتين.

(٤) ترتيب العناصر الفلزية ترتيبًا تنازليًا حسب درجة نشاطها الكيميائى.

(٥) مواد كيميائية تستخدم لتنظيم أغلب التفاعلات البيولوجية فى جسم الكائن الحى.

(ب) قارن بين كل من :

(١) التأثيرات البيئية و التأثيرات الوراثية للتلوث الإشعاعى «من حيث : ذكر مثال».

(٢) إضافة الخارصين إلى حمض الهيدروكلوريك المخفف و إضافة النحاس إلى حمض الهيدروكلوريك «بالمعادلات فقط».

(جـ) إذا تزاوج فأر أسود اللون (BB) من أنثى بنية اللون (bb).

وضح على أسس وراثية ألوان ونسب أعداد الفئران الناتجة فى الجيل الأول.

---

٤ (أ) أعد كتابة العبارات الآتية بعد تصويب ما تحته خط :

(١) عند تسخين هيدروكسيد النحاس (II) يتكون نحاس و هيدروجين.

(٢) اختار مندل عشر صفات وراثية فى نبات البسلة لإجراء تجاربه.

(٣) تمكن العالمان بيدل و تاتوم من وضع نموذج لجزىء DNA

(٤) عند استخدام ٣ جرام من عامل مساعد فى تفاعل ما، فإن كتلة العامل الحفاز بعد انتهاء التفاعل تكون أقل من ٣ جرام.

(٥) تتحول الطاقة الكيميائية إلى طاقة كهربية بواسطة الدينامو.

(ب) ماذا يحدث فى الحالات الآتية :

(١) زيادة تركيز المواد المتفاعلة «بالنسبة لسرعة التفاعل الكيميائى».

(٢) إضافة محلول نترات الفضة إلى محلول كلوريد الصوديوم «موضحًا إجابتك بالمعادلة فقط».

(٣) تسخين أكسيد الزئبق الأحمر «بالنسبة للون الناتج».

(جـ) لديك أربعة أعمدة كهربية متماثلة القوة الدافعة الكهربية لكل منها ١,٥ فولت.

وضح بالرسم كيفية توصيلها معًا للحصول على بطارية القوة الدافعة الكهربية لها :

(١) ١,٥ فولت. (٢) ٣ فولت.

أجب عن جميع الأسئلة الآتية :

١ (أ) اكتب المصطلح العلمى الدال على كل عبارة من العبارات الآتية :

(١) كمية الشحنة الكهربية المنقولة بتيار كهربى ثابت شدته ١ أمبير فى الثانية.
(٢) الصفات غير القابلة للانتقال من جيل إلى آخر.
(٣) عملية كيميائية تؤدى إلى نقص نسبة الأكسجين فى المادة.
(٤) الغدة المسئولة عن إفراز الهرمون المنظم لكمية الماء بالجسم.
(٥) عملية تحول تلقائى لأنوية ذرات بعض العناصر المشعة الموجودة فى الطبيعة كمحاولة للوصول إلى تركيب أكثر استقرارًا.

(ب) وضح بالمعادلات الكيميائية الرمزية الموزونة كلًا مما يأتى :

(١) تسخين هيدروكسيد النحاس الأزرق.
(٢) تفاعل قطعة صغيرة من الصوديوم مع الماء.

(جـ) اذكر أهمية (أو استخدامًا) واحدة لكل من :

(١) الطاقة النووية فى مجال الطب.
(٢) هرمون الأدرينالين.
(٣) جهاز الأوميتر.

---

٢ (أ) اختر الإجابة الصحيحة مما بين القوسين :

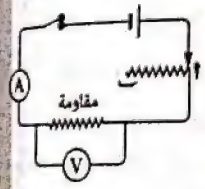

(١) فى الدائرة الكهربية المغلقة الموضحة بالشكل المقابل إذا تحرك زالق الريوستات من أ إلى ب فإن قراءة الفولتميتر .....
(تزداد / تقل / لا تتغير / تساوى القوة الدافعة الكهربية للبطارية)

(٢) جميع العناصر التالية تحل محل هيدروجين الحمض المخفف فى الظروف العادية عدا .....
(Al / Au / Fe / Zn)

(٣) اكتشفت ظاهرة النشاط الإشعاعى بواسطة العالم .....
(أمبير / مندل / أوم / بيكوريل)

(٤) هرمون ..... يحفز خلايا الكبد على إطلاق سكر الجلوكوز المختزن بها.
(الإستروجين / الإنسولين / الجلوكاجون / الكالسيتونين)

(٥) من الصفات السائدة فى الإنسان صفة .....
(العيون الواسعة / وجود النمش / الشعر الناعم / غياب غمازات الوجه)

(ب) قارن بين كل من :

(١) هرمون التستوستيرون و هرمون البروجستيرون «من حيث : الأهمية».
(٢) التيار الكهربى المتردد و التيار الكهربى المستمر «من حيث : المصدر».

(جـ) لديك ثلاثة أعمدة كهربية متماثلة، القوة الدافعة الكهربية لكل منها ١,٥ فولت.
وضح بالرسم التخطيطى كيفية توصيلها معًا للحصول على بطارية القوة الدافعة الكهربية لها :

(١) ١,٥ فولت.
(٢) ٣ فولت.
(٣) ٤,٥ فولت.

---

٣ (أ) أكمل ما يأتى :

(١) $2NaNO_3 \xrightarrow{\Delta}$ ..... $+ O_2\uparrow$
(٢) هرمون ..... يضبط معدل نمو العضلات والعظام بالجسم.
(٣) تفاعل حمض مع قلوى لتكوين ملح وماء يعرف بتفاعل .....
(٤) يُعرف القانون الثانى لمندل بقانون .....
(٥) فى التفاعل : $Cl_2 + 2e^- \longrightarrow 2Cl^-$
يعتبر الكلور عامل .....

(ب) ماذا يحدث فى الحالات الآتية :

(١) نقص أملاح اليود فى مياه وغذاء الإنسان.
(٢) وضع قطعة من البطاطا فى كأس بها محلول فوق أكسيد الهيدروجين.
(٣) تلامس موصلان مشحونان كهربيًا (أ) ، (ب) وكان الجهد الكهربى للموصل (أ) أقل من الجهد الكهربى للموصل (ب).

(جـ) وضح على أسس وراثية ناتج تزاوج نبات بازلاء أبيض الأزهار (rr) مع نبات آخر أحمر الأزهار (RR)، موضحًا التركيب الجينى لكل من : الآباء - الأمشاج - الجيل الأول - الجيل الثانى.

٤ (أ) صوب ما تحته خط :

(١) عند إضافة محلول نترات الفضة إلى محلول كلوريد الصوديوم يتكون راسب أصفر من كلوريد الفضة.

(٢) يتفكك غاز خامس أكسيد النيتروجين إلى غاز ثانى أكسيد النيتروجين وغاز النيتروجين.

(٣) تُفرز الهرمونات فى الجسم من أعضاء خاصة تسمى الغدد القنوية.

(٤) وحدة قياس الإشعاع الممتص بواسطة الجسم البشرى هى النيوتن.

(٥) تتحكم الجينات فى إظهار الصفات الوراثية للكائن الحى بإنتاج فيتامينات.

(ب) علل لما يأتى :

(١) عند تسخين كربونات النحاس الخضراء تتكون مادة سوداء.

(٢) تفاعلات المركبات الأيونية أسرع من تفاعلات المركبات التساهمية.

(٣) انتزع مندل أسدية بعض أزهار نباتات البازلاء قبل نضج متوكها أثناء إجراء تجاربه عليها.

(جـ) احسب كمية الكهربية المارة فى موصل مقاومته ٣ أوم لمدة دقيقة واحدة، إذا كان فرق الجهد بين طرفيه ٦ فولت.

٢٥ محافظة جنوب سيناء — الفصل الدراسى الثانى

أجب عن جميع الأسئلة الآتية :

١ (أ) اكتب المصطلح العلمى الدال على كل عبارة من العبارات الآتية :

(١) الصفة التى تظهر فى جميع أفراد الجيل الأول فى تجارب مندل.

(٢) خلايا تتحول فيها الطاقة الكيميائية إلى طاقة كهربية.

(٣) يتركب كيميائيًا من حمض نووى يسمى DNA مرتبطًا مع بروتين.

(٤) ارتفاع كمية الإشعاعات النووية وزيادة نوعيتها فى البيئة المحيطة بنا.

(ب) ما النتائج المترتبة على :

(١) ترك الطعام خارج الثلاجة لفترة طويلة.

(٢) نقص إفراز هرمون النمو فى مرحلة الطفولة.

(٣) إضافة حمض الهيدروكلوريك المخفف إلى قطعة من الخارصين.

(٤) نقص أملاح اليود فى مياه وغذاء الإنسان.

(جـ) احسب فرق الجهد بين طرفى مكنسة كهربائية مقاومتها ٢٢ أوم، وشدة التيار المار فيها ١٠ أمبير.

١ (أ) ضع علامة (✓) أمام العبارة الصحيحة، وعلامة (✗) أمام العبارة الخطأ :

(١) يعتبر تفاعل صدأ الحديد من التفاعلات السريعة، بينما تفاعل الألعاب النارية من التفاعلات البطيئة. ( )

(٢) فى الدينامو تتحول الطاقة الضوئية إلى طاقة كهربية. ( )

(٣) يستخدم الأميتر فى قياس شدة التيار الكهربى المار فى الدائرة الكهربية. ( )

(٤) تنحل معظم كربونات الفلزات عند تسخينها إلى الفلز وثانى أكسيد الكربون. ( )

(ب) أكمل ما يأتى :

(١) المادة التى تمنح الأكسجين أو تنتزع الهيدروجين أثناء التفاعل الكيميائى تسمى .....

(٢) مؤسس علم الوراثة هو العالم .....

(٣) المركبات التساهمية تكون تفاعلاتها بطيئة لأنها تتم بين .....

(٤) يتحكم فى كل صفة وراثية عاملان وراثيان، ينفصلان أثناء تكوين .....

(جـ) وضح بالرسم كيفية توصيل ثلاثة أعمدة كهربية (ق.د.ك) لكل منها ٣ فولت للحصول على بطارية (ق.د.ك) الكلية لها ٦ فولت.

٢ (أ) اختر الإجابة الصحيحة مما بين الإجابات المعطاة :

(١) يفرز البنكرياس هرمون ..... الذى يعمل على خفض مستوى السكر فى الدم.

(أ) الجلوكاجون (ب) البروجستيرون

(جـ) الإنسولين (د) الإستروجين

(٢) عند مرور تيار كهربى شدته ٢ أمبير عبر مقطع من موصل فى زمن قدره ٢٠ دقيقة فإن كمية الكهربية تساوى ..... كولوم.

(أ) ١٠ (ب) ٢٤٠٠ (جـ) ٤٠ (د) ٢٠

(٣) فى حالة الانفعال يزداد إفراز هرمون .....

(أ) الأدرينالين. (ب) الثيروكسين.

(جـ) النمو. (د) الباراثرمون.

(٤) أى الأشكال التالية يحقق قانون أوم ؟ .....

(أ) (ب) (جـ) (د)

(ب) اختر من العمود (B) ما يناسبه من العمود (A) :

(A)	(B)
(١) عند إضافة محلول نترات الفضة إلى محلول كلوريد الصوديوم	(١) الوراثية.
(٢) تعلم السباحة من الصفات	(٢) يتكون راسب أحمر.
(٣) عند إضافة الماغنسيوم إلى محلول كبريتات النحاس	(٣) المكتسبة.
(٤) فصيلة الدم من الصفات	(٤) يتكون راسب أبيض.
	(٥) لا يتكون راسب.

(جـ) الشكلان المقابلان يوضحان كأسين بهما كميتين متساويتين من فوق أكسيد الهيدروجين تحتوى إحداهما على قطعة بطاطا، ما اسم الغاز الناتج من تفكك فوق أكسيد الهيدروجين ؟

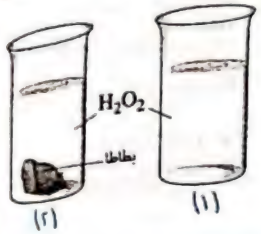

٤ (أ) استخرج الكلمة «أو العبارة» غير المناسبة :

(١) طبيعة المتفاعلات / تركيز النواتج / درجة حرارة التفاعل / العوامل الحفازة.

(٢) $\frac{\text{كولوم}}{\text{ثانية}}$ / أمبير / $\frac{\text{جول}}{\text{كولوم}}$ / $\frac{\text{فولت}}{\text{أوم}}$

(٣) صوديوم / رصاص / نحاس / ألومنيوم «من حيث : النشاط الكيميائى».

(٤) اليورانيوم / السيزيوم / الباريوم / الراديوم.

(ب) صوب ما تحته خط :

(١) يستخدم جهاز الأوميتر لقياس فرق الجهد بالدائرة الكهربية.

(٢) التركيب الجينى لنبات بازلاء أصفر القرون هو Gg

(٣) يعتمد انتقال الشحنة الكهربية بين موصلين على شدة تيار الموصلين.

(٤) عند تزاوج ($\overset{♂}{Bb} \times \overset{♀}{Bb}$)، فإن التركيب الوراثى (BB) يحتمل ظهوره فى الأبناء بنسبة ٥٠٪

(جـ) وضح بالمعادلة الرمزية الموزونة أثر الحرارة على نترات الصوديوم.

٢ أجب عن جميع الأسئلة الآتية :

(أ) أكمل ما يأتى :

(١) من الشكل المقابل :

- قراءة الفولتميتر = ... فولت.
- عند توصيل جميع الأعمدة الكهربية على التوالى فإن قراءة الفولتميتر = ... فولت.

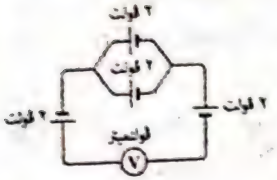

(٢) النبات الذى اختاره مندل لإجراء تجاربه هو .....

(٣) الصفة التى تظهر فى جميع أفراد الجيل الأول فى تجارب مندل تسمى .....

(ب) اكتب المصطلح العلمى الدال على كل عبارة من العبارات الآتية :

(١) الأعضاء المفرزة للهرمونات بجسم الإنسان.

(٢) غدة تقع أسفل المخ وتتكون من فصين كل واحد منهما يفرز مجموعة من الهرمونات المختلفة.

(٣) كسر الروابط الموجودة فى جزيئات المواد المتفاعلة وتكوين روابط جديدة فى جزيئات المواد الناتجة من التفاعل.

(٤) العامل المساعد الذى يقلل من سرعة التفاعل الكيميائى.

(جـ) فى الشكل المقابل، ماذا يحدث لإضاءة المصباح عند تحريك زالق الريوستات من النقطة A إلى النقطة B ؟ مع ذكر السبب.

٣ (أ) أكمل ما يأتى :

(١) المادة التى تمنح الأكسجين أو تنتزع الهيدروجين تُعرف بـ .....

(٢) التغير فى تركيز المواد المتفاعلة والناتجة من التفاعل فى وحدة الزمن يُعرف بـ .....

(٣) يتولد تيار كهربى ..... من الدينامو وهو تيار ..... الشدة والاتجاه.

(ب) ضع علامة (✓) أمام العبارة الصحيحة، وعلامة (✗) أمام العبارة الخطأ :

(١) يحل النحاس محل الذهب فى محلول ملحه، بينما لا يحدث العكس. ( )

(٢) تقل سرعة التفاعل الكيميائى بزيادة درجة الحرارة. ( )

(٣) تعتبر الإلكترونات مخزن للطاقة فى الذرة. ( )

(٤) نخاع العظام هو أول ما يتأثر بالإشعاع النووى. ( )

(جـ) فى الشكل الموضح أمامك إذا كانت قراءة الأميتر ٢ أمبير وقراءة الفولتميتر ٨ فولت.

احسب :

(١) قيمة المقاومة (م).

(٢) كمية الكهربية المارة فى الدائرة خلال دقيقة واحدة.

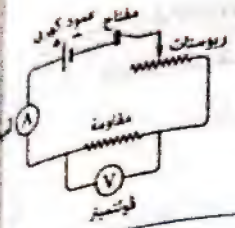

٢ (أ) اختر الإجابة الصحيحة مما بين القوسين :

(١) اكتشفت ظاهرة النشاط الإشعاعى بواسطة العالم .....
(أوم / بيكوريل / أمبير / فولت)

(٢) يمثل ..... تدفق الشحنات الكهربية عبر سلك معدنى.
(المقاومة / فرق الجهد / التيار الكهربى / شدة التيار)

(٣) يقوم هرمون ..... بإطلاق الطاقة اللازمة للجسم من المواد الغذائية.
(الإنسولين / الكالسيتونين / النمو / الثيروكسين)

(٤) الهرمون المسئول عن ظهور الصفات الجنسية الثانوية الذكرية هو .....
(البروجستيرون / التستوستيرون / الإستروجين / الأدرينالين)

(ب) أكمل ما يأتى :

(١) HCl + NaOH ⟶ ..... + ...

(٢) يتفاعل مسحوق كلوريد الصوديوم ..... من تفاعل مكعب كلوريد الصوديوم مساوى له فى الكتلة.

(٣) الصفات ..... تنتقل من جيل إلى جيل.

(٤) الجينات فى أجزاء من DNA موجودة بـ .....

(جـ) إذا علمت أن العنصرين (X)، (Y) عددهما الذرى ١١ و ١٧ على الترتيب، وضح مع ذكر السبب أيهما يعتبر عامل مؤكسد وأيهما يعتبر عامل مختزل عند تكوين مركب منهما.

٣ (أ) صوب ما تحته خط :

(١) معظم كربونات الفلز تنحل بالحرارة إلى الفلز وغاز ثانى أكسيد الكربون.

(٢) فى بداية التفاعل الكيميائى تكون نسبة تركيز المتفاعلات ٥٠٪

(٣) فى العمود الكهربى تتحول الطاقة المغناطيسية إلى طاقة كهربية.

(٤) وحدة قياس الشحنة الكهربية هى جول.

(ب) (١) اكتب المصطلح العلمى الدال على كل عبارة من العبارات الآتية :

١- تيار كهربى ثابت الشدة والاتجاه.

٢- حالة الموصل الكهربية التى توضح انتقال الكهربية منه أو إليه إذا وصل بموصل آخر.

(٢) أكمل الفراغات فى المخطط التالى :

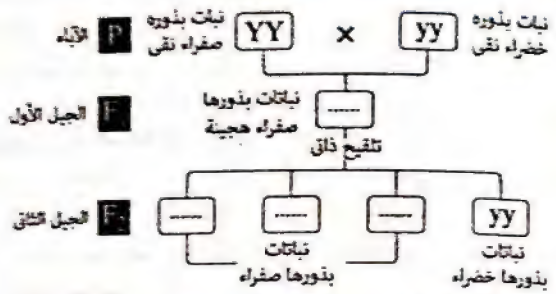

(جـ) وضح بالمعادلات الرمزية الموزونة التفاعلات التالية :

(١) أثر الحرارة على أكسيد الزئبق.

(٢) تفاعل حمض الهيدروكلوريك المخفف مع برادة الحديد.

٢٧ محافظة البحر الأحمر — الفصل الدراسى الثانى

أجب عن جميع الأسئلة الآتية :

١ (أ) أكمل ما يأتى :

(١) 2HgO ⟶ Δ ..... + ...

(٢) تفرز الغدة ..... هرمون الثيروكسين.

(٣) عند توصيل موصلين مشحونين مختلفين فى الجهد الكهربى، فإن التيار الكهربى يسرى من الموصل ..... جهدًا إلى الموصل ..... جهدًا.

(٤) يتركب الكروموسوم كيميائيًا من حمض نووى يسمى DNA مرتبطًا مع .....

(٥) فى تفاعل الأكسدة والاختزال تعمل الفلزات كعوامل ..... بينما تعمل اللافلزات كعوامل .....

(ب) الشكل البياني المقابل يوضح معدل تفكك غاز خامس أكسيد النيتروجين، تبعاً للمعادلة :

$$2N_2O_5 \longrightarrow 4NO_2 + O_2$$

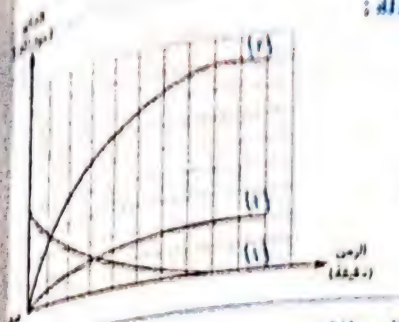

استبدل الأرقام الموضحة على الشكل بالمواد التي تناسبها من المعادلة.

(جـ) موصل مقاومته ٢٢ أوم وكمية الكهربية المتدفقة فيه ٢٠ كولوم خلال ٢ ثانية، احسب فرق الجهد بين طرفي الموصل.

(أ) اختر الإجابة الصحيحة مما بين الإجابات المعطاة :

(١) قام مندل بتغطية ..... أزهار نبات البازلاء حتى لا يحدث تلقيح خلطي.
(أ) أسدية (ب) سبلات (جـ) مياسم (د) بتلات

(٢) عند إضافة محلول نترات الفضة إلى محلول كلوريد الصوديوم يتكون راسب من كلوريد الفضة.
(أ) أحمر (ب) أزرق (جـ) أسود (د) أبيض

(٣) الهرمون المسئول عن ظهور الصفات الجنسية الثانوية في الذكر هو .....
(أ) الإستروجين. (ب) التستوستيرون.
(جـ) الإنسولين. (د) الأدرينالين.

(٤) يستخدم جهاز ..... لقياس المقاومة الكهربية.
(أ) الريوستات (ب) الأميتر (جـ) الأوميتر (د) الفولتميتر

(٥) أجزاء من DNA موجودة في نواة الخلية .....
(أ) الجينات. (ب) السيتوبلازم.
(جـ) الأمشاج. (د) الهرمونات.

(٦) المادة التي تغير من سرعة التفاعل الكيميائي دون أن تتغير تسمى .....
(أ) العامل المؤكسد. (ب) العامل الحفاز.
(جـ) العامل المختزل. (د) العامل النشط.

(ب) قارن بين جهاز الفولتميتر و جهاز الأميتر «من حيث : الرمز - طريقة التوصيل في الدائرة».

(جـ) علل لما يأتي :

(١) اختفاء لون محلول كبريتات النحاس الأزرق عند وضع شريط من الماغنسيوم فيه.
(٢) توصيل بعض الأعمدة الكهربية على التوالي في الدائرة الكهربية.

(أ) اكتب المصطلح العلمي الدال على كل عبارة من العبارات الآتية :

(١) عملية كيميائية ينتج عنها زيادة نسبة الأكسجين في المادة أو نقص نسبة الهيدروجين فيها.
(٢) الصفات القابلة للانتقال من جيل لآخر.
(٣) تفاعل حمض مع قلوي لتكوين ملح وماء.
(٤) كمية فيزيائية وحدة قياسها تكافئ جول/ثانية.
(٥) ترتيب العناصر الفلزية ترتيبًا تنازليًا حسب درجة نشاطها الكيميائي.

(ب) من الشكلين المقابلين :

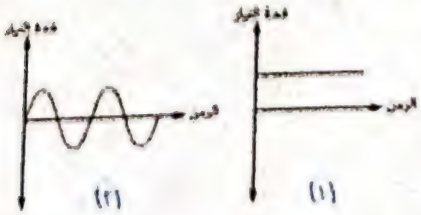

(١) ما نوع التيار الكهربي الذي يمثله كل شكل بياني ؟
(٢) ما مصدر التيار الكهربي في كل منهما ؟

(جـ) ماذا يحدث في الحالات التالية :

(١) وضع قطعة صغيرة جدًا من الصوديوم في الماء (مع كتابة المعادلة الكيميائية الموزونة).
(٢) نقص إفراز هرمون النمو في مرحلة الطفولة.

(أ) صوب ما تحته خط :

(١) المركبات الأيونية تكون تفاعلاتها أبطأ من المركبات التساهمية.
(٢) تنحل معظم كربونات الفلز عند تسخينها إلى الفلز وغاز ثاني أكسيد الكربون.
(٣) تتناسب شدة التيار الكهربي المار في موصل تناسبًا عكسيًا مع فرق الجهد بين طرفيه عند ثبوت درجة الحرارة.
(٤) صفة العيون الواسعة في الإنسان من الصفات المتنحية.
(٥) اكتشفت ظاهرة النشاط الإشعاعي بواسطة العالم واطسون.

(ب) استخدم الرموز (Y) ، (y) في التعبير عن ناتج التزاوج بين نباتي بسلة كلاهما ذات بذور صفراء هجين، موضحًا التركيب الجيني لكل من : الآباء - الأمشاج - نسبة الجيل الناتج.

(جـ) اذكر أهمية واحدة لكل من :

(١) الطاقة النووية في مجال الطب.
(٢) هرمون الإنسولين.

الأضواء

العلوم

نماذج امتحانات

الصف الثالث الإعدادى

الفصل الدراسى الثانى

2021

نموذج الأضواء ١

١ (أ) أكمل العبارات الآتية:

١ - أكسيد الزئبق الأحمر ينحل بالحرارة إلى ..... و ..... .

٢ - تنتج الأعمدة الكهربية تيارًا ..... ، بينما تنتج المولدات الكهربية تيارًا ..... .

٣ - اكتشف العالم هنرى بيكوريل انبعاث أشعة غير منظورة من عنصر ..... .

٤ - يسمى القانون الأول لمندل بقانون ..... .

(ب) اذكر أهمية كل من:

١ - المقاومة المتغيرة (الريوستات).

٢ - الطاقة النووية فى مجال الطب.

٣ - هرمون الثيروكسين.

(جـ) إذا مر تيار كهربى شدته ٢ أمبير فى مقاومة مقدارها ١٠٠ أوم، فاحسب الشغل المبذول لنقل شحنة كهربية مقدارها ١٠ كولوم بين طرفى هذه المقاومة .

٢ (أ) اكتب المصطلح العلمى الدال على العبارات الآتية:

١ - غدد لا قنوية تصب إفرازاتها من الهرمونات فى الدم مباشرة.

٢ - التغير فى تركيز المواد المتفاعلة والمواد الناتجة فى وحدة الزمن.

٣ - حالة الموصل الكهربية التى تبين انتقال الكهربية منه أو إليه إذا ما وصل بموصل آخر.

٤ - عملية التحول التلقائى لأنوية ذرات بعض العناصر المشعة الموجودة فى الطبيعة كمحاولة للوصول إلى تركيب أكثر استقرارًا.

٥ - المادة التى تعطى الأكسجين أو تنتزع الهيدروجين أثناء التفاعل الكيميائى.

(ب) ماذا يحدث عند...؟

١ - فشل الجين فى إنتاج الأنزيم الخاص به.

٢ - تعرض الإنسان لجرعة إشعاعية كبيرة خلال فترة زمنية قصيرة.

٣ - زيادة تركيز المواد المتفاعلة (بالنسبة لسرعة التفاعل).

(جـ) استخدم الرموز فى التعبير عن ناتج تزاوج نباتين من البازلاء كلاهما أحمر الأزهار هجين، موضحًا التركيب الجينى لكل من الآباء والأمشاج والجيل الناتج ونسبة الأفراد الناتجة، علمًا بأنه يرمز للجين السائد بالرمز R والجين المتنحى بالرمز r.

٣ (أ) اختر الإجابة الصحيحة من بين الإجابات المعطاة:

١ - فى بداية التفاعل الكيميائى تكون نسبة تركيز المتفاعلات ..... ٪.

(أ) صفر (ب) ٢٥

(جـ) ٥٠ (د) ١٠٠

٢ - الهرمون المسئول عن ظهور الصفات الجنسية الثانوية الذكرية هو ..... .

(أ) الأنسولين (ب) البروجستيرون

(جـ) التستوستيرون (د) الثيروكسين

٣ - يجب ألا يزيد مقدار ما يتعرض له العاملون فى مجال الإشعاع على ..... مللى سيفرت فى السنة.

(أ) ٥ (ب) ١٥

(جـ) ١٠٠ (د) ٢٠

٤ - تظهر الصفة المتنحية على أحد الأبناء إذا ورث من الأبوين ..... .

(أ) جينين سائدين (ب) جينًا متنحيًا واحدًا

(جـ) جينين متنحيين (د) جينًا سائدًا وآخر متنحيًا

٥- من أمثلة الخلايا الكهروكيميائية ..... .

(أ) الدينامو (ب) العمود الجاف

(جـ) الريوستات (د) الفولتميتر

(ب) وضح بالمعادلات الرمزية الموزونة ما يلى:

١ - إضافة قطعة ماغنسيوم إلى محلول كبريتات النحاس.

٢ - انحلال كربونات النحاس بالحرارة.

٣ - تفاعل هيدروكسيد الصوديوم مع حمض الهيدروكلوريك.

(جـ) ما المقصود بكل من...؟

١ - شدة التيار الكهربى.

٢ - مبدأ السيادة التامة.

٤ (أ) صوب ماتحته خط فى العبارات الآتية:

١ - الأوم هو وحدة قياس الإشعاع الممتص.

٢ - توجد الغدة النخامية أسفل البنكرياس.

٣ - الأكسدة عملية كيميائية تكتسب فيها ذرة العنصر إلكترونًا أو أكثر.

٤ - فى تفاعلات الحفز الموجب يقوم العامل الحفاز بخفض سرعة التفاعل الكيميائى.

٥ - أطلق العلماء على الصفات غير القابلة للانتقال من جيل إلى آخر الصفات الوراثية.

(ب) علل لما يأتى:

١ - تفاعل حمض الهيدروكلوريك مع برادة الحديد أسرع من تفاعله مع قطعة من الحديد مساوية لها فى الكتلة.

٢ - اختيار مندل لنبات البازلاء لإجراء تجاربه.

٣ - يطلق على بعض العناصر اسم العناصر المشعة.

(جـ) فى الشكل المقابل:

١ - احسب القوة الدافعة الكهربية الكلية للبطارية.

٢ - احسب شدة التيار الكهربى المار فى الدائرة.

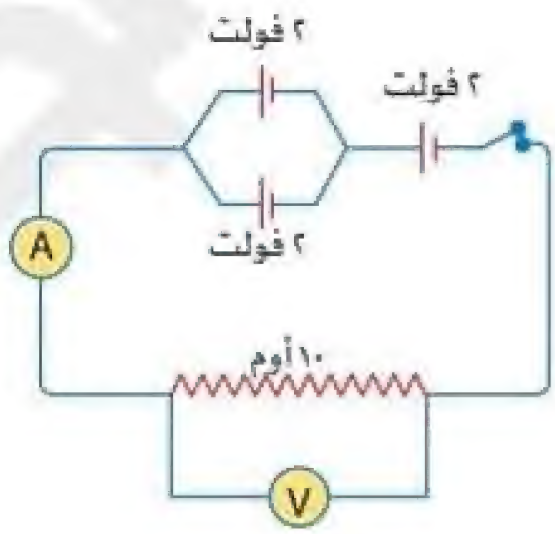

نموذج الأضواء ٢

١ (ا) اختر الإجابة الصحيحة:

١ - كل مما يأتى يؤثر فى سرعة التفاعل الكيميائى ما عدا.....

(ا) تركيز المتفاعلات (ب) طبيعة المتفاعلات

(جـ) طبيعة النواتج (د) درجة حرارة التفاعل

٢ - إذا حدث تلقيح بين فردين كلاهما هجين ونتج عن هذا التلقيح ٢٠٠ فرد فإن عدد الأفراد الهجينة الناتجة يحتمل أن يكون..... فرد.

(ا) ٥٠ (ب) ١٠٠

(جـ) ١٥٠ (د) ٢٠٠

٣ - يحتوى نبات البطاطا على أنزيم الأوكسيديز الذى يزيد من معدل تفكك محلول.....

(ا) كلوريد الهيدروجين (ب) كلوريد الصوديوم

(جـ) فوق أكسيد الهيدروجين (د) كربونات الصوديوم

٤ - عند إضافة محلول نترات الفضة إلى محلول كلوريد الصوديوم يتكون راسب.....

(ا) أسود (ب) أبيض

(جـ) أزرق (د) بنى محمر

٥ - هرمون..... يعمل على ضبط مستوى الكالسيوم فى الدم.

(ا) الكالسيتونين (ب) الثيروكسين

(جـ) الأنسولين (د) النمو

(ب) قارن بين :

١ - التأثيرات البدنية والتأثيرات الخلوية للنشاط الإشعاعى.

٢ - أكسيد الفلز وهيدروكسيد الفلز من حيث أثر الحرارة على كل منهما.

(جـ) احسب شدة التيار الكهربى المار فى الدائرة الكهربية المقابلة، علمًا بأن الشغل المبذول لنقل الشحنة الكهربية ٢٤٠ جول وزمن سريان الشحنة الكهربية ٢ ثانية.

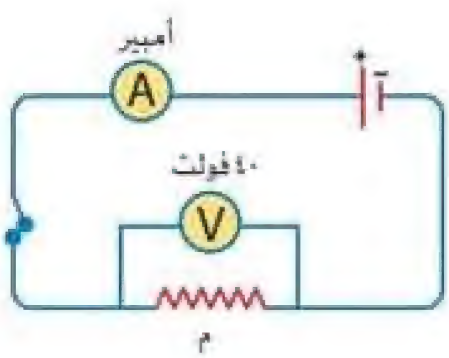

٢ (أ) وضح بالمعادلات الرمزية الموزونة ما يلى:

١ - تفاعل الخارصين مع حمض الهيدروكلوريك المخفف.

٢ - إمرار الهيدروجين على أكسيد النحاس الساخن.

(ب) اكتب المصطلح العلمى الدال على العبارات الآتية:

١ - كسر الروابط الموجودة بين جزيئات المواد المتفاعلة وتكوين روابط جديدة بين جزيئات المواد الناتجة.

٢ - أجزاء من الحمض النووى DNA تحمل الصفات الوراثية للكائن الحى.

٣ - مادة تغير من معدل سرعة التفاعل الكيميائى دون أن تتغير.

٤ - تفاعل الحمض مع القلوى لتكوين الملح والماء.

٥ - زيادة أو نقص إفراز أحد الهرمونات نتيجة عمل الغدة المسئولة عنه بشكل غير طبيعى.

(جـ) اشرح على أسس وراثية صفات الجيل الناتج من التلقيح الذاتى فى نبات بازلاء بذوره صفراء هجين، علمًا بأنه يرمز للجين السائد بالرمز Y وللجين المتنحى بالرمز y مع ذكر نسب الأفراد الناتجة.

٣ (أ) أكمل العبارات الآتية:

١ - يستخدم جهاز ..... لقياس القوة الدافعة الكهربية للبطارية بوحدة ..... .

٢ - يمكن نقل التيار ..... لمسافات قصيرة فقط، بينما يمكن نقل التيار ..... لمسافات قصيرة أو طويلة.

٣ - تمكن العالمان ..... من اكتشاف الكيفية التى يتحكم بها الجين.

٤ - يقوم هرمون ..... بإطلاق الطاقة اللازمة للجسم من المواد الغذائية.

٥ - يتصاعد غاز ..... عند تفاعل الصوديوم مع الماء، بينما يتصاعد غاز ..... عند انحلال كربونات النحاس بالحرارة.

(ب) اذكر الكميات الفيزيائية التى تقاس بالوحدات الآتية:

١ - جول / كولوم.

٢ - فولت / أمبير.

(جـ) علل لما يأتى:

١ - البنكرياس غدة مزدوجة الوظيفة.

٢ - حفظ الأطعمة فى مجمد الثلاجة.

٣ - لا يتفاعل النحاس مع حمض الهيدروكلوريك المخفف.

٤ (ا) ما المقصود بكل من...؟

١ - قانون مندل الثانى.

٢ - متسلسلة النشاط الكيميائى.

٣ - الأوم.

(ب) صوب ما تحته خط فى العبارات الآتية:

١ - تنحل كبريتات النحاس بالحرارة إلى أكسيد النحاس وغاز ثانى أكسيد الكربون.

٢ - نزع مندل بتلات بعض أزهار نبات البازلاء حتى لا يحدث تلقيح ذاتى.

٣ - تفاعل الزيوت مع الصودا الكاوية من التفاعلات السريعة.

٤ - يحمل الفرد النقى جينًا للصفة السائدة وآخر للصفة المتنحية.

٥ - تتناسب شدة التيار الكهربى المار فى موصل طرديًا مع المقاومة عند ثبوت درجة الحرارة.

(جـ) لديك أربعة أعمدة كهربية متماثلة، القوة الدافعة الكهربية لكل عمود ١,٥ فولت، وضح بالرسم كيف يمكن توصيلها للحصول على بطارية القوة الدافعة الكهربية لها ٣ فولت.

(بطريقتين مختلفتين)

نموذج الأضواء ٣

١ (أ) اكتب المفهوم العلمى الذى تشير إليه العبارات الآتية :

١ - علم يبحث فى انتقال الصفات الوراثية من جيل لآخر وذلك بدراسة أوجه التشابه والاختلاف بين الآباء والأبناء.

٢ - كمية الكهربية المنقولة بتيار ثابت شدته ١ أمبير فى الثانية الواحدة.

٣ - التغير فى تركيز المواد المتفاعلة والمواد الناتجة فى وحدة الزمن.

٤ - عملية كيميائية ينتج عنها نقص نسبة الأكسجين فى المادة أو زيادة نسبة الهيدروجين فيها.

٥ - الصفة الوراثية التى تظهر فى جميع أفراد الجيل الأول فى تجارب مندل.

(ب) إذا كان لديك المواد والأدوات الآتية:

(محلول كبريتات نحاس - قطع ماغنسيوم - ملح نترات الصوديوم - أنابيب اختبار - لهب)

وضح بالمعادلات الرمزية الموزونة فقط كيف يمكن الحصول على:

١ - فلز النحاس.

٢ - غاز الأكسجين.

(جـ) ما معنى أن...؟

١ - القوة الدافعة الكهربية لعمود كهربى = ٢ فولت.

٢ - فرق الجهد الكهربى بين طرفى موصل = ٥ فولت.

٢ (أ) تخير الإجابة الصحيحة:

١ - يعرف القانون الثانى لمندل بقانون .....

(أ) التوزيع الحر للعوامل (ب) انعزال العوامل

(جـ) دمج العوامل (د) اختفاء العوامل

٢ - اكتشفت ظاهرة النشاط الإشعاعى بواسطة العالم .....

(أ) مندل (ب) نيوتن

(جـ) هنرى بيكوريل (د) أوم

٣ - عند تفاعل حمض الهيدروكلوريك مع كربونات الصوديوم يتصاعد غاز.....

(أ) يعكر ماء الجير (ب) يشتعل بفرقعة

(جـ) يساعد على الاشتعال (د) لونه بنى محمر

٤ - إذا زادت شدة التيار الكهربى المار فى موصل للضعف فإن قيمة المقاومة الكهربية لهذا الموصل.....

(أ) تقل للنصف (ب) تزداد للضعف

(جـ) لا تتغير (د) تزداد لأربعة أمثالها

٥ - يستخدم جهاز..... لقياس المقاومة الكهربية.

(أ) الأميتر (ب) الريوستات

(جـ) الأوميتر (د) الفولتميتر

(ب) علل لما يأتى:

١ - ظهور لون أسود عند تسخين كبريتات النحاس الزرقاء.

٢ - القدرة على لف اللسان من الصفات السائدة فى الإنسان.

٣ - وضع مقاومة متغيرة (الريوستات المنزلقة) فى بعض الدوائر الكهربية.

(جـ) استنتج على أسس وراثية صفات الأبناء الناتجين عن تزاوج رجل مجعد الشعر (Hh) بامرأة ناعمة الشعر، موضحًا التركيب الجينى والمظهرى لكل منهما.

٣ (أ) ضع علامة (✓) أو (✗) أمام كل عبارة من العبارات التالية:

١ - تنحل بعض نترات الفلزات بالحرارة إلى نيتريت الفلز ويتصاعد غاز الهيدروجين.

٢ - تمكن العالمان بيدل وتاتوم من وضع نموذج لجزىء DNA.

٣ - تعتبر النواة مخزنًا للطاقة فى الذرة.

٤ - زيادة إفراز هرمون الثيروكسين تؤدى إلى الإصابة بمرض التضخم الجحوظى.

(ب) الشكل المقابل يوضح كأسين بهما كميتان متساويتان من محلول فوق أكسيد الهيدروجين وتحتوى إحداهما على قطعة بطاطا، اذكر:

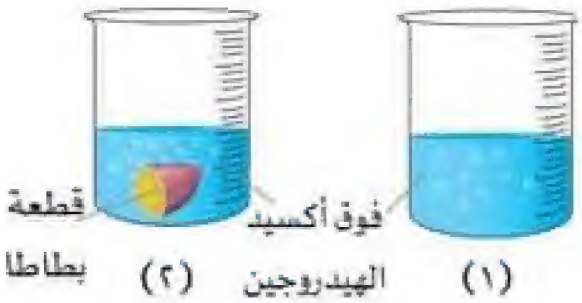

١ - اسم الغاز الناتج من تفكك محلول فوق أكسيد الهيدروجين.

٢ - فى أى الكأسين تتصاعد فقاعات غازية أكثر ؟ ولماذا؟

(جـ) ماذا يحدث عند...؟

١ - زيادة طول سلك الريوستات المنزلق فى دائرة بالنسبة لشدة التيار.

٢ - توصيل ثلاثة أعمدة كهربية متماثلة على التوالى، القوة الدافعة الكهربية لكل منها ٢ فولت

٣ - نقص إفراز هرمون النمو فى مرحلة الطفولة.

٤ (أ) أكمل العبارات الآتية:

١ - تفاعل التعادل هو تفاعل حمض مع قلوى لتكوين ..... و .....

٢ - يفرز هرمون ..... عندما ترتفع نسبة سكر الجلوكوز فى الدم.

٣ - يتولد تيار كهربى من الدينامو نتيجة تحول الطاقة ..... إلى طاقة .....

٤ - لقياس شدة التيار الكهربى يستخدم جهاز ..... والذى يوصل فى الدائرة على .....

٥ - فى بداية التفاعل الكيميائى تكون نسبة تركيز المتفاعلات ..... ٪.

(ب) احسب كمية الكهربية التى تمر خلال موصل مقاومته ١٠٠٠ أوم لمدة ٣٠ دقيقة عندما يكون فرق الجهد بين طرفيه ٢٢٠ فولت.

(جـ) عرف كلًا مما يأتى:

١ - قانون أوم.

٢ - ظاهرة النشاط الإشعاعى.

٣ - العامل المختزل (حسب المفهوم الإلكترونى).

نموذج الأضواء ٤

١ (أ) أكمل العبارات الآتية:

١ - تعتبر صفة القدرة على لف اللسان من الصفات ..... فى الإنسان، بينما صفة وجود النمش من الصفات ..... فى الإنسان.

٢ - فى الخلايا الكهروكيميائية تتحول الطاقة ..... إلى طاقة كهربية وينتج تيار .....

٣ - تفاعل مسحوق كلوريد الصوديوم ..... من تفاعل مكعب منه مساوٍ له فى الكتلة.

٤ - فى الدائرة الكهربية يوصل الأميتر على ..... ، بينما يوصل الفولتميتر على .....

٥ - يفرز ..... هرمون ..... لرفع مستوى سكر الجلوكوز فى الدم.

(ب) عرف كلًا مما يأتى:

١ - الجينات.

٢ - العناصر المشعة.

٣ - تفاعل التعادل.

(جـ) من الشكل المقابل:

١ - ما اسم الغاز المتصاعد من التفاعل؟ وكيف يمكن الكشف عنه؟

٢ - اكتب معادلة التفاعل الحادث فى الأنبوبة، مع ذكر نوع التفاعل.

٢ (أ) اكتب المصطلح العلمى الدال على العبارات الآتية:

١ - الشحنة المنقولة بتيار ثابت شدته ١ أمبير فى الثانية الواحدة.

٢ - الصفة التى تظهر فى جميع أفراد الجيل الأول فى تجارب مندل.

٣ - المادة التى تفقد إلكترونًا أو أكثر أثناء التفاعل.

٤ - مواد كيميائية تضبط وتنظم معظم الأنشطة الحيوية فى جسم الكائن الحى.

٥ - تيار كهربى ثابت الشدة يسرى فى اتجاه واحد فقط فى الدائرة الكهربية.

(ب) قارن بين:

١ - العملقة والقزامة من حيث سبب الحدوث.

٢ - الأكسدة والاختزال من حيث المفهوم التقليدى.

(جـ) احسب كمية الكهربية المارة فى موصل كهربى مقاومته ٢٢٠٠ أوم لمدة دقيقتين عند توصيله بمصدر كهربى جهده ٢٢٠ فولت.

٣ (أ) تخير الإجابة الصحيحة:

١ - تبعًا لمتسلسلة النشاط الكيميائى يعتبر الماغنسيوم أكثر نشاطًا من:

(أ) الصوديوم (ب) الخارصين

(جـ) البوتاسيوم (د) الكالسيوم

٢ - تحتوى الوسادة الهوائية على مادة ..... الصوديوم.

(أ) كبريتات (ب) أكسيد

(جـ) أزيد (د) كربونات

٣ - يكون عاملا الصفة الوراثية متشابهين فى الفرد .....

(أ) النقى (ب) الهجين

(جـ) المتنحى (د) النقى والمتنحى

٤ - يتكون راسب ..... عند إضافة الماغنسيوم إلى محلول كبريتات النحاس.

(أ) أحمر (ب) أبيض

(جـ) أسود (د) أزرق

٥ - يجب ألا يزيد مقدار ما يتعرض له المتعاملون مع المواد المشعة من الإشعاع عن ..... مللى سيفرت فى السنة.

(أ) ٥ (ب) ٢٥

(جـ) ١٥ (د) ٢٠

(ب) وضح بالمعادلات الرمزية الموزونة ما يلى:

١ - تفاعل الألومنيوم مع حمض الهيدروكلوريك المخفف.

٢ - انحلال كبريتات النحاس بالحرارة.

(جـ) وضح على أسس وراثية ناتج تزاوج نباتى بازلاء أحدهما طويل الساق يحمل أزهارًا حمراء اللون نقيًا، والآخر قصير الساق يحمل أزهارًا بيضاء اللون حتى الجيل الأول.

٤ (أ) ماذا يحدث عند...؟

١ - وضع قرصين من الفوارفى كأسين إحداهما به ماء ساخن والأخرى بها ماء بارد.

٢ - تلامس موصلين مشحونين لهما نفس الجهد الكهربى.

٣ - نقص أملاح اليود فى مياه وغذاء الإنسان.

(ب) صوب ما تحته خط فى العبارات الآتية:

١ - نزع مندل بتلات أزهار نبات البازلاء لمنع حدوث التلقيح الذاتى.

٢ - يتفكك غاز خامس أكسيد النيتروجين إلى غاز ثانى أكسيد النيتروجين وغاز النيتروجين.

٣ - القوة الدافعة الكهربية لثلاثة أعمدة متماثلة متصلة معًا على التوازى ضعف القوة الدافعة الكهربية للعمود الواحد.

٤ - يعرف قانون مندل الثانى بقانون انعزال العوامل.

(جـ) فى الدائرة الكهربية المقابلة:

١ - قراءة الفولتميتر = ...

٢ - قراءة الأميتر = ...

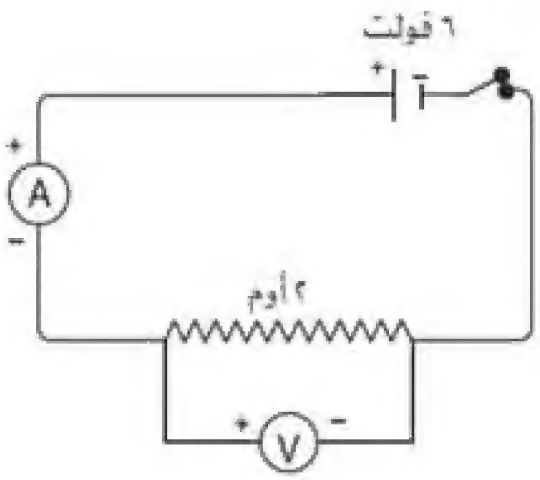

نموذج الأضواء ٥

١ (أ) تخير الإجابة الصحيحة مما بين القوسين:

١ - يقوم هرمون ..... بإطلاق الطاقة اللازمة للجسم من المواد الغذائية.

(النمو - الإستروجين - الثيروكسين - الجلوكاجون)

٢ - يستخدم جهاز ..... للتحكم فى قيمة المقاومة فى الدائرة الكهربية.

(الريوستات - الأميتر - الفولتميتر - الأوميتر)

٣ - تحل الفلزات النشطة محل هيدروجين الماء وينتج ..... ويتصاعد غاز الهيدروجين.

(أكسيد الفلز - هيدروكسيد الفلز - كبريتات الفلز - كربونات الفلز)

٤ - فى تفاعل الهيدروجين مع أكسيد النحاس الساخن يحدث ..... لأكسيد النحاس.

(أكسدة - اختزال - أكسدة واختزال - لا توجد إجابة صحيحة)

٥ - طبقًا للقانون الثانى لمندل فإن الصفات المتنحية تظهر فى الجيل الثانى بنسبة ..... ٪.

(١٠٠ - ٧٥ - ٥٠ - ٢٥)

(ب) اكتب المعادلة الرمزية الموزونة المعبرة عن التفاعلات الآتية:

١ - تفاعل حمض الهيدروكلوريك مع هيدروكسيد الصوديوم.

٢ - انحلال نترات الصوديوم بالحرارة.

٣ - تفاعل الماغنسيوم مع حمض الهيدروكلوريك المخفف.

(جـ) قارن بين التيار الكهربى الذى يمثله كل من الشكلين التاليين من حيث:

(النوع - المصدر)

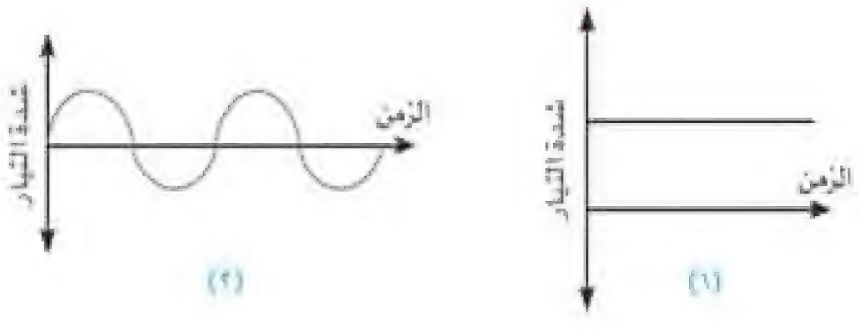

٢ (١) أكمل العبارات الآتية:

١ - يتوقف انتقال الشحنات الكهربية بين موصلين على ..... بينهما.

٢ - فى التفاعل الكيميائى يقل تركيز ..... ، فى حين يزداد تركيز ..... بمرور الزمن.

٣ - اكتشف العالم ..... ظاهرة النشاط الإشعاعى.

٤ - يتكون الحمض النووى DNA من أجزاء صغيرة تسمى ..... والتى تتكون من وحدات بنائية أصغر تسمى ..... .

٥ - تفاعلات ..... يتفكك فيها المركب بالحرارة إلى عناصره الأولية.

(ب) علل لما يأتى:

١ - تسمية الغدد الصماء بالغدد اللافقنوية.

٢ - تفاعلات المركبات الأيونية أسرع من تفاعلات المركبات التساهمية.

(جـ) إذا كان فرق الجهد بين طرفى موصل ٥٠ فولت عند بذل شغل قدره ٢٠٠ جول لنقل كمية من الكهربية بين طرفيه، فاحسب شدة التيار المار خلال مقطع من هذا الموصل فى زمن قدره ٢٥ ثانية.

٣ (ا) اذكر أهمية كل من:

١ - هرمون الأدرينالين.

٢ - الطاقة النووية فى مجال الزراعة.

(ب) وضح على أسس وراثية ناتج تزاوج نباتى بازلاء أحدهما طويل الساق هجين والآخر قصير الساق، علمًا بأنه يرمز لجين طول الساق بالرمز T وجين قصر الساق بالرمز t .

(جـ) فى الشكل المقابل تم إضافة محلول نترات الفضة إلى الأنبوبة رقم (١) والتسخين للأنبوبة رقم (٢):



١ - ما لون الراسب المتكون فى الأنبوبة رقم (١)؟

٢ - ما اسم الغاز المتصاعد فى الأنبوبة رقم (٢)؟

٣ - اكتب المعادلة الرمزية الموزونة المعبرة عن التفاعل فى الأنبوبة رقم (١) ؟

٤ (أ) اكتب المصطلح العلمي الدال على العبارات الآتية:

١ - الخلايا التي يتم بواسطتها انتقال العوامل الوراثية من الآباء إلى الأبناء.

٢ - فرق الجهد الكهربي بين طرفي موصل عند بذل شغل مقداره ١ جول لنقل كمية من الكهربية مقدارها ١ كولوم بين طرفيه.

٣ - ترتيب العناصر الفلزية تنازليًا حسب درجة نشاطها الكيميائي.

٤ - عملية تحول تلقائي لأنوية ذرات بعض العناصر المشعة الموجودة في الطبيعة كمحاولة للوصول إلى تركيب أكثر استقرارًا.

٥ - الفرد الذي يحمل عاملين متماثلين للصفة السائدة أو الصفة المتنحية.

(ب) لديك ثلاثة أعمدة كهربية متماثلة، القوة الدافعة الكهربية لكل عمود = ٢ فولت، وضح بالرسم كيف يمكن توصيلها معًا للحصول على بطارية القوة الدافعة الكهربية لها:

١ - أكبر ما يمكن.

٢ - أقل ما يمكن.

(جـ) اذكر ثلاث طرق يمكن بواسطتها الوقاية من التلوث الإشعاعي.

الأضواء

العلوم

نماذج اجابات

الصف الثالث الإعدادى

الفصل الدراسى الثانى

2021

نموذج الأضواء ١

١ (أ) ١ - الزئبق، الأكسجين ٢ - مستمر، متردد

٣ - اليورانيوم ٤ - انعزال العوامل

(ب) ١ - التحكم فى شدة التيار الكهربى المار فى الدائرة، وبالتالى التحكم فى فرق الجهد الكهربى.

٢ - تشخيص وعلاج بعض الأمراض مثل السرطان.

٣ - إطلاق الطاقة اللازمة للجسم من المواد الغذائية.

(جـ) فرق الجهد الكهربى = المقاومة الكهربية × شدة التيار.

= ١٠٠ × ٢ = ٢٠٠ فولت

الشغل المبذول = فرق الجهد × الكمية الكهربية

= ٢٠٠ × ١٠ = ٢٠٠٠ جول

٢ (أ) ١ - الغدد الصماء ٢ - سرعة التفاعل الكيميائى

٣ - الجهد الكهربى للموصل ٤ - ظاهرة النشاط الإشعاعى

٥ - العامل المؤكسد

(ب) ١ - عدم تكون البروتين ولا تظهر الصفة الوراثية الخاصة به.

٢ - تدمير نخاع العظام، تدمير الجهاز العصبى المركزى، تدمير الطحال والجهاز الهضمى.

٣ - تزداد سرعة التفاعل الكيميائى.

(جـ)

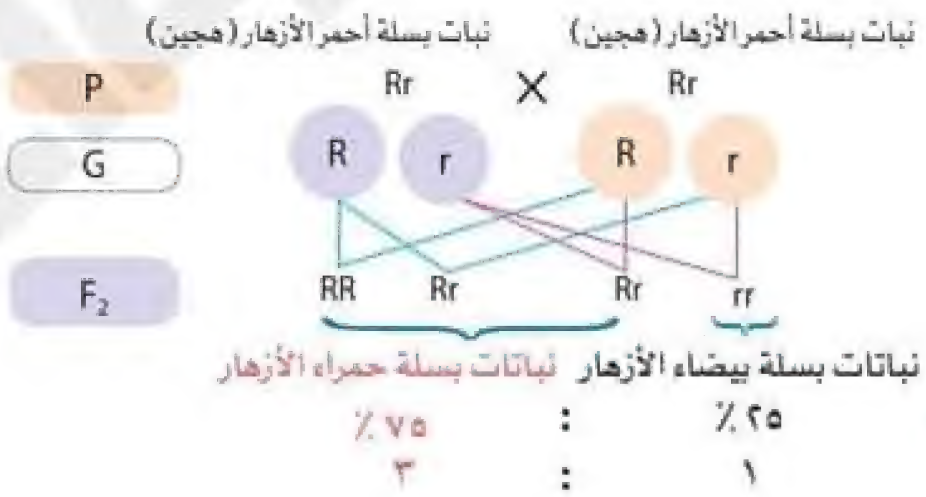

٣ (١) - (د) ٢ - (جـ) ٣ - (د) ٤ - (جـ) ٥ - (ب)

(ب) ١- $Mg + CuSO_4 \longrightarrow MgSO_4 + Cu\downarrow$

٢- $CuCO_3 \xrightarrow{\Delta} CuO + CO_2\uparrow$

٣- $NaOH + HCl \longrightarrow NaCl + H_2O$

(جـ) ١- كمية الكهربية المتدفقة عبر مقطع من موصل فى زمن قدره ١ ثانية.

٢- ظهور الصفة الوراثية السائدة فى أفراد الجيل الأول عند تزاوج فردين نقيين يحمل كل منهما صفة وراثية نقية مضادة للصفة الوراثية التى يحملها الفرد الآخر.

٤ (أ) ١- السيفرت ٢- المخ ٣- الاختزال

٤- الحفز السالب ٥- المكتسبة

(ب) ١- لزيادة مساحة سطح المادة المعرضة للتفاعل وبالتالى يزداد عدد الجزيئات المتفاعلة فتزداد سرعة التفاعل.

٢- لسهولة زراعته وسرعة نموه، قصر دورة حياته، أزهاره خنثى وسهولة تلقيحه صناعيًا بواسطة الإنسان، وجود العديد من الصفات المتقابلة.

٣- لاحتواء نواة ذراتها على عدد من النيوترونات يزيد عن العدد اللازم لاستقرارها، مما يتسبب فى وجود طاقة زائدة تخرج فى صورة إشعاع غير مرئى.

(جـ) ١- ق. د. ك للبطارية = ٢ + ٢ = ٤ فولت

٢- شدة التيار = $\frac{\text{فرق الجهد الكهربى}}{\text{المقاومة الكهربية}}$

= $\frac{٤}{١٠}$ = ٠,٤ أمبير.

نموذج الأضواء ٢

١ (أ) ١ - طبيعة النواتج ٢ - ١٠٠

٣ - فوق أكسيد الهيدروجين ٤ - أبيض

٥ - الكالسيتونين

(ب) ١ -

التأثيرات البدنية	التأثيرات الخلوية
التغيرات التى تطرأ على جسم الكائن الحى مثل سرطان الجلد.	التغيرات التى تحدث فى تركيب الخلايا مثل تغير التركيب الكيميائى لهيموجلوبين الدم.

٢ -

أكسيد الفلز	هيدروكسيد الفلز
ينحل إلى الفلز وغاز الأكسجين	ينحل إلى أكسيد الفلز وبخار الماء

(جـ) الكمية الكهربية = $\frac{\text{الشغل المبذول}}{\text{فرق الجهد}}$

= $\frac{٢٤٠}{٤٠}$ = ٦ كولوم

شدة التيار = $\frac{\text{الكمية الكهربية}}{\text{الزمن بالثوانى}}$

= $\frac{٦}{٢}$ = ٣ أمبير.

٢ (أ) ١- $Zn + 2HCl \xrightarrow{dil} ZnCl_2 + H_2\uparrow$

٢- $H_2 + CuO \xrightarrow{\Delta} H_2O + Cu$

عملية أكسدة

عامل مؤكسد

عامل مختزل

عملية اختزال

(ب) ١ - التفاعل الكيميائى ٢ - الجينات ٣ - العامل الحفاز

٤ - التعادل ٥ - الخلل الهرمونى

(جـ)

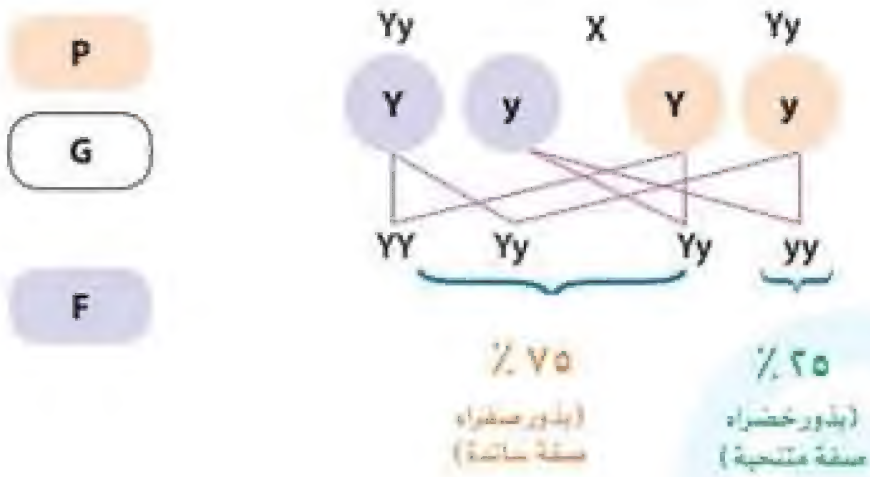

٣ (أ) ١ - الفولتميتر، الفولت ٢ - المستمر، المتردد ٣ - بيدل وتاتوم

٤ - الثيروكسين ٥ - الهيدروجين، ثانى أكسيد الكربون

(ب) ١ - فرق الجهد الكهربى ٢ - المقاومة الكهربية .

(جـ) ١ - لأنه يفرز هرمونى الإنسولين والجلوكاجون ووظيفة كل منهما مضادة لوظيفة الآخر.

٢ - لأن درجة الحرارة المنخفضة داخل الثلاجة تبطئ من سرعة التفاعلات الكيميائية التى تحدثها البكتيريا والتى تسبب تلف الطعام .

٣ - لأن النحاس يلى الهيدروجين فى متسلسلة النشاط الكيميائى.

٤ (أ) ١ - إذا تزاوج فردان نقيان مختلفان فى زوجين أو أكثر من الصفات المتقابلة، تورث صفتا كل زوج منهما مستقلة، وتظهر فى الجيل الثانى بنسبة ٣ (صفة سائدة) : ١ (صفة متنحية)

٢ - ترتيب العناصر الفلزية تنازليًا حسب درجة نشاطها الكيميائى.

٣ - مقاومة موصل يمر به تيار كهربى شدته ١ أمبير عندما يكون فرق الجهد بين طرفيه ١ فولت.

(ب) ١ - ثالث أكسيد الكبريت ٢ - أسدية ٣ - البطيئة نسبيًا

٤ - الهجين ٥ - فرق الجهد الكهربى

(جـ)

الطريقة الأولى

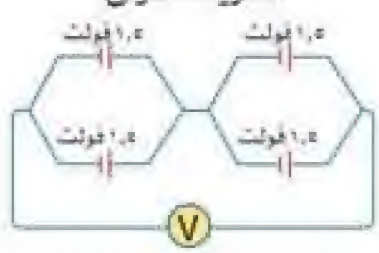

الطريقة الثانية

نموذج الأضواء ٣

١ (أ) ١ - علم الوراثة ٢ - الكولوم ٣ - سرعة التفاعل

٤ - الاختزال ٥ - الصفة السائدة

(ب)

١- $Mg + CuSO_4 \longrightarrow MgSO_4 + Cu\downarrow$

٢- $2NaNO_3 \xrightarrow{\Delta} 2NaNO_2 + O_2\uparrow$

(جـ) ١ - أى أن فرق الجهد الكهربى بين قطبى المصدر الكهربى (العمود الكهربى) عندما تكون الدائرة مفتوحة = ٢ فولت .

٢ - أى أن مقدار الشغل المبذول لنقل كمية كهربية مقدارها ١ كولوم بين طرفى هذا الموصل = ٥ جول .

٢ (أ) ١ - التوزيع الحر للعوامل ٢ - هنرى بيكوريل ٣ - يعكر ماء الجير

٤ - لا تتغير ٥ - الأوميتر

(ب) ١ - لأنها تنحل بالحرارة وينتج راسب أسود من أكسيد النحاس .

٢ - لأن جين القدرة على لف اللسان يسود على جين عدم القدرة على لف اللسان .

٣ - للتحكم فى شدة التيار الكهربى المار فى الدائرة ، وبالتالى التحكم فى فرق الجهد الكهربى .

(جـ)

P رجل مجعد الشعر Hh × hh امرأة ناعمة الشعر

G H h h h

F Hh Hh hh hh

أبناء شعرهم مجعد ٪٥٠ : أبناء شعرهم ناعم ٪٥٠

٣ (أ) ١ - ✗ ٢ - ✗ ٣ - √ ٤ - √

(ب) ١ - غاز الأكسجين

٢ - الكأس (ب) لأن قطعة البطاطا تحتوى على أنزيم الأوكسيديز الذى يقوم بدور العامل الحفاز، ويزيد من سرعة تفكك محلول فوق أكسيد الهيدروجين.

(جـ) ١ - تقل شدة التيار الكهربى المار فى الدائرة.

٢ - تصبح القوة الدافعة الكهربية الكلية للبطارية = ٦ فولت.

٣ - يصاب الشخص بالقزامة.

٤ (أ) ١ - ملح، ماء

٢ - الأنسولين

٣ - الحركية، كهربية

٤ - الأميتر، التوالى

٥ - ١٠٠٪

(ب) شدة التيار = $\frac{\text{فرق الجهد الكهربى}}{\text{المقاومة الكهربية}}$

= $\frac{٢٢٠}{١٠٠٠}$ = ٠,٢٢ أمبير

ك = ت × ز = ٠,٢٢ × ٣٠ × ٦٠ = ٣٩٦ كولوم

(جـ) ١ - تتناسب شدة التيار الكهربى المار فى موصل طرديًا مع فرق الجهد الكهربى بين طرفيه عند ثبوت درجة الحرارة.

٢ - عملية التحول التلقائى لأنوية ذرات بعض العناصر المشعة كمحاولة للوصول إلى تركيب أكثر استقرارًا.

٣ - المادة التى تفقد إلكترونًا أو أكثر أثناء التفاعل.

نموذج الأضواء ٤

١ (أ) ١ - السائدة، المتنحية ٢ - الكيميائية، مستمر ٣ - أسرع

٤ - التوالى، التوازى ٥ - البنكرياس، الجلوكاجون

(ب) ١ - أجزاء من الحمض النووى DNA موجودة على الكروموسومات ومسئولة عن إظهار الصفات الوراثية للكائن الحى.

٢ - العناصر التى تحتوى أنوية ذراتها على عدد من النيوترونات يزيد على العدد اللازم لاستقرارها .

٣ - تفاعل حمض مع قلوى لتكوين ملح وماء.

(جـ) ١ - ثانى أكسيد الكربون، بإمراره على محلول ماء الجير الرائق فيتعكر المحلول.

٢ - نوع التفاعل: إحلال مزدوج.

$$Na_2CO_3 + 2HCl \longrightarrow 2NaCl + H_2O + CO_2\uparrow$$

٢ (أ) ١ - الكولوم ٢ - الصفة السائدة ٣ - العامل المختزل

٤ - الهرمونات ٥ - التيار المستمر

(ب) ١ -

وجه المقارنة	القزامة	العملقة
سبب الحدوث	نقص إفراز هرمون النمو فى مرحلة الطفولة.	زيادة إفراز هرمون النمو فى مرحلة الطفولة.

٢ -

وجه المقارنة	الأكسدة	الاختزال
المفهوم التقليدى	عملية كيميائية ينتج عنها زيادة نسبة الأكسجين فى المادة أو نقص نسبة الهيدروجين فيها .	عملية كيميائية ينتج عنها نقص نسبة الأكسجين فى المادة أو زيادة نسبة الهيدروجين فيها .

(جـ) شدة التيار = $\frac{\text{فرق الجهد الكهربى}}{\text{المقاومة الكهربية}}$

= $\frac{٢٢٠}{٢٢٠٠}$ = ٠,١ أمبير

الكمية الكهربية = شدة التيار × الزمن بالثوانى = ٠,١ × ٢ × ٦٠ = ١٢ كولوم

٣ (أ) ١ - الخارصين ٢ - أزيد ٣ - النقى والمتنحى

٤ - أحمر ٥ - ٢٠

(ب) ١ - $2Al + 6HCl \xrightarrow{dil} 2AlCl_3 + 3H_2\uparrow$

٢ - $CuSO_4 \xrightarrow{\Delta} CuO + SO_3\uparrow$

(جـ)

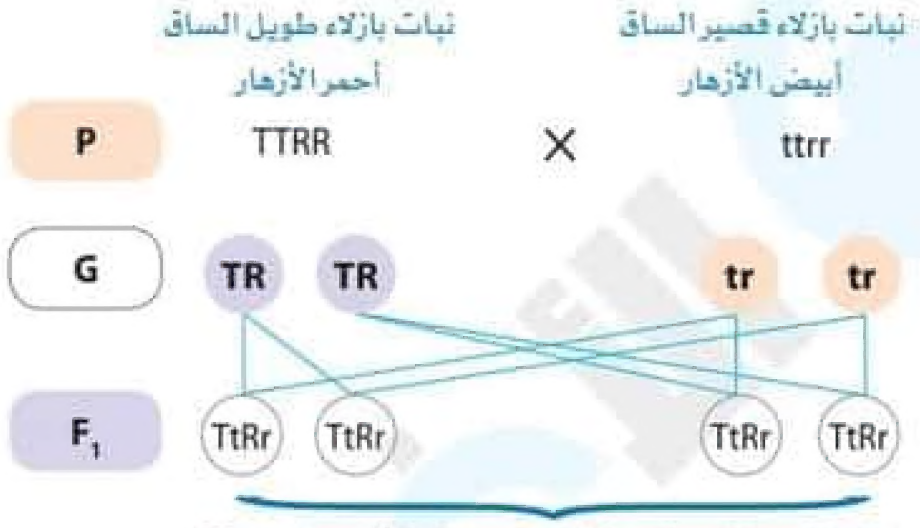

١٠٠٪ نباتات بازلاء طويلة الساق حمراء الأزهار (هجينة)

٤ (أ) ١ - يحدث الفوران أسرع فى كأس الماء الساخن.

٢ - لا يمر التيار الكهربى بينهما.

٣ - يقل إفراز هرمون الثيروكسين من الغدة الدرقية والإصابة بمرض الجويتر البسيط.

(ب) ١ - أسدية ٢ - الأكسجين ٣ - تساوى ٤ - التوزيع الحر للعوامل

(جـ) ١ - ٦ فولت

٢ - شدة التيار = $\frac{\text{فرق الجهد الكهربى}}{\text{المقاومة الكهربية}}$

= $\frac{٦}{٢}$ = ٣ أمبير

نموذج الأضواء ٥

١ (أ) ١ - الثيروكسين ٢ - الريوستات ٣ - هيدروكسيد الفلز

٤ - اختزال ٥ - ٢٥

(ب) ١ - $NaOH + HCl \rightarrow NaCl + H_2O$

٢ - $2NaNO_3 \xrightarrow{\Delta} 2NaNO_2 + O_2\uparrow$

٣ - $Mg + 2HCl \rightarrow MgCl_2 + H_2\uparrow$

(جـ) الشكل (١) تيار مستمر - المصدر: الخلايا الكهروكيميائية

الشكل (٢) تيار متردد - المصدر: المولدات الكهربية (الدينامو)

٢ (أ) ١ - فرق الجهد الكهربى ٢ - المتفاعلات، النواتج

٣ - هنرى بيكوريل ٤ - الجينات، النيوكليوتيدات ٥ - الانحلال الحرارى

(ب) ١ - لأنها تصب إفرازاتها من الهرمونات فى مجرى الدم مباشرة دون المرور فى قنوات.

٢ - لأنها تتفكك تلقائيًا عند ذوبانها فى الماء إلى أيونات، بينما المركبات التساهمية يكون التفاعل بين الجزيئات.

(جـ) الكمية الكهربية = $\frac{\text{الشغل المبذول}}{\text{فرق الجهد}}$

= $\frac{٢٠٠}{٥٠}$ = ٤ كولوم

شدة التيار = $\frac{\text{الكمية الكهربية}}{\text{الزمن بالثوانى}}$

= $\frac{٤}{٢٥}$ = ٠,١٦ أمبير

٣ (أ) ١ - تحفيز أعضاء الجسم للاستجابة فى حالة الطوارئ، مثل: الانفعال أو الخوف الشديد.

٢ - القضاء على الآفات الزراعية وتحسين سلالات بعض النباتات.

(ب)

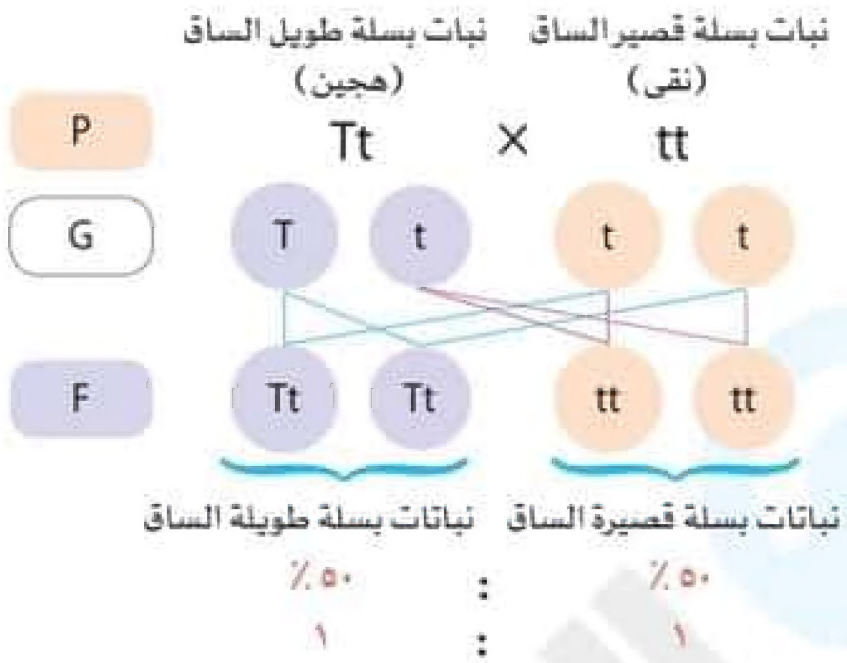

(جـ) ١ - أبيض ٢ - ثالث أكسيد الكبريت

٣ - $NaCl + AgNO_3 \longrightarrow NaNO_3 + AgCl\downarrow$

٤ (ا) ١ - الأمشاج ٢ - الفولت ٣ - متسلسلة النشاط الكيميائى

٤ - ظاهرة النشاط الإشعاعى ٥ - الفرد النقى

(ب)

١- للحصول على بطارية قوتها الدافعة الكهربية أكبر ما يمكن؛ نقوم بتوصيل الأعمدة على التوالى:

∴ ق للبطارية = ق للعمود الواحد × ن

= ٢ × ٣ = ٦ فولت

٢- للحصول على بطارية قوتها الدافعة الكهربية أقل ما يمكن؛ نقوم بتوصيل الأعمدة على التوازى:

∴ ق للبطارية = ق للعمود الواحد = ٢ فولت

(جـ) ١ - ارتداء المتعاملين مع المواد المشعة فى المعامل والمستشفيات القفازات والملابس الواقية من الإشعاع.

٢ - وضع قوانين خاصة تلزم المحطات النووية بتبريد المياه الساخنة قبل إلقائها فى البحار أو البحيرات.

٣ - دفن النفايات المشعة فى أماكن بعيدة عن مجرى المياه الجوفية وفى مناطق مستقرة خالية من الزلازل.